**1.** $\boxed{\phantom{00}}$ 안에 알맞은 수를 넣은 것은 어느 것입니까?

(1) 18273660 는 만이 $\boxed{\phantom{00}}$, 일이 $\boxed{\phantom{00}}$인 수입니다.

(2) 96820261 는 만이 $\boxed{\phantom{00}}$, 일이 $\boxed{\phantom{00}}$인 수입니다.

① (1) 1827, 3660 (2) 9682, 0261

② (1) 1827, 3660 (2) 9682, 261

③ (1) 8273, 3660 (2) 9682, 261

④ (1) 1827, 366 (2) 9682, 261

⑤ (1) 1827, 3660 (2) 968, 261

**2.** 다음 중 가장 큰 수는 어느 것입니까?

① 10 억의 100 배
② 10 만의 10000 배
③ 1 만의 1000000 배
④ 1000 의 100 만 배
⑤ 100 만의 100 만 배

**3.** 뛰어서 세어 빈 칸에 알맞은 수를 차례대로 쓴 것은 어느 것입니까?

| |
|---|
| 325억 4000만 – ☐ – ☐ – 332억 9000만 |

① (1)326억 9000만 (2)330억 4000만

② (1)327억 9000만 (2)330억 4000만

③ (1)327억 9000만 (2)320억 4000만

④ (1)326억 8000만 (2)320억 4000만

⑤ (1)327억 8000만 (2)330억 4000만

**4.** 수의 크기를 비교하여 큰 수부터 차례로 기호를 쓴 것은 어느 것입니까?

| | |
|---|---|
| ㉠ 10984 | ㉡ 827534 |
| ㉢ 11804 | ㉣ 87254 |

① ㉡, ㉣, ㉢, ㉠ ② ㉡, ㉣, ㉠, ㉢ ③ ㉣, ㉡, ㉢, ㉠
④ ㉣, ㉡, ㉠, ㉢ ⑤ ㉢, ㉣, ㉡, ㉠

**5.** 두 수의 크기를 비교하여 ○안에 >, =, <를 바르게 나타낸 것은 어느 것입니까?

| |
|---|
| (1) 억이 143 , 만이 56 ○ 14356000000 |
| (2) 구십이조 사백삼억 ○ 92조 43억 |

① =, >　② <, =　③ <, <　④ >, >　⑤ <, >

**6.** 시계에서 시침과 분침이 이루는 작은 각이 예각인 것은 어느 것입니까?

① 3시 45분 ② 5시 40분 ③ 2시 48분
④ 4시 55분 ⑤ 7시 10분

**7.** 다음 중 몫이 두 자리 수가 되는 것은 어느 것인지 구하시오.

① $563 \div 70$ ② $450 \div 50$ ③ $807 \div 82$

④ $729 \div 68$ ⑤ $967 \div 98$

**8.** 다음 중 몫이 한 자리 수인 것은 어느 것인지 구하시오.

① 423÷ 25 ② 638÷ 51 ③ 339÷ 34
④ 902÷ 47 ⑤ 614÷ 19

**9.** 다음 (　　) 에 바르게 답한 것을 고르면 어느 것입니까?

| |
|---|
| (1) 100 원짜리 동전이 10 개씩 12 묶음 있습니다.<br>모두 얼마입니까? → (　　) 원<br>(2) 100 원짜리 동전이 10 개씩 16 묶음 있습니다.<br>모두 얼마입니까? → (　　) 원 |

① (1) 1200 (2) 16000
② (1) 12000 (2) 1600
③ (1) 12000 (2) 16000
④ (1) 120000 (2) 160000
⑤ (1) 12000 (2) 160000

**10.** 다음 나눗셈 중에서 몫이 두 자리 수인 것은 어느 것인지 구하시오.

① $284 \div 35$ ② $466 \div 52$ ③ $512 \div 63$

④ $649 \div 48$ ⑤ $773 \div 87$

**11.** 가 도형에 대한 설명으로 옳은 것은 어느 것입니까?

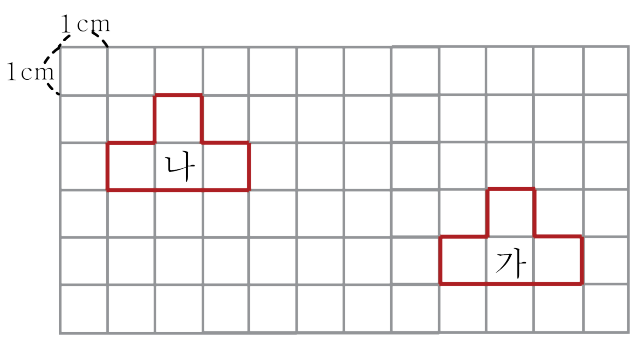


① 나 도형을 오른쪽으로 4 cm 민 도형입니다.

② 나 도형을 아래쪽으로 2 cm 민 도형입니다.

③ 나 도형을 오른쪽으로 4 cm, 아래쪽으로 2 cm 민 도형입니다.

④ 나 도형을 오른쪽으로 7 cm, 아래쪽으로 2 cm 민 도형입니다.

⑤ 나 도형을 왼쪽으로 7 cm, 위쪽으로 4 cm 민 도형입니다.

**12.** 도형을 시계 방향으로 90°만큼 돌리고 왼쪽으로 뒤집었을 때의 도형은 어느 것입니까?

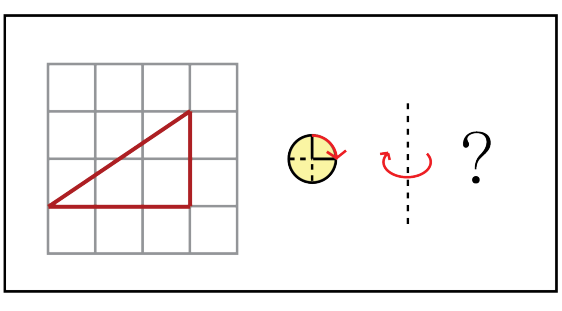


① 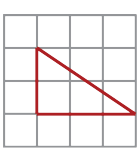

② 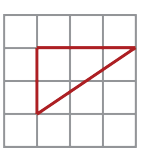

③ 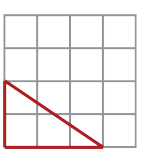

④ 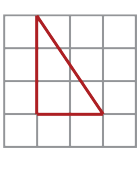

⑤ 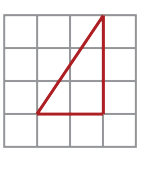

**13.** 도형을 아래쪽으로 4번 뒤집고 시계 반대 방향으로 90°만큼 돌렸을 때의 도형은 어느 것입니까?

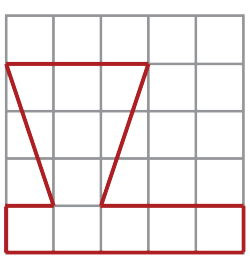

①
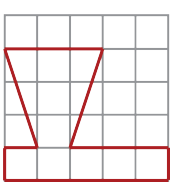

②
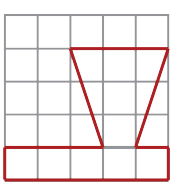

③
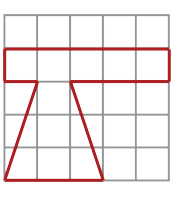

④
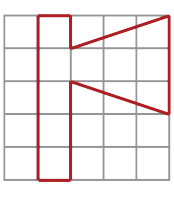

⑤
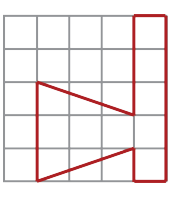

**14.** 다음 무늬 중에서 뒤집기를 한 무늬와 돌리기를 한 무늬가 다른 것은 어느 것인지 고르시오.

①

②

③

④ 

⑤

**15.** 희수네 학교 학생들이 좋아하는 음식을 조사한 표입니다.

<좋아하는 음식별 학생 수>

| 음식 | 떡볶이 | 김밥 | 떡국 | 볶음밥 | 합계 |
|---|---|---|---|---|---|
| 학생 수(명) | 28 | 16 | 8 | 20 | 72 |

눈금 한 칸이 4명을 나타내는 막대그래프를 그린다면 떡볶이를 좋아하는 학생은 몇 칸으로 그려야 합니까?

① 6칸 ② 7칸 ③ 8칸 ④ 9칸 ⑤ 10칸

**16.** 학생들이 좋아하는 과일을 조사하여 표와 막대그래프를 나타낸 것입니다. 빈칸을 잘못 채운 것을 고르면 무엇입니까?

<좋아하는 과일>

| 좋아하는 과일 | 딸기 | 사과 | 귤 | 복숭아 | 계 |
|---|---|---|---|---|---|
| 학생 수(명) | ① | 5 | 10 | 2 | ② |

〈 ③ 〉

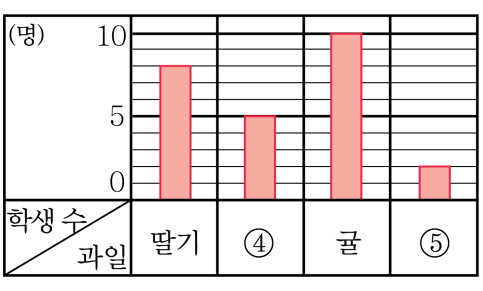


① 8　　② 24　　③ 좋아하는 과일

④ 사과　　⑤ 복숭아

**17.** 다음 곱셈식에 대한 설명으로 옳지 않은 것을 모두 고르시오.

| 순서 | 곱셈식 |
|---|---|
| 첫째 | $12345679 \times 9 = 111111111$ |
| 둘째 | $12345679 \times 18 = 222222222$ |
| 셋째 | $12345679 \times 27 = 333333333$ |
| 넷째 | $12345679 \times 36 = 444444444$ |

① 곱해지는 수는 123456789로 같습니다.

② 곱하는 수는 9의 1배, 2배, 3배, 4배$\cdots\cdots$로 커집니다.

③ 다섯째에 곱하는 수는 45입니다.

④ 다섯째에 알맞은 계산식은 $12345679 \times 45 = 555555555$ 입니다.

⑤ 여섯째에 알맞은 계산식은 $12345679 \times 63 = 666666666$ 입니다.

**18.** 시계의 시침과 분침이 이루는 작은 각이 예각인 것은 어느 것입니까?

① 2 시 30 분 ② 4 시 ③ 9 시 30 분
④ 7 시 ⑤ 7 시 30 분

**19.** 어떤 물건 ㉠을 7 개, ㉡을 6 개 사는 데 모두 86700 원을 썼습니다. ㉠ 물건 5 개와 ㉡ 물건 3 개의 값이 서로 같다면, ㉠, ㉡ 한 개씩의 값은 각각 얼마입니까?

① ㉠ : 5100 원, ㉡ : 8400 원

② ㉠ : 5100 원, ㉡ : 8500 원

③ ㉠ : 5200 원, ㉡ : 8400 원

④ ㉠ : 5200 원, ㉡ : 8500 원

⑤ ㉠ : 5200 원, ㉡ : 8600 원

**20.** 다음 도형을 아래쪽으로 5번 뒤집었을 때의 도형은 어느 것입니까?

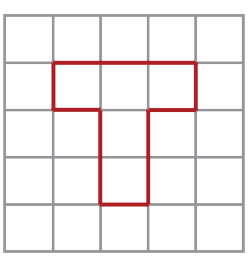

①
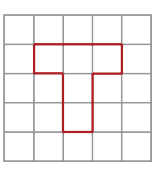

②
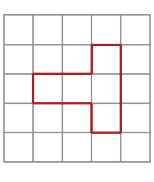

③
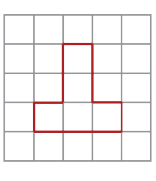

④
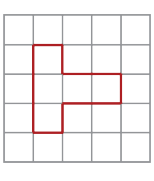

⑤
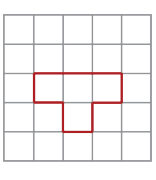

**21.** 도형의 배열에서 다섯째에 알맞은 모양은 어느 것입니까?

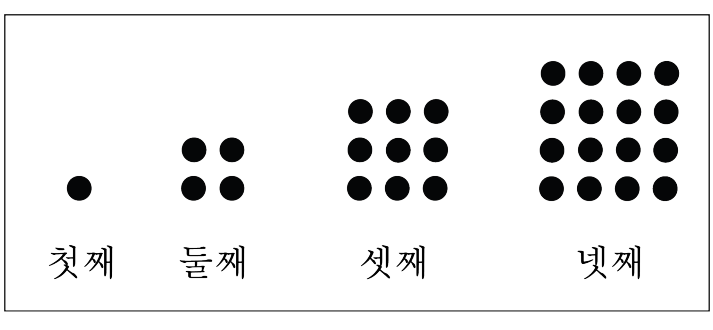


①

②

③

④ 

⑤

**22.** 도형의 배열에 대한 설명 중 옳지 않은 것은 어느 것입니까?

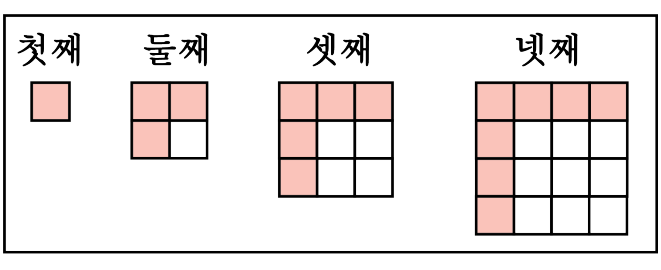


① 둘째 도형의 빨간색 사각형은 3개입니다.

② 넷째 도형의 흰색 사각형은 9개입니다.

③ 빨간색 사각형은 1개에서 시작하여 2개씩 늘어납니다.

④ 흰색 사각형은 1개에서 시작하여 2개, 3개, 4개, …씩 늘어납니다.

⑤ 여덟째 도형의 빨간색 사각형은 15개입니다.

**23.** 다음 중 계산 결과가 $30 \times 500$보다 큰 것을 고르면 무엇입니까?

① $376 \times 36$ ② $50 \times 113$ ③ $721 \times 12$
④ $935 \times 11$ ⑤ $85 \times 179$

**24.** 문구점에 샤프 86자루가 있습니다. 이 샤프를 21자루씩 묶어 진열해 놓는다면 몇 묶음이 되고 몇 자루가 남겠는지 구하여 각각의 수를 더한 값을 구하시오.

① 5 ② 6 ③ 7 ④ 8 ⑤ 9

**25.** 다음 모양을 시계 방향으로 90°돌린 다음, 왼쪽으로 계속해서 두 번 뒤집으면 어떤 모양이 됩니까?

①

②

③

④

⑤