1. $\boxed{}$안에 들어갈 알맞은 수를 바르게 고른 것은 어느 것입니까?

4857262637000 에서 백만 자리의 숫자는 $\boxed{}$이고, $\boxed{}$을 나타냅니다.

① 6, 6000000　② 2, 2000000　③ 6, 600000
④ 2, 200000　⑤ 2, 20000000

2. 어떤 수를 10만씩 5번 뛰어 세었더니 6950782가 되었습니다. 다음 중 어떤 수는 어느 것입니까?

① 6950732 ② 7450782 ③ 6945782
④ 6900782 ⑤ 6450782

3. 다음 중에서 둔각을 모두 고르시오.

①

②

③

④

⑤

4. 다음 중 시침과 분침이 이루는 각이 직각인 것은 어느 것입니까?

① 2 시 ② 3 시 ③ 1 시 15 분
④ 3 시 50 분 ⑤ 6 시 40 분

5. 왼쪽의 모양을 이용하여 무늬를 만들었습니다. 다음 중 이용하지 않은 방법은 어느 것입니까?

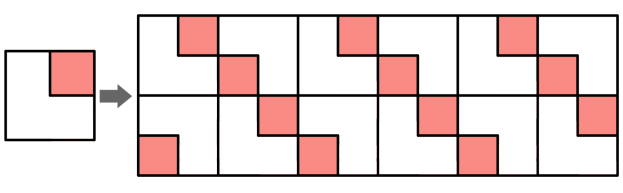

① 밀기 ② 뒤집기 ③ 돌리기

④ 뒤틀기 ⑤ 자르기

6. 다음은 각각의 모양을 같은 규칙으로 움직여서 새로운 무늬를 만든 것입니다. 규칙이 다른 하나는 어느 것인지 고르시오.

① 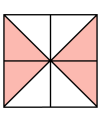

② 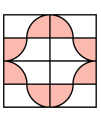

③ 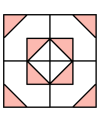

④ 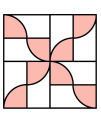

⑤ 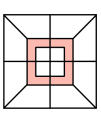

7. 다음 중 밑줄 친 숫자가 나타내는 수가 가장 큰 것은 어느 것입니까?

① 48549　　② 64800　　③ 90213

④ 30000　　⑤ 25084

8. 다음 중 숫자 7이 나타내는 수가 가장 큰 것은 어느 것인지 고르시오.

① 43297 ② 24756 ③ 96871
④ 57841 ⑤ 70123

9. [ ] 안에 알맞은 수를 넣은 것은 어느 것입니까?

(1) 18273660 는 만이 [ ], 일이 [ ] 인 수입니다.

(2) 96820261 는 만이 [ ], 일이 [ ] 인 수입니다.

① (1) 1827, 3660 (2) 9682, 0261

② (1) 1827, 3660 (2) 9682, 261

③ (1) 8273, 3660 (2) 9682, 261

④ (1) 1827, 366 (2) 9682, 261

⑤ (1) 1827, 3660 (2) 968, 261

10. 다음을 숫자로 나타낼 때 각각 0 은 몇 개를 써야 하는지 알맞게 고른 것은 어느 것입니까?

(1) 이천구백삼십조 팔백이만 백칠

(2) 사천구백조 천백사십오만 삼천사

① (1) 10개 (2) 8개
② (1) 9개 (2) 8개
③ (1) 10개 (2) 9개
④ (1) 8개 (2) 9개
⑤ (1) 9개 (2) 9개

11. 뛰어세기를 하여 ☐안에 알맞은 수를 차례대로 쓴 것은 어느 것입니까?

(1) ☐ – 210조 – ☐ – 310조 – ☐
(2) ☐ – 8000억 – 9000억 – ☐ – ☐ – ☐

① (1)150조, 250조, 350조 (2) 7000억, 1조, 1조 1000억, 1조 2000억
② (1)160조, 260조, 360조 (2) 7000억, 1조, 1조 1000억, 1조 2000억
③ (1)160조, 260조, 360조 (2) 7000억, 1조, 1조 2000억, 1조 4000억
④ (1)170조, 270조, 370조 (2) 7000억, 1조, 1조 1000억, 1조 2000억
⑤ (1)160조, 260조, 360조 (2) 7000억, 1조, 1조 2000억, 1조 4000억

12. 두 수의 크기를 비교하여 ○안에 >, =, <를 바르게 나타낸 것은 어느 것입니까?

(1) 억이 143 , 만이 56 ○ 14356000000
(2) 구십이조 사백삼억 ○ 92조 43억

① =, >　② <, =　③ <, <　④ >, >　⑤ <, >

13. 계산결과가 바르게 짝지어진 것은 어느 것인지 고르시오.

① 273×36 •	• ㉠ 11430
② 187×54 •	• ㉡ 10098
③ 635×18 •	• ㉢ 9828

① ①-㉠, ②-㉡, ③-㉢
② ①-㉠, ②-㉢, ③-㉡
③ ①-㉡, ②-㉠, ③-㉢
④ ①-㉢, ②-㉠, ③-㉡
⑤ ①-㉢, ②-㉡, ③-㉠

14. 다음 중 나눗셈의 몫이 가장 작은 것은 어느 것입니까?

① $100 \div 50$ ② $80 \div 20$ ③ $640 \div 80$
④ $240 \div 40$ ⑤ $350 \div 70$

15. 다음 무늬를 움직여서 처음 무늬와 같도록 만들려고 합니다. 움직이는 방법으로 알맞은 것을 모두 고르시오.(답 3개)

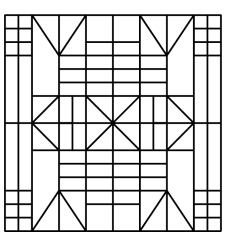

① 위로 뒤집기 ② 왼쪽으로 뒤집기

③ 180°로 돌리기 ④ 90°로 돌리기

⑤ 밀기

16. 칠봉이네 학교의 4학년 학예회에 참여한 남학생과 여학생의 수를 반별로 조사하여 나타낸 막대그래프입니다. 학예회에 참여한 남학생과 여학생의 수가 같은 반은 어느 반 입니까?

〈학예회에 참여한 남학생과 여학생의 수〉

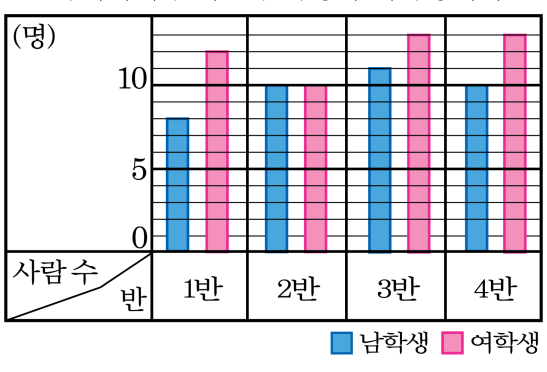

① 1반 ② 2반 ③ 3반 ④ 4반 ⑤ 없다.

17. 다음 중 8이 나타내는 수가 가장 큰 것은 어느 것인가?

① 8945억
② 4120조 8백억 4950만
③ 8675369000
④ 38723104750000
⑤ 3217895416000000

18. 시계의 시침과 분침이 이루는 작은 각이 둔각인 것을 모두 고르시오.

① 2 시 ② 5 시 ③ 8 시 ④ 9 시 ⑤ 11 시

19. 몫이 큰 것부터 차례로 기호를 쓴 것은 어느 것입니까?

㉠ $180 \div 30$	㉡ $250 \div 50$
㉢ $320 \div 80$	㉣ $720 \div 80$

① ㉠, ㉣, ㉢, ㉡　② ㉡, ㉢, ㉠, ㉣　③ ㉢, ㉠, ㉡, ㉣
④ ㉣, ㉢, ㉠, ㉡　⑤ ㉣, ㉠, ㉡, ㉢

20. 빵 87개를 한 상자에 34개씩 담으면 몇 상자에 담을 수 있고 남은 빵은 몇 개가 되는지 차례대로 구한 것은 어느 것입니까?

① 3상자, 19개 ② 2상자, 19개 ③ 4상자, 18개
④ 2상자, 18개 ⑤ 3상자, 18개

21. 다음 중 나눗셈의 나머지가 가장 큰 것은 어느 것인지 고르시오.

① $612 \div 24$ ② $648 \div 18$ ③ $742 \div 31$

④ $691 \div 23$ ⑤ $539 \div 15$

22. 다음 수 중에서 9로 나누어 떨어지는 수는 어느 것입니까?

① 1529 ② 5049 ③ 916 ④ 754 ⑤ 854

23. 다음 수 배열표의 색칠된 칸의 규칙으로 알맞은 것은 어느 것입니까?

112	114	116	118
312	314	316	318
612	614	616	618
1012	1014	1016	1018

① 2씩 커집니다.

② 10씩 커집니다.

③ 100씩 커집니다.

④ 100, 200, 300, $\cdots$ 씩 커집니다.

⑤ 200, 300, 400, $\cdots$ 씩 커집니다.

24. 어느 공장에서는 다음과 같이 물건을 넣어 선물 세트 한 상자를 만듭니다.

참치 100캔, 햄 200캔이 있다면, 모든 물건의 수가 맞게 들어간 선물 세트는 몇 상자까지 만들 수 있는가?

① 32상자 ② 33상자 ③ 34상자
④ 35상자 ⑤ 36상자

25. 감 620 개를 한 상자에 50 개씩 담으려고 합니다. 감 상자는 몇 개가 필요하고 몇 개가 남습니까?

① 12 상자, 30 개 ② 12 상자, 20 개 ③ 13 상자, 30 개
④ 13 상자, 20 개 ⑤ 12 상자, 40 개

26. 도형을 오른쪽으로 뒤집은 다음 다시 아래쪽으로 뒤집었을 때의 모양은 어느 것입니까?

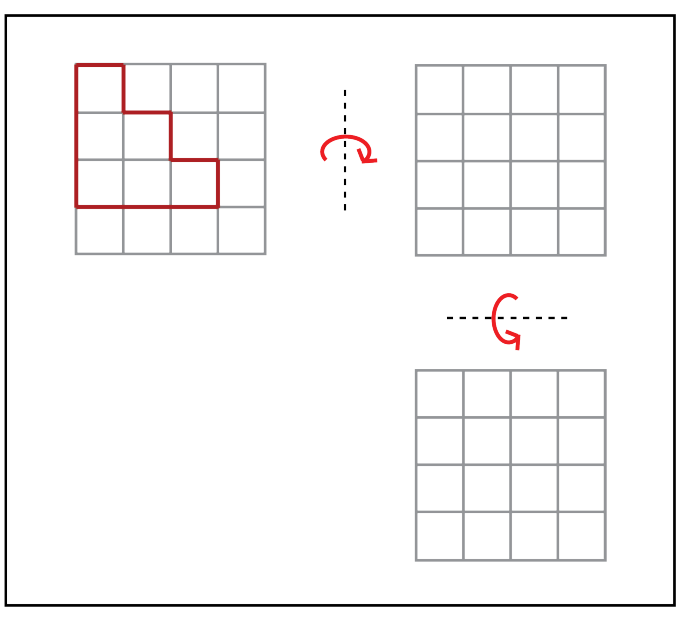

① 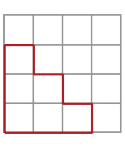

② 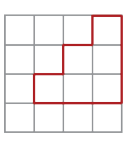

③ 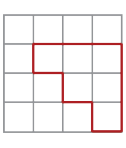

④ 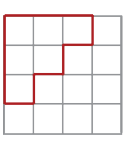

⑤ 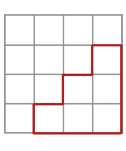

27. 다음 중 도형을 뒤집었을 때의 모양이 나머지와 다른 하나는 어느 것입니까?

① 오른쪽으로 4번 뒤집기

② 왼쪽으로 3번 뒤집기

③ 위쪽으로 2번 뒤집기

④ 아래쪽으로 6번 뒤집기

⑤ 오른쪽으로 1번, 왼쪽으로 1번 뒤집기

28. 다음 무늬 중에서 돌리기를 할 때와 뒤집기를 할 때, 원래의 모양과 같은 모양이 되지 않는 무늬는 어느 것인지 모두 골라라.

29. 마을별로 기르는 돼지 수를 조사하여 나타낸 표와 막대그래프입니다.

<마을별 돼지 수>

마을	평화	양지	무지개	풀잎	초원	계
돼지 수(마리)	18	36	24	20	32	130

〈마을별 돼지 수〉

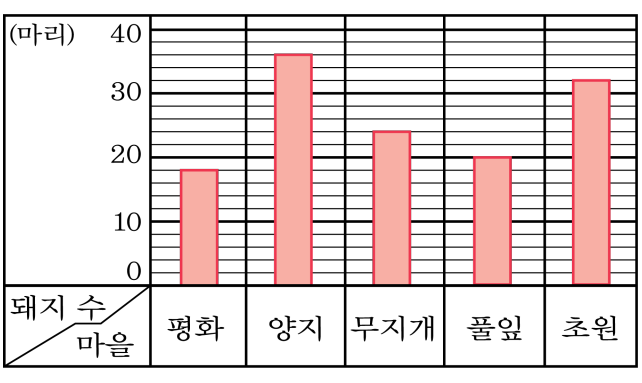

다음 중 설명이 틀린 것은 어느 것입니까?

① 양지마을에서 기르는 돼지 수가 가장 많습니다.

② 풀잎마을에서 기르는 돼지 수는 초원마을에서 기르는 돼지수보다 12마리 적습니다.

③ 막대그래프의 세로 눈금 1칸은 1마리를 나타냅니다.

④ 수의 많고 적음을 비교하기 쉬운 것은 표 보다는 막대그래프입니다.

⑤ 막대그래프의 가로는 마을을, 세로는 돼지수를 나타냅니다.

30. 곱셈식에서 규칙에 따라 계산한 값이 8888888811111111 이 되는 것은 언제입니까?

순서	곱셈식
첫째	$89 \times 99 = 8811$
둘째	$889 \times 999 = 888111$
셋째	$8889 \times 9999 = 88881111$
넷째	$888889 \times 99999 = 8888811111$

① 다섯째 ② 여섯째 ③ 일곱째
④ 여덟째 ⑤ 아홉째