1. 다음 그림을 이용하여 $\tan x$ 의 값을 구하여라.

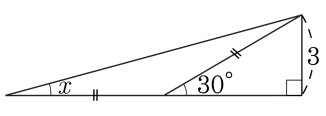

① $\frac{2-\sqrt{3}}{2}$ ② $\frac{3-\sqrt{3}}{2}$ ③ $2-\sqrt{3}$
④ $\frac{2(1-2\sqrt{3})}{3}$ ⑤ $\frac{3(1-\sqrt{3})}{3}$

2. $\tan \mathrm{A} = 0.5$ 일 때, $\sin \mathrm{A} + \cos \mathrm{A}$ 의 값은?(단, $0° < A < 90°$)

① $\frac{\sqrt{5}}{5}$ ② $\frac{2\sqrt{5}}{5}$ ③ $\frac{3\sqrt{5}}{5}$ ④ $\frac{4\sqrt{5}}{5}$ ⑤ $\sqrt{5}$

3. 다음 그림과 같이 $3x-2y+1=0$ 의 그래프와 x 축의 양의 방향이 이루는 각의 크기를 a 라 하자. 이 때, $\tan a$ 의 값을 구하면?

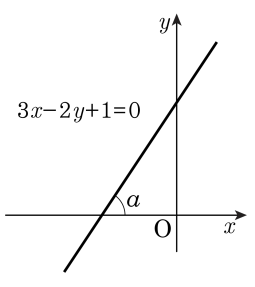

① $-\frac{3}{2}$ ② $-\frac{2}{3}$ ③ -1
④ $\frac{2}{3}$ ⑤ $\frac{3}{2}$

4. 다음 그림과 같이 반지름의 길이가 1 인 사분원에 대하여 $\angle\mathrm{DAB} = x$, $\angle\mathrm{ADB} = y$, $\angle\mathrm{DEC} = z$ 라 할 때, 다음 중 옳지 <u>않은</u> 것은?

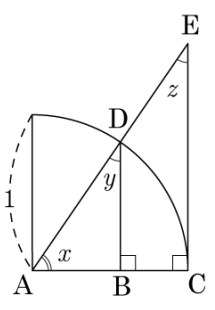

① $\sin y = \sin z$　　② $\cos y = \cos z$

③ $\tan x = \tan z$　　④ $\cos z = \overline{\mathrm{BD}}$

⑤ $\tan x = \overline{\mathrm{CE}}$

5. $\sin 90^\circ + \cos 0^\circ - \tan 0^\circ = A$, $\sin 0^\circ + \tan 0^\circ + \cos 90^\circ = B$ 라 할 때, AB 의 값은?

① -2 ② -1 ③ 0 ④ 1 ⑤ 2

6. 다음 표를 이용해서 a 의 길이를 구하여라.

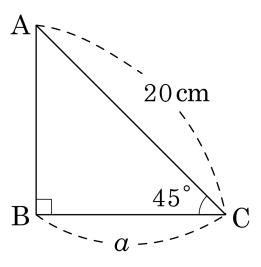

〈삼각비의 표〉

x	$\sin x$	$\cos x$	$\tan x$
43°	0.6820	0.7314	0.9325
44°	0.6947	0.7193	0.9657
45°	0.7071	0.7071	1.0000
46°	0.7193	0.6947	1.0355
47°	0.7314	0.6821	1.0724

답: _____

7. 다음 그림과 같은 △ABC 의 넓이를 구하면?

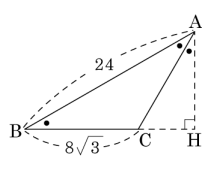

① $48\sqrt{6}$ ② $48\sqrt{5}$ ③ $48\sqrt{3}$ ④ $48\sqrt{2}$ ⑤ 48

8. 다음 그림과 같이 반지름의 길이가 8cm 인 원에 내접하는 정팔각형의 넓이를 구하여라.

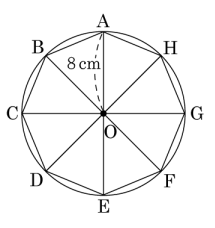

답: _____ cm^2

9. 다음 보기 중 $\tan x$와 같은 값을 갖는 것을 보기에서 모두 골라라.

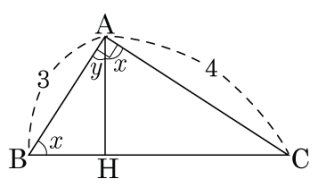

보기

㉠ $\frac{\overline{CH}}{\overline{AH}}$ ㉡ $\frac{4}{3}$ ㉢ $\frac{\overline{AH}}{\overline{BH}}$ ㉣ $\frac{\overline{AH}}{\overline{CH}}$ ㉤ $\frac{4}{5}$

㉥ $\frac{\overline{AH}}{\overline{BC}}$

답: _____

답: _____

답: _____

10. 다음 그림과 같이 반지름의 길이가 $\frac{13}{2}$ cm 인 원에 내접하는 삼각형 ABC 에서 $\cos A \times \tan A$ 의 값이 $\frac{a}{b}$ 이다. $a+b$ 의 값을 구하여라. (단, a, b 는 서로소)

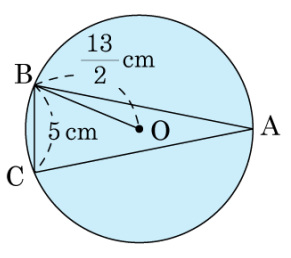

답: _____

11. $x = 45°$일 때, $\sin x$, $\cos x$, $\tan x$의 대소를 비교하여라.

답: _____

12. $\triangle ABC$ 에서 A 가 예각일 때, $2\cos^2 A - 5\cos A + 2 = 0$ 을 만족할 때, A 의 값을 구하고, $4\tan^2 A - \sqrt{3}\tan A + 8$ 의 값을 각각 구하여라.

답: _____ °

답: _____

13. 다음 그림에서 $\overline{AC} = 5\text{cm}$ 이고 $\sin B = \frac{4}{5}$, $\sin C = \frac{3}{5}$ 일 때, $\overline{BC}$ 의 길이는?

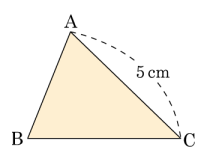

① $\frac{21}{4}\text{cm}$ ② $\frac{23}{4}\text{cm}$ ③ $\frac{25}{4}\text{cm}$
④ $\frac{27}{4}\text{cm}$ ⑤ $\frac{31}{4}\text{cm}$

14. 다음 그림과 같은 삼각형 ABC 에서 $\overline{AC} = 6\,\text{cm}$, $\overline{AB} = 9\,\text{cm}$, $\angle A = 60°$ 일 때, 삼각형 CHB 의 둘레의 길이를 구하면?

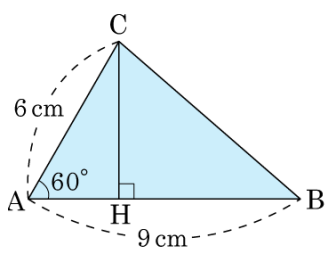

① $(\sqrt{3} + \sqrt{6})\,\text{cm}$

② $(2\sqrt{3} + \sqrt{7})\,\text{cm}$

③ $(3\sqrt{3} + 3\sqrt{7} + 6)\,\text{cm}$

④ $(2\sqrt{3} + 3\sqrt{7})\,\text{cm}$

⑤ $(3\sqrt{3} + 3\sqrt{7})\,\text{cm}$

15. 다음 △ABC 에서 높이 h 를 구하여라.

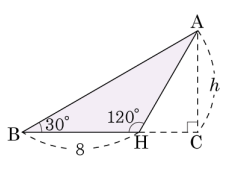

답: _____

16. 다음 그림과 같이 합동인 두 직각삼각형의 빗변을 겹쳐 놓았을 때, 겹쳐진 부분의 넓이를 구하여라.

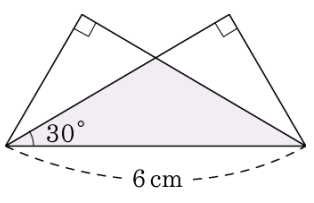

답: _____ cm^2

17. 다음 그림과 같은 도형의 넓이를 구하면?

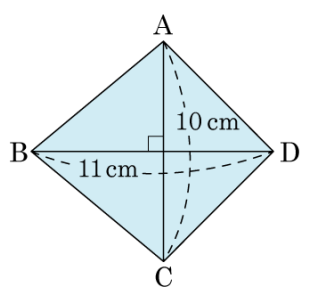

① $36\,\mathrm{cm}^2$ ② $48\,\mathrm{cm}^2$ ③ $55\,\mathrm{cm}^2$
④ $72\,\mathrm{cm}^2$ ⑤ $108\,\mathrm{cm}^2$

18. 다음 그림의 직각삼각형에 대하여 옳은 것은?

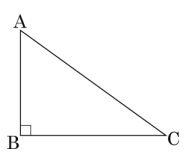

① $\cos A = \cos C$ ② $\tan C = \dfrac{1}{\tan C}$ ③ $\tan C = \dfrac{1}{\tan A}$
④ $\sin A = \cos A$ ⑤ $\cos C = \dfrac{1}{\cos A}$

19. 다음과 같은 직각삼각형에서 $\tan C \sin C$ 의 값으로 바르게 구한 것은?

① $\frac{63}{255}$ ② $\frac{64}{255}$ ③ $\frac{66}{255}$
④ $\frac{67}{255}$ ⑤ $\frac{68}{255}$

20. 다음 그림과 같이 언덕 위에 국기 게양대가 서 있다. A 지점에서 국기 게양대의 꼭대기 C 를 올려다 본 각이 $60°$ 이고, A 지점에서 국기 게양대 방향으로 12 m 걸어간 B 지점에서부터 오르막이 시작된다. 오르막 $\overline{BD}$ 의 길이가 $4\sqrt{3}$ m 이고 오르막의 경사가 $30°$ 일 때, 국기 게양대의 높이 $\overline{CD}$ 는?

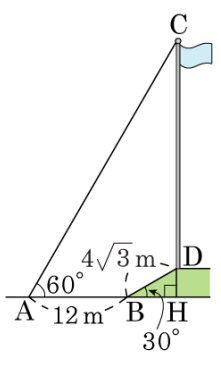

① $6\sqrt{3}$ (m)　② $16\sqrt{3}$ (m)

③ $20\sqrt{3}$ (m)　④ $68\sqrt{3}$ (m)

⑤ $70\sqrt{3}$ (m)

21. 다음 삼각비의 표를 보고 $\sin 49° + \tan 30° - \cos 48°$ 의 값을 구하여라.

각도	사인(sin)	코사인(cos)	탄젠트(tan)
30°	0.6293	0.7771	0.8098
40°	0.6428	0.7660	0.8391
41°	0.6561	0.7547	0.8693
42°	0.6691	0.7431	0.9004

답: _____

22. 다음 그림과 같은 $\triangle ABC$ 에서 한 변의 길이를 25 % 줄이고 다른 한 변의 길이는 늘여서 새로운 삼각형 $A'BC'$ 를 만들었더니 그 넓이는 줄고 $\triangle AA'D$ 와 $\triangle CC'D$ 의 넓이의 차가 $\triangle ABC$ 의 넓이의 $\frac{1}{10}$ 이었다. 늘인 한 변은 몇 % 늘였는지 구하여라.

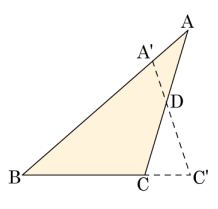

답: _____ %

23. $\angle B = 60°$, $\angle C = 45°$, $\overline{BC} = 4$ 인 삼각형 ABC 의 넓이를 구하여라.

답: _____

24. 산의 높이 $\overline{CH}$ 를 구하기 위하여 산 아래쪽의 수평면 위에 $\overline{AB} = 200\text{m}$ 가 되도록 두 점 A, B 를 잡고 측량하였더니 다음 그림과 같았다. 이 때, 산의 높이 $\overline{CH}$ 의 길이는?

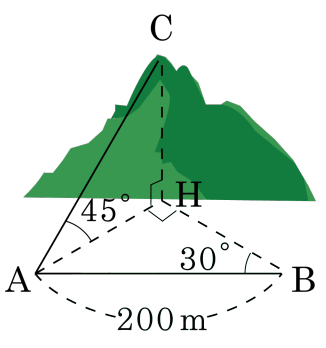

① $50\sqrt{2}\text{m}$ ② 100m ③ 150m

④ $150\sqrt{2}\text{m}$ ⑤ 200m

25. 다음 그림의 삼각형 ABC 에서 $\angle B = 30°$, $\angle C = 45°$, $\overline{AB} = 8\,\text{cm}$ 일 때, $\overline{AC}$ 의 길이를 구하여라.

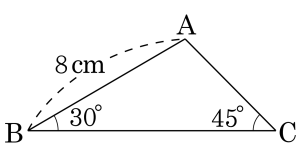

답: _____ cm