1. 평행사변형 ABCD 에서 $\angle BAD = 110°$ 이다. 점 A 에서 $\angle D$ 의 이등분선에 내린 수선의 발을 E 라 할 때, $\angle BAE$ 의 크기를 구하여라.

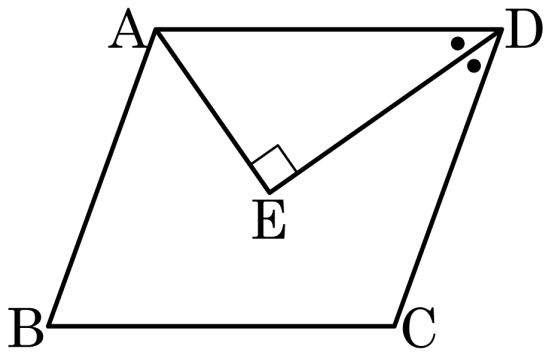

답: _____ °

2. 다음 평행사변형ABCD 에서 $\overline{AP}$, $\overline{CQ}$는 각각 $\angle A, \angle C$ 의 이등분선이고 $\angle ABP = 62°$ 일 때, $\angle APC$ 의 크기는?

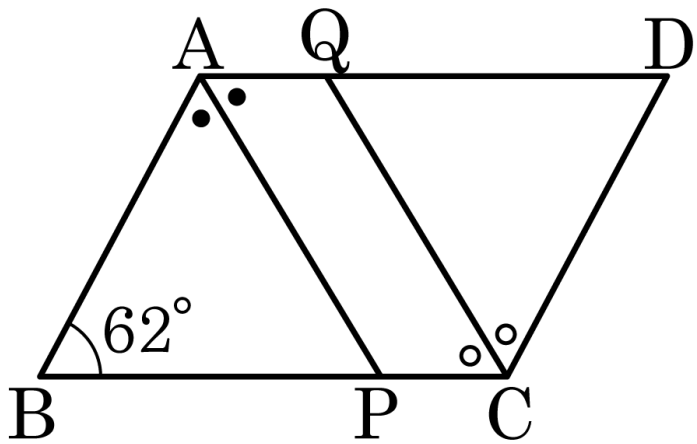

① $62°$ ② $59°$ ③ $118°$ ④ $121°$ ⑤ $124°$

3. 다음 그림의 평행사변형 $\square ABCD$ 에서 $\overline{DP} : \overline{PC} = 3 : 8$ 이고 $\triangle APC = 90°$ 라고 한다. $\overline{OQ} = \overline{QC}$ 일 때, $\triangle OQP$ 의 넓이는 $\square ABCD$ 의 넓이의 몇 배인가?

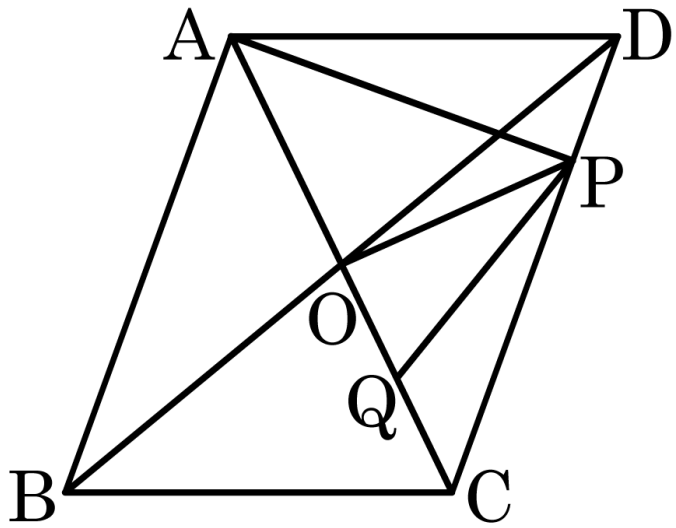

① $\frac{1}{11}$ 배 ② $\frac{1}{12}$ 배 ③ $\frac{1}{13}$ 배

④ $\frac{1}{14}$ 배 ⑤ $\frac{1}{15}$ 배

4. 다음 직사각형 ABCD 의 x, y 의 값을 차례로 나열한 것은?

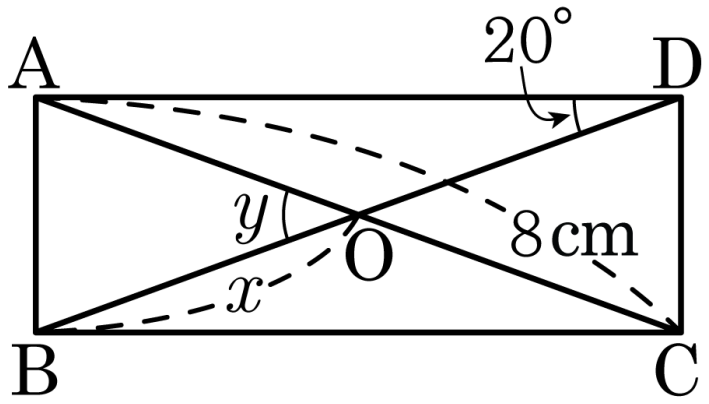

① 2cm, 30° ② 3cm, 30° ③ 3cm, 40°

④ 4cm, 30° ⑤ 4cm, 40°

5. 다음 그림과 같은 평행사변형 ABCD 에 다음 조건을 추가할 때, 직사각형이 되지 <u>않는</u> 것은?

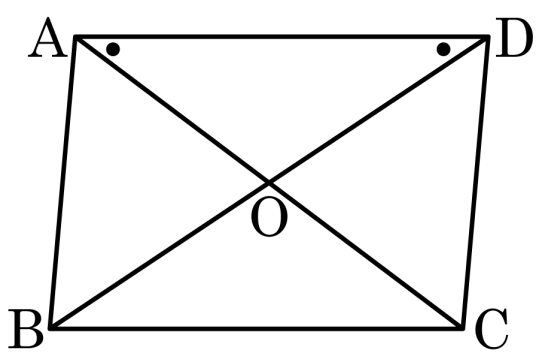

① $\angle A = \angle B$

② $\overline{AC} = \overline{BD}$

③ $\overline{AO} = \overline{DO}$

④ $\overline{AC} \perp \overline{BD}$

⑤ $\angle DAO = \angle ADO$

6. 다음 그림과 같은 마름모 ABCD에서 $\overline{AE} \perp \overline{BC}$이고 $\angle C = 124°$일 때, $\angle x$의 크기를 구하여라.

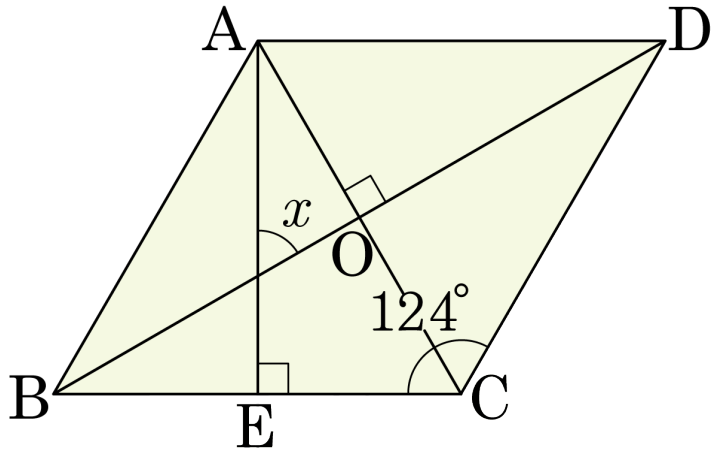

답: _____ °

7. 등변 사다리꼴 ABCD 에서 $\overline{AB} = \overline{AD}$ 이고, $\overline{BC} = 2\overline{AD}$ 일 때, $\angle C$ 를 구하시오.

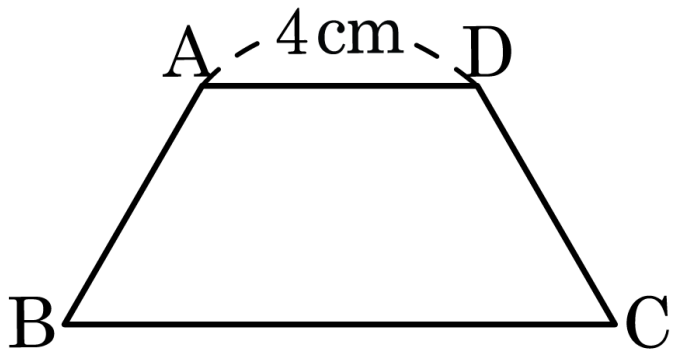

답: _____ °

8. 다음 그림과 같은 직사각형 ABCD의 변 AD, BC 위에 $\overline{AF} = \overline{EC}$, $\angle AFC = 150°$ 일 때, $\angle x$의 크기를 구하여라.

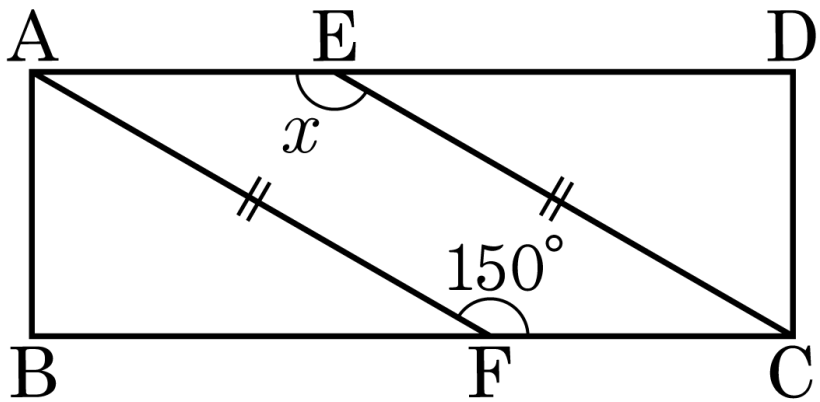

답: _____ °

9. 다음 그림과 같이 $\overline{AC} // \overline{DE}$, $\overline{AH} \perp \overline{BC}$일 때, $\square ABCD$의 넓이는?

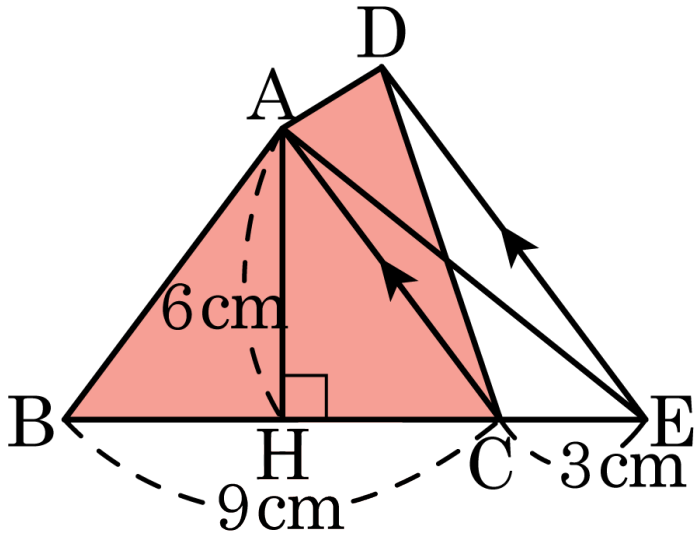

① $18cm^2$ ② $24cm^2$ ③ $27cm^2$

④ $30cm^2$ ⑤ $36cm^2$

10. 다음 그림에서 $\overline{BD} : \overline{CD} = 1 : 2$, $\triangle ABC = 9$일 때, $\triangle ABD$의 넓이를 구하여라.

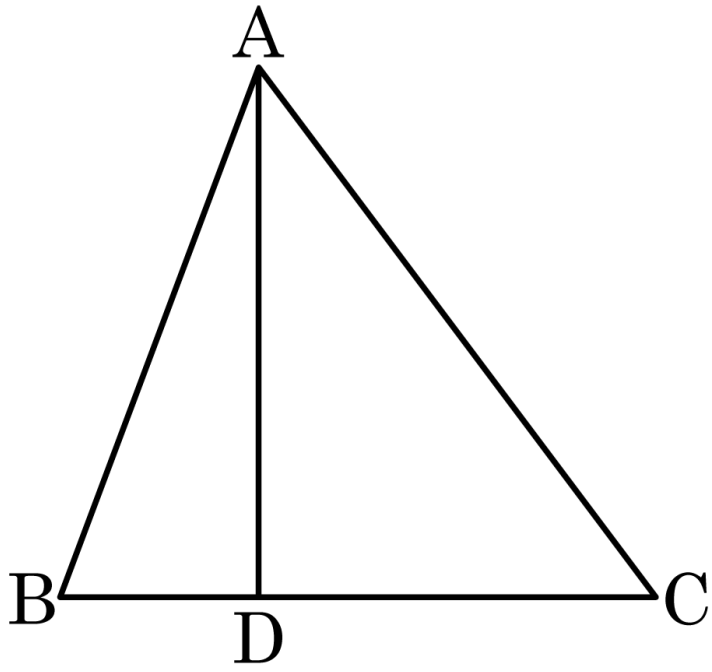

답: _____

11. 다음 그림과 같이 $\overline{AD}//\overline{BC}$ 인 사다리꼴 ABCD 에서 $\overline{AO} : \overline{CO} = 2 : 3$ 이다. $\triangle ABD$ 가 $30cm^2$ 일 때, $\triangle DBC$ 의 넓이를 구하여라.

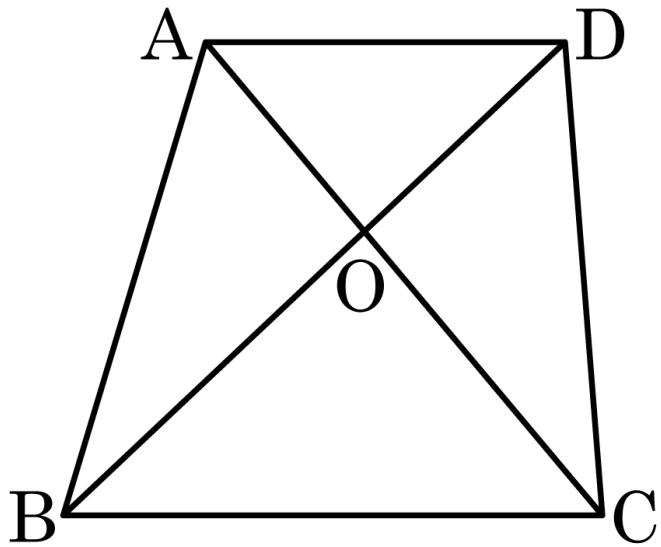

답: _____ cm^2

12. 다음 그림의 두 닮은 도형의 삼각기둥에서 모서리 AB 와 A′B′ 이 대응하는 모서리일 때 $5(x+y+z)$ 의 값을 구하여라.

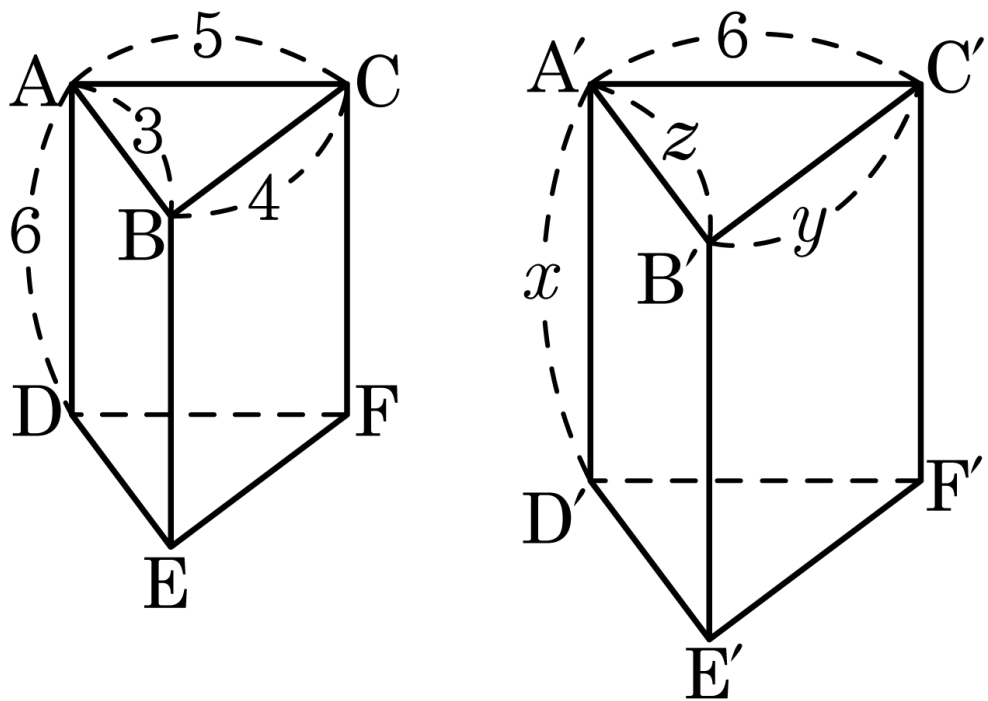

답 : _____

13. 다음 그림에서 $\overline{AD} : \overline{DB} = 2 : 5$ 일 때, $\overline{EC}$ 의 길이를 구하면?

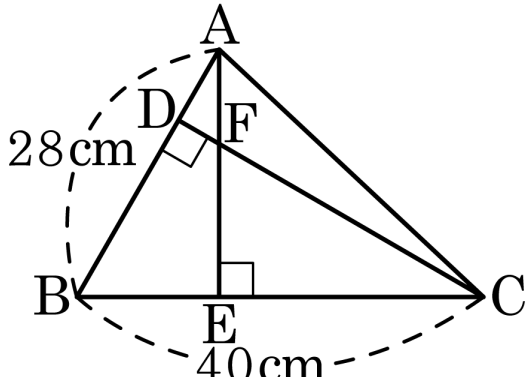

① 25cm ② 26cm ③ 27cm

④ 28cm ⑤ 29cm

14. 다음 그림에서 $\angle ABC = \angle FDC = 90°$ 일 때, 다음 중 서로 닮음이 아닌 것은?

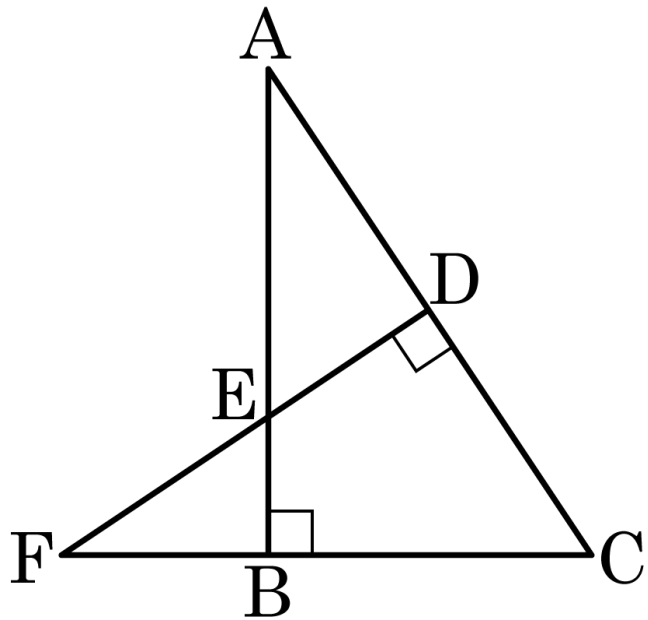

① $\triangle ABC$ ② $\triangle FDC$ ③ $\triangle ADE$

④ $\triangle FBE$ ⑤ $\triangle EBC$

15. 직사각형 ABCD 에서 $\overline{BE}$ 를 접는 선으로 하여 점 C 가 점 F 에 오도록 접은 것이다. $\overline{EF}$ 의 길이는?

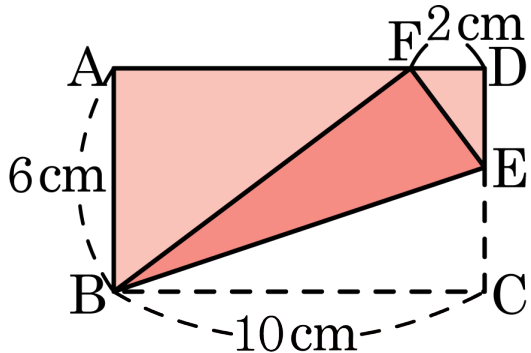

① $\frac{5}{3}$ cm ② $\frac{7}{3}$ cm ③ $\frac{10}{3}$ cm

④ 4 cm ⑤ 5 cm

16. 다음 그림에서 $\overline{BC} // \overline{DE}$ 일 때, $3x - 2y$ 의 값은?

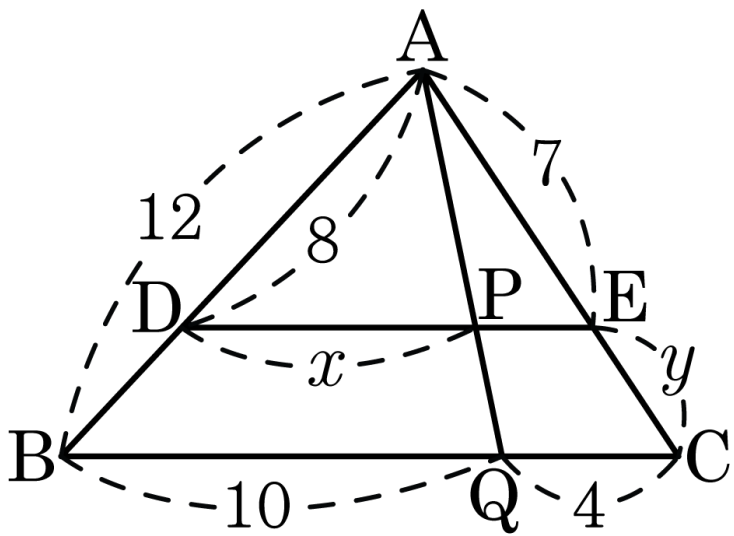

① 7 ② 13 ③ 20 ④ 27 ⑤ 30

17. 다음 그림의 $\triangle ABC$ 에서 $\angle A$ 의 이등분선과 $\overline{BC}$ 의 교점을 D 라고 할 때, x 의 길이는?

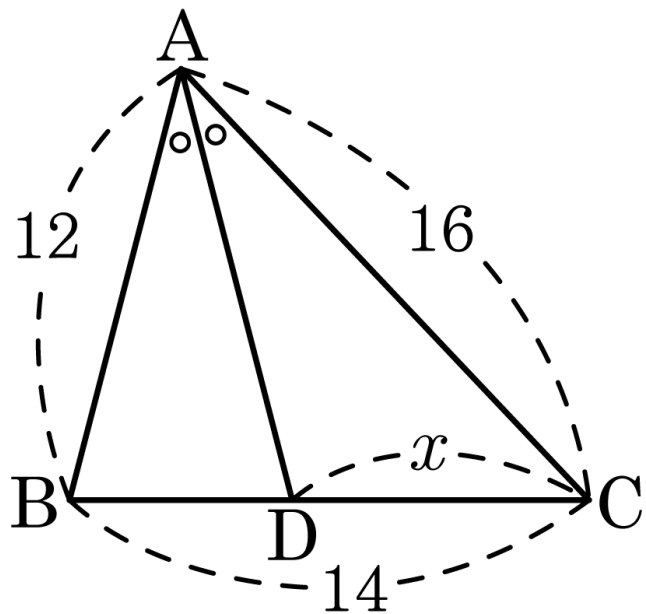

① 6 ② 7 ③ 8 ④ 9 ⑤ 10

18. 다음 그림에서 $\overline{AD}$ 는 $\angle BAC$ 의 이등분선이고,$\triangle ABC$ 의 넓이를 a 라고 할 때, $\triangle ABD$ 의 넓이를 a 에 관하여 나타내면?

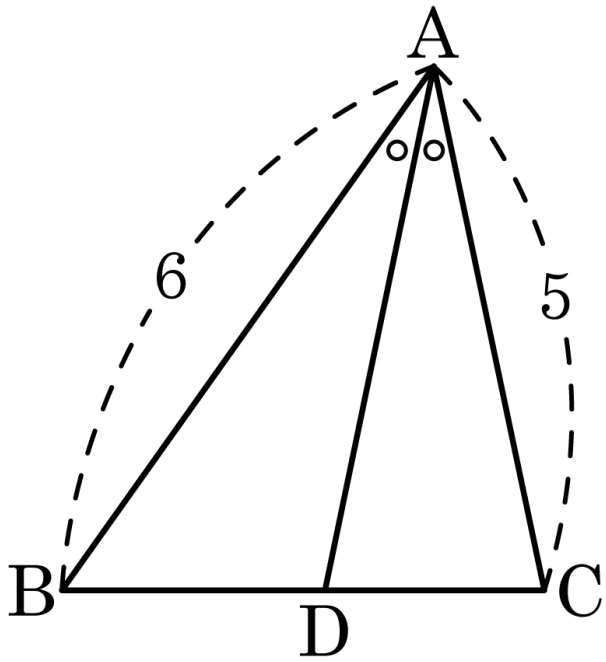

① $\frac{1}{11}a$ ② $\frac{11}{5}a$ ③ $\frac{11}{6}a$ ④ $\frac{5}{11}a$ ⑤ $\frac{6}{11}a$

19. 삼각형 ABC 에서 $\overline{AD}$ 가 $\angle CAE$ 의 이등분선일 때, $\overline{CD}$ 의 길이를 구하여라.(단, 점 D 는$\angle A$ 의 외각의 이등분선과 $\overline{BC}$ 의 연장선과의 교점이다.)

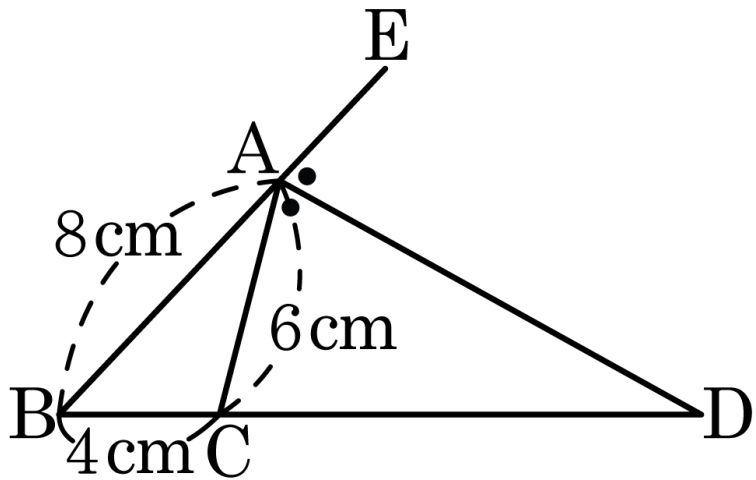

① 8 cm ② 10 cm ③ 12 cm

④ 14 cm ⑤ 16 cm

20. 다음 그림에서 점 E, F는 각각 $\overline{AB}$, $\overline{AC}$의 중점이고, 점 M, N은 $\overline{BP}$, $\overline{CP}$의 중점이다. $\overline{EF} = 8\text{cm}$일 때, $\overline{MN}$의 길이는?

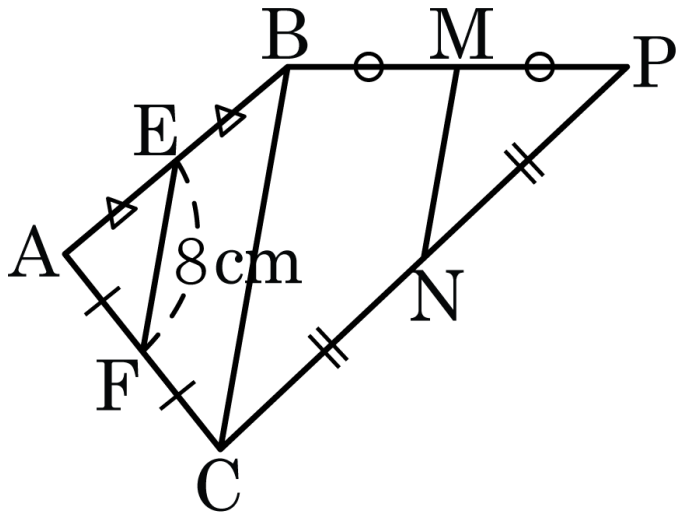

① 6cm ② 7cm ③ 8cm ④ 9cm ⑤ 10cm

21. 다음 그림에서 $\overline{AD} = \overline{DE} = \overline{EB}$ 이고, $\overline{AF} = \overline{FC}$ 이다. $\overline{DF}$ 와 $\overline{BC}$ 의 연장선의 교점을 G 라 할 때, $\overline{FG}$ 의 길이는?

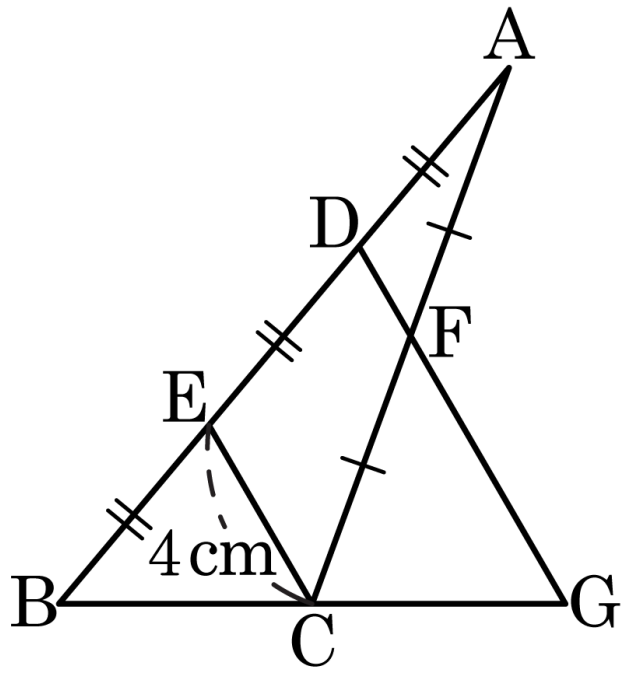

① 5cm ② 5.5cm ③ 6cm

④ 6.5cm ⑤ 7cm

22. 다음 그림과 같은 □ABCD 에서 변 $\overline{AB}$, $\overline{BC}$, $\overline{CD}$, $\overline{DA}$ 의 중점을 각각 P, Q, R, S 라 하고, $\overline{AC} = \overline{BD}$ 이면, □PQRS 는 어떤 사각형인가?

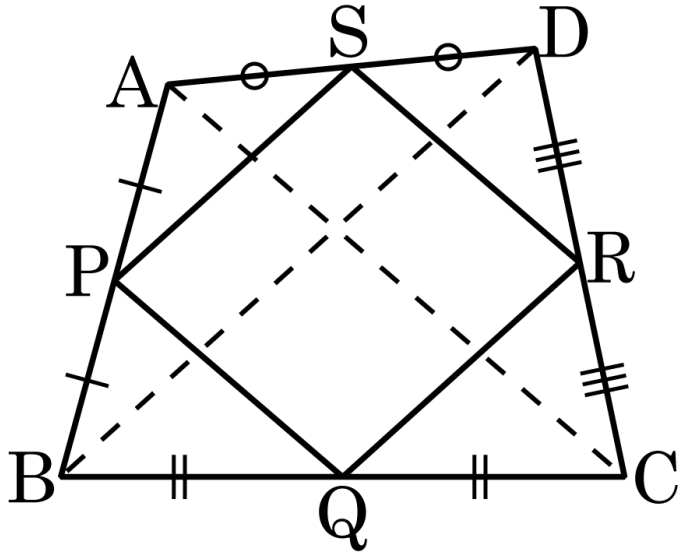

① 사다리꼴 ② 평행사변형 ③ 마름모

④ 직사각 ⑤ 정사각형

23. 다음 그림에서 점 G 는 $\triangle ABC$ 의 무게중심이다. 점 F, H 가 각각 $\overline{GB}$, $\overline{GC}$ 의 중점이고 $\square DFHE$ 가 평행사변형일 때, $\triangle ADE$ 의 둘레의 길이를 구하여라.

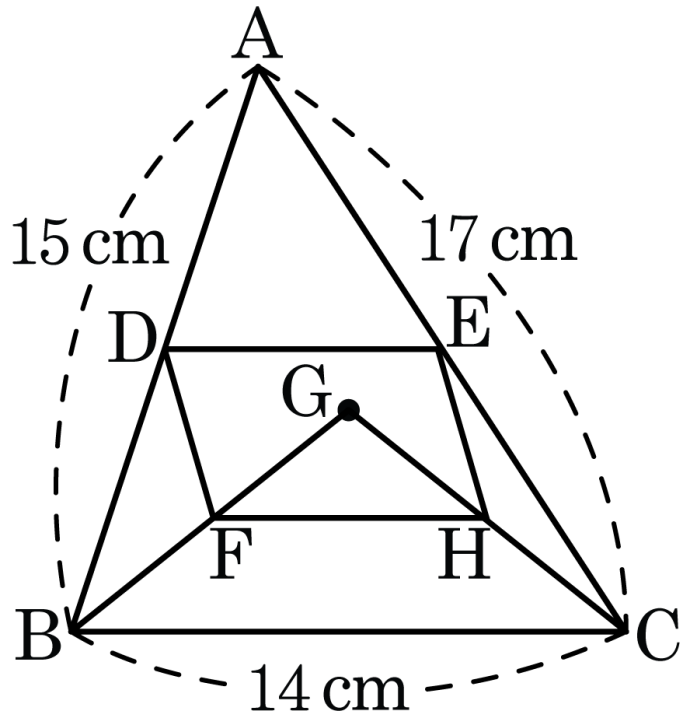

답: _____ cm

24. 다음 그림의 직사각형에서 점 E 는 $\overline{BC}$ 의 중점이다. $\overline{AD} = 14\,\text{cm}$, $\overline{CD} = 9\,\text{cm}$ 일 때, □FECD 의 넓이를 구하여라.

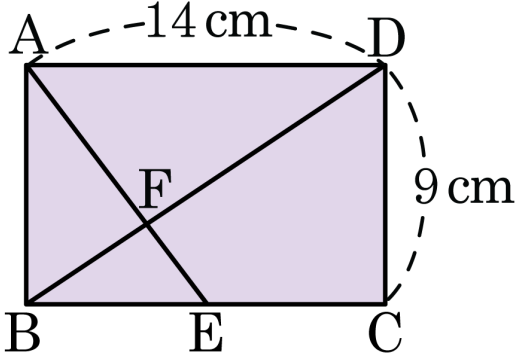

답: _____ cm^2

25. 다음 그림은 강의 양쪽에 있는 두 지점 A, B 사이의 거리를 알아보기 위하여 측량하여 그린 것이다. 축척이 $\frac{1}{1000}$ 인 축도를 그리면 A, B 사이의 거리는 축도에서 몇 cm 로 나타나겠는가?

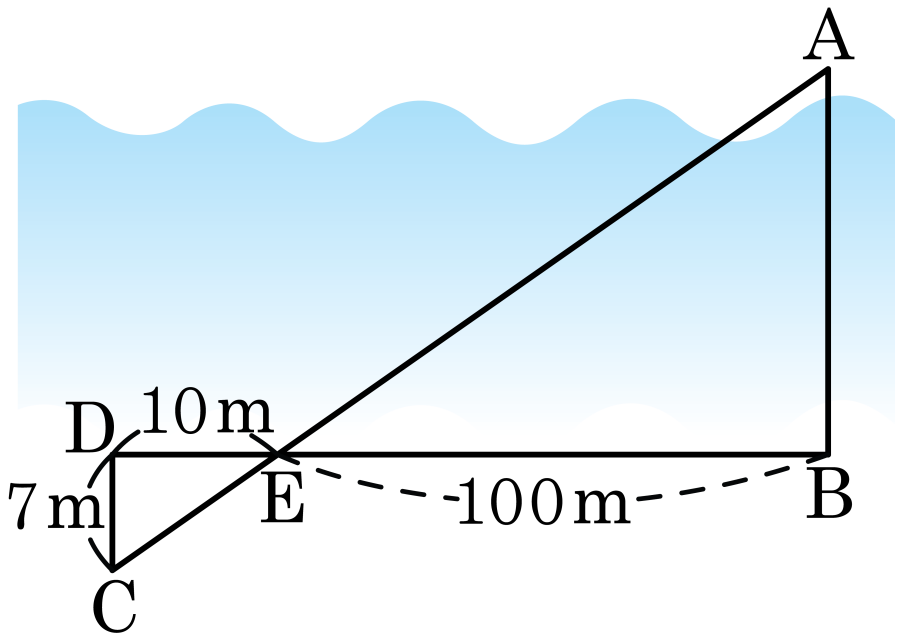

① 4cm ② 5.5cm ③ 7cm

④ 8.5cm ⑤ 10cm