1. 다음 그림의 평행사변형 ABCD 에서 점 D 를 지나는 직선이 변 BC 와 만나는 점을 E, 변 AB 의 연장선과 만나는 점을 F 라 하면, x 의 값은?

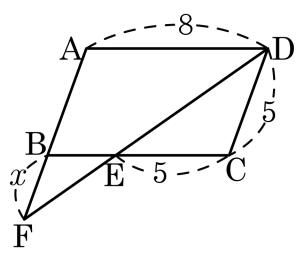

① 1 ② 2 ③ 3 ④ 4 ⑤ 5

2. 다음 그림과 같이 $\triangle ABC$ 에서 $\overline{DE} /\!/ \overline{BC}$ 일 때, 다음 중 옳지 <u>않은</u> 것은?

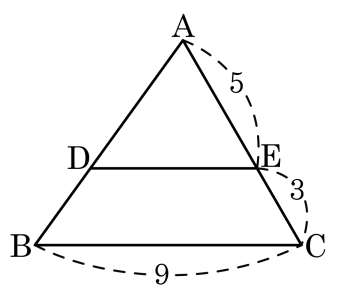

① $\triangle ABC \backsim \triangle ADE$

② $\overline{AD} : \overline{BD} = 5 : 3$

③ $\overline{AD} : \overline{AB} = \overline{DE} : \overline{BC}$

④ $\overline{DE} = \frac{45}{8}$

⑤ $\overline{BC} : \overline{DE} = 8 : 3$

3. 다음 그림의 평행사변형 ABCD 에서 점 P, Q, R 는 각각 변 AB, BC, CD 의 중점이고, 변 PR 의 중점이 점 O 일 때, 다음 중 옳은 것은?

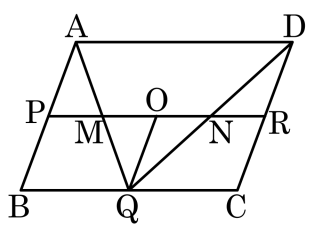

㉠ $\triangle OMQ \equiv \triangle OQN$	㉡ $\triangle APM \equiv \triangle DNR$
㉢ $\triangle ABQ \equiv \triangle DQC$	㉣ $\overline{PB} = \overline{OQ}$
㉤ $\overline{MO} = \overline{ON}$	

① ㉠, ㉡ ② ㉠, ㉣ ③ ㉡, ㉣ ④ ㉢, ㉤ ⑤ ㉣, ㉤

4. 다음 그림과 같은 직각삼각형 ABC 의 내접원과 외접원의 닮음비는?

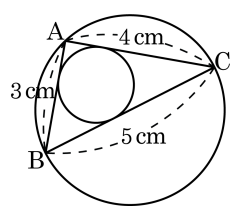

① 1 : 3 ② 2 : 3 ③ 2 : 5

④ 5 : 9 ⑤ 5 : 11

5. 다음 그림에서 $\angle A = 90°$ 인 $\triangle ABC$ 를 선분 DE 를 접는 선으로 하여 꼭짓점 B 와 C가 일치하게 접었을 때, $\overline{AD}$ 의 값은?

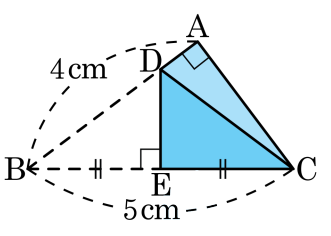

① $\frac{1}{8}$ ② $\frac{3}{8}$ ③ $\frac{7}{8}$ ④ $\frac{4}{9}$ ⑤ $\frac{7}{9}$

6. 다음 그림과 같은 $\triangle ABC$ 에서 $\overline{BA}$ 의 연장선 위에 $\overline{BA} = \overline{AD}$ 인 점 D 를 정하고, $\overline{AC}$ 의 중점을 G , 점 D 와 G 를 지나 $\overline{BC}$ 와 만나는 점을 E 라 한다. $\overline{BE} = 6$ 일 때, $\overline{EC}$ 의 길이를 구하면?

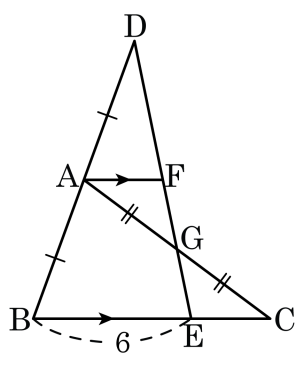

① 6 ② 5 ③ 4 ④ 3 ⑤ 2

7. 다음 그림에서 □APCD는 마름모이다. $\overline{AB} = \overline{BC}$일 때, ∠BAD의 크기를 구하여라.

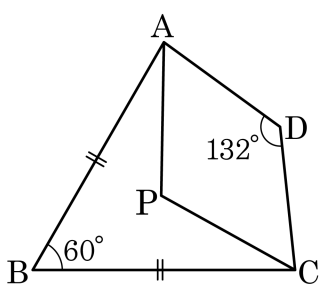

① 84° ② 89° ③ 91° ④ 93° ⑤ 95°

8. 다음 그림의 $\angle A = 90°$ 인 $\triangle ABC$ 에서 $\overline{BM} = \overline{CM}$, $\overline{AD} \perp \overline{BC}$, $\overline{DH} \perp \overline{AM}$ 이다. $\overline{BD} = 8\text{cm}$, $\overline{CD} = 2\text{cm}$ 일 때, $\overline{DH}$ 의 길이를 구하면?

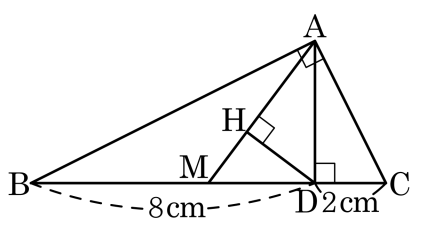

① $\frac{12}{5}\text{cm}$ ② 8cm ③ $\frac{17}{5}\text{cm}$
④ 9cm ⑤ $\frac{19}{5}\text{cm}$

9. $\triangle ABC$에서 $\overline{AB} = 20\text{cm}$, $\overline{BC} = 12\text{cm}$, $\overline{CA} = 16\text{cm}$이고, 세 변의 중점을 각각 D, E, F, $\triangle DEF$의 세 변의 중점을 각각 G, H, I라 할 때, $\triangle GHI$의 둘레의 길이는?

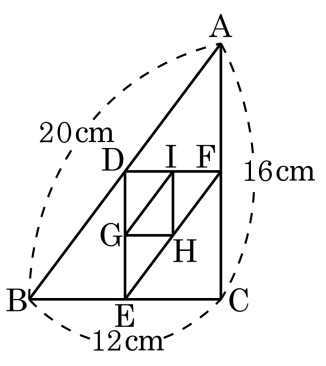

① 8cm ② 12cm ③ 16cm ④ 20cm ⑤ 24cm

10. 다음 그림과 같이 세 변의 길이가 3cm, 4cm, 5cm 인 직각삼각형의 외접원과 내접원의 넓이의 비는?

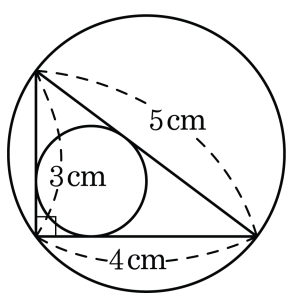

① 3 : 5 ② 25 : 4 ③ 4 : 25 ④ 4 : 21 ⑤ 21 : 4

11. 다음 그림의 사다리꼴 ABCD 를 직선 l 을 축으로 하여 1회전시킨 원뿔대의 부피는?

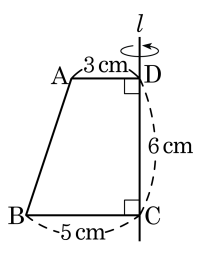

① $85\pi\,\mathrm{cm}^3$　② $89\pi\,\mathrm{cm}^3$

③ $95\pi\,\mathrm{cm}^3$　④ $98\pi\,\mathrm{cm}^3$

⑤ $102\pi\,\mathrm{cm}^3$

12. 다음 그림과 같이 평행사변형 ABCD 의 꼭짓점 A 에서 $\angle D$ 의 이등분선에 내린 수선이 $\overline{BC}$ 와 만나는 점을 E, 수선의 발을 F, $\angle D$ 의 이등분선과 $\overline{BC}$ 와 만나는 점을 G 라고 한다. $\angle B = 70°$ 일 때, $\angle AEB$ 의 크기는?

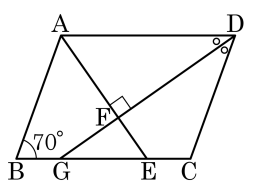

① 40° ② 45° ③ 50° ④ 55° ⑤ 60°

13. 다음 그림의 □ABCD는 $\overline{AD} // \overline{BC}$인 등변사다리꼴이다. $\overline{AB} = \overline{AD}$, $\angle DCB = 70°$일 때, $\angle x$의 크기는?

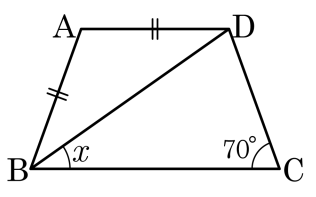

① 25° ② 30° ③ 35° ④ 40° ⑤ 45°

14. 다음 그림에서 평행사변형ABCE의 점 A에서 $\overline{BC}$, $\overline{CD}$에 내린 수선의 발을 각각 E, F라 하고 $\overline{AE} = \overline{AF}$일 때, □ ABCD는 어떤 사각형인가?

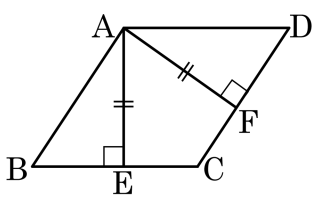

① 등변사다리꼴 ② 평행사변형 ③ 직사각형
④ 마름모 ⑤ 정사각형

15. 다음 그림을 보고 (가), (나) 에 들어갈 조건을 바르게 나타낸 것은?

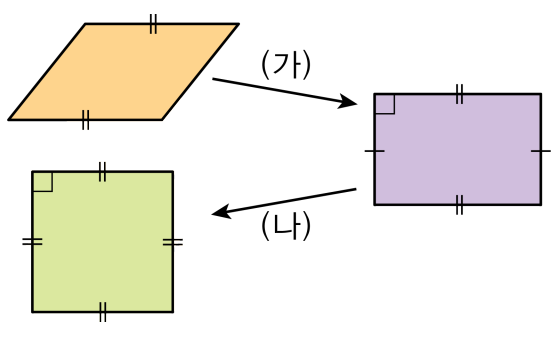

① (가) : 두 대각선이 서로 수직 이등분한다.
(나) : 한 내각의 크기가 90°이다.

② (가) : 한 내각의 크기가 90°이하이다.
(나) : 네 변의 길이가 모두 같다.

③ (가) : 한 내각의 크기가 90°이다.
(나) : 두 대각선이 서로 직교한다.

④ (가) : 두 대각선이 서로 직교한다.
(나) : 두 대각선의 길이가 같다.

⑤ (가) : 두 대각선의 길이가 같다.
(나) : 한 내각의 크기가 90°이다.