**1.** $\boxed{\phantom{00}}$ 안에 알맞은 수를 바르게 넣은 것을 고르시오.

(1) 0.1 이 34 인 수는 $\boxed{\phantom{0}}$ 입니다.
(2) 0.01 이 295 인 수는 $\boxed{\phantom{0}}$ 입니다.

① (1) 3.4 (2) 2.95
② (1) 3.4 (2) 29.5
③ (1) 3.4 (2) 295
④ (1) 0.34 (2) 2.95
⑤ (1) 0.34 (2) 29.5

**2.** 0.01 씩 띄어서 세어 안에 알맞은 수를 차례대로 쓴 것을 고르시오.

| |
|---|
| 3.461 − 3.471 − $\square$ − $\square$ − 3.501 |

① 3.472, 3.473 ② 3.482, 3.483 ③ 3.481, 3.491
④ 3.481, 3.481 ⑤ 3.485, 3.495

**3.** [ ] 안에 알맞은 말로 짝지어진 것은 어느 것입니까?

| |
|---|
| 두 직선이 서로 [ ]일 때, 한 직선은 다른 직선에 대한 [ ]이라고 합니다. |

① 수직, 평행 ② 수직, 수선 ③ 평행, 수선
④ 평행, 수직 ⑤ 수직, 수직

**4.** 다음 중 수선을 찾을 수 있는 도형은 어느 것입니까?

① 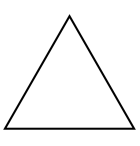

② 

③ 

④ 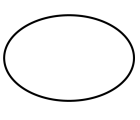

⑤ 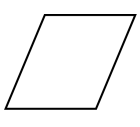

**5.** 다음 사각형 ㄱㄴㄷㄹ은 평행사변형입니다. 각 ㄱㄹㄷ의 크기를 구하시오.

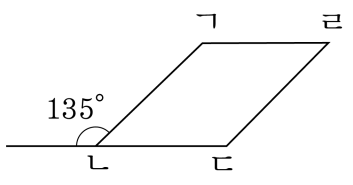


답: _____ °

**6.** 다음 중 꺾은선 그래프로 나타내기에 알맞은 것은?

① 인구별 70세 이상 인구 수

② 학교별 독서량

③ 우리 반 학생들이 좋아하는 계절

④ 우리 학교의 월 평균 수도 사용량

⑤ 회사별 책 판매 수

**7.** 다음을 보고, 큰 수의 기호부터 차례대로 쓴 것을 고르시오.

| | |
|---|---|
| ㉠ $3\frac{55}{1000}$ | ㉡ 3.05 |
| ㉢ 3.55 | ㉣ $3\frac{50}{100}$ |

① ㉠, ㉣, ㉢, ㉡ ② ㉠, ㉡, ㉢, ㉣ ③ ㉢, ㉡, ㉠, ㉣
④ ㉢, ㉣, ㉠, ㉡ ⑤ ㉢, ㉣, ㉡, ㉠

**8.** $\boxed{\phantom{00}}$ 안에 알맞은 수를 바르게 쓴 것을 고르시오.

(1) $605\,\mathrm{cm} = \boxed{\phantom{0}}\,\mathrm{m}$

(2) $3\,\mathrm{km}\ 350\,\mathrm{m} = \boxed{\phantom{0}}\,\mathrm{km}$

① (1) 605 (2) 3350

② (1) 6.05 (2) 3.035

③ (1) 6.05 (2) 3.35

④ (1) 6.5 (2) 3.305

⑤ (1) 6.5 (2) 3.35

**9.** 0.001 이 8750 인 수보다 2.864 작은 수를 구하시오.

답: _____

**10.** 직선 가와 나와 다, 직선 라와 마는 각각 평행입니다. 각 ㉠의 크기는 몇 도입니까?

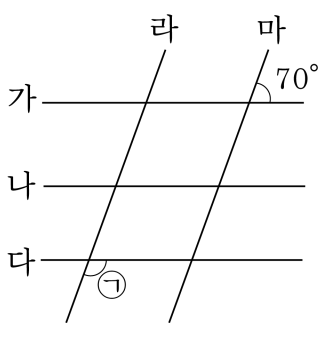


답: _____ °

**11.** 직사각형의 종이에 다음과 같이 선을 따라 오렸습니다. 평행사변형을 모두 찾아 기호를 쓰시오.

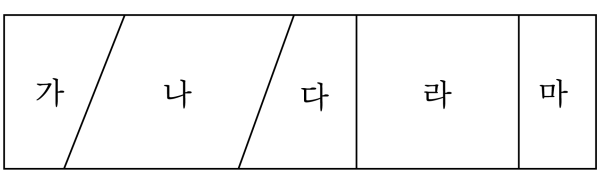


답: _____

답: _____

답: _____

**12.** 도형은 마름모이다. ☐ 안에 알맞은 수나 각도를 왼쪽부터 차례대로 써 넣어라.

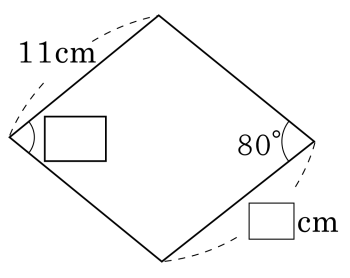


답: _____ °

답: _____

**13.** 다음 중 옳지 <u>않은</u> 것은 어느 것인지 고르시오.

① 정사각형은 마주 보는 두 변이 평행이다.

② 마름모는 네 변의 길이가 같다.

③ 평행사변형은 마주 보는 두 각의 크기가 서로같다.

④ 직사각형의 네 각은 모두 90이다.

⑤ 두 쌍의 마주 보는 변이 평행인 사각형은 사다리꼴이다.

**14.** 다음 중 평행사변형이 가지는 성질을 갖는 것을 모두 고르시오.

① 사다리꼴 ② 사각형 ③ 정사각형
④ 마름모 ⑤ 다각형

**15.** 아래 사각형의 이름이 <u>아닌</u> 것을 모두 고르시오.



① 평행사변형 ② 사다리꼴 ③ 직사각형
④ 마름모 ⑤ 정사각형

**16.** ㈎ 문구점과 ㈏ 문구점에서 월별로 판매된 색연필의 개수를 조사한 그래프입니다. 다음 [ ] 안에 알맞은 수를 적으시오.

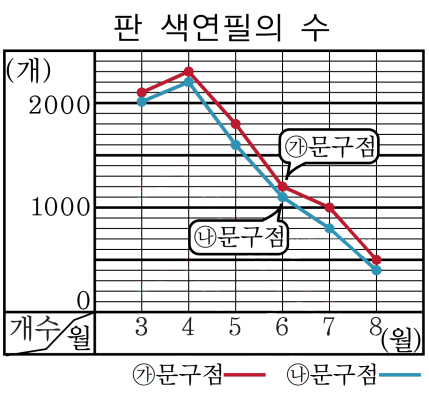


| |
|---|
| ㈎ 문구점과 ㈏문구점의 색연필 판매량이 200개 이상 차이가 나는 월은 총 [ ]번입니다. |

답: _____

**17.** 다음 설명 중 <u>틀린</u> 것은 어느 것인지 구하시오.

① 사각형에는 대각선이 2개 있습니다.

② 다각형은 선분으로만 이루어져 있습니다.

③ 각 변의 길이가 모두 같고, 각의 크기가 모두 같은 다각형은 정다각형입니다.

④ 대각선은 다각형의 이웃하는 두 꼭짓점을 연결한 선입니다.

⑤ 삼각형에는 대각선이 없습니다.

**18.** 다음과 같은 모양 조각이 있을 때, 60 개의 삼각형 모양 조각으로 덮을 수 있는 정육각형 모양의 도형이 있습니다. 이 정육각형 모양의 도형을 사다리꼴 모양 조각으로 덮는다면, 사다리꼴 모양 조각은 모두 몇 개 필요합니까?

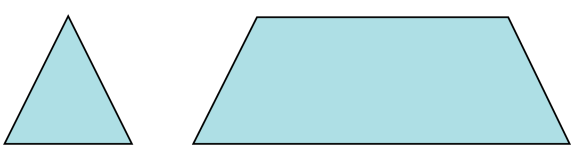

답: _____ 개

**19.** 다음에서 ㉠이 나타내는 수는 ㉡이 나타내는 수의 몇 배입니까?

| |
|---|
| $\underset{㉠}{\underline{2}}45.\underset{㉡}{\underline{4}}8$ |

답: _____ 배

**20.** 다음 도형에서 서로 평행인 선분은 모두 몇 쌍입니까?

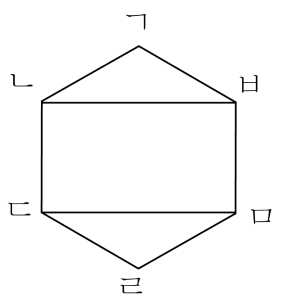


답: _____ 쌍

**21.** 다음 그림에서 직선 가와 나는 서로 평행입니다. 각 ㉠은 몇 도인지 구하시오.

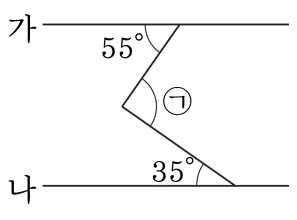


답: _____ °

**22.** 다음 그림과 같이 직사각형을 반으로 접었습니다. 각 ㄷㄱㅁ의 크기가 $31°$ 일 때, ㉠의 크기를 구하시오.

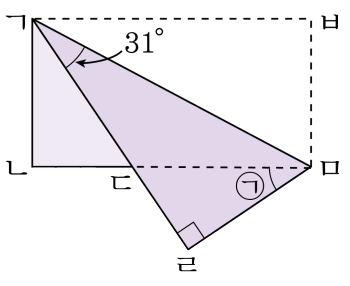


답: _____ °

**23.** 다음 도형 판의 조각 중 가, 나를 사용하여 만들 수 <u>없는</u> 것은 어느 것인지 고르시오.

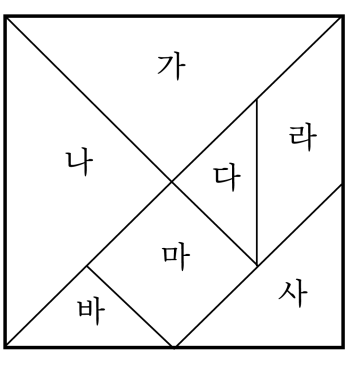


① 정사각형 ② 마름모 ③ 정삼각형
④ 평행사변형 ⑤ 사다리꼴

**24.** 다음 숫자 카드를 한 번씩만 써서 만든 가장 큰 소수 한 자리 수와 가장 작은 소수 세 자리 수의 합을 구하시오.

| 3 | 5 | 7 | 9 | . |
|---|---|---|---|---|

답: _____

**25.** 각도기를 이용하여 직선 ㄱㄴ에 대한 수선을 그리는 방법을 설명한 것입니다. 순서대로 기호를 쓰시오.

| |
|---|
| ㉠ 직선 ㄱㄴ을 그린다.<br>㉡ 직선 ㄹㄷ을 그린다.<br>㉢ 각도기의 중심을 점 ㄷ에 맞추고, 각도기의 밑금을 직선 ㄱㄴ에 맞춘다.<br>㉣ 직선 ㄱㄴ 위에 점 ㄷ을 표시한다.<br>㉤ 각도기에서 90 도가 되는 곳에 점 ㄹ을 표시한다. |

답: _____

답: _____

답: _____

답: _____

답: _____