1. 다음 한 원과 직선에 대한 설명 중 잘못된 것은?

① 원의 중심에서 현에 내린 수선은 그 현을 수직이등분 한다.

② 같은 길이의 현은 원의 중심으로부터 같은 거리에 있다.

③ 원의 중심으로부터 같은 거리에 있는 현은 그 길이가 같다.

④ 현의 길이는 부채꼴의 중심각의 크기에 비례한다.

⑤ 현의 수직이등분선은 원의 중심을 지난다.

해설

현의 길이는 중심각의 크기에 비례하지 않는다.

2. 다음 그림과 같이 점 P 에서 반지름의 길이가 18 인 원 O 에 그은 두 접선의 접점을 A, B 라 하고, $\angle APB = 50°$ 일 때, 5.0pt$\overset{\frown}{AB}$ 의 길이는?

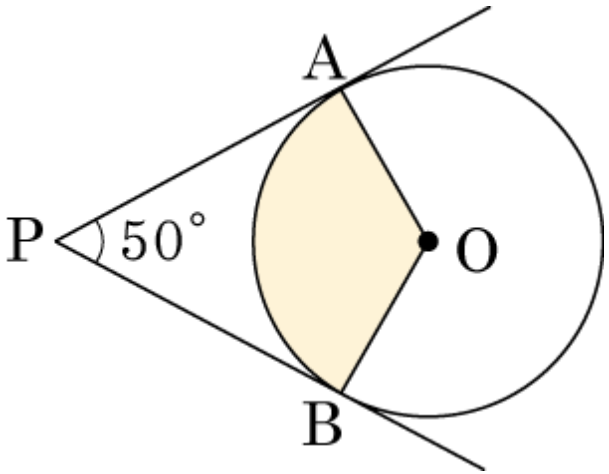

① π ② 3π ③ 4π ④ 6π ⑤ 13π

해설

$\angle AOB = 130°$ 이므로

5.0pt$\overset{\frown}{AB} = 2\pi \times 18 \times \dfrac{130°}{360°} = 13\pi$ 이다.

3. 다음 그림에서 $\overrightarrow{AP}$, $\overrightarrow{AQ}$ 는 원 O 의 접선이고, 점 P, Q 는 원 O 의 접점이다.
$\overline{AP} = 6\text{cm}$, $\angle PAQ = 120°$ 일 때, 색칠된 부분의 넓이를 구하면?

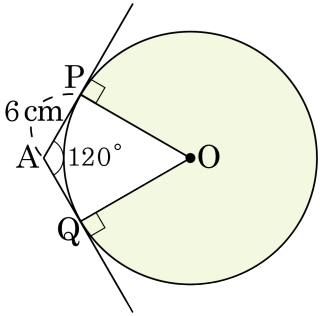

① $60\pi\text{cm}^2$ ② $70\pi\text{cm}^2$ ③ $80\pi\text{cm}^2$
④ $90\pi\text{cm}^2$ ⑤ $100\pi\text{cm}^2$

해설

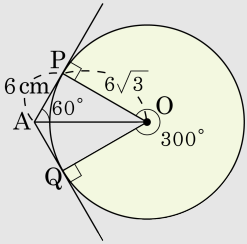

$\overline{OP} = \sqrt{3} \times \overline{AP} = 6\sqrt{3}(\text{cm})$

(부채꼴의 넓이) $= \pi \times (6\sqrt{3})^2 \times \dfrac{300°}{360°} = 90\pi(\text{cm}^2)$

4. 다음 그림과 같이 반지름의 길이가 1 인 사분원에서 $\overline{OC} = 0.59$ 일 때, $\overline{CD}$ 의 길이를 구하면?

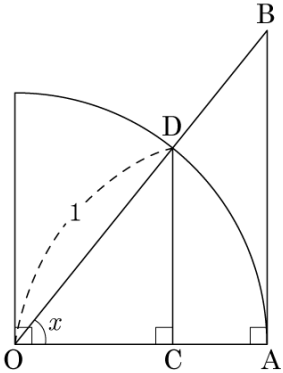

각도	사인	코사인	탄젠트
53°	0.80	0.60	1.33
54°	0.81	0.59	1.38
55°	0.82	0.57	1.43
56°	0.83	0.56	1.48

① 0.57 ② 1.38 ③ 0.59 ④ 0.82 ⑤ 0.81

해설

$\cos x° = \dfrac{\overline{OC}}{\overline{OD}} = \dfrac{\overline{OC}}{1}$, $\overline{OC} = 0.59$ 이므로

$x° = 54°$

$\sin 54° = \dfrac{\overline{CD}}{\overline{OD}} = \dfrac{\overline{CD}}{1} = 0.81$ 이므로

$\therefore \overline{CD} = 0.81$