1. 다음 그림에서 점 I가 $\triangle ABC$의 내심일 때, x의 값을 구하여라.

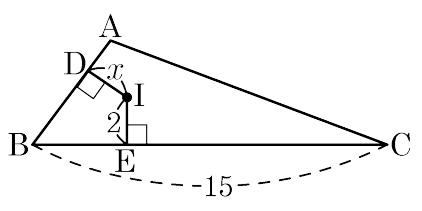

답: _____

2. 평행사변형 ABCD 에서 $\overline{AB} = 8\text{cm}$, $\overline{AD} = 15\text{cm}$ 이고 $\overline{AE}$ 는 $\angle BAD$ 의 이등분선일 때, 선분 EC 의 길이를 구하여라.

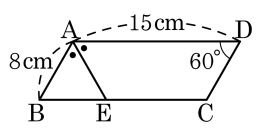

답: _____ cm

3. 마름모 ABCD 에서 $\angle D$ 를 삼등분하는 선이 $\overline{AB}$, $\overline{BC}$ 와 만나는 점을 각각 E, F 라 할 때, $\angle A : \angle B = 1 : 3$ 일 때, $\angle BED$ 의 크기는?

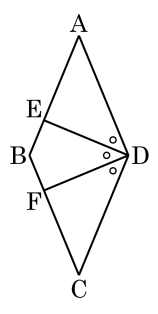

① 85° ② 87° ③ 90°

④ 95° ⑤ 97°

4. 다음의 두 삼각형은 서로 닮음이다. $\overline{DF}$ 의 길이를 $x$cm, $\angle DFE$ 의 크기를 $y°$ 라고 할 때, $x+y$ 의 값을 구하여라.

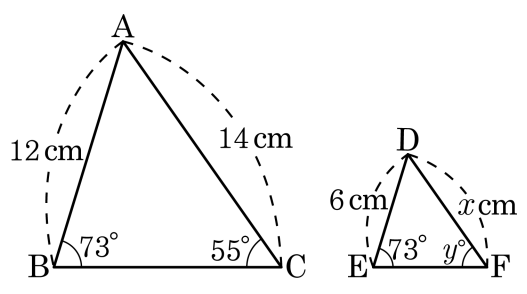

답: _____

5. 다음 그림에서 두 원기둥이 서로 닮은 도형이고, 각각의 밑면의 둘레가 10πcm, 16πcm 일 때, 큰 원기둥의 높이와 작은 원기둥의 높이의 차는?

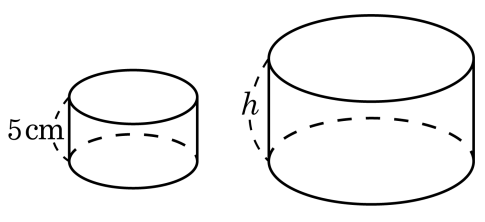

① $\frac{3}{2}$cm ② 2cm ③ $\frac{5}{2}$cm
④ 3cm ⑤ $\frac{10}{3}$cm

6. 다음 그림에서 $\angle A = \angle DEC$, $\overline{AB} = 9$, $\overline{BC} = 12$, $\overline{DE} = 6$ 일 때, $\overline{DC}$ 의 값을 구하면?

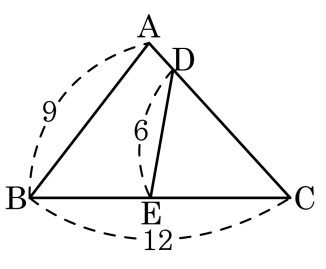

① 4 ② 5 ③ 6 ④ 7 ⑤ 8

7. 다음 그림과 같이 폭이 일정한 종이 테이프를 접었다. $\angle ABC = 55°$ 일 때, 다음 중 각의 크기가 $55°$인 것을 모두 고르면?

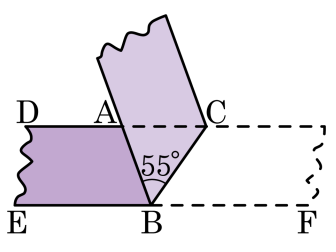

① $\angle ABE$ ② $\angle DAB$ ③ $\angle ACB$

④ $\angle CAB$ ⑤ $\angle CBF$

8. 다음 그림과 같이 $\angle AOB$의 내부의 한 점 P에서 두 변 OA, OB에 내린 수선의 발을 각각 Q, R라 하자. $\overline{PQ} = \overline{PR}$일 때, 다음 중 옳지 <u>않은</u> 것은?

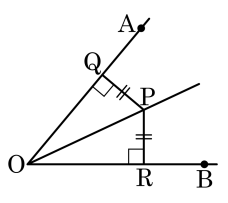

① $\overline{OQ} = \overline{OR}$

② $\angle OPQ = \angle OPR$

③ $\overline{OQ} = \overline{OP}$

④ $\angle POQ = \angle POR$

⑤ $\triangle OPQ \equiv \triangle OPR$

9. 다음 그림은 $\angle B$가 직각인 삼각형이다. 점 M이 $\triangle ABC$의 외심이고, $\overline{AB} = 6cm$, $\overline{BC} = 8cm$, $\overline{CA} = 10cm$일 때, $\triangle MBC$ 의 넓이는?

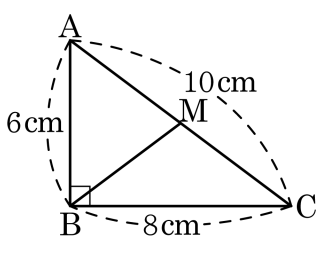

① $10cm^2$ ② $12cm^2$ ③ $13cm^2$

④ $15cm^2$ ⑤ $16cm^2$

10. 다음 그림에서 점 O 는 $\triangle ABC$ 의 외심이다. $\angle BOC = 100°$ 일 때, $\angle A$ 의 크기를 구하여라.

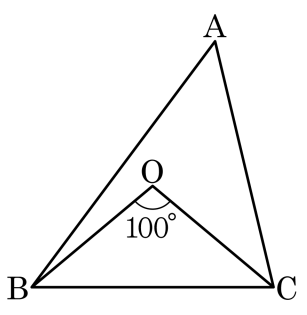

답: _____ °

11. 다음 중 삼각형의 내심과 외심에 대한 설명으로 옳지 <u>않은</u> 것은?

① 내심에서 세 변에 이르는 거리가 같다.

② 외심은 항상 삼각형의 외부에 있다.

③ 내심은 항상 삼각형의 내부에 있다.

④ 이등변삼각형의 외심과 내심은 꼭지각의 이등분선 위에 있다.

⑤ 외심에서 세 꼭짓점에 이르는 거리가 같다.

12. 다음 그림과 같이 □ABCD 가 평행사변형이 되도록 x, y 의 값을 구하여라.

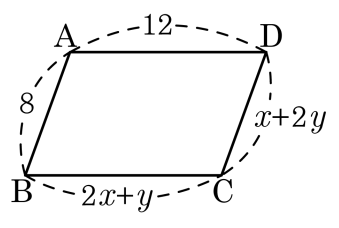

답: $x =$ _____

답: $y =$ _____

13. 다음 그림에서 □ABCD 는 평행사변형이다. 네 꼭짓점 A, B, C, D 와 직선 l 사이의 거리가 각각 6cm, 4cm, 7cm, 9cm 일 때, □ABCD 의 넓이를 구하여라.

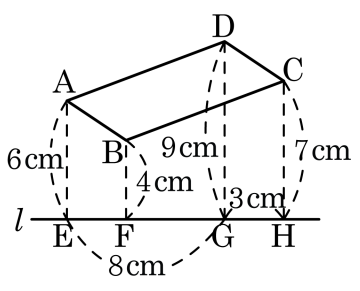

답: _____ cm^2

14. 다음 그림의 □ABCD 는 직사각형이고 $\overline{AC}$ 는 $\overline{EF}$ 의 수직이등분선이다. $\overline{AB} = 12\text{cm}$, $\overline{BC} = 16\text{cm}$, $\overline{AO} = 10\text{cm}$ 일 때, $\overline{EF}$ 의 길이는?

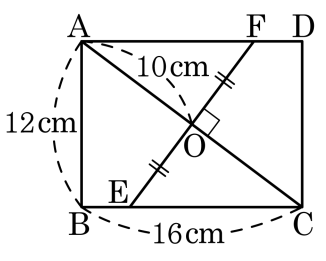

① 12cm ② 13cm ③ 14cm ④ 15cm ⑤ 16cm

15. 다음 그림의 직사각형 ABCD 에서 $\overline{BE}$ 를 접는 선으로 꼭짓점 C 가 변 AD 위의 점 C′ 에 오도록 접었을 때, x 의 값은?

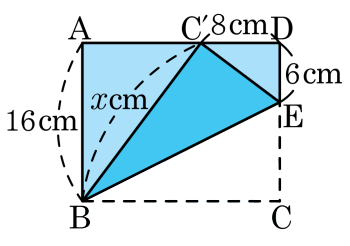

① 18 ② 20 ③ 22 ④ 24 ⑤ 26

16. 다음 그림에서 사각형 ABCD 는 직사각형일 때, x 의 값을 구하면?

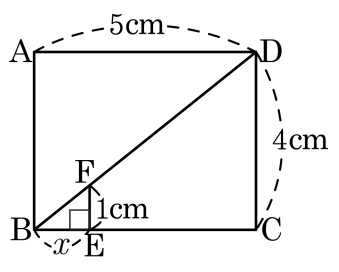

① 1 ② 1.25 ③ 1.5 ④ 1.75 ⑤ 2

17. 다음 그림에서 $\angle BAD = \angle ACB$, $\angle DAE = \angle EAC$ 일 때, $\overline{DE}$ 와 $\overline{EC}$ 의 길이의 차를 구하여라.

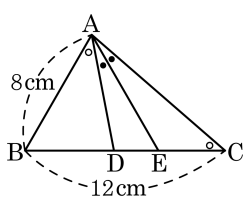

① 0.5 cm ② $\frac{4}{3}$ cm ③ 1.5 cm
④ 2 cm ⑤ 2.5 cm

18. 다음 그림에서 $\overline{AD}$ 가 $\angle A$ 의 외각의 이등분선일 때, $x+y$ 의 값은?

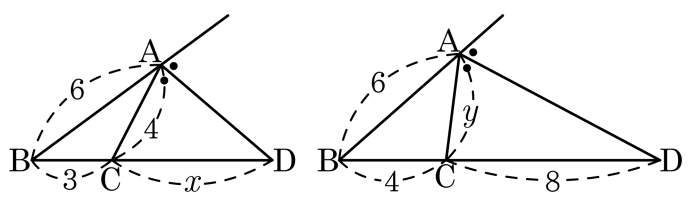

① 4 ② 6 ③ 10 ④ 14 ⑤ 20

19. 평행사변형 ABCD 에서 각 변의 중점을 P, Q, R, S 라 할 때, 다음 그림에서 생기는 평행사변형은 □ABCD 를 포함해서 몇 개인지를 구하여라.

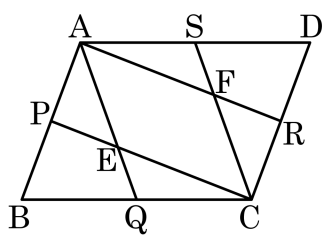

① 1 개 ② 2 개 ③ 3 개 ④ 4 개 ⑤ 5 개

20. 다음 그림과 같이 $\angle A = 90°$ 인 직각삼각형 ABC 에서 점 M 이 $\overline{BC}$ 의 중점이고, $\overline{AH} \perp \overline{BC}$, $\overline{AM} \perp \overline{HI}$ 일 때, $\overline{AI}$ 의 길이를 구하면?

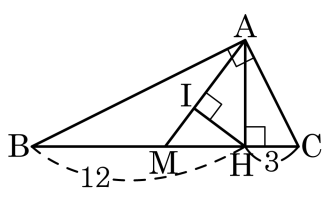

① $\frac{21}{5}$ ② $\frac{22}{5}$ ③ $\frac{23}{5}$ ④ $\frac{24}{5}$ ⑤ 5