1. 다음 그림에서 $\sin B$, $\cos B$, $\tan B$ 의 값을 차례로 구하여라.

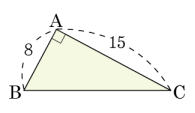

답: $\sin B =$ _____

답: $\cos B =$ _____

답: $\tan B =$ _____

2. 다음 그림과 같은 직각삼각형 ABC 에 대하여 $\sin C$, $\cos C$, $\tan C$ 의 값을 구하여라.

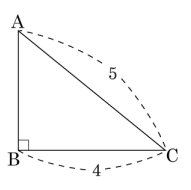

답: $\sin C =$ _____

답: $\cos C =$ _____

답: $\tan C =$ _____

3. $\sin A = \frac{3}{4}$ 일 때, $\cos A + \tan A$ 의 값은?

① $\frac{16\sqrt{7}}{27}$ ② $\frac{17\sqrt{7}}{27}$ ③ $\frac{2\sqrt{7}}{3}$
④ $\frac{19\sqrt{7}}{28}$ ⑤ $\frac{20\sqrt{7}}{27}$

4. 다음 보기 중 $\cos x$와 같은 값을 갖는 것을 모두 골라라.

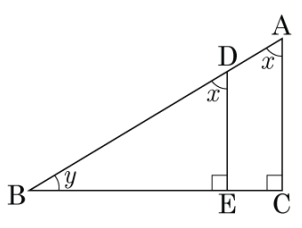

보기

㉠ $\frac{\overline{DE}}{\overline{BD}}$	㉡ $\frac{\overline{BC}}{\overline{AB}}$	㉢ $\sin y$
㉣ $\frac{\overline{AC}}{\overline{BC}}$	㉤ $\frac{\overline{BE}}{\overline{AB}}$	㉥ $\tan y$

답: _____

답: _____

5. 다음은 A, B, C, D, E 다섯 사람의 몸무게에 대한 편차를 나타낸 표이다. 이 다섯 사람의 몸무게의 평균이 65kg 일 때, B 의 몸무게와 다섯 사람의 전체의 표준편차를 차례대로 나열한 것은? (단, 분산은 소수 첫째자리에서 반올림한다.)

학생	A	B	C	D	E
편차(kg)	-2	3	1	x	0

① 60 kg, 1 kg ② 64 kg, 1 kg ③ 64 kg, 2 kg
④ 68 kg, 2 kg ⑤ 68 kg, 3 kg

6. 6 개의 변량 $x_1, x_2, x_3, \cdots, x_6$ 의 평균이 3 이고 표준편차가 4 일 때, $2x_1 - 1, 2x_2 - 1, 2x_3 - 1, \cdots, 2x_6 - 1$ 의 평균과 표준편차는?

① 평균 : 3, 표준편차 : 8
② 평균 : 3, 표준편차 : 15
③ 평균 : 3, 표준편차 : 20
④ 평균 : 5, 표준편차 : 8
⑤ 평균 : 5, 표준편차 : 15

7. 다음 그림과 같은 직각삼각형에서 x 의 값을 구하여라.

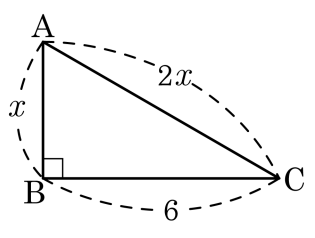

답: _____

8. 다음 그림에서 □JKGC 와 넓이가 같은 도형은?

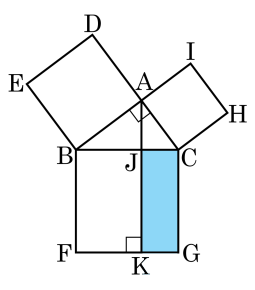

① □DEBA ② □BFKJ

③ □ACHI ④ △ABC

⑤ △ABJ

9. 두 변의 길이가 $6\,\mathrm{cm}$, $7\,\mathrm{cm}$ 인 직각삼각형에서 남은 한 변의 길이를 모두 고르면? (정답 2개)

① $8\,\mathrm{cm}$ ② $\sqrt{13}\,\mathrm{cm}$ ③ $13\,\mathrm{cm}$
④ $5\sqrt{3}\,\mathrm{cm}$ ⑤ $\sqrt{85}\,\mathrm{cm}$

10. 다음 정사각형의 대각선의 길이가 $a\sqrt{b}$ 일 때, $a+b$ 의 값을 구하여라. (단, b는 최소의 자연수이다.)

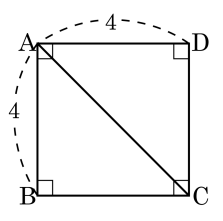

답: $a+b=$ _____

11. 다음 그림에서 □ABCD 는 한 변의 길이가 2 인 마름모이다. □ABCD 의 넓이는?

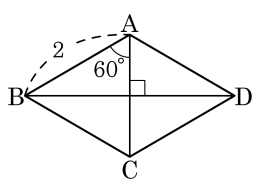

① 2　　② $2\sqrt{3}$　　③ 4

④ $4\sqrt{3}$　　⑤ $8\sqrt{3}$

12. 다음 그림에서 삼각형 ABC 가 이등변삼각형이고 $\overline{AH} \perp \overline{BC}$, $\overline{AH} = 1\,\text{cm}$, $\overline{AB} = \overline{AC} = \sqrt{2}\,\text{cm}$ 일 때, x를 구하여라.

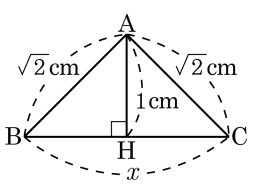

답: _____ cm

13. 어떤 정육면체의 대각선의 길이가 $6\sqrt{3}$ 일 때, 이 정육면체의 한 모서리의 길이를 구하여라.

답: _____

14. 다음 직육면체 점 A 에서 출발하여 $\overline{CD}$ 를 지나 점 G 에 도달하는 최단 거리를 구하면?

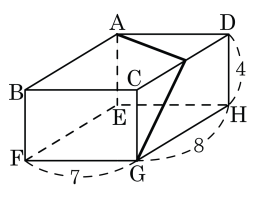

① $\sqrt{181}$ ② $\sqrt{182}$ ③ $\sqrt{183}$

④ $\sqrt{184}$ ⑤ $\sqrt{185}$

15. 철수의 4 회에 걸친 수학 성적이 $80, 82, 86, 76$ 이다. 다음 시험에서 몇 점을 받아야 평균이 84 점이 되겠는가?

① 90 점 ② 92 점 ③ 94 점 ④ 96 점 ⑤ 98 점

16. 네 개의 변량 4, 6, a, b 의 평균이 5 이고, 분산이 3 일 때, $a^2 + b^2$ 의 값은?

① 20 ② 40 ③ 60 ④ 80 ⑤ 100

17. 다음 히스토그램은 학생 10명의 과학 성적을 나타낸 것이다. 이 자료의 분산은?

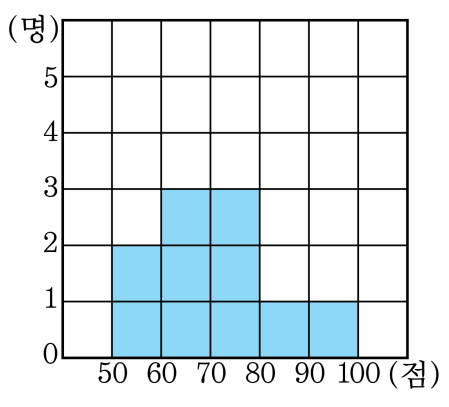

① 12 ② 72 ③ 80 ④ 120 ⑤ 144

18. 직사각형 ABCD 에서 꼭짓점 D 를 $\overline{BC}$ 위의 점 E 에 오도록 접었을 때, 다음 중 옳은 것을 모두 고른 것은?

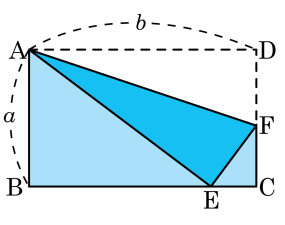

㉠ $\overline{BE} = \sqrt{b^2 - a^2}$	㉡ $\angle BAE = \angle CFE$
㉢ $\triangle AEF \equiv \triangle ADF$	㉣ $\overline{CE} = \overline{CF} = \overline{DF}$
㉤ $\overline{CF} : \overline{CE} = \overline{AB} : \overline{BE}$	

① ㉠, ㉡　② ㉠, ㉢　③ ㉡, ㉤
④ ㉠, ㉢, ㉣　⑤ ㉢, ㉣, ㉤

19. 다음 그림의 직각삼각형 ABC 에서 x, y 의 값을 각각 구하여라.

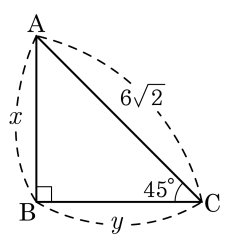

답: $x =$ _____

답: $y =$ _____

20. 다음 그림의 정사각뿔에서 점 M 은 $\overline{BC}$ 의 중점이고, $\overline{OH} \perp \overline{AC}$, $\angle OMH = 60°$ 일 때, 정사각뿔의 부피를 구하면?

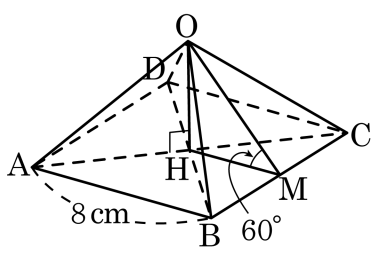

① $\frac{32\sqrt{3}}{3}\text{cm}^3$ ② $\frac{64\sqrt{3}}{3}\text{cm}^3$ ③ $\frac{128\sqrt{3}}{3}\text{cm}^3$
④ $\frac{256\sqrt{3}}{3}\text{cm}^3$ ⑤ $\frac{512\sqrt{3}}{3}\text{cm}^3$

21. 그림은 원뿔의 전개도이다. 다음 중 옳은 것은?

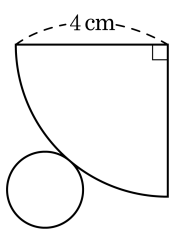

① 밑면의 둘레는 4π cm 이다.

② 밑면의 반지름은 4 cm 이다.

③ 원뿔의 높이는 $2\sqrt{15}$ cm 이다.

④ 부채꼴의 호의 길이는 2π cm 이다.

⑤ 원뿔의 부피는 $8\sqrt{3}\,\text{cm}^3$ 이다.

22. 다음 그림과 같이 $\overline{OH}$의 길이가 $4\,cm$ 가 되도록 하여 구를 평면으로 잘랐을 때, 단면인 원의 넓이가 $48\pi\,cm^2$ 이었다. 이때 구의 반지름을 구하여라.

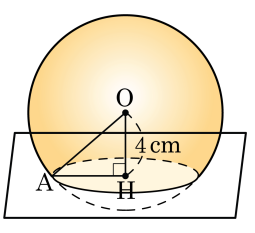

① 6 cm ② 8 cm ③ 10 cm

④ 12 cm ⑤ 16 cm

23. 다음 그림에서 x 의 길이를 구하여라.

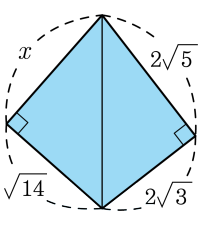

답: _____

24. 다음 정사면체에서 M, N은 각각 $\overline{BC}, \overline{DC}$의 중점이다. 정사면체의 한 모서리의 길이가 8cm일 때, $\triangle AMN$ 의 넓이를 구하면?

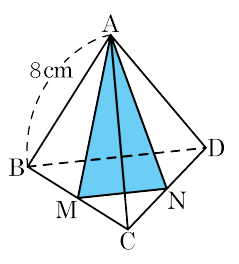

① $4\sqrt{11}\text{cm}^2$ ② $4\sqrt{3}\text{cm}^2$ ③ 4cm^2

④ $8\sqrt{2}\text{cm}^2$ ⑤ $16\sqrt{3}\text{cm}^2$

25. 다음 그림은 한 변의 길이가 1 인 정육면체이다. $\angle \mathrm{CFG} = x$ 일 때, $\sin x$ 의 값을 구하면?

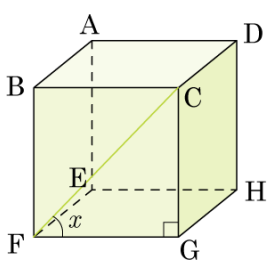

① $\frac{\sqrt{2}}{2}$ ② $\frac{2\sqrt{2}}{3}$ ③ $\frac{2}{3}$ ④ $\frac{\sqrt{6}}{2}$ ⑤ 2