1. 각도를 읽어 보시오.

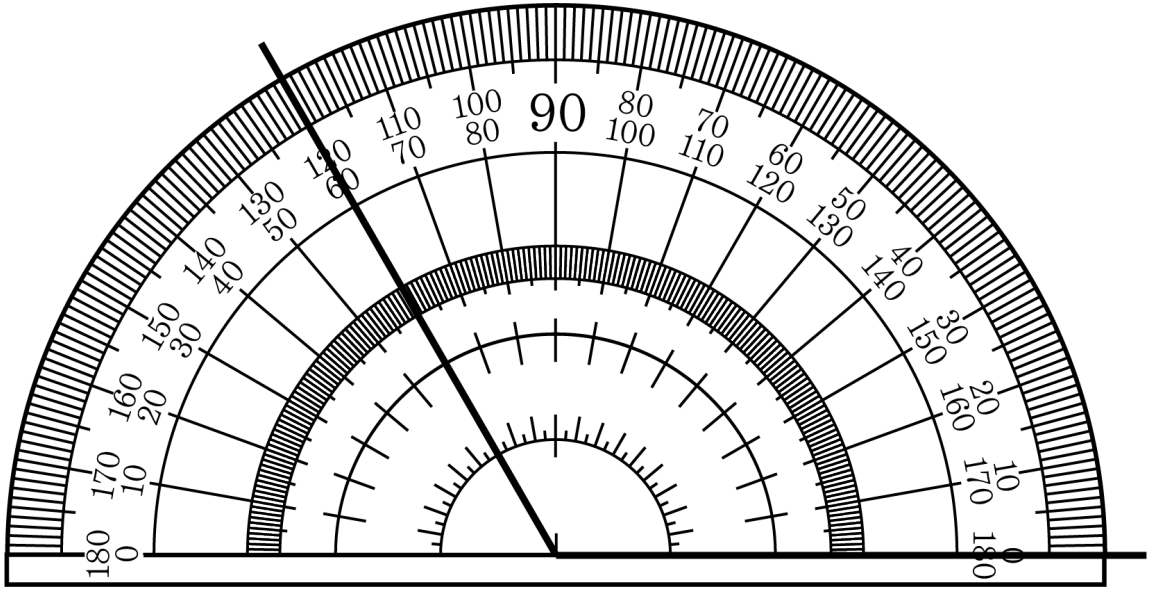

답: ________ °

2. 다음 그림에서 예각과 둔각을 각각 몇 개 찾을 수 있는지 차례대로 쓰시오.

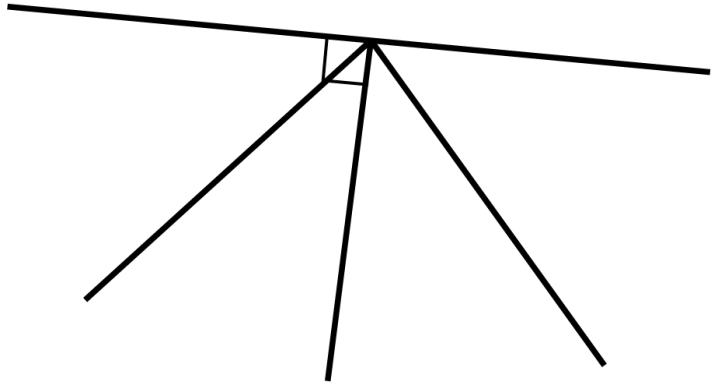

답: _____ 개

답: _____ 개

3. 다음 도형에서 ㉠ + ㉡ + ㉢ 의 각의 크기를 구하시오.

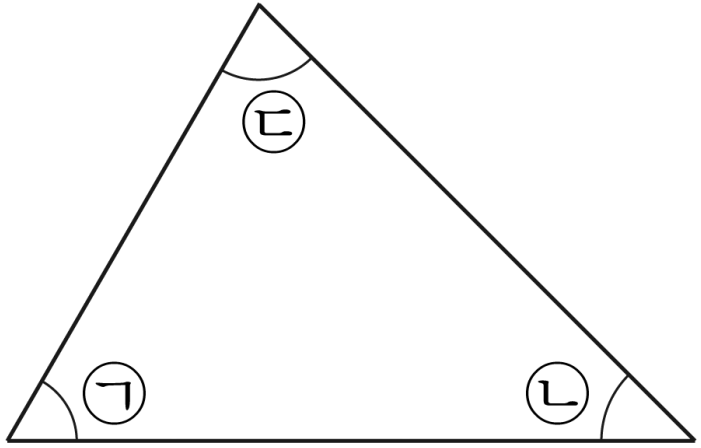

답 : _____ °

4. 윤주네 반 학생들이 좋아하는 계절을 조사하여 나타낸 표와 막대그래프입니다.

<좋아하는 계절>

계절	봄	여름	가을	겨울	계
학생 수(명)	28	18	20	14	80

〈좋아하는 계절〉

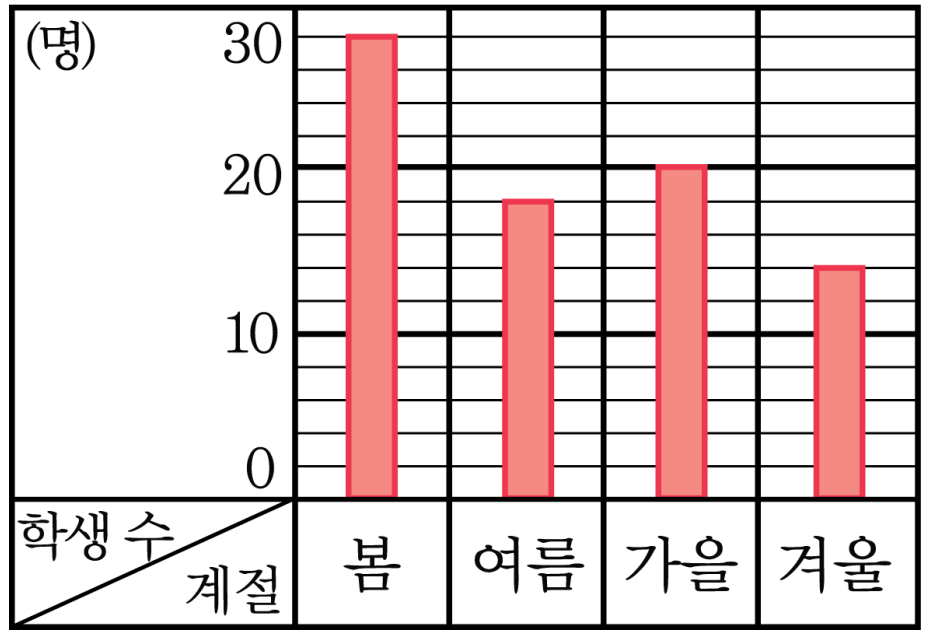

모두 몇 명을 조사하였는지 알아보기 쉬운 것은 표와 막대그래프 중 어느 것인지 쓰시오.

답: _____

5. 각의 크기가 가장 큰 각은 어느 것인지 고르시오.

① 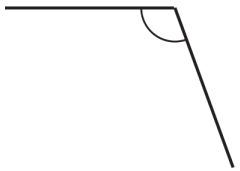

② 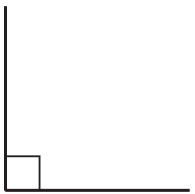

③

④ 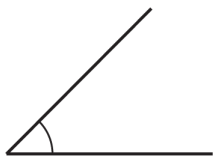

⑤ 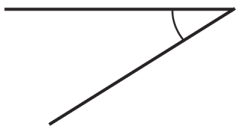

6. 다음 시계의 시계 바늘이 이루는 작은 각을 보고, 물음에 답하시오.



(1) 예각인 것은 어느 것입니까?
(2) 직각인 것은 어느 것입니까?
(3) 둔각인 것은 어느 것입니까?

① (1) ㉮ (2) ㉯ (3) ㉰

② (1) ㉮ (2) ㉰ (3) ㉯

③ (1) ㉮ (2) ㉯ (3) ㉱

④ (1) ㉯ (2) ㉰ (3) ㉮

⑤ (1) ㉰ (2) ㉯ (3) ㉱

7. 다음은 각도기를 이용하여 35°인 각 ㄱㄴㄷ을 그리는 방법입니다. 순서대로 기호를 쓴 것은 어느 것입니까?

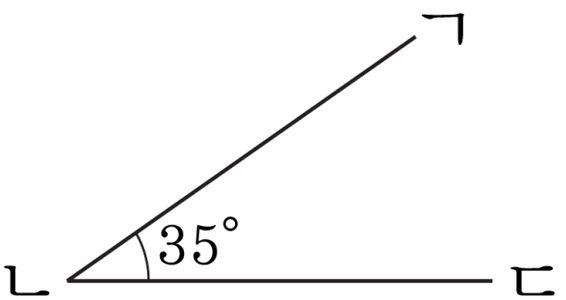

㉠ 각도기의 밑금을 변 ㄴㄷ에 맞춥니다.

㉡ 각도기에서 35°가 되는 눈금 위에 점 ㄱ을 찍습니다.

㉢ 각의 한 변 ㄴㄷ을 긋습니다.

㉣ 각도기의 중심을 각의 꼭짓점이 될 점 ㄴ에 맞춥니다.

㉤ 점 ㄱ과 점 ㄴ을 이어 각의 다른 한 변 ㄱㄴ을 긋습니다.

① ㉢, ㉣, ㉡, ㉠, ㉤

② ㉢, ㉠, ㉡, ㉣, ㉤

③ ㉢, ㉣, ㉠, ㉡, ㉤

④ ㉣, ㉢, ㉠, ㉡, ㉤

⑤ ㉣, ㉠, ㉢, ㉡, ㉤

8. 다음 중 각 ㄱㄴㄷ을 바르게 나타낸 것은 어느 것입니까?

① 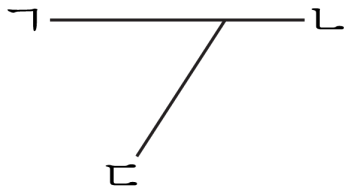

② 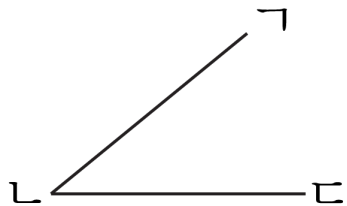

③ 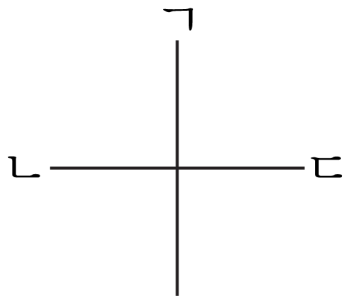

④ 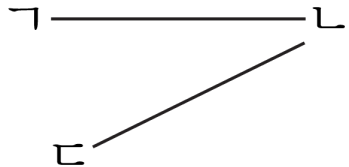

⑤

9. 다음 곱셈을 하고, 곱이 큰 수부터 차례로 기호를 쓴 것을 고르시오.

㉠ 347×34	㉡ 346×35
㉢ 345×36	㉣ 344×37

① ㉠, ㉡, ㉢, ㉣ ② ㉡, ㉠, ㉢, ㉣ ③ ㉠, ㉡, ㉣, ㉢

④ ㉡, ㉠, ㉣, ㉢ ⑤ ㉣, ㉢, ㉡, ㉠

10. 다음 중 나눗셈의 몫이 다른 하나는 어느 것입니까?

① $60 \div 30$ ② $120 \div 60$ ③ $120 \div 40$

④ $180 \div 90$ ⑤ $100 \div 50$

11. 다음 중 몫이 다른 하나는 어느 것입니까?

① $240 \div 30$ ② $640 \div 80$ ③ $800 \div 10$

④ $120 \div 15$ ⑤ $720 \div 90$

12. 두 각의 크기를 비교하여 ◯안에 >, <를 알맞게 써넣으시오.

3 직각−75° ◯ 1 직각+82°

답 : _____

13. 다음 중 계산 결과가 가장 큰 것과 가장 작은 것의 차를 구하시오.

㉠ 432×60	㉡ 827×30
㉢ 535×50	㉣ 618×40

답 : _____

14. 문구점에서는 스케치북 한 권을 2200 원에 사서 2450 원에 판다고 합니다. 스케치북 37 권을 팔았다면 그 이익금은 얼마인지 구하시오.

답: ________ 원

15. 다음 중 나눗셈의 나머지가 5인 것은 어느 것인지 고르시오.

① $65 \div 14$ ② $75 \div 14$ ③ $81 \div 20$

④ $86 \div 23$ ⑤ $78 \div 15$

16. 다음 수 배열표의 색칠된 칸의 규칙으로 알맞은 것은 어느 것입니까?

60002	60003	60004	60005	60006
60102	60103	60104	60105	60106
60202	60203	60204	60205	60206
60302	60303	60304	60305	60306
60402	60403	60404	60405	60406

① 11씩 커집니다.

② 100씩 커집니다.

③ 101씩 커집니다.

④ 111씩 커집니다.

⑤ 1001씩 커집니다.

17. 어떤 수를 34 로 나누었더니 몫이 16 이고, 나머지가 23 이었습니다. 어떤 수는 얼마인지 구하시오.

답: _____

18. 어떤 물건 ㉠을 7 개, ㉡을 6 개 사는 데 모두 86700 원을 썼습니다. ㉠ 물건 5 개와 ㉡ 물건 3 개의 값이 서로 같다면, ㉠, ㉡ 한 개씩의 값은 각각 얼마입니까?

① ㉠ : 5100 원, ㉡ : 8400 원

② ㉠ : 5100 원, ㉡ : 8500 원

③ ㉠ : 5200 원, ㉡ : 8400 원

④ ㉠ : 5200 원, ㉡ : 8500 원

⑤ ㉠ : 5200 원, ㉡ : 8600 원

19. 다음을 막대그래프를 그리는 순서대로 나열하시오.

보기

㉠ 그린 막대그래프에 알맞은 제목을 붙입니다.

㉡ 가로와 세로 중에서 조사한 수를 어느 쪽에 나타낼 것인지를 정합니다.

㉢ 조사한 수에 맞도록 막대를 그립니다.

㉣ 조사한 수 중에서 가장 큰 수까지 나타낼 수 있도록 눈금 한 칸의 크기를 정한 후, 눈금의 수를 정합니다.

답 : _____

답 : _____

답 : _____

답 : _____

20. 규칙적인 계산식에서 $\square$ 안에 알맞은 식은 어느 것입니까?

$9 \times 9 + 7 = 88$

$98 \times 9 + 6 = 888$

$987 \times 9 + 5 = 8888$

$9876 \times 9 + 4 = 88888$

$\square = 888888$

① $9876 \times 9 + 3$ ② $9876 \times 9 + 4$ ③ $98765 \times 9 + 3$

④ $98765 \times 9 + 4$ ⑤ $98765 \times 9 + 5$