1. △, □ 안에 알맞은 두 수의 곱을 구하시오.

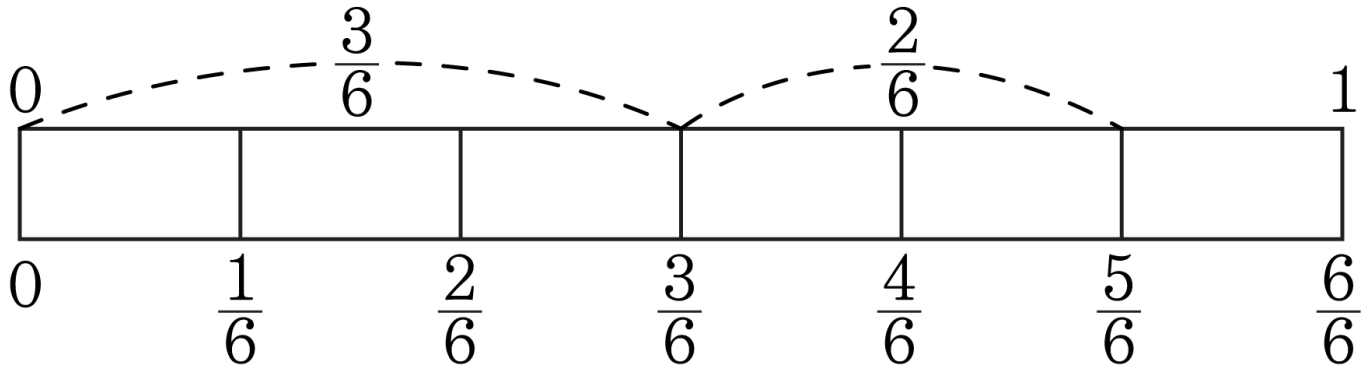

$$\frac{3}{6}+\frac{2}{6}=\frac{\triangle}{\square}$$

답 : _____

2. 두 수의 크기를 비교하여 ○ 안에 >, < 또는 =를 써넣으시오.

$$3\frac{4}{5}-1\frac{2}{5} \bigcirc 6\frac{1}{5}-1\frac{3}{5}$$

답: _____

3. 다음 도형은 정삼각형입니다. 변 ㄱㄷ의 길이를 구하시오.

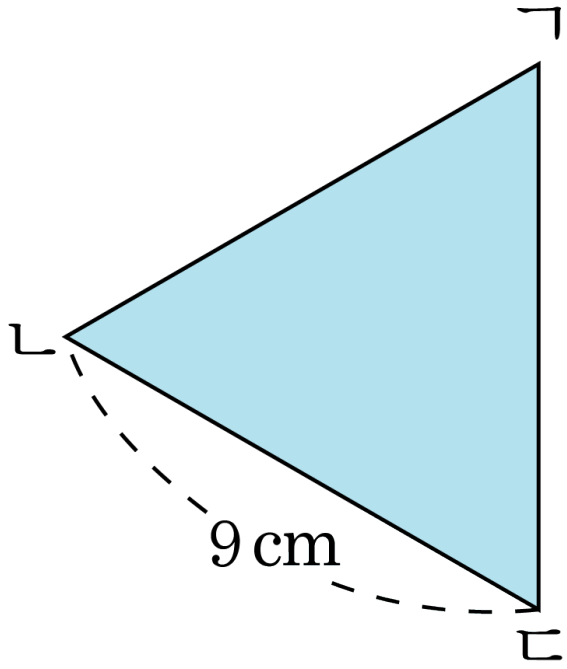

답: _____ cm

4. 보기와 같이 분수를 소수로 나타내시오.

보기

$$\frac{3}{10} \rightarrow 0.3$$

$$\frac{33}{100} \rightarrow 0.33$$

$$\frac{57}{100}$$

답 : _____

5. $\square$ 안에 알맞은 소수를 써넣으시오.

1이 7
0.1이 4
0.01이 3

인 수는 $\square$이다.

답: _____

6. 다음 소수를 차례대로 바르게 읽은 것은 어느 것입니까?

(1) 0.154 (2) 0.375

① (1) 영일오사 (2) 영삼칠오

② (1) 영점 일오사 (2) 영점 삼칠오

③ (1) 영점 백오십사 (2) 영점 삼백칠십오

④ (1) 일오사 (2) 삼칠오

⑤ (1) 영점 사오일 (2) 영점 오칠삼

7. 다음 중 지울 수 있는 0이 있는 것을 모두 고르시오.

① 60 ② 0.007 ③ 0.690

④ 30.400 ⑤ 300.2

8. 다음 그림에서 굵은 선이 평행선이 <u>없는</u> 것을 모두 고르시오.

① 

②

③

④ 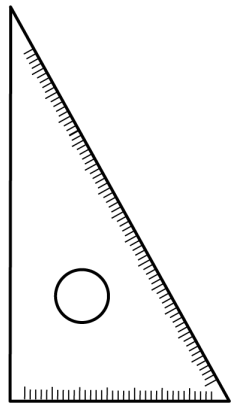

⑤ 

9. $\square$ 안에 알맞은 수를 고르시오.

$$3\frac{6}{7}+7\frac{5}{7}=\square\frac{4}{7}$$

① 9 ② 10 ③ 11 ④ 12 ⑤ 13

10. 광식이의 생일에 남자 어린이들은 피자를 $4\frac{1}{4}$ 만큼 먹었고, 여자 어린이들은 $5\frac{3}{4}$ 만큼 먹었습니다. 남자 어린이들과 여자 어린이들이 먹은 피자는 모두 얼마입니까?

① 9 ② $9\frac{1}{2}$ ③ 10 ④ $10\frac{1}{4}$ ⑤ $10\frac{1}{2}$

11. 다음 설명 중 옳지 <u>않은</u> 것은 어느 것입니까?

① 정삼각형은 세 변의 길이가 같은 삼각형입니다.

② 삼각형의 세 각이 모두 예각이면 예각삼각형입니다.

③ 삼각형의 세 각이 모두 둔각이면 둔각삼각형입니다.

④ 삼각형의 세 각 중 한 각이 직각이면 직각삼각형이다.

⑤ 삼각형의 한 각이 직각이면 다른 두 각은 모두 예각이다.

12. 다음 그림을 보고 예각삼각형은 모두 고른 것은 어느 것 입니까?

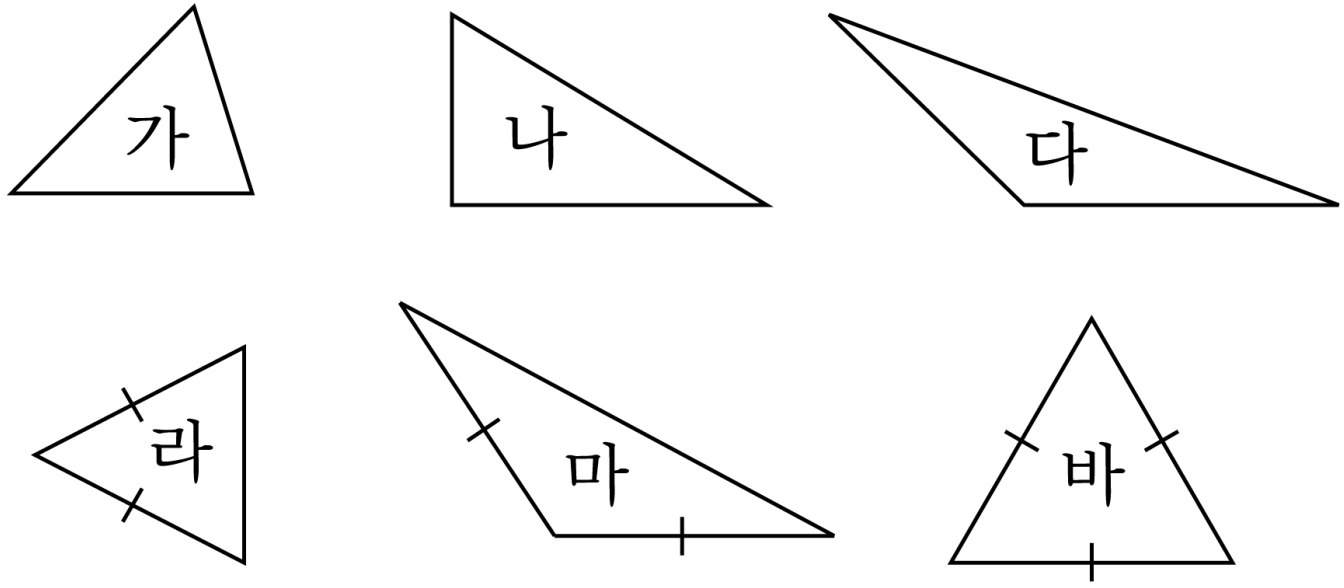

① 가, 나, 바 ② 가, 라, 바 ③ 가, 마, 바

④ 나, 라, 바 ⑤ 라, 바

13. 다음 소수의 뺄셈을 바르게 계산한 것을 고르시오.

(1) $0.9 - 0.2$ (2) $0.8 - 0.6$

① (1) 0.7 (2) 0.2 ② (1) 0.7 (2) 1.2 ③ (1) 1 (2) 0.2

④ (1) 1 (2) 0.7 ⑤ (1) 1 (2) 1.2

14. 소수의 덧셈을 하시오.

$$\begin{array}{r} 0.73 \\ +\ 0.58 \\ \hline \end{array}$$

답 : _____

15. 소수의 뺄셈을 바르게 계산한 것을 고르시오.

(1) $0.78 - 0.17$ (2) $0.48 - 0.23$

① (1) 0.59 (2) 0.225

② (1) 0.6 (2) 0.25

③ (1) 0.61 (2) 0.25

④ (1) 0.61 (2) 0.35

⑤ (1) 0.62 (2) 0.35

16. 소수의 뺄셈을 바르게 계산한 것을 고르시오.

(1) $0.88 - 0.78$ (2) $0.61 - 0.18$

① (1) 0.11 (2) 0.33

② (1) 0.9 (2) 0.43

③ (1) 0.9 (2) 0.33

④ (1) 0.1 (2) 0.33

⑤ (1) 0.1 (2) 0.43

17. 다음 마름모에 대한 설명 중 <u>틀린</u> 것을 모두 고르시오.

① 네 변의 길이가 모두 같다.

② 마주 보는 변의 길이가 서로 같다.

③ 이웃하는 각의 크기가 같다.

④ 마주 보는 각의 크기가 서로 같다.

⑤ 네 각의 크기가 모두 같다.

18. [보기]와 같이 계산하고, 다음 중 차례대로 계산한 값을 고르시오.

보기

$$5\frac{8}{10}-1\frac{3}{10}=\frac{58}{10}-\frac{13}{10}=\frac{45}{10}=4\frac{5}{10}$$

(1) $4\frac{8}{10}-2\frac{5}{10}$
(2) $3\frac{4}{9}-1\frac{1}{9}$

① (1) $4\frac{4}{10}$ (2) $3\frac{4}{9}$
② (1) $2\frac{3}{10}$ (2) $2\frac{3}{9}$
③ (1) $2\frac{4}{10}$ (2) $2\frac{4}{9}$
④ (1) $1\frac{4}{10}$ (2) $2\frac{4}{9}$
⑤ (1) $1\frac{4}{10}$ (2) $1\frac{4}{9}$

19. 꽃병의 물이 $9\frac{17}{18}$ L 있습니다. 그 중에서 $3\frac{5}{18}$ L 를 쏟아서 $2\frac{7}{18}$ L 의 물을 채워 넣었습니다. 꽃병의 물은 몇 L 가 되었는지 구하시오.

① $8\frac{1}{18}$ L ② $8\frac{11}{18}$ L ③ $9\frac{1}{18}$ L

④ $9\frac{9}{18}$ L ⑤ $9\frac{11}{18}$ L

20. 길이가 15 cm 인 색 테이프 5 개를 $1\frac{6}{7}$ cm 씩 겹쳐서 붙였습니다. 전체 색 테이프의 길이는 몇 cm 가 되겠는지 구하시오.

① $7\frac{3}{7}$ cm ② $7\frac{4}{7}$ cm ③ $66\frac{4}{7}$ cm

④ $67\frac{3}{7}$ cm ⑤ $67\frac{4}{7}$ cm

21. 다음 중 평행사변형이 아닌 것은 어느 것인지 고르시오.

① 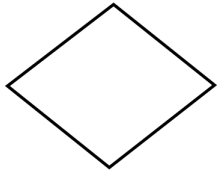

②

③ 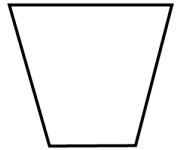

④ 

⑤ 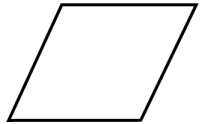

22. 다음 중 평행사변형이 가지는 성질을 갖는 것을 모두 고르시오.

① 사다리꼴 ② 사각형 ③ 정사각형

④ 마름모 ⑤ 다각형

23. 계산 결과가 가장 큰 수부터 차례로 쓴 것을 고르시오.

㉠ $0.38 + 0.84$	㉡ $1.84 - 0.17$
㉢ $0.47 + 0.5$	㉣ $1.9 - 0.62$

① ㉠,㉡,㉢,㉣ ② ㉡,㉣,㉠,㉢ ③ ㉢,㉡,㉣,㉠

④ ㉢,㉠,㉡,㉣ ⑤ ㉣,㉠,㉡,㉢

24. 다음 도형에서 변 ㄱㄴ과 평행인 선분은 모두 몇 개입니까?

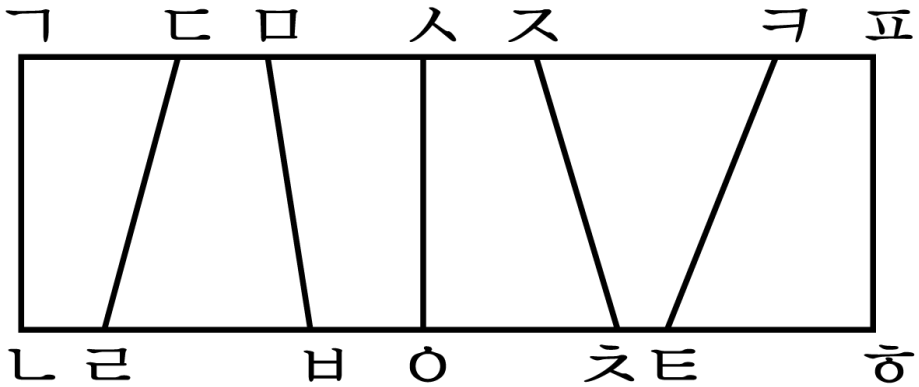

답: _____ 개

25. $\boxed{}$안에 알맞은 수를 써넣으시오.

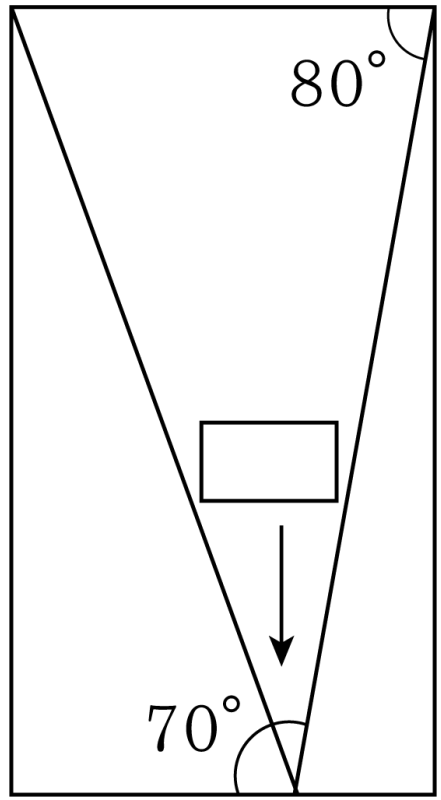

답: _____ °