1. 진철이는 같은 반 학생들이 좋아하는 음식을 조사하였다. 진철이네 반 학생들이 가장 좋아하는 음식을 쉽게 알 수 있는 것을 보기에서 고르면?

보기

㉠ 중앙값 ㉡ 최빈값 ㉢ 평균

㉣ 표준편차 ㉤ 편차

답: _____

2. 네 개의 자료 $10, 12, 14, x$의 평균이 13일 때, x의 값은?

① 10 ② 12 ③ 14 ④ 16 ⑤ 18

3. 다음 보기의 자료들 중에서 표준편차가 가장 큰 자료와 가장 작은 자료를 차례대로 나열한 것은?

보기

㉠ 3, 9, 3, 9, 3, 9　　㉡ 2, 2, 2, 4, 4, 4

㉢ 5, 5, 5, 5, 5, 5　　㉣ 7, 7, 7, 10, 10, 10

① ㉠,㉡　② ㉠,㉢　③ ㉠,㉣　④ ㉡,㉢　⑤ ㉡,㉣

4. 다음 표는 정미의 5 회에 걸친 수학 시험의 성적을 나타낸 것이다. 이 자료의 분산을 구하여라.

회차	1회	2회	3회	4회	5회
점수(점)	85	87	83	90	80

답: 분산: _____

5. 다음은 정희네반 학생의 25 명이 일주일간 먹은 음료수 수를 나타낸 히스토그램이다. 학생들이 일주일간 먹은 음료수 수의 분산과 표준편차를 구하여라.

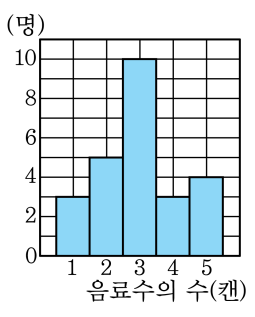

답: 분산 : _____

답: 표준편차 : _____

6. 다음은 학생 9명의 철봉 매달리기 기록이다. 이 때, 중앙값과 최빈값을 차례대로 구하여라.

12, 5, 13, 10, 8, 20, 22, 18, 5

답: 중앙값: _____

답: 최빈값: _____

7. 다음은 희정이네 학급 43 명의 일주일 동안의 운동시간을 조사하여 나타낸 그래프이다. 학생들의 운동시간의 중앙값과 최빈값은?

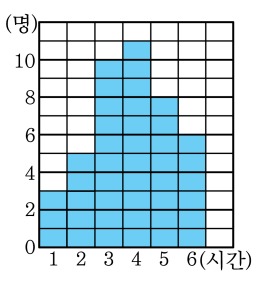

① 중앙값 : 3, 최빈값 : 3

② 중앙값 : 3, 최빈값 : 4

③ 중앙값 : 4, 최빈값 : 3

④ 중앙값 : 4, 최빈값 : 4

⑤ 중앙값 : 5, 최빈값 : 5

8. 3 회에 걸친 영어 시험 성적이 84 점,82 점, 90 점이다. 4 회의 시험에 몇 점을 받아야 4 회까지의 평균이 86 점이 되겠는가?

① 80 점 ② 82 점 ③ 84 점 ④ 86 점 ⑤ 88 점

9. 영이의 4 회에 걸친 음악 성적이 90, 84, 88, 94 이다. 다음 시험에서 몇 점을 받아야 평균이 90 점 되겠는가?

① 88 점 ② 90 점 ③ 92 점 ④ 94 점 ⑤ 96 점

10. 양궁선수 A 는 5 회의 시합을 통하여 활을 쏜 기록의 평균을 9 점이 되게 하고 싶다. 4 회까지의 기록의 평균이 8.75 점 일 때, 5 회에는 몇 점을 받아야 하는지 구하여라.

답: _____ 점

11. 다음은 5 명의 학생의 수면 시간의 편차를 나타낸 표이다. 이때, 5 명의 학생의 수면 시간의 분산은?

이름	우진	유림	성호	민지	희정
편차(시간)	1	-2	3	x	0

① 3 ② 3.2 ③ 3.4 ④ 3.6 ⑤ 3.8

12. 성적이 가장 고른 학급은? (단, 각 학급의 학생 수는 모두 같다.)

학급	A	B	C	D	E
평균(점)	7	8	6	7	6
표준편차(점)	1	2	1.5	2.4	0.4

① A ② B ③ C ④ D ⑤ E

13. 세 수, a, b, c의 평균과 분산이 각각 $2, 4$이다. 세 수 $3a+1, 3b+1, 3c+1$의 평균과 분산을 각각 구하면?

① 평균 : 5, 분산 : 10
② 평균 : 6, 분산 : 20
③ 평균 : 7, 분산 : 25
④ 평균 : 7, 분산 : 36
⑤ 평균 : 8, 분산 : 36

14. 다음 그림은 영희네 분단 학생 10 명의 몸무게를 조사하여 그린 히스토그램이다. 학생들 10 명의 몸무게의 분산을 구하여라.

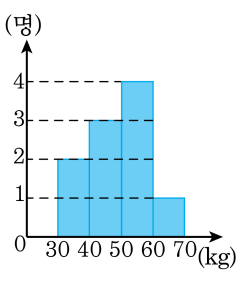

답: _____

15. 다음은 학생 8 명의 기말고사 수학 성적을 조사하여 만든 것이다. 학생들 8 명의 수학 성적의 분산은?

계급	계급값	도수	(계급값)×(도수)
$55^{이상} \sim 65^{미만}$	60	3	180
$65^{이상} \sim 75^{미만}$	70	3	210
$75^{이상} \sim 85^{미만}$	80	1	80
$85^{이상} \sim 95^{미만}$	90	1	90
계	계	8	560

① 60 ② 70 ③ 80 ④ 90 ⑤ 100

16. 다음은 학생 8 명의 기말고사 국어 성적을 조사하여 만든 것이다. 학생들 8 명의 국어 성적의 분산은?

계급	도수
$55^{이상} \sim 65^{미만}$	3
$65^{이상} \sim 75^{미만}$	3
$75^{이상} \sim 85^{미만}$	1
$85^{이상} \sim 95^{미만}$	1
합계	8

① 60 ② 70 ③ 80 ④ 90 ⑤ 100

17. 다음 표는 동건이의 일주일동안 수학공부 시간을 조사하여 나타낸 것이다. 수학공부 시간의 평균은?

요일	일	월	화	수	목	금	토
시간	2	1	0	3	2	1	5

① 1 시간 ② 2 시간 ③ 3 시간
④ 4 시간 ⑤ 5 시간

18. 다음은 올림픽 국가대표 선발전에서 준결승을 치른 양궁 선수 4명의 점수를 나타낸 것이다. 네 선수 중 표준 편차가 가장 큰 선수를 구하여라.

기영	10, 9, 8, 8, 8, 8, 9, 10, 10
준수	10, 10, 10, 9, 9, 9, 8, 8, 8
민혁	10, 9, 9, 9,8, 8, 9, 9, 10
동현	8, 10, 7, 8, 10, 7, 9, 10, 7

답: _____

19. 5개의 변량 $3, 5, x, 6, 8$의 평균이 6일 때, 분산을 구하여라. (단, 소수로 쓸 것)

답: _____

20. 5개의 변량 $3, a, 4, 8, b$의 평균이 5이고 분산이 3일 때, a^2+b^2의 값을 구하여라.

답: _____