1. 삼각기둥에서 밑면과 수직인 면은 모두 몇 개인지 구하시오.

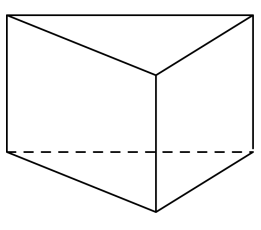

답: _____ 개

2. 다음 그림과 같은 오각뿔에서 모서리 ㄱㄴ과 평행하지도 만나지도 않는 모서리를 모두 고르시오.

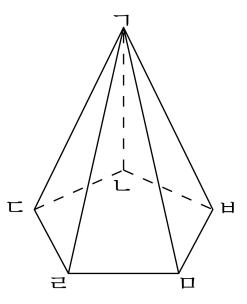

① 모서리 ㄴㄷ ② 모서리 ㄷㄹ ③ 모서리 ㄱㄹ

④ 모서리 ㄹㅁ ⑤ 모서리 ㅁㅂ

3. 다음 도형에 나타난 선분 중 각뿔의 꼭짓점을 지나는 가장 짧은 선분을 구하시오. (단, 점선도 포함하여 생각합니다.)

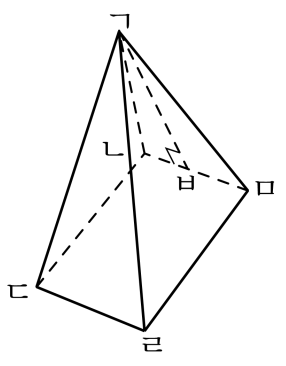

답: 선분 _____

4. 다음 전개도를 접어 만든 입체도형의 꼭짓점은 몇 개입니까?

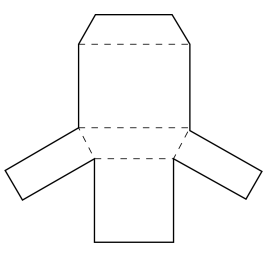

답: _____ 개

5. 다음 중 계산을 바르게 한 것은 어느 것입니까?

① $\frac{2}{5} \div \frac{5}{6} = \frac{1}{3}$ ② $\frac{5}{9} \div \frac{2}{3} = 1\frac{1}{5}$ ③ $\frac{5}{8} \div \frac{3}{4} = \frac{5}{6}$
④ $\frac{2}{5} \div \frac{12}{13} = 2\frac{4}{13}$ ⑤ $\frac{4}{9} \div \frac{5}{6} = \frac{5}{27}$

6. $\square$ 안에 들어갈 알맞은 수를 고르시오.

$$\frac{4}{9} \div \frac{5}{6} = \square$$

① $\frac{10}{27}$ ② $\frac{4}{15}$ ③ $1\frac{7}{8}$ ④ $\frac{7}{15}$ ⑤ $\frac{8}{15}$

7. 다음 분수의 나눗셈을 하시오.

$$1\frac{7}{8} \div \frac{5}{6} = \square$$

① $2\frac{1}{4}$ ② $2\frac{1}{6}$ ③ $2\frac{1}{8}$ ④ $\frac{4}{9}$ ⑤ 2

8. 철사를 구부려서 옷걸이를 한 개 만드는 데 철사 $\frac{7}{8}$ m가 필요합니다. 28 m의 철사로는 옷걸이를 몇 개 만들 수 있습니까?

답: _____ 개

9. ○ 안에 >, =, < 를 알맞게 써넣으시오.

$3 \div 0.15$ ○ $2 \div 0.04$

답: _____

10. 나눗셈의 몫을 반올림하여 소수 첫째 자리까지 구하시오.

$2.8 \div 0.6$

답: _____

11. 각기둥에서 개수가 가장 많은 것을 고르시오.

① 옆면 ② 모서리 ③ 면
④ 밑면 ⑤ 꼭짓점

12. 전개도로 사각기둥을 만들었을 때, 면 ㅋㅂㅅㅊ 과 수직인 면을 모두 고르시오.

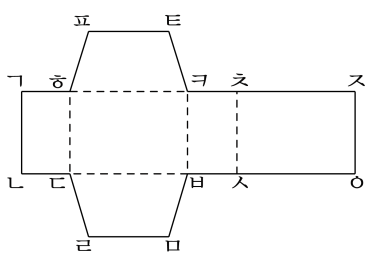

① 면 ㅍㅎㅋㅌ ② 면 ㄱㄴㄷㅎ ③ 면 ㄷㄹㅁㅂ

④ 면 ㅎㄷㅂㅋ ⑤ 면 ㅊㅅㅇㅈ

13. 다음은 사각기둥의 전개도에서 변 ㅂㅁ과 맞닿는 변은 어느 것인지 고르시오.

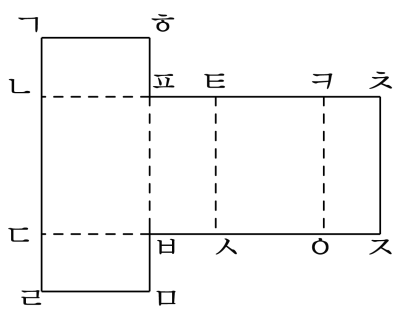

① 변 ㄱㅎ ② 변 ㄷㄹ ③ 변 ㅂㅅ

④ 변 ㅇㅈ ⑤ 변 ㅍㅌ

14. 어떤 각뿔을 보고, 면과 모서리의 수를 세어 더했더니 19 가 되었습니다. 이 각뿔은 다음 중 어느 것인지 고르시오.

① 삼각뿔 ② 사각뿔 ③ 오각뿔
④ 육각뿔 ⑤ 칠각뿔

15. 직사각형의 넓이가 $\frac{13}{14}\,\mathrm{m}^2$ 일 때, 직사각형의 둘레의 길이는 몇 m 입니까?

① $2\frac{1}{35}$ m ② $3\frac{1}{35}$ m ③ $4\frac{1}{35}$ m
④ $5\frac{1}{35}$ m ⑤ $6\frac{1}{35}$ m

16. 다음 나눗셈 중 몫이 가장 큰 것은 어느 것입니까?

① $2.46 \div 0.6$ ② $9.66 \div 2.1$ ③ $5.16 \div 1.2$

④ $10.92 \div 2.8$ ⑤ $8.64 \div 2.4$

17. $7.75 \div 1.4$ 의 몫을 소수 첫째 자리까지 구했을 때 그 나머지를 구하시오.

답: _____

18. 길이가 10.4m 인 철사를 0.6m 씩 잘라서 고리를 만들려고 합니다. 고리를 최대한 많이 만들면 몇 m 의 철사가 남는지 구하시오.

답: _____ m

19. $\square$ 안에 알맞은 수를 써넣으시오.

$$\square \div 4.2 = 2.9 \cdots 0.14$$

답: _____

20. 어떤 수를 8.6으로 나누어야 할 것을 빼었더니 21.3이 되었습니다. 바르게 계산한 몫은 얼마입니까? (단, 몫은 반올림하여 소수 첫째 자리까지 나타내시오.)

답: _____

21. 다음 마름모의 넓이가 21.46cm^2 일 때, 다른 대각선의 길이를 구하시오.

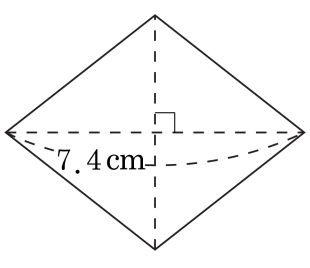

답: _____ cm

22. 어떤 자동차가 1 시간 30 분 동안 124km를 달렸습니다. 이 자동차는 1 시간에 약 몇 km를 달린 셈인지 반올림하여 소수 둘째 자리까지 구하시오.

답: 약 _____ km

23. 면의 수와 꼭짓점의 수의 합이 22개인 각뿔의 이름은 무엇인지 구하시오.

답: _____

24. 다음 나눗셈을 계산하였더니 $7\frac{4}{5}$가 되었습니다. 어떤 수 $\square$를 $\frac{21}{30}$로 나누었을 때의 몫을 구하시오.

$$2\frac{4}{7} \times \square \times 3$$

① $\frac{1}{9}$ ② $1\frac{1}{9}$ ③ $1\frac{2}{9}$ ④ $1\frac{4}{9}$ ⑤ $1\frac{5}{9}$

25. 나눗셈의 몫이 작은 것부터 순서대로 기호를 쓴 것은 어느 것입니까?

㉠ $5 \div \frac{2}{3}$	㉡ $5 \div \frac{7}{8}$	㉢ $5 \div \frac{5}{6}$
㉣ $5 \div \frac{3}{10}$	㉤ $5 \div \frac{1}{3}$	

① ㉣, ㉤, ㉠, ㉢, ㉡
② ㉡, ㉢, ㉠, ㉤, ㉣
③ ㉤, ㉠, ㉣, ㉢, ㉡
④ ㉡, ㉢, ㉣, ㉠, ㉤
⑤ ㉠, ㉤, ㉢, ㉡, ㉣