1. 국어 문제집 3 종류, 수학 문제집 3 종류가 있다. 이 가운데 문제집 한 권을 선택할 수 있는 경우의 수를 구하여라.

답: _____ 가지

2. 수진이네 모둠에는 남학생 5 명, 여학생 5 명이 있다. 이 모둠에서 반장 1 명과 남녀 부반장 1 명씩을 뽑는 경우의 수는?

① 180 ② 186 ③ 196 ④ 200 ⑤ 204

3. 2개의 주사위를 동시에 던질 때, 나온 눈의 합이 4 또는 7일 확률은?

① $\frac{1}{3}$ ② $\frac{1}{4}$ ③ $\frac{2}{3}$ ④ $\frac{1}{5}$ ⑤ $\frac{1}{6}$

4. 동전 1개와 주사위 1개를 동시에 던질 때, 동전은 뒷면이 나오고 주사위는 소수의 눈이 나올 확률을 구하여라.

답: _____

5. 주머니 속에 흰 공 3개, 검은 공 4개, 파란 공 5개가 들어 있다. 이 중에서 연속하여 두 개의 구슬을 꺼낼 때, 처음에는 흰 공, 두 번째는 검은 공이 나올 확률은? (단, 꺼낸 구슬은 다시 넣지 않는다.)

① $\frac{1}{3}$ ② $\frac{1}{11}$ ③ $\frac{1}{4}$ ④ 7 ⑤ 12

6. 3개의 동전을 동시에 던질 때, 2개는 앞면이 나오고 1개는 뒷면이 나오는 경우의 수를 구하여라.

답: _____ 가지

7. 10번 타수 중에서 3번 안타를 치는, 즉 타율이 3할인 야구 선수가 있다. 어느 경기에서 이 선수가 세 타석에서 모두 안타를 칠 확률을 구하면?

① 0.06 ② 0.09 ③ 0.012 ④ 0.036 ⑤ 0.027

8. 다음 그림의 직사각형 ABCD 는 $\overline{AB} = 5\text{cm}$, $\overline{AD} = 20\text{cm}$ 이다. $\overline{BC}$ 위에 $\overline{AE} = \overline{DE}$ 가 되도록 점 E 를 잡을 때, $\triangle ABE$ 의 넓이는?

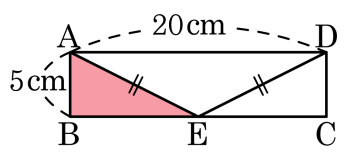

① 20cm^2 ② 25cm^2 ③ 30cm^2

④ 35cm^2 ⑤ 35cm^2

9. 다음 그림에서 점 O 는 삼각형 ABC 의 외심이고, 점 O 에서 $\overline{BC}$ 에 내린 수선의 발을 D 라 할 때, $\overline{OA}$, $\overline{OB}$, $\overline{OC}$ 중 길이가 가장 긴 선분은?

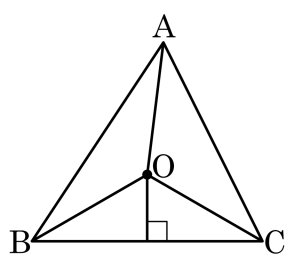

① $\overline{OA}$ ② $\overline{OB}$ ③ $\overline{OC}$

④ 모두 같다. ⑤ 알 수 없다.

10. 다음 그림에서 □ABCD 는 평행사변형이다. ∠A 와 ∠B 의 크기의 비가 3 : 7 일 때, ∠A 와 ∠B 의 크기를 차례로 구한 것은?

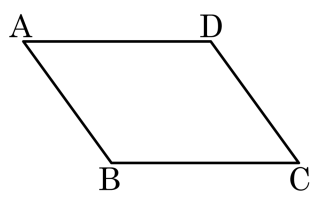

① 126°, 54°　② 54°, 126°　③ 144°, 36°
④ 36°, 144°　⑤ 120°, 60°

11. 다음 □ABCD 의 두 대각선의 교점을 O 라 할 때, 다음 중 평행사변형이 되지 <u>않은</u> 것은?

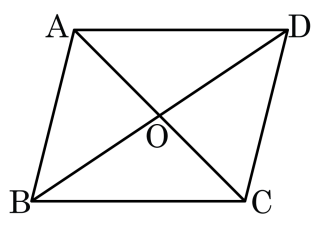

① $\overline{AB} = \overline{DC},\ \overline{AD} = \overline{BC}$

② $\overline{OA} = \overline{OC},\ \overline{OB} = \overline{OD}$

③ $\overline{AB} // \overline{DC},\ \overline{AD} // \overline{BC}$

④ $\angle A + \angle D = \angle B + \angle C$

⑤ $\overline{AB} // \overline{DC},\ \overline{AB} = \overline{DC}$

12. 다음 그림과 같은 평행사변형 ABCD 에 대하여 두 대각선의 교점을 O 라고 하자. $\triangle AOD = 20cm^2$ 일 때, □ABCD 의 넓이는?

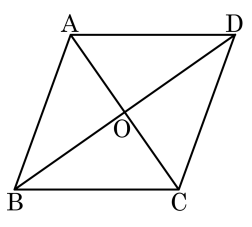

① $40cm^2$ ② $60cm^2$ ③ $80cm^2$

④ $100cm^2$ ⑤ $120cm^2$

13. 다음 그림과 같은 직사각형 ABCD 에서 $x+y$ 의 값을 구하여라. (단, 단위생략)

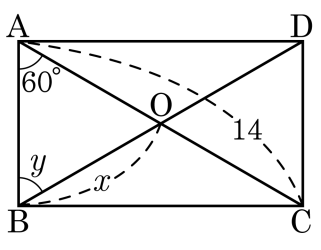

답: _____

14. 다음 그림과 같은 마름모 ABCD 의 한 꼭짓점 A 에서 $\overline{BC}$, $\overline{CD}$ 에 내린 수선의 발을 P , Q 라 하고, $\angle PAQ = 50°$ 일 때, $\angle APQ$ 의 크기를 구하여라.

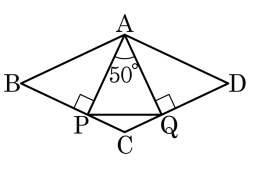

답: _____ °

15. A, B, C, D의 4명 중에서 3명을 뽑아 한 줄로 세우려고 한다. A가 맨 앞에 서는 경우의 수는?

① 6가지 ② 12가지 ③ 18가지
④ 20가지 ⑤ 24가지

16. 1 에서 6 까지의 숫자가 적힌 6 장의 카드를 차례로 늘어놓았을 때, 양끝의 숫자가 짝수일 경우의 수는 몇 가지인가?

① 40 가지 ② 60 가지 ③ 120 가지
④ 144 가지 ⑤ 180 가지

17. 네 자리 자연수 중 천의 자리 숫자와 일의 자리 숫자는 같고, 백의 자리 숫자와 십의 자리 숫자의 합이 10 인 수의 개수를 구하여라.

답: _____ 개

18. 상자에 흰 구슬 3개, 검은 구슬 4개, 파란 구슬이 들어있다. 이때, 임의로 한 개를 꺼낼 때 흰 구슬이 나올 확률이 $\frac{1}{3}$ 이었다. 이 상자에서 파란 구슬을 꺼낼 확률은 얼마인가?

① $\frac{1}{8}$ ② $\frac{2}{9}$ ③ $\frac{3}{10}$ ④ $\frac{4}{11}$ ⑤ $\frac{5}{12}$

19. $\triangle ABC$ 에서 $\angle B$ 와 $\angle C$ 의 크기의 비는 $2:3$이고, $\overline{AD}=\overline{BD}=\overline{CD}$ 가 되도록 점 D 를 잡았을 때, $\angle BAD$ 의 크기는?

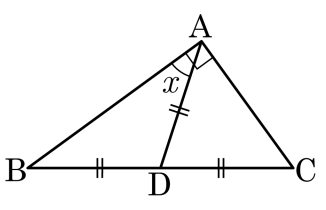

① $30°$ ② $32°$ ③ $34°$ ④ $36°$ ⑤ $38°$

20. 다음 그림에서 점 I 는 $\triangle ABC$ 의 내심이고 $\overline{DE} // \overline{BC}$ 일 때, $x+y = (\quad)^\circ$ 의 값을 구하여라.

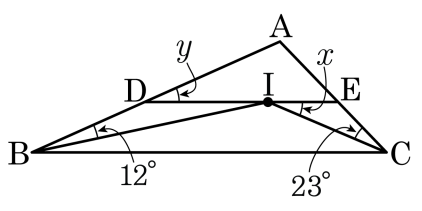

답: _____

21. 다음 그림과 같은 평행사변형 ABCD의 두 대각선의 교점을 O라 하고, $\overline{AB} = 3\text{cm}$, $\overline{OC} = 2\text{cm}$, $\overline{BD} = 8\text{cm}$이다. 변 DC의 연장선과 $\angle BAC$의 이등분선의 교점을 E라 할 때, $\overline{DE}$의 길이를 구하여라.

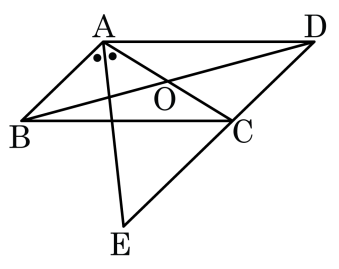

답: _____ cm

22. 다음 두 삼각형을 보고 $\square$ 안에 들어갈 기호를 차례대로 구하여라.
닮음비는 $a : e = b : \square = c : \square$ 이다.

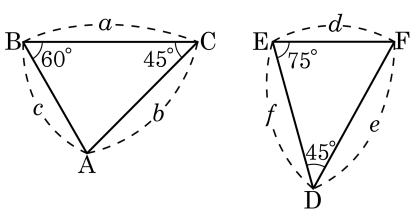

답: _____

답: _____

23. 다음 그림과 같이 원뿔을 잘라 원뿔대와, 원뿔을 만들었다. 원뿔대의 높이 x의 값을 구하여라.

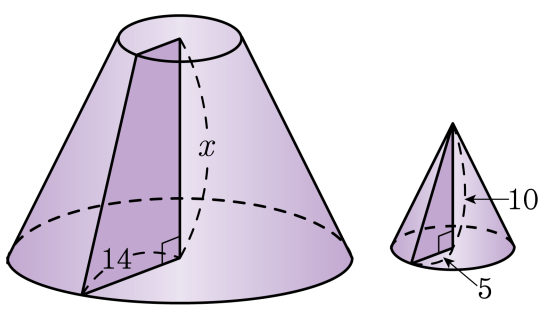

답: _____

24. 다음 그림에서 $\angle ABC = \angle FDC = 90°$ 일 때, $\triangle ADE$ 와 닮은 삼각형이 <u>아닌</u> 것을 모두 고르면?

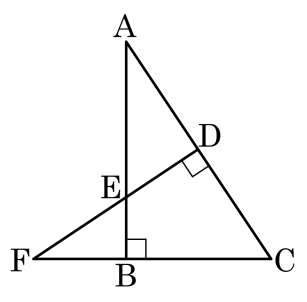

① $\triangle EBC$ ② $\triangle ABC$ ③ $\triangle FBE$

④ $\triangle FDC$ ⑤ $\triangle EDC$

25. 다음 그림과 같은 직각삼각형 ABC 에서 $x^2 + y^2$ 의 값을 구하여라.

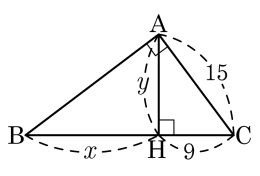

① 200 ② 300 ③ 400

④ 500 ⑤ 600