1. 다음 그림에서 $\angle x$ 의 크기를 구한 것은?

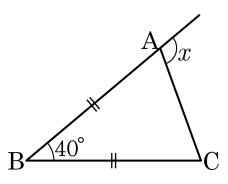

① 80° ② 90° ③ 100°

④ 110° ⑤ 120°

2. 다음 그림과 같이 $\overline{AB} = \overline{AC}$, $\angle BAD = \angle CAD$, $\angle ACE = 110°$일 때, $\angle x$의 크기를 구하여라.

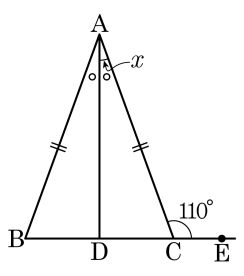

답: _____ °

3. 다음 그림에서 x 의 길이를 구하여라.

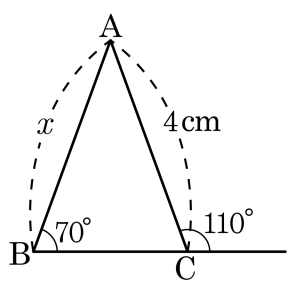

답: _____ cm

4. 폭이 일정한 종이테이프를 다음 그림과 같이 접었다. $\angle BAC = 70°$ 일 때, $\angle BAC$ 와 크기가 같은 각은?

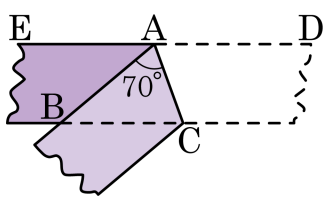

① $\angle ABC$ ② $\angle ACB$ ③ $\angle EAC$

④ $\angle BAD$ ⑤ $\angle EAD$

5. 다음 두 직각삼각형의 합동조건을 쓰고 $\angle x$ 의 크기를 구하여라.

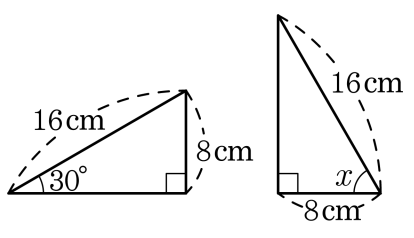

답: _____ 합동

답: _____ °

6. 다음 그림과 같이 $\overline{AB} = \overline{AC}$ 인 이등변삼각형 ABC 에서 $\angle ACD = 138^\circ$ 일 때, $\angle ABC$ 의 크기는?

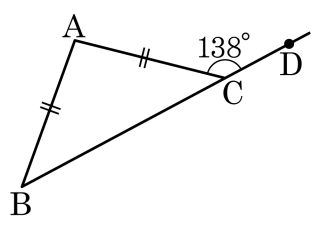

① 40° ② 42° ③ 44° ④ 46° ⑤ 48°

7. 다음 그림과 같이 $\overline{AB} = \overline{AC}$ 인 이등변삼각형 ABC 에서 $\angle A = 62°$ 일 때, $\angle x$ 의 크기는?

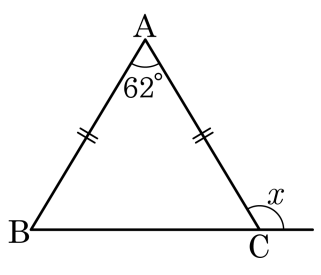

① 120° ② 121° ③ 122° ④ 123° ⑤ 124°

8. 다음 $\triangle ABC$ 는 $\overline{AB} = \overline{AC}$ 인 이등변삼각형이다. 그림을 보고 옳은 것을 모두 고른 것은?

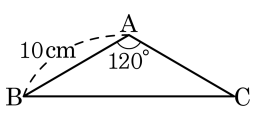

㉠ $\overline{AC} = 10\text{cm}$	㉡ $\angle B = 60°$
㉢ $\angle C = 30°$	

① ㉠　② ㉡　③ ㉢　④ ㉠, ㉢　⑤ ㉡, ㉢

9. $\overline{AB} = \overline{AC}$ 인 이등변삼각형에서 $\overline{BC} = \overline{BD}$ 가 되도록 AC 위에 점 D 를 잡을 때, $\angle x$ 의 값은?

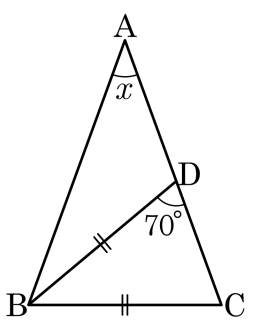

① 20° ② 30° ③ 40° ④ 50° ⑤ 60°

10. 폭이 일정한 종이테이프를 다음 그림과 같이 접었다. $\triangle ABC$ 는 어떤 삼각형인지 구하여라.

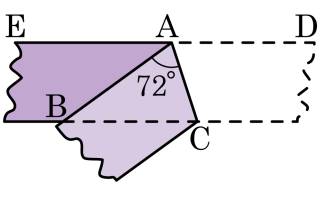

답: _____

11. 다음 삼각형 중에서 (가)와 (다), (나)와 (라), (마)와 (바)가 서로 합동이다. 빈 칸에 들어갈 숫자로 옳지 <u>않은</u> 것을 모두 고르면?

보기

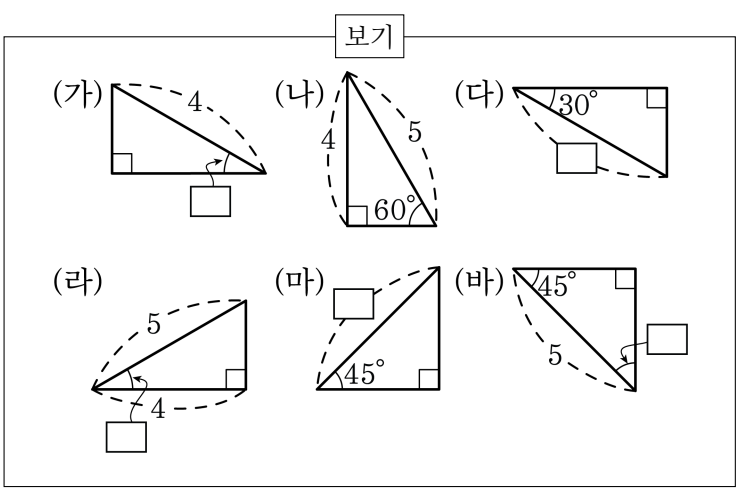

① (가) 30 °　　② (다) 4　　③ (라) 60 °

④ (마) 5　　⑤ (바) 55 °

12. 다음 삼각형 중에서 (가)와(마), (나)와(다), (라)와(바)가 서로 합동이다. 빈 칸에 들어갈 숫자로 옳지 <u>않은</u> 것을 모두 고르면?

보기

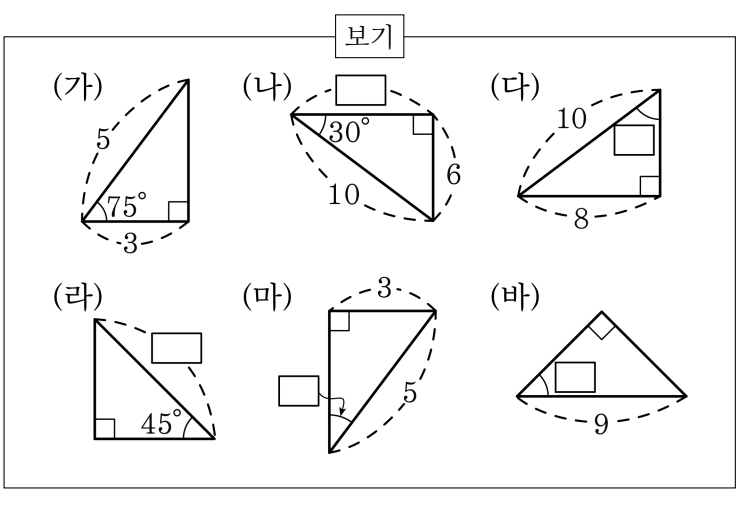

① (나) 8　　② (다) 45 °　　③ (라) 9

④ (마)30 °　　⑤ (바)45 °

13. 다음 그림과 같이 $\overline{AB} = \overline{AC}$ 인 이등변삼각형 ABC 에서 $\overline{BC}$ 의 중점을 M 이라 하자. 점 M 에서 $\overline{AB}, \overline{AC}$ 에 내린 수선의 발을 각각 D, E 라 할 때, $\overline{MD} = \overline{ME}$ 임을 나타내는 과정에서 필요한 조건이 <u>아닌</u> 것은?

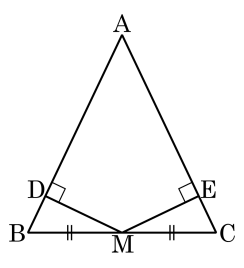

① $\overline{BM} = \overline{CM}$

② $\angle B = \angle C$

③ $\overline{BD} = \overline{CE}$

④ $\angle BDM = \angle CEM$

⑤ RHA 합동

14. 다음 그림과 같은 $\triangle ABC$ 에서 $\angle FDC = 28^\circ$ 일 때, $\angle A$ 의 크기를 구하여라.

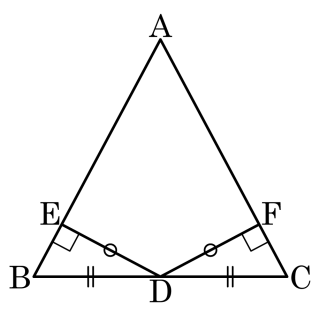

답: _____ °

15. 다음 그림과 같이 $\angle AOB$의 이등분선 위의 한 점 P에서 두 변 OA, OB에 내린 수선의 발을 각각 C, D라고 할 때, 다음 중 옳지 <u>않은</u> 것은?

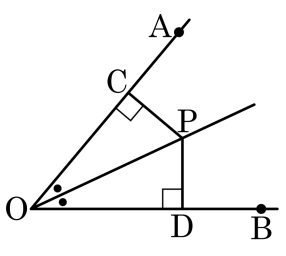

① $\angle PCO = \angle PDO$　　② $\angle COP = \angle DOP$

③ $\overline{PC} = \overline{PD}$　　④ $\triangle COP \equiv \triangle DOP$

⑤ $\overline{OC} = \overline{OP} = \overline{OD}$

16. 다음 그림과 같이 $\overline{AP} = \overline{BP}$, $\overline{AB} \perp \overline{CP}$ 인 삼각형 ABC를 보고 옳은 것을 모두 골라라.

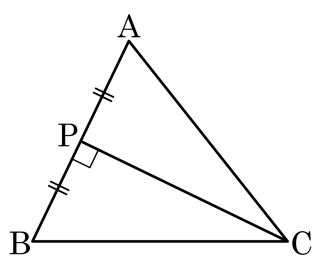

㉠ $\angle A = \angle B$	㉡ $\triangle ABC$ 는 직각삼각형
㉢ $\angle ACP = \angle BCP$	㉣ $\overline{AC} \neq \overline{BC}$

답: _____

답: _____

17. 다음은 「$\overline{AB} = \overline{AC}$ 인 이등변삼각형 ABC 에서 변 AB, AC 위의 두 점 D, E 에 대하여 $\overline{AD} = \overline{AE}$ 이면 $\overline{DC} = \overline{EB}$ 이다.」를 증명한 것이다. 다음 ㉠ ~ ㉤에 짝지은 것으로 옳지 <u>않은</u> 것은?

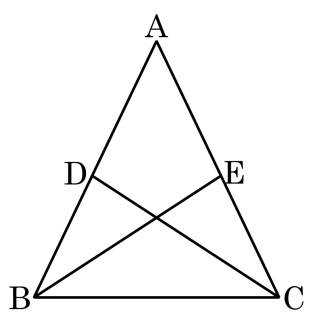

[가정] △ABC 에서 $\overline{AB} = \overline{AC}$, $\overline{AD}=$ ㉠
[결론] $\overline{DC} =$ ㉡
[증명] △ABE 와 △ACD 에서
$\overline{AB} =$ ㉢,
$\overline{AE} =$ ㉣, ∠A 는 공통이므로
△ABE ≡ △ACD (㉤ 합동)
∴ $\overline{DC} =$ ㉡

① ㉠ : $\overline{AE}$　② ㉡ : $\overline{EB}$　③ ㉢ : $\overline{AC}$
④ ㉣ : $\overline{AD}$　⑤ ㉤ : ASA

18. 다음 그림과 같이 폭이 일정한 종이 테이프를 접었다. $\angle DCE = 50°$ 일 때, $\angle ABC$ 의 크기를 구하여라.

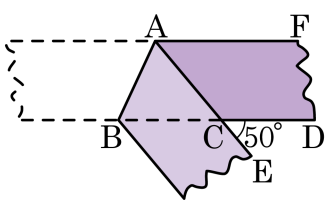

답: _____ °

19. 다음 그림에 대한 설명 중 옳은 것은?

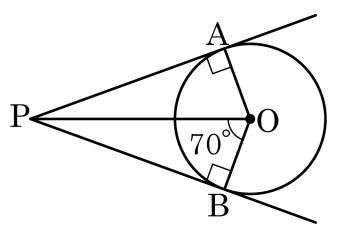

① $\overline{AP} = \frac{1}{2}\overline{AO}$

② $\triangle PAO \equiv \triangle PBO$

③ $\angle APB = 30°$

④ $\angle POA = 60°$

⑤ $\overline{PO} = \overline{AP}$

20. 다음 그림에서 $\angle PAO = \angle PBO = 90°$ 이고 $\overline{PA} = \overline{PB}$일 때, 다음 중 보기에서 옳은 것을 모두 골라라.

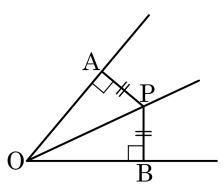

보기

㉠ $\overline{AO} = \overline{BO}$	㉡ $\angle APO = \angle BPO$
㉢ $\angle AOB = \angle APB$	㉣ $\triangle AOP \equiv \triangle BOP$
㉤ $\angle AOP = \angle BOP$	㉥ $\overline{OA} = \overline{OP}$

답: _____

답: _____

답: _____

답: _____

21. 다음의 도형에서 $\overline{PA} = \overline{PB}$이면 점 P는 $\angle AOB$의 이등분선 위에 위치함을 증명하려고 한다. 증명의 과정 중 옳지 <u>않은</u> 것을 골라라.

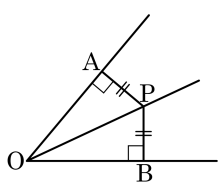

(증명)
$\triangle PAO$와 $\triangle PBO$에서 ㉠ $\angle PAO = \angle PBO = 90°$이고,
㉡ $\overline{PA} = \overline{PB}$이고, $\overline{OP}$는 공통이므로
$\triangle PAO \equiv \triangle PBO$ (㉢ RHA 합동)이다.
그러므로 ㉣ $\angle POA = \angle POB$이다.
따라서 ㉤ 점 P는 $\angle AOB$의 이등분선 위에 위치한다.

답: _____

22. 다음 그림에서 $\angle AOB$ 의 이등분선 $\overline{OC}$ 위의 점 P 로부터 변 OA , OB 에 내린 수선의 발을 각각 Q, R 라 할 때, 다음 중 옳지 <u>않은</u> 것은?

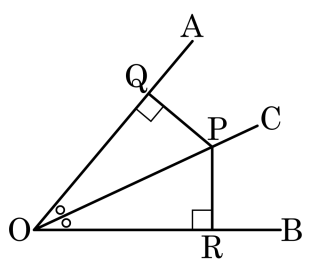

① $\angle POQ = \angle POR$　　② $\angle OQP = \angle ORP$

③ $\triangle POQ \equiv \triangle POR$　　④ $\overline{PQ} = \overline{PR}$

⑤ $\overline{OQ} = \overline{OR} = \overline{OP}$

23. 다음 그림에서 $\triangle ABC$ 는 이등변삼각형이다.
$\angle ACD = \angle DCE$, $\angle ABD = 2\angle DBC$, $\angle A = a$ 일 때, $\angle BDC$ 의 크기를 a 로 나타내면?

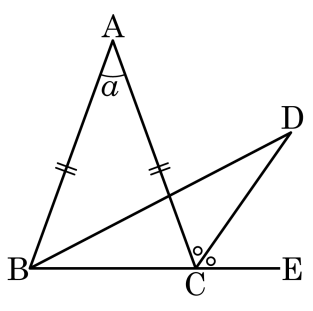

① $15° - \frac{5}{12}a$　② $15° + \frac{5}{12}a$　③ $-15° + \frac{5}{12}a$
④ $15° + \frac{5}{14}a$　⑤ $15° - \frac{5}{14}a$

24. 다음 그림과 같이 $\angle C = 90°$ 이고 변 AB, AC 의 길이가 각각 10cm, 6cm 인 직각삼각형 ABC 에서 $\angle A$ 의 이등분선이 변 BC 와 만나는 점을 D 라 한다. 선분 DC 의 길이가 3cm 일 때, 선분 BD 의 길이를 구하여라.

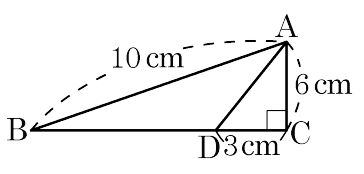

답: _____ cm

25. 다음 그림에서 $\triangle ABC$ 의 $\angle A$, $\angle C$ 의 외각의 이등분선의 교점을 O 라 하고, 점 O 에서 각 변의 연장선 위에 내린 수선의 발을 D, E, F 라 할 때, 다음 중 옳지 <u>않은</u> 것은?

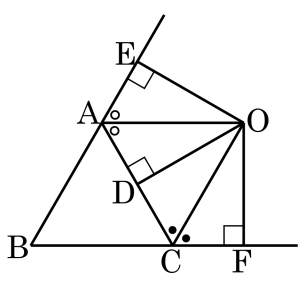

① $\overline{OD} = \overline{OE} = \overline{OF}$

② $\triangle ADO \equiv \triangle CDO$

③ $\triangle AEO \equiv \triangle ADO$

④ $\overline{CD} = \overline{CF}$

⑤ $\overline{AD} = \overline{AE}$