1. ☐ 안에 알맞은 수나 말을 써넣으시오.

1000 이 40 이면 ☐이라 씁니다.

답: _____

2. 만이 4724, 일이 93 인 수를 읽어 보시오.

답: _____

3. 억이 371 , 만이 4536 인 수를 읽어 보시오.

답: _____

4. 다음 수를 숫자로 쓰시오.

일억이 8, 천만이 1, 백만이 3, 십만이 7, 천이 6, 백이 8 인 수

답: _____

5. 다음 수를 읽어 보시오.

301004876054 를 100 배 한 수

답: _____

6. 조가 125, 억이 4600, 백만이 23, 십만이 89, 1 이 7420 인 수를 바르게 써보시오.

답: _____

7. 0 에서 9 까지의 숫자를 한 번씩 써서 열 자리의 수를 만들었을 때, 가장 큰 수의 숫자 8 이 나타내는 수는 가장 작은 수의 숫자 8 이 나타내는 수의 몇 배입니까?

답: _____ 배

8. 빈 곳에 알맞은 수를 차례대로 써넣으시오.

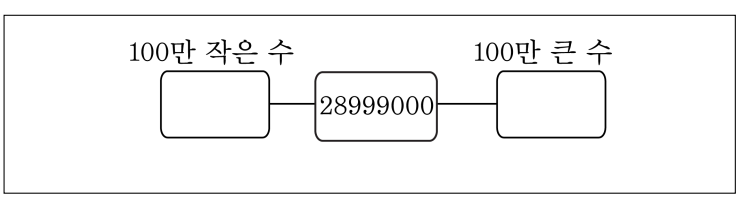

답: _____

답: _____

9. 직각보다 작은 각은 어느 것입니까?

① 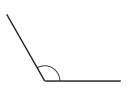

② 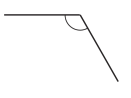

③

④

⑤ 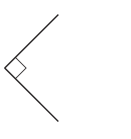

10. 전체 쪽수가 328 쪽인 위인전을 매일 38 쪽씩 읽으려고 합니다. 이 위인전을 모두 읽으려면 며칠이 걸리겠는지 구하시오.

답: _____ 일

11. 다음 수에서 ㉠의 자리의 수는 ㉡의 자리의 수의 몇 배입니까?

$\underset{㉠}{\underline{5}}\,9\,4\,\underset{㉡}{\underline{5}}\,9\,2\,0\,1$

답: _____ 배

12. 어느 회사에서 다음과 같이 예금을 하였습니다. 이 회사가 예금한 돈은 얼마입니까?

천만 원짜리 수표 12 장
백만 원짜리 수표 19 장
십만 원짜리 수표 85 장
만 원짜리 돈 100 장씩 246 묶음

답: _____ 원

13. 어느 회사에서 직원들의 급여를 주기 위하여 은행에서 다음과 같이 돈을 찾았습니다. 찾은 돈은 모두 얼마입니까?

10000 원짜리 지폐가 1000 장씩 350 묶음, 1000 원짜리 지폐가 100 장씩 8200 묶음

답: _____ 원

14. 다음 일곱 자리의 두 수가 있는데 찢겨져 보이지 않는 곳이 있습니다. 어느 쪽이 더 큰 수인지 >, < 를 알맞게 써넣으시오.

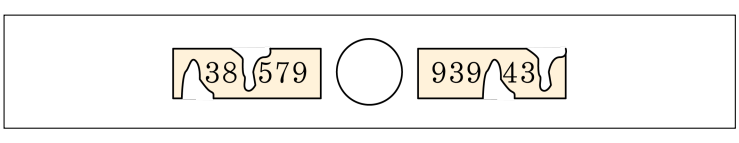

답: _____

15. 다음에서 □안의 수는 지워져서 보이지 않습니다. 두 수의 크기를 비교하여 >, <로 나타내시오.

8095□45000 ○ 팔십억 구천오백구십오만

답: _____

16. 다음 중 옳지 <u>않은</u> 것을 고르시오.

① 248×37 의 값은 9176 입니다.

② 718×52 는 736×48 보다 큽니다.

③ (세 자리수)× (두 자리 수) 의 계산을 할 때는 세로로 놓고 계산하는 것이 좋습니다.

④ 307×90 은 $307 \times 9 \times 10 = (307 \times 9) \times 10$ 으로 계산할 수 있습니다.

⑤ 한 상자에 24 개씩의 배가 들어 있는 상자 312 개가 있을 때, 배의 개수는 모두 7460 개입니다.

17. 경수네 학교 4 학년 어린이 172 명이 박물관 견학을 가려고 합니다. 어린이 한 명의 입장료가 80 원이라면 이들이 낼 입장료는 모두 얼마인지 구하시오.

답: _____ 원

18. 다음 중 나머지가 큰 것부터 차례로 기호를 쓴 것은 어느 것인지 구하시오.

㉠ $700 \div 19$	㉡ $835 \div 35$
㉢ $626 \div 25$	㉣ $709 \div 27$

① ㉠, ㉡, ㉢, ㉣　② ㉡, ㉠, ㉣, ㉢　③ ㉡, ㉣, ㉢, ㉠
④ ㉢, ㉣, ㉡, ㉠　⑤ ㉣, ㉢, ㉠, ㉡

19. 상수네 과수원에서 사과를 985 개 땄습니다. 한 상자에 36 개씩 담아서 1 상자에 35000 원씩 받고 상자를 모두 팔았습니다. 사과를 판 돈은 얼마이고, 남은 사과는 몇 개인지 순서대로 구하시오.

답: _____ 원

답: _____ 개

20. 다음 수 배열표의 색칠된 칸의 규칙으로 알맞은 것은 어느 것입니까?

541	543	545	547
441	443	445	447
341	343	345	347
241	243	245	247

① 2씩 커집니다.
② 2씩 작아집니다.
③ 100씩 커집니다.
④ 100씩 작아집니다.
⑤ 102씩 커집니다.

21. 다음 숫자 카드를 한 번씩만 사용하여 만든 여덟 자리 수 중에서 두 번째로 작은 수를 구하시오.

$\boxed{0}$ $\boxed{0}$ $\boxed{7}$ $\boxed{3}$ $\boxed{5}$ $\boxed{8}$ $\boxed{4}$ $\boxed{9}$

답: _____

22. 수업 시간은 매시 정각에 시작합니다. 수연이가 오전 체육시간이 시작할 때 시계를 보니, 시계의 시침과 분침이 이루는 각도가 $30°$ 였습니다. 체육 시간은 몇 시부터 시작인지 구하시오.

답: _____ 시

23. $\square$ 안에 알맞은 수를 써넣으시오.

$$2\,\text{직각} + \square - 163^\circ = 1\,\text{직각}$$

답: _____ °

24. 다음 그림에서 각 ㄱㅇㅂ의 크기를 구하시오.

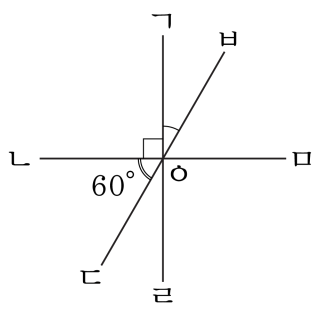

답: _____ °

25. 다음 □안에 알맞은 각도를 써넣으시오.

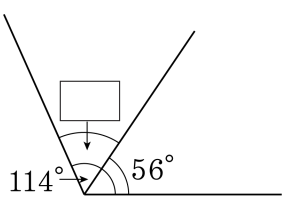

답: _____ °

26. 그림을 보고, 각 ㉠의 크기를 구하시오.

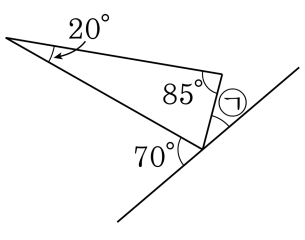

답: _____ °

27. 다음 도형에서 ㉮와 ㉯의 각도의 차를 구하시오.

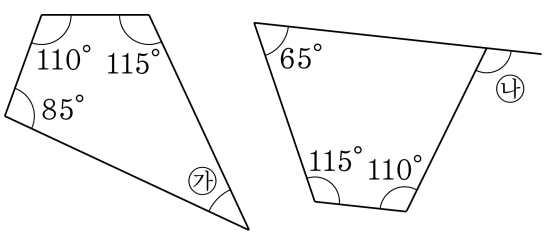

답: _____ °

28. 다음 그림은 컴퍼스를 사용하여 같은 크기의 원 2개를 각각의 원의 중심을 지나도록 그린 것입니다. 이 때, 각 ㉠의 크기를 구하시오.

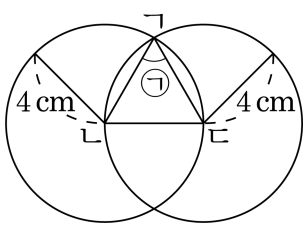

답: _____ °

29. 다음 도형 안의 모든 각의 크기의 합을 구하시오.

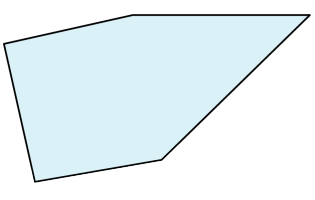

답: _____ °

30. 어떤 수를 29로 나누었더니 몫이 32이고, 나머지가 18이었습니다. 어떤 수는 얼마인지 구하시오.

답: _____

31. 어느 가게에서 어떤 물건을 86 개 사와서 한 개에 620 원씩 모두 팔았더니 14620 원의 이익이 생겼습니다. 이 물건 한 개의 원가를 구하시오.

답: _____ 원

32. 공책은 한 권에 950 원이고, 스케치북 한 권은 공책 한 권보다 650 원이 비싸다고 합니다. 공책 19 권과 스케치북 25 권의 값은 모두 얼마인지 구하시오.

답: _____ 원

33. 민희는 500 원짜리 동전을 600 개 모았고, 영진이는 100 원짜리 동전을 3860 개 모았습니다. 두 사람 중 누가 얼마를 더 많이 모았는지 차례대로 구하시오.

답: _____

답: _____ 원

34. 아래와 같은 약속을 보고
$[<3,5,0>,(5,0,3,9,7,4),(8,3,4,6,9,0)]$을 풀어보시오.

< ㉠, ㉡, ㉢ > : ㉠, ㉡, ㉢을 두 번씩 써서 만든 수 중 가장 작은 수 (㉠, ㉡, ㉢) : ㉠, ㉡, ㉢을 한 번씩 써서 만든 가장 작은 수 [㉠, ㉡, ㉢] : ㉠, ㉡, ㉢중 가장 작은 수

답: _____

35. 그림을 보고, 각 ㉮의 크기를 구하시오.

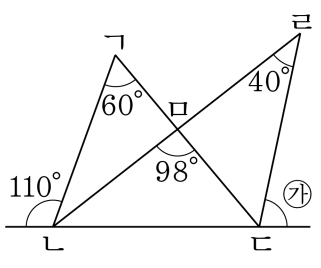

답: _____ °

36. 지금은 1시 30분입니다. 시침과 분침이 이루고 있는 각 중 작은 쪽의 각의 크기를 구하시오.

답: _____ °

37. 다음 그림과 같은 직사각형 모양의 종이를 접었습니다. 각 ㉠의 크기를 구하시오.

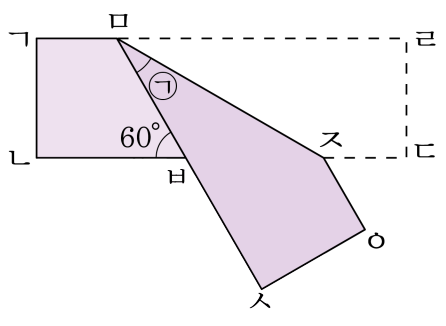

답: _____ °

38. 한 개에 600 원 하는 귤을 35 개 사려고 합니다. 지폐를 낼 수 있는 방법은 모두 몇 가지인지 구하시오.

답: _____ 가지

39. 455와 어떤 수를 곱해야 할 것을 잘못하여 455에서 어떤 수를 뺐더니 387이 되었습니다. 바르게 계산 하면 얼마인지 구하시오.

답: _____

40. 2에서 7까지의 수 중에서 한 번씩만 써서 몫이 가장 큰 수가 나오도록 (세 자리 수)÷ (두 자리 수) 의 나눗셈식을 만들었습니다. 만든 나눗셈식의 몫과 나머지의 합은 얼마인지 구하시오.

답: _____

41. 도형의 배열에서 다섯째에 알맞은 모양은 어느 것입니까?

①

②

③

④

⑤

42. 점의 배열을 보고 여섯째에 알맞은 도형에서 점은 몇 개인지 구하시오.

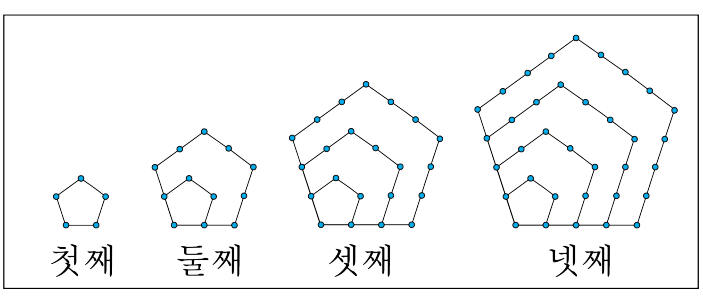

답: _____

43. 바둑돌에 표시된 다음 수의 배열에 대한 설명으로 옳지 않은 것을 모두 고르시오.



① 맨 위쪽의 가로줄은 1부터 시작하여 1, 3, 5, …씩 커집니다.

② ㉠=10+5=15

③ ㉡=13+8=21

④ 맨 왼쪽의 세로줄은 1부터 시작하여 1, 3, 5, …씩 커집니다.

⑤ ㉢=16+9=25