1. 영희가 저금통에 모은 돈은 10000 원짜리 7 장, 1000 원짜리 15 장, 100 원짜리 동전 28 개, 10 원짜리 동전 35 개였습니다. 영희가 저금통에 모은 돈은 모두 얼마인지 구하시오.

답: _____

2. 구슬이 한 상자에 7580 개씩 들어있습니다. 이 상자가 만 개 쌓여 있다면 구슬은 모두 몇 개인지 구하시오.

답: _____ 개

3. 희림이네 사과 가게에서 그 동안 팔린 사과를 돈으로 계산하면 5 억 원이라고 합니다. 이것은 만 원 짜리 지폐로 몇 장입니까?

답: _____ 장

4. 상희의 아버지는 중고차의 가격을 알아보았습니다. 가격을 비교하여 □에 알맞은 수를 순서대로 쓴 것을 고르시오.

(가) 9400000원

(나) 12750000원

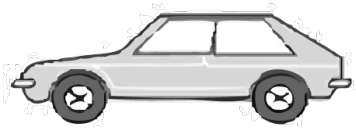

(다) 11950000원



(1) (가) 자동차의 가격은 □자리 수이고 (나) 자동차의 가격은 □자리 수이므로, □자동차가 더 비쌉니다.

(2) (나) 자동차와 (다) 자동차의 가격은 모두 □자리 수입니다. 하지만 위의 자리부터 비교하면, □자동차가 □만의 자리 숫자가 더 크므로 더 비쌉니다.

① (1) 7, 8, 가 (2) 8, 나, 백

② (1) 7, 8, 나 (2) 8, 다, 십

③ (1) 7, 8, 나 (2) 8, 나, 백

④ (1) 7, 9, 나 (2) 9, 나, 백

⑤ (1) 7, 9, 나 (2) 9, 나, 십

5. 다음 $\square$ 안에 알맞은 수를 넣어 1 조가 되도록 바르게 구한 것은 어느 것입니까?

(1) 1 조 = 9000 억 + $\square$
(2) 1 조 = 1000 억 × $\square$
(3) 1 조 = 9800 억 + $\square$
(4) 1 조 = 1 억 × $\square$

① (1) 1000 억 (2) 10 억 (3) 200 억 (4) 10000

② (1) 1000 억 (2) 10 (3) 20 억 (4) 10000

③ (1) 100 억 (2) 10 (3) 200 억 (4) 10000

④ (1) 100 억 (2) 10 억 (3) 200 억 (4) 10000

⑤ (1) 1000 억 (2) 10 (3) 200 억 (4) 10000

6. 1부터 8까지의 숫자를 2번씩 사용하여 만들 수 있는 열여섯자리 수 중 가장 큰 수와 가장 작은 수의 차를 구하시오.

답: _____

7. 7706 억에서 100 억씩 5 번 뛴 수는 얼마입니까?

답: _____

8. 다음 중 가장 큰 수는 어느 것입니까?

① 890 억보다 1 조 큰 수

② 이천억을 1000 배 한 수

③ 82 조 5700 억

④ 3630089485400

⑤ 사조 구천팔억 사천만 팔십

9. 다음 세 수의 크기를 비교하여 큰 수부터 차례로 나열한 것은 어느 것입니까?

㉠ 947□8□289456	㉡ 9479983□7562
㉢ □38□72504378	

① ㉠, ㉢, ㉡ ② ㉠, ㉡, ㉢ ③ ㉡, ㉠, ㉢

④ ㉢, ㉠, ㉡ ⑤ ㉡, ㉢, ㉠

10. 다음 그림에서 가장 작은 각은 어느 것인지 고르시오.

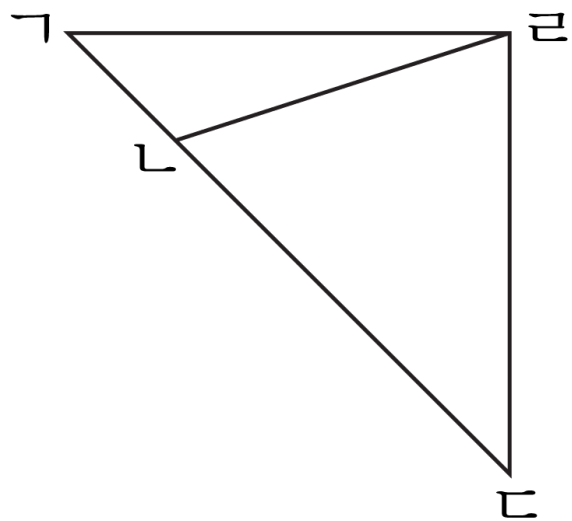

① 각 ㄱㄴㄹ ② 각 ㄱㄹㄴ ③ 각 ㄴㄹㄷ

④ 각 ㄴㄷㄹ ⑤ 각 ㄹㄱㄴ

11. 다음 숫자 카드를 한 번씩 써서 만든 여덟 자리 수 중에서 가장 작은 수의 10000배인 수를 구하였습니다. 이 때 숫자 3이 나타내는 수는 얼마입니까?

2	3	0	6	7	8	9	1

답: _____

12. 숫자 카드 $\boxed{1}$, $\boxed{2}$, $\boxed{3}$, $\boxed{4}$, $\boxed{5}$가 있습니다. 이 숫자 카드를 한 번씩만 써서 가장 큰 수를 만들 때, 숫자 3이 나타내는 수는 얼마입니까?

① 3000　② 30　③ 3

④ 300　⑤ 30000

13. 시계의 시침과 분침이 이루는 작은 각이 예각인 것은 어느 것입니까?

① 2 시 30 분 ② 4 시 ③ 9 시 30 분

④ 7 시 ⑤ 7 시 30 분

14. 다음 시각을 가리키는 시계의 시침과 분침이 이루는 작은 각을 예각, 직각, 둔각으로 바르게 구분한 것은 어느 것입니까?

(1) 11시 15분 (2) 3시 (3) 12시 10분

① (1) 예각 (2) 예각 (3) 둔각

② (1) 예각 (2) 직각 (3) 예각

③ (1) 예각 (2) 직각 (3) 둔각

④ (1) 둔각 (2) 예각 (3) 직각

⑤ (1) 둔각 (2) 직각 (3) 예각

15. 다음 그림에서 각 ㉠의 크기를 구하시오.

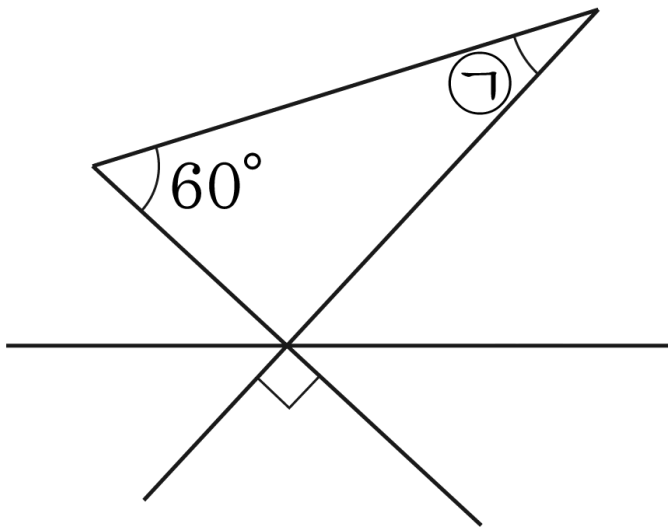

답 : _____ °

16. $\square$ 안에 알맞은 각도를 써넣으시오.

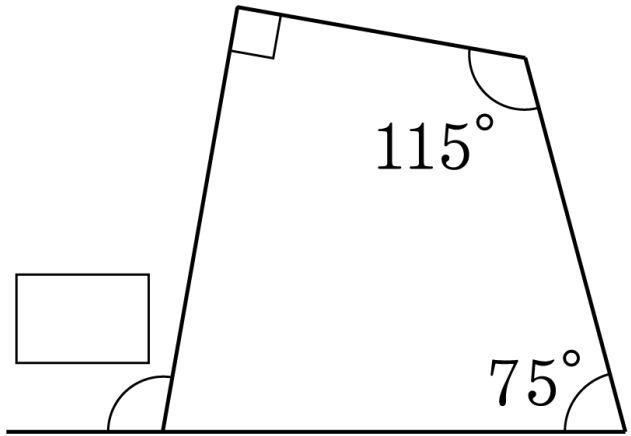

답 : _____ °

17. 다음 도형에서 ㉮와 ㉯의 각도의 합을 구하시오.



답: _____ °

18. 다음 도형에서 각 ㄹㅁㄷ의 크기를 구하시오.

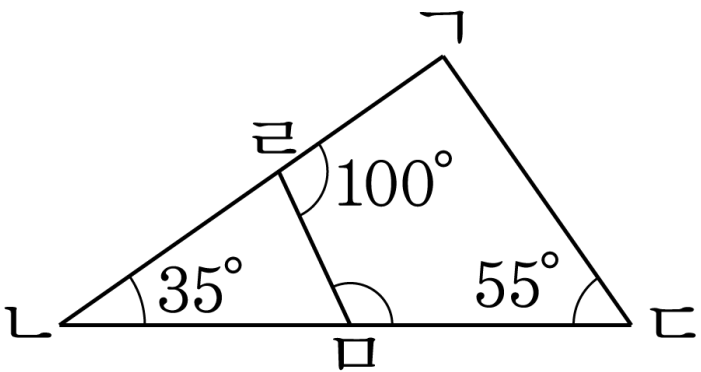

답 : _____ °

19. 다음 도형 안에 있는 모든 각의 크기의 합을 구하시오.

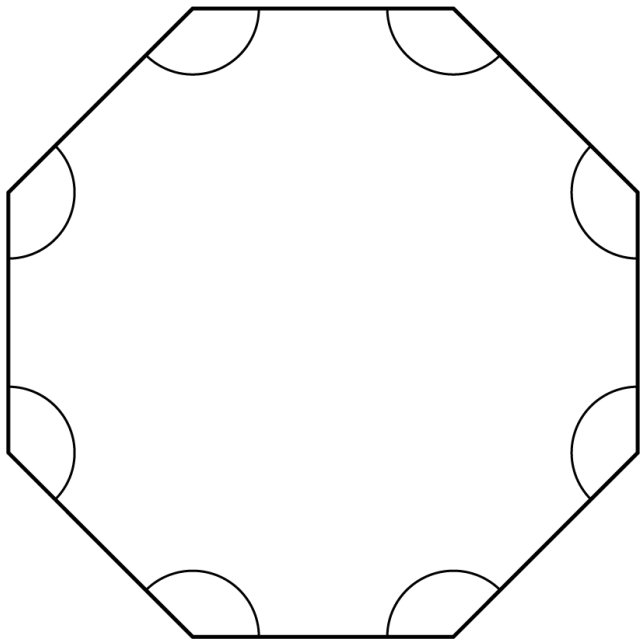

답 : _____ °

20. 다음 그림과 같은 서로 다른 삼각자 2개를 가지고, 겹치지 않게 이어서 만들 수 있는 2직각보다 작은 각 중 가장 큰 각을 쓰시오.

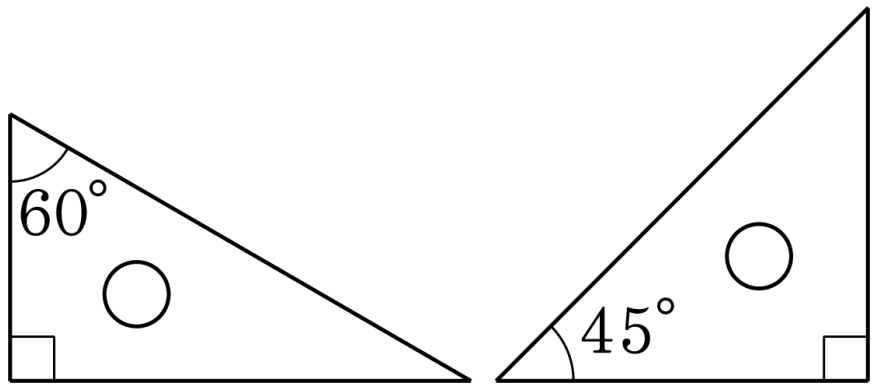

답: _____ °

21. ㉠의 숫자 5가 나타내는 수는 ㉡의 숫자 5가 나타내는 수의 몇 배입니까?

$3\underline{5}82064$	$27036\underline{5}48$
㉠	㉡

답: _____ 배

22. 다음 조건을 만족시키는 수를 구하시오.

㉠ 천억의 자리의 숫자가 4인 열두 자리의 수
㉡ 4600억 보다 작고 4500억 보다 큰 수
㉢ 십억의 자리, 억의 자리의 숫자가 모두 7인 수
㉣ 각 자리의 숫자에 0이 8개인 수

답 : _____

23. 다음 그림에서 각 ㉮의 크기를 구하시오.

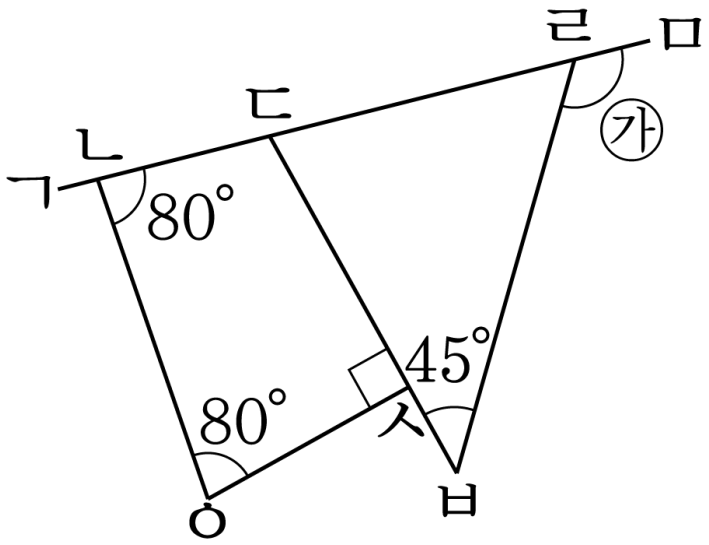

답 : _____ °

24. 8 시 30 분부터 40 분 동안 공부를 하였습니다. 공부가 끝난 시각의 시침과 분침이 이루는 작은 쪽의 각은 몇 도인지 구하시오.

답: _____ °

25. 그림은 직사각형 모양의 종이를 접은 것입니다. ㉮와 ㉯의 각도의 합을 구하시오.

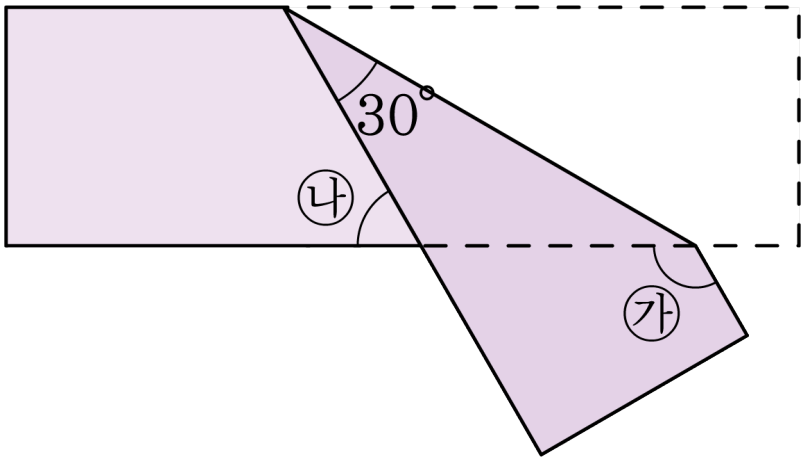

답: ____________ °