1. 다음 중 순환소수의 표현으로 옳지 <u>않은</u> 것은?

① $0.363636\cdots = 0.\dot{3}\dot{6}$

② $2.456456\cdots = \dot{2}.45\dot{6}$

③ $0.053053053\cdots = 0.\dot{0}5\dot{3}$

④ $1.2777\cdots = 1.2\dot{7}$

⑤ $0.342342342\cdots = 0.\dot{3}4\dot{2}$

2. 순환소수 $0.\dot{0}7\dot{2}$ 을 분수로 바르게 나타내어라.

답: _____

3. 다음 중 옳지 <u>않은</u> 것은?

① $(2xy^2)^2 = 4x^2y^4$

② $(-3x)^2 = 9x^2$

③ $(a^2b)^2 = a^4b^2$

④ $(-3ab^2)^2 = -9ab$

⑤ $(-4a^4)^2 = 16a^8$

4. $\left(\frac{a^3b^{\square}}{a^{\square}b^2}\right)^4 = \frac{b^8}{a^4}$ 에서 $\boxed{}$안에 공통적으로 들어갈 수를 구하여라.

답: _____

5. 가로의 길이가 $(2a)^3$, 높이가 $5ab$, 직육면체의 부피가 $80a^5b^2$ 일 때, 세로의 길이는?

① $2ab$ ② $20ab$ ③ $8ab$ ④ $2a^2b$ ⑤ $8a^2b$

6. 다항식 $(4x+3y)-2(2x-y+1)$ 을 간단히 하여라.

답: _____

7. $(12x^3y^2 + 4xy) \div \frac{4}{3}xy$ 를 간단히 하면?

① $9x^2y + 3$ ② $9x^2y + 3xy$ ③ $9x^3y^2 + 3xy$
④ $12x^2y + 4$ ⑤ $12x^2y + 4xy$

8. 다음 보기 중 그림의 색칠한 부분에 속하는 수를 모두 구하여라.

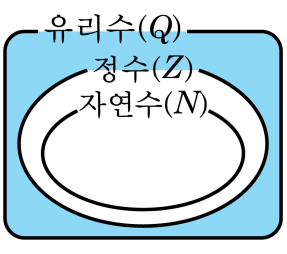

보기

$3,\quad -5,\quad 0,\quad \frac{9}{4},\quad \pi,\quad -\frac{7}{6}$

답: _____

답: _____

9. 유리수 $\frac{35}{200a}$ 를 소수로 나타내면 유한소수가 된다고 한다. 이때, a 가 될 수 있는 수 중 가장 작은 수를 구하여라. (단, a 는 두 자리 정수)

답: _____

10. 다음 분수를 순환소수로 나타낼 때, 순환마디 개수가 가장 많은 것은?

① $\frac{1}{3}$ ② $\frac{3}{7}$ ③ $\frac{5}{6}$ ④ $\frac{3}{11}$ ⑤ $\frac{4}{9}$

11. 부등식 $3.\dot{9} < x < \frac{71}{12}$ 을 만족시키는 정수 x는?

① 2 ② 3 ③ 4 ④ 5 ⑤ 6

12. $0.\dot{6}$ 에 어떤 수 a 를 곱하였더니 $2.\dot{6}$ 이 되었다. a 의 값을 구하여라.

답: _____

13. $(x^3)^a = x^{16} \div x$ 일 때, a 의 값은?

① 1 ② 2 ③ 3 ④ 4 ⑤ 5

14. 다음 중 옳지 <u>않은</u> 것은?

① $x \times x^4 \times y^5 \times y = x^5y^6$

② $(x^7)^2 = x^{14}$

③ $x^{10} \div x^5 = x^2$

④ $(x^2y^3)^6 = x^{12}y^{18}$

⑤ $\left(-\frac{y^2}{x^5}\right)^5 = -\frac{y^{10}}{x^{25}}$

15. $\frac{4b^2}{a^2} \times (-8a^5b) \div \square = 32a^3b^3$ 일 때, $\square$ 안에 알맞은 수를 써넣어라.

답: _____

16. $(3a+4b)(2a-b)$의 전개식에서 ab의 계수는?

① -3 ② 2 ③ 5 ④ 6 ⑤ 8

17. 다음 그림에서 색칠한 부분의 넓이는?

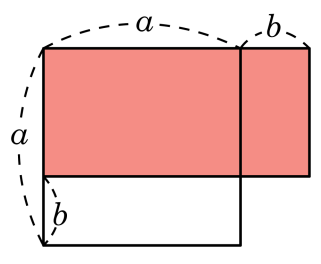

① a^2 ② $a^2+2ab+b^2$ ③ a^2-ab

④ a^2-b^2 ⑤ $a^2-2ab+b^2$

18. $(x+1)(x+3y+1)$를 전개하면?

① $x^2+x+1+xy+y$ ② $x^2+2x+1+xy+2y$

③ $x^2+2x+1+3xy+2y$ ④ $x^2+2x+1+3xy+3y$

⑤ $x^2+3x+1+2xy+2y$

19. 다음 중 주어진 수의 계산을 간편하게 하기 위하여 이용되는 곱셈 공식을 가장 바르게 나타낸 것은? (단, 문자는 자연수)

① $201^2 \Rightarrow (a-b)^2$

② $499^2 \Rightarrow (a+b)^2$

③ $997^2 \Rightarrow (a+b)(a-b)$

④ $103 \times 97 \Rightarrow (ax+b)(cx+d)$

⑤ $104 \times 105 \Rightarrow (x+a)(x+b)$

20. 가로, 세로의 길이가 $2x$, $3x^2y$ 인 직육면체의 부피가 $6x^4y^3 - 12x^3y^2$ 일 때, 직육면체의 높이는?

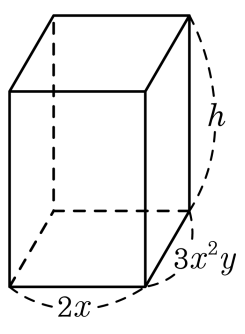

① $xy^2 - 12y$　② $x^2 - 2y$　③ $xy^2 - 2y$
④ $6xy^2 - 2y$　⑤ $6x^2 - 12y$

21. $a = -2$ 이고, $x = 2a - 1$ 이다. 이 때, 식 $3x - 4$ 의 값을 계산하는 과정으로 옳은 것을 모두 고르면?

① $3 \times (-5) - 4$ ② $6 \times (-5) - 4$ ③ $3 \times (-2) - 4$

④ $6 \times (-2) - 7$ ⑤ $2 \times (-2) - 1$

22. $A = 2x - y,\ B = -x + 2y$ 일 때, $2A - 3B$ 를 계산한 식은?

① $x + 4y$ ② $x - 8y$ ③ $7x + 4y$
④ $7x - 8y$ ⑤ $7x + 2y$

23. $4x+11y+17=9x+10y+15$ 일 때 $x-y+2$ 를 x 에 관한 식으로 나타내면?

① $x+1$ ② $-2x+2$ ③ $-3x+3$
④ $-4x+4$ ⑤ $-5x+5$

24. $a = 4^9$, $b = 5^{12} + 5$ 일 때, $a \times b$ 는 n자리의 자연수이다. 이 때, n 의 값은?

① 12 ② 14 ③ 17 ④ 18 ⑤ 20

25. $10 \times 12 \times 14 \times 16 \times 18 \times 20 = 2^a \times 3^b \times 5^c \times 7$ 을 간단히 하였을 때 $a+b+c$ 의 값은?

① 14 ② 15 ③ 16 ④ 17 ⑤ 18

26. $a : b = 2 : 5$ 일 때, $\dfrac{(2a^5b^3)^3}{(-a^4b^2)^4}$ 의 값은?

① 4 ② 8 ③ 12 ④ 16 ⑤ 20

27. $\left(\frac{3}{2}x-\frac{y}{4}\right)^2$ 을 전개하면 $ax^2+bxy+\frac{y^2}{16}$ 이다. 이때, 상수 a , b 에 대하여 $2(a+b)$ 의 값은?

① -2 ② 3 ③ 5 ④ 9 ⑤ 13

28. 분수 $\frac{5}{13}$를 소수로 나타내었을 때, 소수점 아래 첫 번째 자리의 숫자부터 소수점 아래 50번째 자리의 숫자까지의 합을 구하여라.

답: _____

29. $\frac{5a-3b}{3}+\frac{3a+5b}{4}=2a-b$ 를 a 에 관하여 풀면?

① $a=3b$ ② $a=-3b$ ③ $a=\frac{1}{3}b$
④ $a=\frac{3}{b}$ ⑤ $a=-\frac{3}{b}$