1. 비 $3:5$에 대한 설명이 <u>잘못된</u> 것은 어느 것입니까?

① 외항은 5입니다.
② 전항은 3입니다.
③ 비의 값은 $\frac{3}{5}$입니다.
④ 5 에 대한 3의 비입니다.
⑤ 비의 항은 3 , 5입니다.

2. 다음 중 <u>다른</u> 하나는 어느 것입니까?

① 8 : 5
② 8에 대한 5의 비
③ 8 대 5
④ 8의 5에 대한 비
⑤ 5에 대한 8의 비

3. 연필 한 다스에 대한 5자루의 비를 잘못 나타낸 것은 어느 것입니까?

① 12에 대한 5의 비
② 5와 12의 비
③ 5 : 12
④ 12의 5에 대한 비
⑤ $\frac{5}{12}$

4. 그림을 보고, 전체수에 대한 색칠한 부분의 비를 백분율로 바르게 나타낸것을 고르시오.

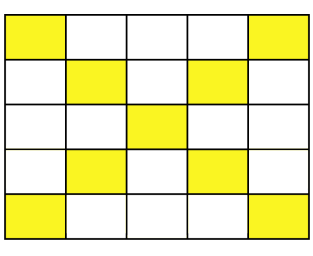

① 72 %　　② 0.9 %　　③ 25 %

④ 0.36 %　　⑤ 36 %

5. 다음 표는 겨레네 학급 문고에 있는 책의 종류를 조사하여 나타낸 것입니다. 과학도서와 만화책의 수를 가장 간단한 자연수의 비로 나타내고, 학급 문고 전체 책에서 동화책이 차지하는 비를 백분율로 나타내시오.

책의 종류	동화책	위인전	과학도서	만화책	계
책의 수(권)	120	80	75	25	300

답: _____

답: _____ %

6. 다음 그림을 보고, 전체에 대한 색칠하지 않은 부분의 비로 나타내시오.

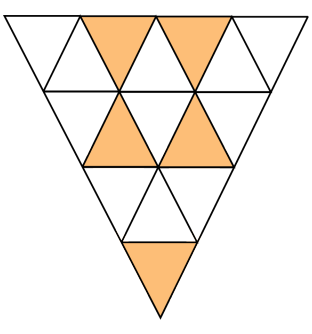

답: _____

7. 비율을 소수로 나타내시오.

21 : 40

답: _____

8. 공책이 16 권, 연필이 12 개 있습니다. 공책의 개수에 대한 연필의 개수의 비의 값을 기약분수로 나타낸 것으로 알맞은 것을 고르시오.

① $\frac{12}{16}$ ② $\frac{16}{12}$ ③ $\frac{3}{4}$ ④ $\frac{4}{3}$ ⑤ $\frac{4}{7}$

9. 3 : 2 와 같은 비는 어느 것입니까?

① 2 : 3
② 2 의 3 에 대한 비
③ 2 와 3 의 비
④ 2 에 대한 3 의 비
⑤ 4 에 대한 5 의 비

10. 꽃병에 꽃이 모두 50 송이 있습니다. 그 중에서 18 송이는 장미이고, 나머지는 카네이션입니다. 카네이션은 전체의 몇 % 입니까?

답: _____ %

11. 다음에서 비의 값이 가장 큰 것은 어느 것입니까?

$\frac{7}{8}$, $6:9$, $78\,\%$, $102\,\%$

답: _____

12. 좌석이 600 개인 극장에 공연을 보러 온 관람객 수는 전체 좌석 수의 90 % 였습니다. 이 중 특석에 앉은 사람이 5 % 라면, 특석에 앉은 관람객은 몇 명입니까?

답: _____ 명

13. 한 변의 길이가 $8\,\mathrm{cm}$인 정사각형이 있습니다. 각 변의 길이를 $30\,\%$씩 늘인다면, 늘어난 사각형과 원래의 사각형의 넓이의 차는 얼마입니까?

답: _____ cm^2

14. 어느 학원의 5학년 학생 중 안경을 낀 남학생은 30명으로 전체의 20%이고, 안경을 낀 여학생은 12명입니다. 안경을 낀 학생은 5학년 전체 학생의 몇 %입니까?

답: _____ %

15. 다음 그림을 보고, 전체에 대한 색칠한 부분의 비를 구하시오.

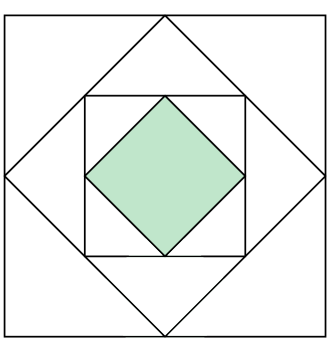

답: _____

16. 진수는 시골에 계시는 할머니와 $3\frac{1}{5}$ 분 동안 통화하였습니다. 전화요금은 $\frac{4}{5}$ 분당 40 원씩 계산되는데 야간에 전화를 하여 40 % 의 할인 혜택을 받는다고 합니다. 영수가 할머니와 통화한 전화요금은 얼마이겠습니까?

답: _____ 원

17. 960 원에 팔면 원가의 20 %의 이익을 보는 물건이 있습니다. 이것을 904 원에 판다면 몇 % 의 이익을 보겠습니까?

답: _____ %

18. 정가가 6000 원인 물건을 20 % 할인해서 팔아도 원가의 20 % 만큼 이익을 보는 물건이 있습니. 이 물건의 원가는 얼마입니까?

답: _____ 원

19. 삼각형 ㄱㄴㄷ에 대한 삼각형 ㄹㄴㄷ의 넓이의 비율이 250 %라고 합니다. 삼각형 ㄹㄴㄷ의 높이를 구하시오.

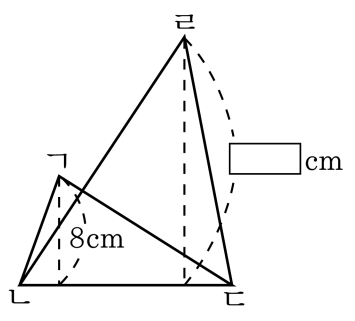

답: _____ cm

20. 같은 돈으로 작년에 20 개를 살 수 있었던 물건을 올해는 25 개를 살 수 있다고 합니다. 물건 값은 작년보다 몇 % 내렸습니까?

답: _____ %

21. 세 수 ㉠, ㉡, ㉢이 있습니다. ㉡에 대한 ㉠의 비의 값은 1.25 이고, ㉢에 대한 ㉡의 비의 값은 0.76 입니다. ㉢에 대한 ㉠의 비의 값을 기약분수로 나타내시오.

답: _____

22. 6명이 15일 걸려 마칠 수 있는 일의 양이 있습니다. 처음 3일 동안은 하루에 몇 사람씩 일을 하고, 다음 4.5일 동안 5명씩 일을 하고 나니, 전체일의 5%가 남았습니다. 처음 3일 동안은 하루에 몇 사람씩 일을 했을까요?

답: _____ 명

23. 다음 그림과 같이 직사각형을 4개의 삼각형으로 나누었습니다. ㉮의 넓이는 직사각형 넓이의 10 %이고, ㉯의 넓이는 27 cm^2 라고 합니다. 직사각형의 넓이를 구하시오.

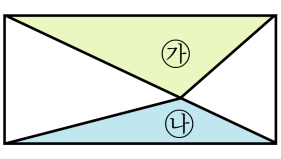

답: _____ cm^2

24. 어느 학교의 6학년 여학생 수는 남학생 수의 $\frac{5}{6}$배였습니다. 그런데 남학생 24명과 여학생 12명이 전학을 와서 남학생 수와 여학생 수의 비가 4 : 3이 되었습니다. 6학년 여학생 수는 모두 몇 명인지 구하시오.

답: _____ 명

25. 40 개가 든 참외 한 상자를 51000 원에 샀는데 15 %이 상해서 팔 수 없었습니다. 나머지 참외를 팔아서 20 %의 이익을 얻으려면, 참외 한 개를 얼마씩에 팔아야 합니까?

답: _____ 원