**1.** 다음 중 숫자 7이 나타내는 수가 가장 큰 것은 어느 것인지 고르시오.

① 43297 ② 24756 ③ 96871
④ 57841 ⑤ 70123

**2.** $\boxed{\phantom{00}}$ 안에 알맞은 수를 고른 것은 어느 것입니까?

| |
|---|
| 27384204에서 천만 자리의 숫자는 $\boxed{\phantom{0}}$이고, 이것은 $\boxed{\phantom{00000}}$을 나타낸다. |

① 7, 70000000　② 2, 2000000　③ 2, 20000000
④ 7, 7000000　⑤ 3, 30000000

**3.** 다음은 뛰어세기를 한 수입니다. ☐안에 알맞은 수를 차례대로 쓴 것은 어느 것입니까?

(1) 9456만 – 9656만 – 9856만 – ☐ – ☐
(2) 6조 8000만 – 6조 9000만 – ☐ – 7조 1000만 – ☐

① (1) 1억 56만, 1억 156만 (2) 7조, 7조 2000만

② (1) 1억 56만, 1억 256만 (2) 7조, 7조 3000만

③ (1) 1억 56만, 1억 256만 (2) 7조, 7조 2000만

④ (1) 1억 56만, 1억 1256만 (2) 7조, 7조 2000만

⑤ (1) 1억 156만, 1억 256만 (2) 7조, 7조 2000만

**4.** ☐안에 알맞은 수를 차례대로 쓴 것은 어느 것입니까?

| |
|---|
| (1) 1500억 - 1800억 - ☐ - ☐ |
| (2) 2500억 - 3000억 - ☐ - 4000억 - ☐ |

① (1) 2000억, 2400억 (2) 3500억, 4500억

② (1) 2200억, 2500억 (2) 3500억, 4500억

③ (1) 2100억, 2400억 (2) 3500억, 4500억

④ (1) 2100억, 2400억 (2) 3500억, 5500억

⑤ (1) 2100억, 2400억 (2) 4500억, 5500억

**5.** 두 수의 크기를 비교하여 ○안에 >, <를 알맞게 나타낸 것은 어느 것입니까?

| |
|---|
| (1) $24870$ ○ $20000+4000+700+80$ |
| (2) $62409$ ○ $60000+2000+400+10+9$ |
| (3) $32854$ ○ $30000+8000+200+50+4$ |

① >, <, >　　② >, <, <　　③ <, >, <

④ <, >, >　　⑤ >, >, <

**6.** 각도가 가장 큰 각은 어느 것입니까?

① $160°$ ② $1°$ ③ $95°$ ④ $100°$ ⑤ $90°$

**7.** 다음 중 숫자 5 가 나타내는 수가 가장 큰 것은 어느 것입니까?

① 82 억 5　　② 4356000000　　③ 173 억 4560 만

④ 30850000000　　⑤ 15 억 2800 만

**8.** 상희의 아버지는 중고차의 가격을 알아보았습니다. 가격을 비교하여 ☐에 알맞은 수를 순서대로 쓴 것을 고르시오.

(가) (나) (다)

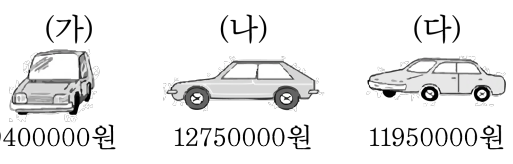

9400000원 12750000원 11950000원

(1) (가) 자동차의 가격은 ☐자리 수이고 (나) 자동차의 가격은 ☐자리 수이므로, ☐자동차가 더 비쌉니다.

(2) (나) 자동차와 (다) 자동차의 가격은 모두 ☐자리 수입니다. 하지만 위의 자리부터 비교하면, ☐자동차가 ☐만의 자리 숫자가 더 크므로 더 비쌉니다.

① (1) 7, 8, 가 (2) 8, 나, 백
② (1) 7, 8, 나 (2) 8, 다, 십
③ (1) 7, 8, 나 (2) 8, 나, 백
④ (1) 7, 9, 나 (2) 9, 나, 백
⑤ (1) 7, 9, 나 (2) 9, 나, 십

**9.** $\boxed{\phantom{00}}$안에는 0 에서 9 까지 어느 숫자를 넣어도 됩니다. 큰 수부터 차례로 기호를 쓴 것은 어느 것입니까?

| | |
|---|---|
| ㉠ 720$\boxed{\phantom{0}}$043259 | ㉡ 72$\boxed{\phantom{0}}$9948027 |
| ㉢ 7209$\boxed{\phantom{0}}$47656 | |

① ㉡, ㉠, ㉢　② ㉠, ㉢, ㉡　③ ㉠, ㉡, ㉢
④ ㉡, ㉢, ㉠　⑤ ㉢, ㉠, ㉡

**10.** 다음 중 각 그리기에 대한 설명으로 옳지 <u>않은</u> 것은 어느 것입니까?

① 각을 그릴 때는 자와 각도기가 필요합니다.

② 2 직각을 그릴 때는 자 하나로 충분합니다.

③ 변 ㄱㄴ에서 점ㄴ을 중심으로 각을 그릴 때는 각도기의 중심을 ㄱ에 놓고 그립니다.

④ 3 직각을 그릴 때는 직각을 3 개 붙여 그립니다.

⑤ 각을 그린 다음에는 그린 각의 크기를 각 옆에 적어주는 것이 좋습니다.

**11.** 다음 그림에서 각 ㄱㄷㄴ의 크기를 구하시오.

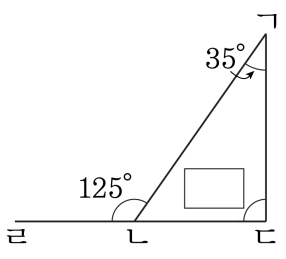


① 80° ② 85° ③ 90° ④ 95° ⑤ 100°

**12.** 다음 도형에서 ㉠과 ㉡의 각도의 합을 구하시오.

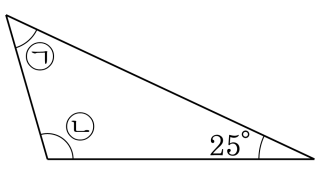


답: _____ °

**13.** ㉠이 나타내는 수는 ㉡이 나타내는 수의 몇 배입니까?

| |
|---|
| $\underset{㉠}{\underline{4}}\,7\,5\,8\,\underset{㉡}{\underline{4}}\,1\,2$ |

답: _____ 배

**14.** 빈 곳에 알맞은 수를 차례대로 고른 것은 어느 것입니까?

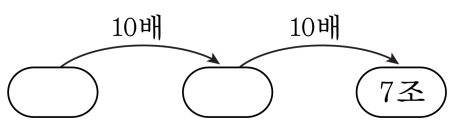


① 70억, 7000억　② 70억, 700억　③ 700억, 7000억
④ 7억, 700억　⑤ 7억, 70억

**15.** 다음을 가장 작은 수부터 차례로 번호를 쓴 것은 어느 것입니까?

| | |
|---|---|
| ㉠ 132만의 100배 | ㉡ 10억 7200만의 $\frac{1}{10}$ |
| ㉢ 12만 5001의 1000배 | ㉣ 91억 670만의 $\frac{1}{1000}$ |

① ㉣, ㉢, ㉡, ㉠ ② ㉣, ㉡, ㉢, ㉠ ③ ㉠, ㉡, ㉢, ㉣
④ ㉢, ㉡, ㉠, ㉣ ⑤ ㉣, ㉠, ㉢, ㉡

**16.** 다음 그림을 보고 1 직각보다 크고, 2 직각보다 작은 각은 어느 것인지 고르시오.

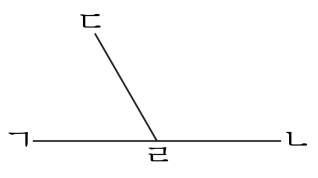


① 각 ㄱㄹㄴ ② 각 ㄱㄹㄷ ③ 각 ㄴㄹㄷ
④ 각 ㄷㄹㄱ ⑤ 각 ㄱㄷㄹ

**17.** 다음은 직선의 한 점에서 모두 같은 간격으로 선분을 그은 것입니다. 그림에서 예각은 둔각보다 몇 개 더 많은지 구하시오.

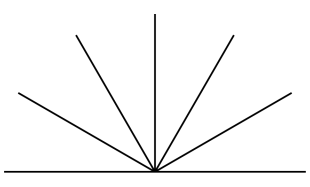

답: _____ 개

**18.** 시계의 시침과 분침이 이루는 작은 각이 예각인 것은 어느 것입니까?

① 2 시 30 분 ② 4 시 ③ 9 시 30 분
④ 7 시 ⑤ 7 시 30 분

**19.** □ 안에 알맞은 각도를 써넣으시오.

| |
|---|
| ㉠ 3 직각 − □ $= 85°$<br>㉡ $65° +$ □ $= 130°$ |

답: _____ °

답: _____ °

**20.** $\square$ 안에 알맞은 각도를 써넣으시오.

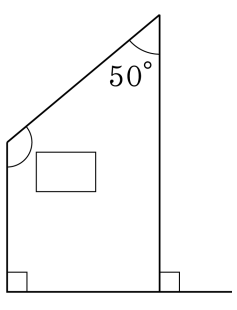


답: _____ °

**21.** 다음 조건을 모두 만족하는 가장 작은 수를 숫자로 쓰시오.

| |
|---|
| ㉠ 1부터 8까지의 숫자를 두 번씩 사용하여 만든 16 자리 수<br>㉡ 천억의 자리의 숫자는 8이고, 천만의 자리의 숫자는 6인 수<br>㉢ 백만의 자리의 숫자는 천의 자리의 숫자의 4배인 수 |

답: _____

**22.** 0에서 9까지의 숫자를 한 번씩 써서 3000000000에 가장 가까운 수를 만드시오.

답: _____

**23.** 난치병 어린이 돕기 행사에서 성금이 38470000000 원이 모였습니다. 한 명에게 천만 원씩 병원비를 지원해 주기로 하였습니다. 모두 몇 명의 어린이를 지원해 줄 수 있겠습니까?

답: _____ 명

**24.** 다음 그림에서 각 ㉢의 크기는 두 각 ㉠과 ㉡의 합보다 얼마나 큽니까?

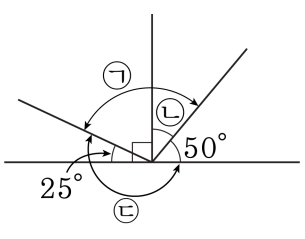


답: _____ °

**25.** 다음 도형에서 ㉮와 ㉯의 각도의 합을 구하시오.

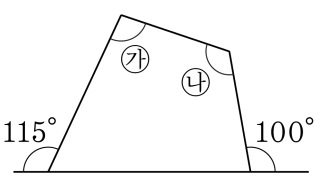


답: _____ °