1. 연립방정식 $\begin{cases} x-y=a & \cdots ㉠ \\ 2x+y=b & \cdots ㉡ \end{cases}$ 의 해를 구하기 위하여 다음 그림과 같이 두 일차방정식의 그래프를 그렸다. $a-b$ 의 값은? (단, a, b 는 상수이다.)

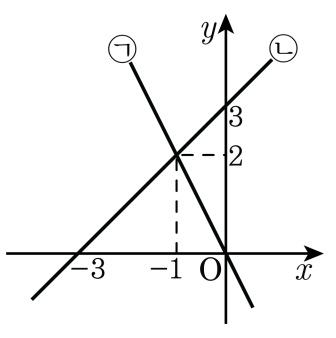

① −5 ② −3 ③ −1 ④ 3 ⑤ 5

2. 일차부등식 $3x - a \geq 5x$ 의 해가 $x \leq 6$ 일 때, a 의 값은?

① -5 ② -12 ③ 0 ④ 3 ⑤ 5

3. $0.\dot{3}20\dot{5} = \square \times 3205$ 에서 $\square$ 안에 알맞은 수는?

① 0.0001 ② $0.\dot{0}0\dot{1}$ ③ $0.0\dot{0}0\dot{1}$

④ $0.\dot{0}00\dot{1}$ ⑤ $0.\dot{1}00\dot{1}$

4. 어떤 식 A에 $2x^2 + 3x - 2$를 더해야 할 것을 잘못하여 빼었더니 $-5x^2 + 3x + 2$가 되었다. 바르게 계산한 결과는?

① $-3x^2 + 6x$ ② $-3x^2 - 6x$ ③ $-x^2 + 9x - 2$
④ $x^2 + 9x - 2$ ⑤ $-x^2 - 9x - 2$

5. 부등식 $\frac{6x+9}{3} - \frac{2x+6}{2} < a$를 만족하는 자연수 x의 개수가 6개일 때, 자연수 a의 값은?

① 5 ② 6 ③ 7 ④ 8 ⑤ 9

6. 민수는 아침마다 운동을 하는데 시속 6km 의 속력으로 달린다고 한다. 아침 운동시간이 90 분 이하라면 달리는 거리는 몇 km 이하이겠는가?

답: _____ km

7. 다음 일차함수 중에서 일차함수 $y = 5x + 7$ 에 평행하고 점 $(-1,\ 4)$ 를 지나는 것은?

① $y = x + 7$ ② $y = 3x + 5$ ③ $y = 3x + 9$
④ $y = 5x + 6$ ⑤ $y = 5x + 9$

8. 다음 중 옳은 것을 모두 고르면? (정답 2개)

① 음의 정수는 분수로 나타낼 수 없다.

② 모든 순환소수는 유리수이다.

③ 소수는 유한소수와 무한소수로 나타낼 수 있다.

④ 정수가 아닌 유리수는 모두 유한소수로 나타낼 수 있다.

⑤ 모든 소수는 유리수이다.

9. $(-2x^A y)^2 \div 4x^4 y \times 2x^5 y^4 = Bx^7 y^C$ 일 때, $A + B + C$ 의 합의 값을 구하여라.

답: _____

10. 다음 $\boxed{}$ 안에 알맞은 식은?

$$\boxed{} \div 2x^2y \times \left(-\frac{y^2}{2x}\right)^2 = -2x^3y^3$$

① $-8x^{12}$ ② $8x^{12}$ ③ $-10x^8$

④ $16x^7$ ⑤ $-16x^7$

11. 다음 중 주어진 수의 계산을 간편하게 하기 위하여 이용할 수 있는 곱셈 공식으로 적절하지 <u>않은</u> 것은?

① $91^2 \rightarrow (a+b)^2 = a^2 + 2ab + b^2$

② $597^2 \rightarrow (a-b)^2 = a^2 - 2ab + b^2$

③ $103^2 \rightarrow (a+b)^2 = a^2 + 2ab + b^2$

④ $84 \times 75 \rightarrow (a+b)(a-b) = a^2 - b^2$

⑤ $50.9 \times 49.1 \rightarrow (a+b)(a-b) = a^2 - b^2$

12. x, y 에 관한 일차방정식 $\frac{x}{2}+y=12$를 만족하는 x 와 y 의 비가 $2:1$ 일 때, $x+y$ 의 값은?

① 8 ② 12 ③ 16 ④ 18 ⑤ 20

13. 연립방정식 $\begin{cases} 3x-2y=a \\ 2x+5y=4 \end{cases}$ 를 만족하는 x 의 값이 -3 일 때, a 의 값을 구하여라.

답: _____

14. 다음 보기 중에서 두 일차방정식을 한 쌍으로 하는 연립방정식을 만들었을 때, 해가 <u>없는</u> 것은?

보기

ㄱ. $\frac{x}{3}-\frac{y}{2}=-\frac{1}{3}$
ㄴ. $0.3x-0.4y=-\frac{4}{5}$
ㄷ. $\frac{x}{4}-\frac{y}{3}=-\frac{1}{3}$
ㄹ. $0.2x-0.1y=\frac{2}{5}$

① ㄱ, ㄴ ② ㄴ, ㄷ ③ ㄷ, ㄹ ④ ㄱ, ㄹ ⑤ ㄴ, ㄹ

15. 형철이와 한솔이가 24 km 떨어진 두 지점에 있다. 동시에 마주보고 형철이는 시속 5 km, 한솔이는 시속 3 km 로 걸어서 도중에 만났을 때 한솔이가 걸은 거리를 구하여라.

답: _____ km

16. 연립부등식 $3x + 7 < x + 11 \leq 10$ 을 만족하는 x 의 값 중 가장 큰 정수는?

① -2 ② -1 ③ 0 ④ 1 ⑤ 2

17. 연립부등식 $\begin{cases} -4x-15 \le 1 \\ 3x+a < x \end{cases}$ 의 해가 다음과 같을 때, a 의 값을 구하여라.

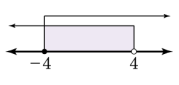

답: _____

18. 연립방정식 $\begin{cases} ax+by=\frac{3}{2} \\ -y+4x=6 \end{cases}$ 의 해가 무수히 많기 위한 a , b 의 값을 구하면?

① $a=1,\ b=-\frac{1}{4}$
② $a=-1,\ b=-\frac{1}{4}$
③ $a=2,\ b=\frac{1}{6}$
④ $a=2,\ b=-\frac{1}{6}$
⑤ $a=-2,\ b=-\frac{1}{6}$

19. 마라톤을 하는데 반환점까지는 시속 20km, 반환점부터 돌아 올 때까지는 시속 10km로 걸어서 전체 걸리는 시간을 3시간 이내로 하려고 한다. 반환점을 몇 km 이내로 정하면 되는지 구하여라.

답: _____ km이내

20. 일차함수 $f(x) = (2m-1)x-2m$에서 $3f(-1)+\frac{1}{2}f(0) = f(n)$, $f(2) = 4$ 일 때, $m + 2n$ 의 값을 구하여라.

답: _____

21. 함수 $f(x)$의 그래프가 점 $(2,\ -3)$을 지나고, $\dfrac{f(b)-f(a)}{b-a}=-3$이다. 이때, $f(-1)\times f(1)$ 의 값은?

① -2　　② 0　　③ 2　　④ 4　　⑤ 6

22. 일차함수 $y = -2x + 4$의 그래프를 y축의 음의 방향으로 2만큼 평행이동한 그래프의 기울기를 a, x절편을 b, y절편을 c라고 할 때, $a-b-c$의 값은?

① -5 ② 1 ③ 0 ④ -11 ⑤ -6

23. 다음 중 $0.\dot{7} - 0.\dot{7}\dot{1}$ 의 계산 결과와 같은 것은?

① $0.\dot{0}\dot{6}$ ② $0.0\dot{6}$ ③ $0.\dot{0}\dot{7}$ ④ $-0.\dot{0}\dot{1}$ ⑤ $-0.\dot{1}\dot{1}$

24. 밑면의 가로의 길이가 $2a$ 인 직사각형의 넓이가 $4a^3 - 2a^2b$ 일 때, 세로의 길이는?

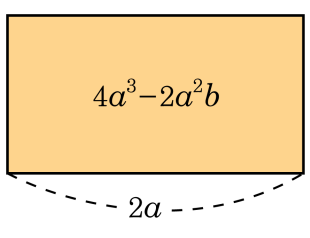

① $a^2 - a$ ② $2a^2 + a$ ③ $2a^2 - b$

④ $2a^2 - ab$ ⑤ $2a^2 + ab$

25. 소양이와 현진이가 가위바위보를 하여 이긴 사람은 4계단 올라가고, 진 사람은 3계단 내려가기로 하였다. 가위바위보를 하고나니 소양이는 처음보다 8계단 위에 현진이는 1계단 위에 있었다. 소양이가 이긴 횟수를 a , 현진이가 이긴 횟수를 b 라고 했을 때, $\frac{a^2 - ab + b^2}{a + b}$ 의 값은?

① $\frac{1}{3}$ ② $\frac{2}{3}$ ③ $\frac{4}{3}$ ④ $\frac{6}{3}$ ⑤ $\frac{7}{3}$