1. 다음 중 모양이 같은 것을 모두 고르시오.

① 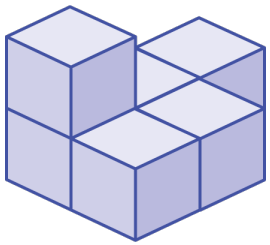

② 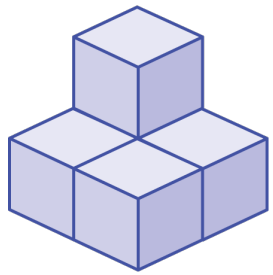

③ 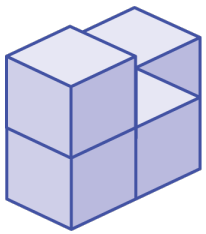

④ 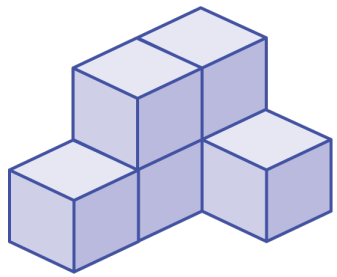

⑤ 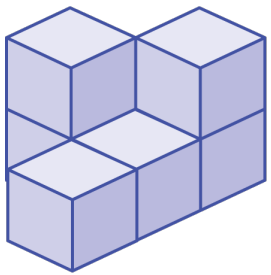

2. 다음 중 비례식이 성립하는 것은 어느 것입니까?

① $5 : 2 = 10 : 7$ ② $3 : 6 = 30 : 15$ ③ $25 : 15 = 5 : 3$

④ $40 : 30 = 3 : 4$ ⑤ $9 : 4 = 19 : 14$

3. 다음 중 틀린 것은 어느 것입니까?

① $4 : 8$의 전항은 4입니다.

② $6 : 14 = 3 : 7$일 때 외항은 6과 7입니다.

③ $21 : 24 = 7 : 8$ 일 때 24는 내항입니다.

④ $9 : 11 = 27 : 33$일 때 내항은 9와 11입니다.

⑤ $2 : 3 = 40 : 60$에서 전항은 2와 40입니다.

4. 다음 중 비의 값이 $4 : 7$ 과 같은 것은 어느 것인지 고르시오.

① $(4 \times 4) : (7 \times 7)$

② $(4 \times 7) : (7 \times 4)$

③ $(4 \div 7) : (7 \div 4)$

④ $(4 \times 3) : (7 \times 3)$

⑤ $(4 \div 4) : (7 \times 7)$

5. $2\frac{1}{4} = 2\frac{2}{8}$를 비례식으로 나타낼 때 바르지 <u>않은</u> 것은 어느 것인지 고르시오.

① $9 : 4 = 18 : 8$ ② $18 : 8 = 9 : 4$ ③ $4 : 8 = 9 : 18$

④ $9 : 18 = 4 : 8$ ⑤ $8 : 9 = 4 : 18$

6. 비례식 $\square : 12 = 24 : 36$ 에서 $\square$를 구하는 식으로 알맞은 것은 어느 것입니까?

① $(12 \times 21) \times 36$ ② $(24 \times 36) \div 12$ ③ $(24 \div 36) \div 12$

④ $(12 \times 24) \div 36$ ⑤ $(36 \times 12) \times 24$

7. 다음 중 어떤 양을 $7 : 8$ 로 비례배분할 때, 알맞은 분수의 비를 모두 고르시오.

① $\frac{1}{7} : \frac{1}{8}$ ② $\frac{1}{8} : \frac{1}{7}$ ③ $\frac{8}{56} : \frac{7}{56}$

④ $\frac{7}{15} : \frac{8}{15}$ ⑤ $\frac{8}{15} : \frac{7}{15}$

8. 형은 12 살이고 동생은 8 살입니다. 8000 원을 형과 동생의 나이의 비로 나누어 가진다고 할 때, 형과 동생은 각각 얼마씩 가지면 되는지 구하시오.

① 형-6000 원, 동생-2000 원
② 형-5500 원, 동생-2500 원
③ 형-5000 원, 동생-3000 원
④ 형-4800 원, 동생-3200 원
⑤ 형-4500 원, 동생-3500 원

9. 보기의 ☐ 안에 있는 수만큼 쌓기나무를 쌓은 그림을 찾으시오.

보기

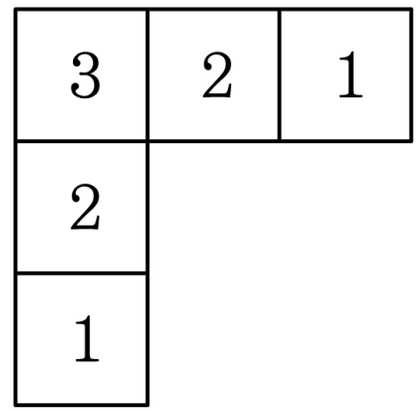

① 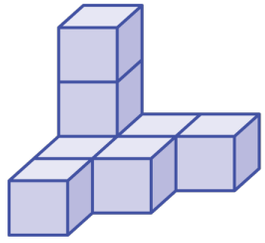

② 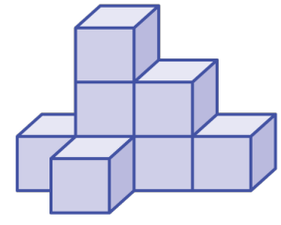

③ 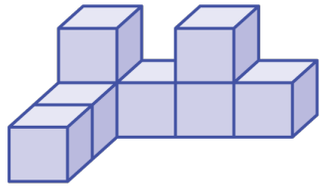

④ 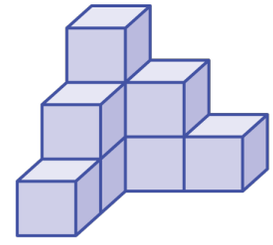

⑤ 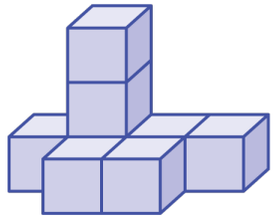

10. 다음 그림은 일정한 규칙을 가지고 쌓은 모양입니다. 다음 그림과 같은 모양으로 쌓는 데 사용된 나무는 모두 몇 개인지 구하시오.

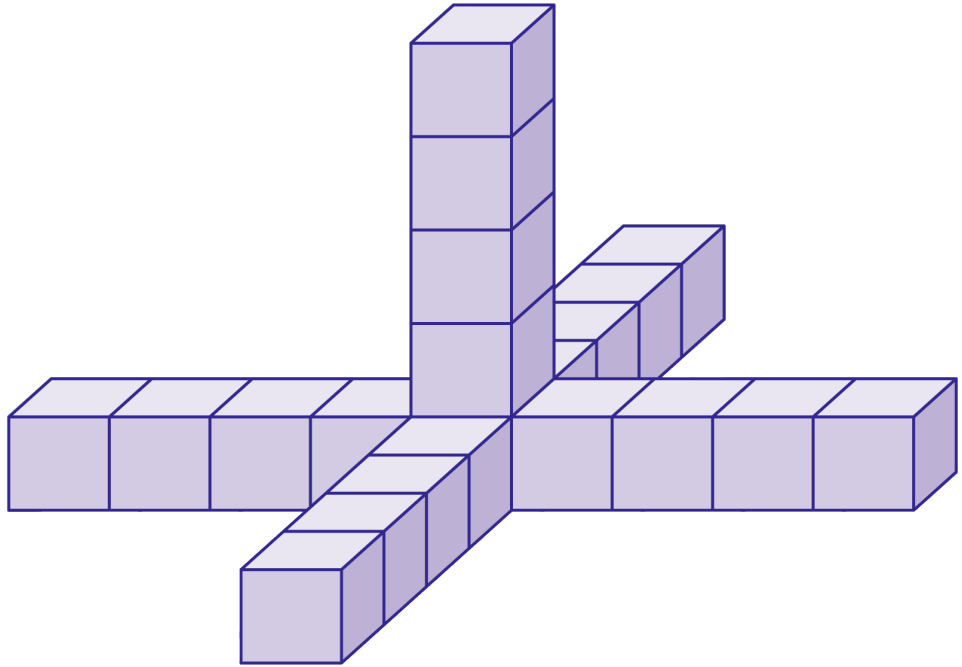

답: _____ 개

11. 다음 쌓기나무 그림에서 위와 앞에서 본 모양을 오른쪽과 같게 하려면 □번을 □번 뒤에 옮겨야 하는지 □ 안을 차례대로 쓰시오.

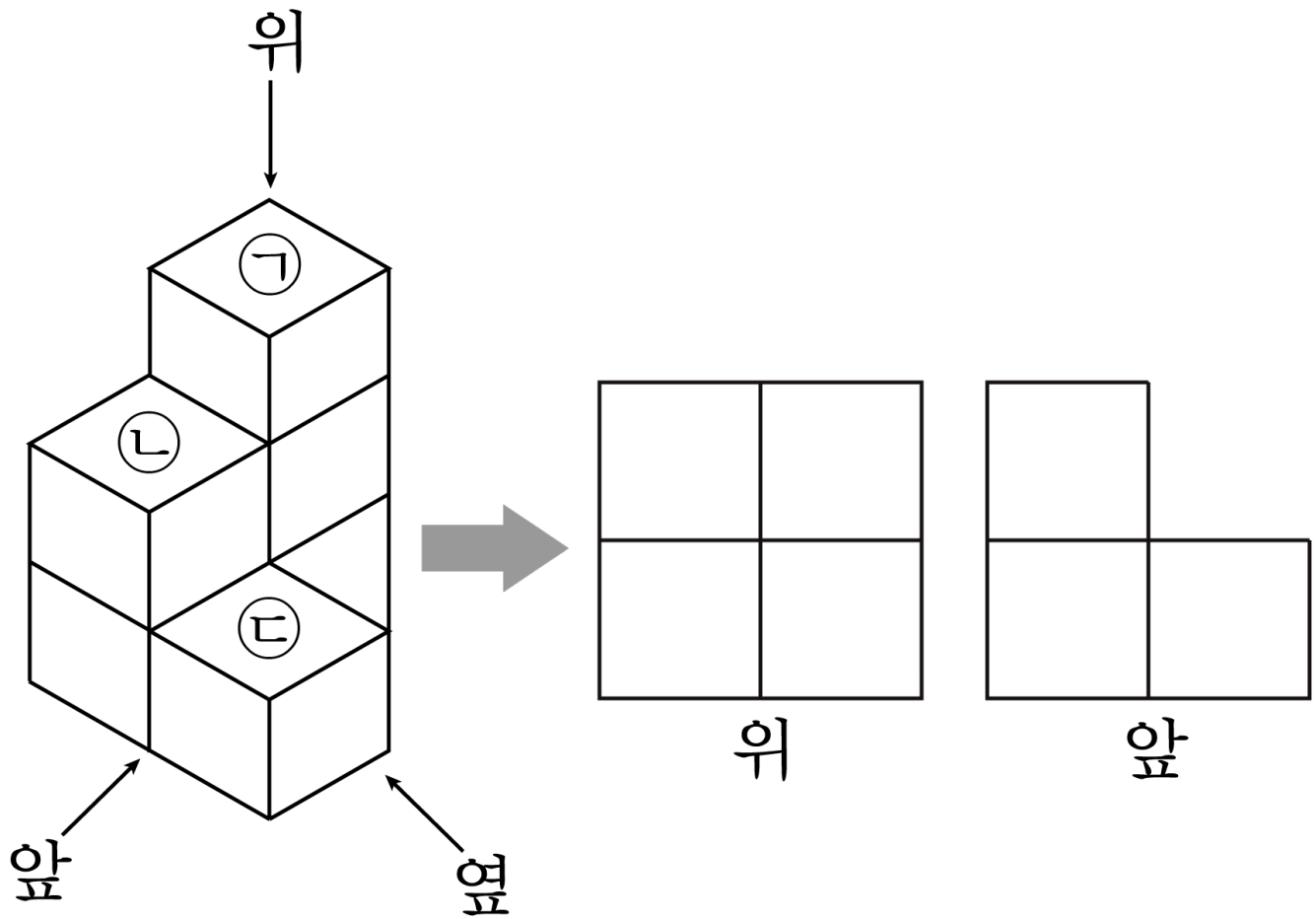

답 : _____

답 : _____

12. 다음 수진이와 은혜의 대화를 보고, 은혜가 만든 쌓기나무를 찾으시오.

수진 : 몇 층으로 쌓았니?
은혜 : 4층
수진 : 2층과 3층의 모양이 다르니?
은혜 : 아니!
수진 : 1층과 2층이 엇갈리며 쌓았니?
은혜 : 응
수진 : 3층이 4층보다 몇 개 더 많니?
은혜 : 2개

① 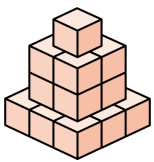

② 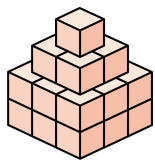

③ 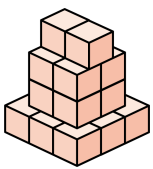

④ 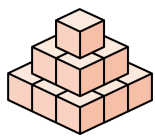

⑤ 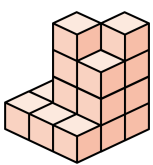

13. 다음 규칙에 따라 8층까지 쌓으려면 쌓기나무는 몇 개가 필요합니까?

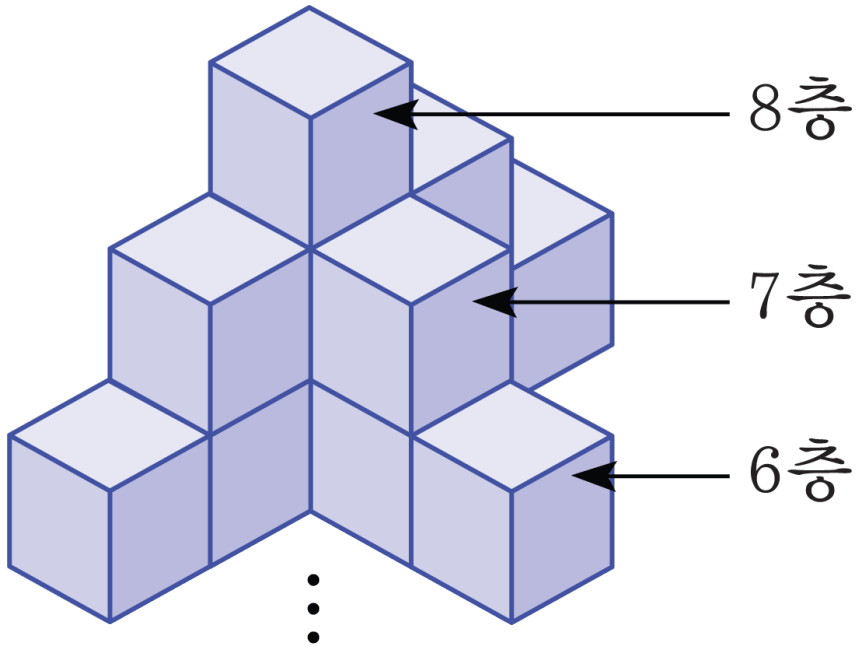

답: _____ 개

14. 다음 비의 비의 값을 기약분수로 나타낸 것을 고르시오.

$$2\frac{3}{4} : 6.5$$

① $\frac{275}{650}$ ② $17\frac{7}{8}$ ③ $2\frac{4}{11}$ ④ $\frac{11}{26}$ ⑤ $\frac{8}{143}$

15. 다음 그림에서 삼각형과 원의 겹쳐진 부분의 넓이는 삼각형 넓이의 $\frac{5}{8}$ 이고, 원의 넓이의 $\frac{3}{7}$ 입니다. 이 때, 원과 삼각형의 넓이의 비를 가장 간단한 자연수의 비로 나타내시오.

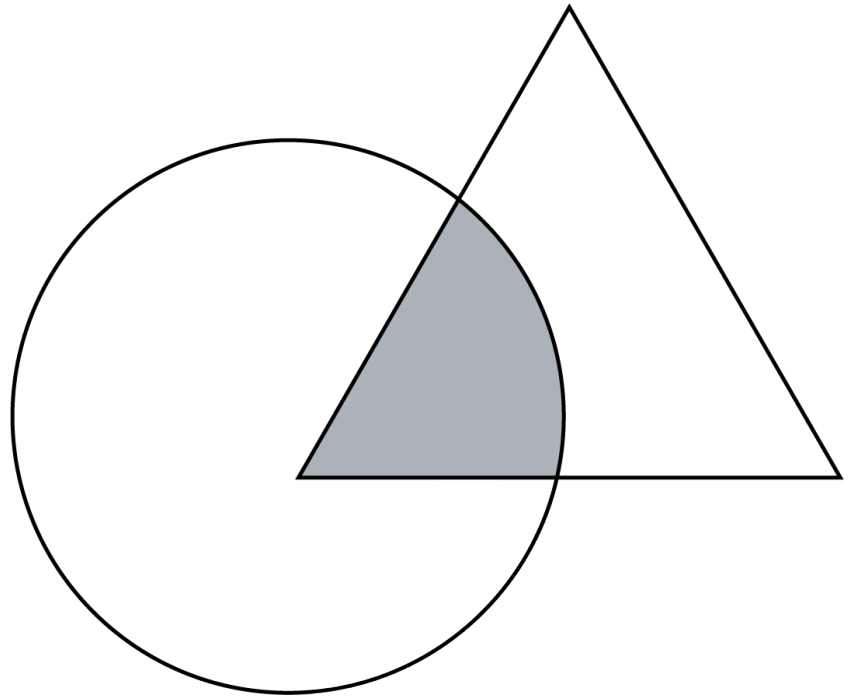

답: _____

16. 다음 비례식 중 틀린 것을 고르시오.

① $3 : 7 = 6 : 14$

② $4 : 6 = 16 : 24$

③ $1.2 : 1.4 = 6 : 7$

④ $\frac{1}{7} : \frac{1}{4} = 7 : 4$

⑤ $0.2 : \frac{1}{2} = 2 : 5$

17. 박하사탕과 자두맛 사탕이 들어 있는 상자의 무게 중 $8\,\%$가 바구니의 무게이고 박하사탕의 무게가 $32\,\%$라고 할 때, 자두맛 사탕과 상자의 무게의 비를 가장 간단한 자연수의 비로 나타내시오.

답: _____

18. 바탕 그림 위에서 쌓기나무를 쌓아 놓은 모양입니다. 보이지 않은 부분을 생각했을 때 쌓기나무를 최소 몇 개에서 최대 몇 개까지 쌓은 것인지 순서대로 쓰시오.

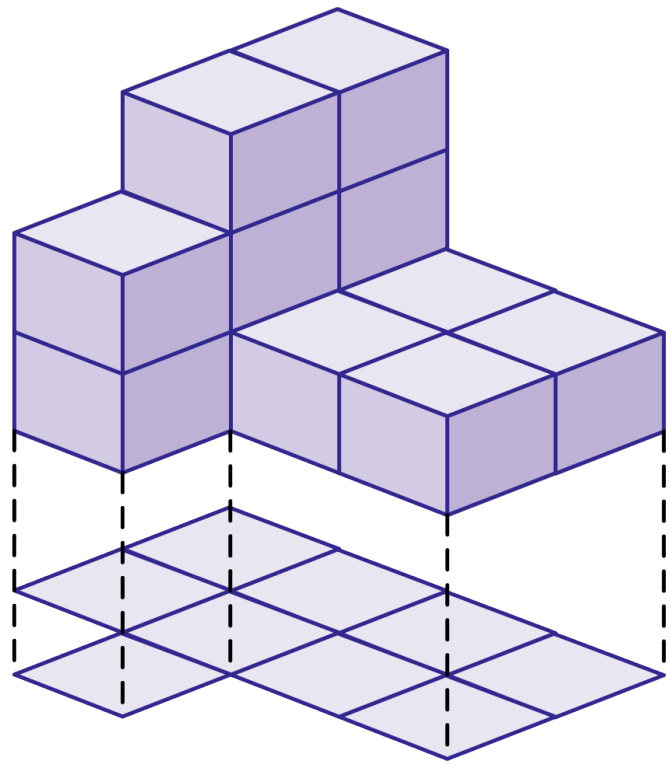

답: _____ 개

답: _____ 개

19. 다음 그림은 한 변의 길이가 8cm 인 정육면체 모양의 쌓기나무 12 개로 만든 모양입니다. 위에서 본 모양의 둘레의 길이와 옆에서 본 모양의 둘레의 길이의 차는 몇 cm 인지 구하시오.

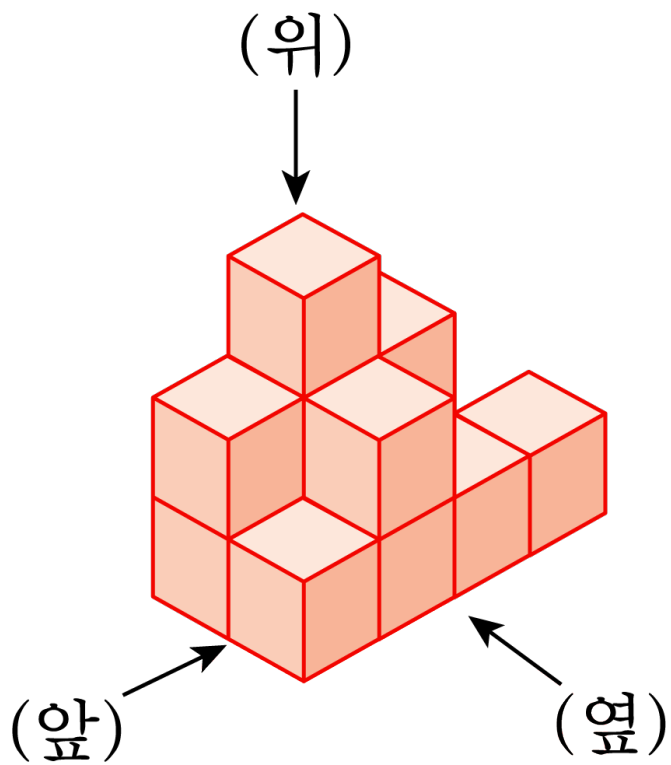

답: _____ cm

20. ㉮,㉯ 두 모양만을 사용하여 아래와 같은 모양을 만들려고 합니다. ㉮, ㉯ 모양이 몇 개씩 사용되겠는지 차례대로 쓰시오.

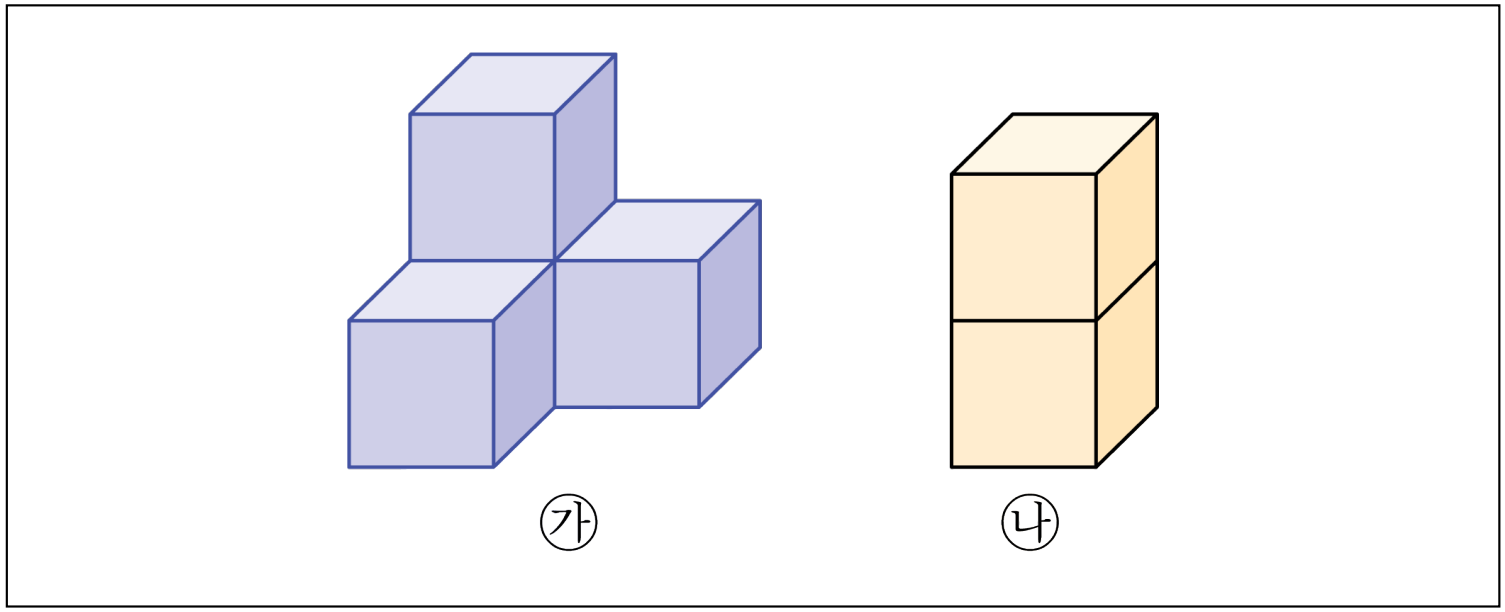

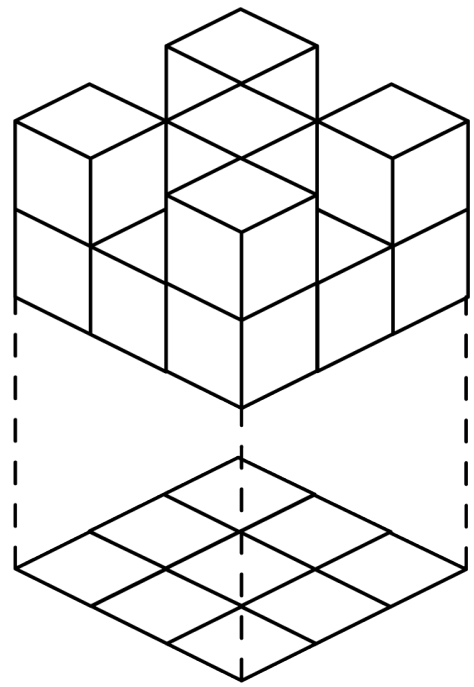

답 : _____ 개

답 : _____ 개

21. 다음 쌓기나무 모양을 보고, 쌓기나무 50 개로 쌓은 모양은 몇째 번에 올 모양입니까?

첫 째

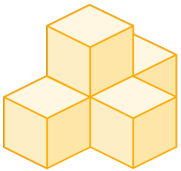

둘 째

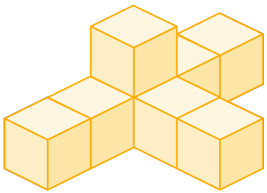

셋 째

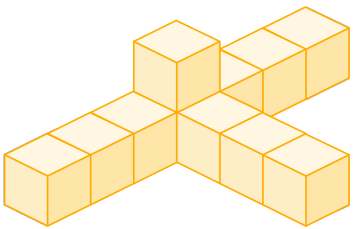

⋮ ⋮

① 12째 번 ② 14째 번 ③ 16째 번

④ 18째 번 ⑤ 20째 번

22. 지우네 학교의 6학년 남학생수와 여학생수의 비가 6 : 5였습니다. 남학생 3명이 전학을 와서 남학생수와 여학생수의 비가 5 : 4가 되었습니다. 3명이 전학 오기 전의 6학년 남학생수와 여학생수의 합을 구하시오.

답: _____ 명

23. 위, 앞, 옆에서 본 모양이 다음과 같은 쌓기나무로 만든 모양이 있습니다. 쌓기나무 400개를 가지고 이런 모양을 몇 개 만들 수 있는지 구하시오.

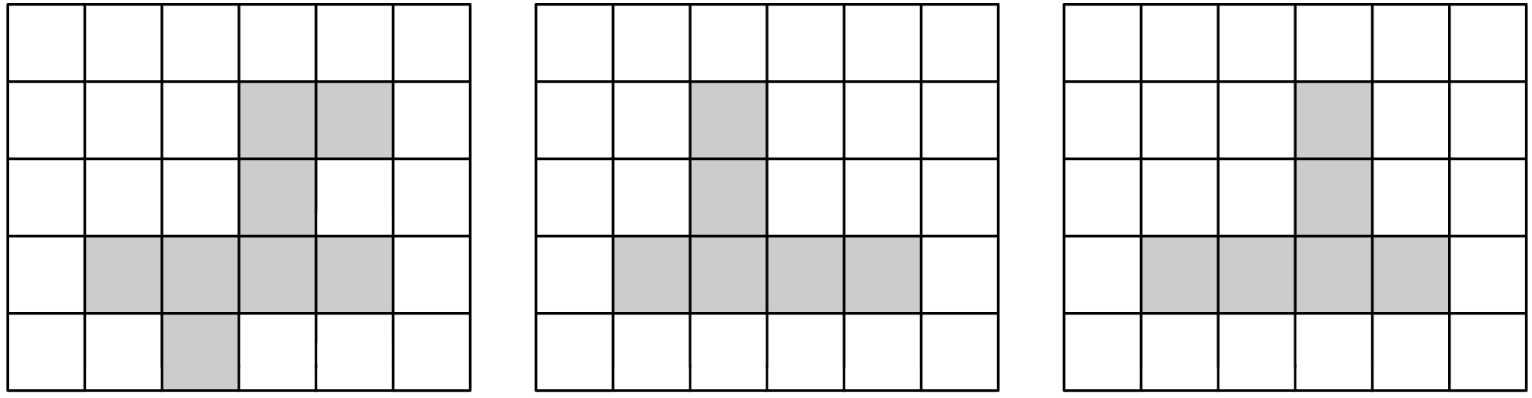

답: _____ 개

24. 하루에 8분씩 늦게 가는 시계가 있습니다. 어느 날 오전 9시에 정확히 시계를 맞추고, 다음날 오전 6시에 이 시계가 가리키는 시간은 얼마인지 구하시오.

답: 오전 _____

25. 이모는 사과와 배를 합하여 84 개를 56000 원을 주고 샀습니다. 사과와 배의 개수의 비는 1 : 5 이고, 사과와 배 1 개당 가격의 비는 5 : 1 이라고 합니다. 사과 1 개와 배 1 개의 가격의 차를 구하시오.

답: _____ 원