1. 다음 그림의 □ABCD 는 마름모이고, 점 O 는 두 대각선의 교점일 때, 옳지 <u>않은</u> 것은?

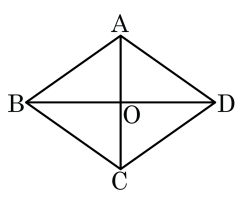

① $\overline{AB} = \overline{BC}$

② $\overline{OB} = \overline{OD}$

③ $\overline{CO} = \overline{DO}$

④ $\angle AOD = 90°$

⑤ $\angle AOB = \angle COD$

2. $\triangle ABC$와 $\triangle DEF$는 닮음인 관계가 있고 그 닮음비가 $4:5$이고 $\overline{AB}$의 길이가 8일 때, $\overline{DE}$ 의 길이는?

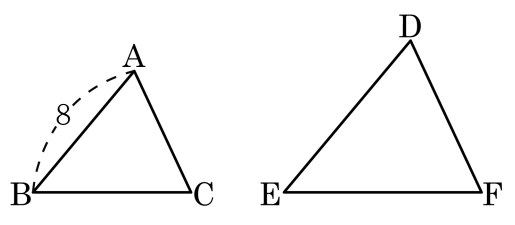

① 10 ② 11 ③ 12 ④ 13 ⑤ 14

3. 다음 그림에서 $\angle B = \angle D = \angle ACE = 90°$ 일 때, x 의 길이를 구하면?

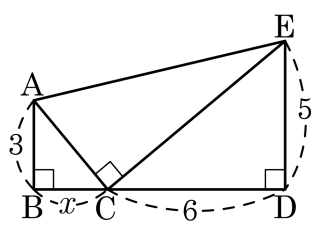

① 2 ② 2.5 ③ 3 ④ 3.5 ⑤ 4

4. 다음 그림과 같이 $\triangle ABC$ 에서 $\overline{DE} // \overline{BC}$ 일 때, 다음 중 옳지 <u>않은</u> 것은?

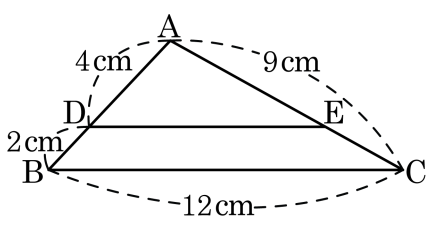

① $\triangle ABC \backsim \triangle ADE$

② $\overline{BC} : \overline{DE} = 3 : 2$

③ $\overline{AD} : \overline{AB} = \overline{DE} : \overline{BC}$

④ $\overline{DE} = 6\,\text{cm}$

⑤ $\overline{CE} = 3\,\text{cm}$

5. 다음 그림의 평행사변형 ABCD 에서 $\overline{AB}$ 와 $\overline{DF}$ 의 연장선과의 교점을 E 라고 할 때, $\overline{CF}$ 의 길이는?

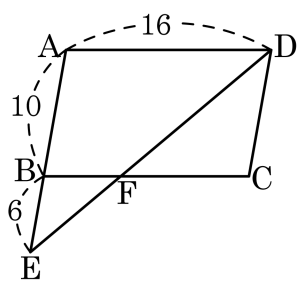

① 6 ② 8 ③ 10 ④ 12 ⑤ 14

6. 다음 그림에서 점 G 가 직각삼각형 ABC 의 무게중심일 때, $\overline{AG}$ 의 길이를 구하여라.

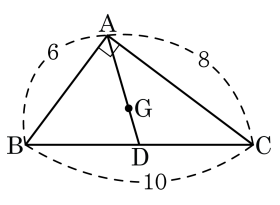

답: _____

7. 다음 그림과 같은 원뿔 모양의 그릇에 그 깊이의 반까지 물을 부었다. 그릇을 가득히 채우려면 지금 들어 있는 물의 몇 배를 더 부어야 하는가?

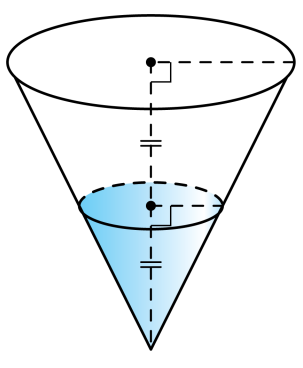

① 6 배 ② 7 배 ③ 8 배 ④ 9 배 ⑤ 10 배

8. 다음 그림의 □ABCD는 $\overline{AD} // \overline{BC}$인 사다리꼴이다. $\overline{AD} : \overline{BC} = 1 : 2$ 일 때, $\frac{1}{2}\angle B$의 크기를 구하여라.

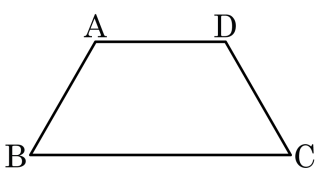

답: _____ °

9. 다음 그림에서 $\overline{AB} // \overline{DC}$ 이고, $\triangle ABC = 16cm^2$, $\triangle DBE = 34cm^2$ 일 때, $\square ABED$ 의 넓이는?

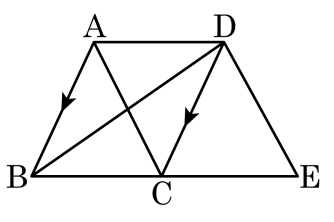

① $30cm^2$ ② $35cm^2$ ③ $40cm^2$
④ $45cm^2$ ⑤ $50cm^2$

10. 다음 그림은 $\overline{AD} // \overline{BC}$ 인 사다리꼴이다. $\triangle ACD = 36cm^2$, $\triangle ABO = 20cm^2$ 일 때, $\triangle AOD$ 의 넓이를 구하여라.

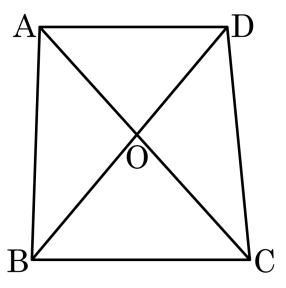

답: _____ cm^2

11. 그림과 같이 $\ell // m // n$ 일 때, xy 의 값을 구하여라.

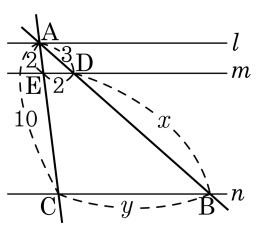

답: $xy =$ _____

12. 다음 그림의 $\triangle ABC$ 에서 점 D, E 는 각각 $\overline{AB}$, $\overline{AC}$ 의 중점이고, 점 F, G 는 각각 $\overline{BE}$, $\overline{CD}$ 의 중점이다. $\overline{DE} = 6\,\text{cm}$ 일 때, $\overline{FG}$ 의 길이를 구하여라.

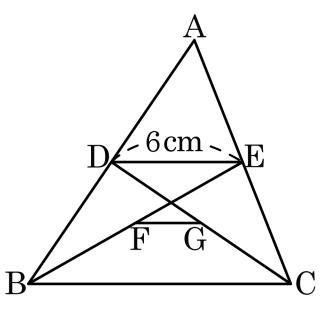

답: _____ cm

13. 다음 그림에서 점 G 는 $\triangle ABC$ 의 무게중심이다. $\overline{EF} /\!/ \overline{BC}$ 이고 $\triangle ABC = 27\,cm^2$ 일 때, $\triangle EDF$ 의 넓이를 바르게 구한 것은?

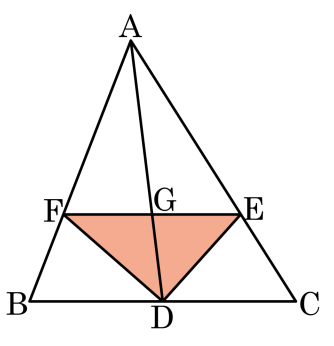

① $6\,cm^2$ ② $7\,cm^2$ ③ $8\,cm^2$

④ $9\,cm^2$ ⑤ $10\,cm^2$

14. 다음 그림에서 $\overline{BE}, \overline{CD}$는 $\triangle ABC$의 중선이다. $\triangle GCE = 16\,cm^2$일 때, $\square ADGE$의 넓이를 구하여라.

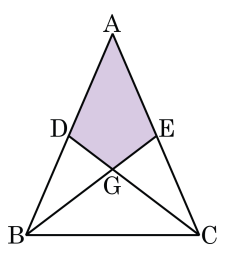

답: _____ cm^2

15. 다음 $\triangle ABC$에서 $\overline{AB} = \overline{AC}$, $\overline{CB} = \overline{CD}$, $\angle A = 40°$일 때, $\angle x$의 크기는?

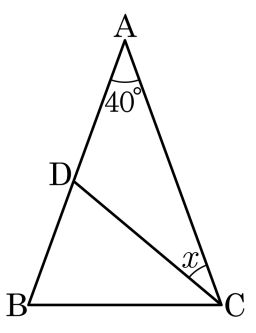

① 20° ② 25° ③ 30° ④ 35° ⑤ 40°

16. 정사각형 ABCD 에서 $\overline{BE} = \overline{CF}$ 이고 $\overline{AE}$ 와 $\overline{BF}$ 의 교점을 G 라 할 때, $\angle GBE + \angle BEG$ 의 크기는?

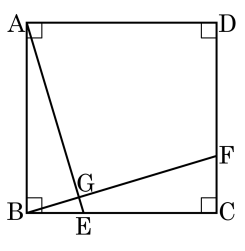

① 70° ② 80° ③ 90°

④ 100° ⑤ 110°

17. 다음 그림과 같이 평행사변형 ABCD 의 각 변의 중점을 잡아 $\overline{AF}$ 와 $\overline{CE}$, $\overline{AG}$ 와 $\overline{CH}$ 의 교점을 각각 P, Q 라 할 때, □ABCD를 제외한 평행사변형은 □AECG , □AFCH , □APCQ 이다. 각각의 평행사변형이 되는 조건을 순서대로 나열한 것은?

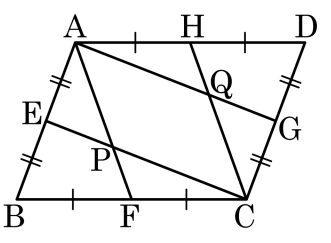

㉠ 두 쌍의 대변이 각각 평행하다.
㉡ 두 쌍의 대변의 길이가 각각 같다.
㉢ 두 쌍의 대각의 크기가 각각 같다.
㉣ 두 대각선이 서로 다른 것을 이등분한다.
㉤ 한 쌍의 대변이 평행하고 그 길이가 같다.

① ㉠, ㉡, ㉢　② ㉤, ㉢, ㉠　③ ㉤, ㉤, ㉠
④ ㉠, ㉢, ㉢　⑤ ㉡, ㉤, ㉢

18. 다음 그림에서 $\overline{DE}//\overline{BC}$, $\overline{BE}//\overline{FC}$, $\overline{AD} : \overline{DB} = 3 : 2$ 일 때, $\overline{AD} : \overline{DB} : \overline{BF}$ 의 값은?

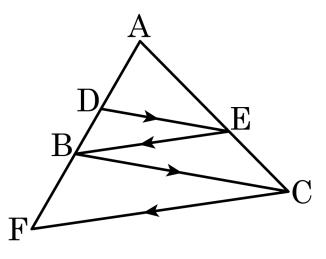

① 3 : 2 : 5　　② 3 : 2 : 6　　③ 6 : 4 : 9

④ 9 : 6 : 8　　⑤ 9 : 6 : 10

19. 다음 그림의 $\triangle ABC$ 에서 $\angle DAB = \angle ACB$, $\angle DAE = \angle CAE$ 일 때, x 의 값을 구하여라.

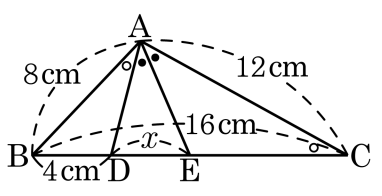

답: _____ cm

20. 다음 그림과 같은 직각이등변삼각형 ABC 에서 $\overline{BD}$ 는 $\angle B$ 의 이등분선이다. $\overline{BC} = a, \overline{CD} = b$ 일 때, $\overline{AB}$ 의 길이를 구하여라.

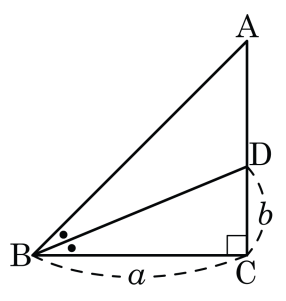

답: _____

21. 다음 그림의 평행사변형 ABCD 에서 $\triangle BEC = 12$, $\triangle GFC = 2$ 이고 점 F 는 변 CD 의 중점일 때, $\triangle BCG$ 의 넓이를 구하여라.

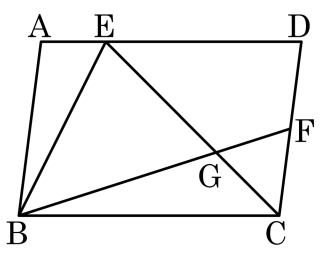

답: _____

22. 다음 그림과 같이 $\angle A = 90°$ 인 직각삼각형 ABC 의 빗변 $\overline{BC}$ 를 4 등분하는 점을 D, E, F 라 할 때, $\overline{AE}$ 의 길이를 구하여라.

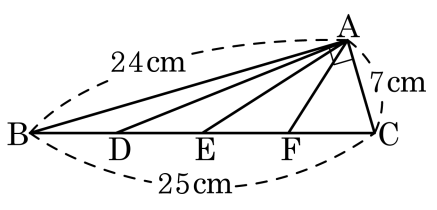

답: _____ cm

23. 점 O 를 외심으로 하는 $\triangle$ ABC 를 그리고, 다시 점 O 를 외심으로 하고 한 변을 $\overline{\mathrm{AB}}$ 로 하는 $\triangle$ABD 를 만들면 $\angle\mathrm{BDA} = 55^\circ$ 이다. $\angle x + \angle y$ 의 값을 구하여라.

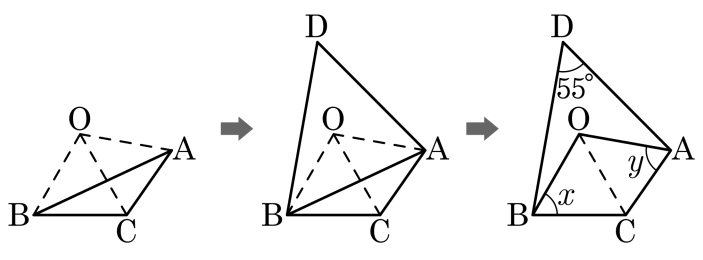

답: _____ °

24. 다음 그림에서 $\triangle ABC$ 는 $\angle B = 90°$ 인 직각삼각형이고, $\square ACDE$ 는 직사각형이다. $\overline{AE} = \frac{1}{2}\overline{AC}$, $\angle ACB = 30°$ 일 때, $\angle DEF$ 와 $\angle EFC$ 의 크기의 차는?

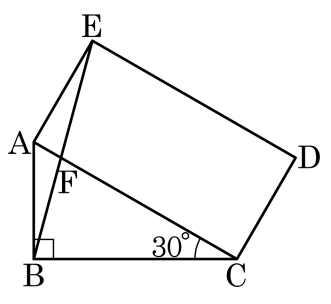

① 30° ② 32° ③ 34° ④ 36° ⑤ 38°

25. 다음 그림과 같이 정사각형 ABCD 의 변 BC 와 변 CD 위에 $\angle BAE = 16°$, $\angle DAF = 29°$ 가 되도록 점 E , F 를 잡을 때, $\angle AEF = (\quad)°$ 이다. ( ) 안에 들어갈 알맞은 수를 구하여라.

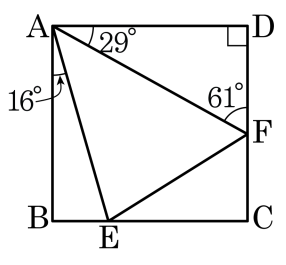

① 74 ② 72 ③ 70 ④ 68 ⑤ 66