1. 다음 그림은 $\overline{AB} = 6$, $\overline{BC} = 8$, $\overline{BD} = 10$ 인 직사각형 ABCD 에서 대각선 BD 를 접는 선으로 하여 점 C 가 점 E 에 오도록 접은 것이다. $\overline{AD}$ 와 $\overline{BE}$ 의 교점 P 에서 $\overline{BD}$ 에 내린 수선의 발을 Q 라 할 때, $\triangle BQP$ 의 둘레의 길이를 구하여라.

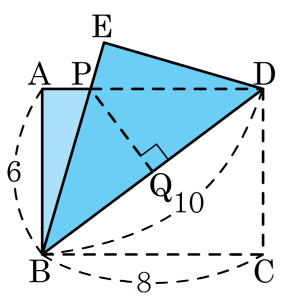

답: _____

2. 실제 거리가 $200\,\mathrm{m}$ 인 두 지점 사이의 거리를 $4\,\mathrm{cm}$ 로 나타내는 지도가 있다. 이 지도에서 실제 넓이가 $15\,\mathrm{km}^2$ 인 땅의 넓이를 구하여라.

① $6000\,\mathrm{cm}^2$ ② $6500\,\mathrm{cm}^2$ ③ $7000\,\mathrm{cm}^2$
④ $7500\,\mathrm{cm}^2$ ⑤ $8000\,\mathrm{cm}^2$

3. 다음 그림에서 점 G, G' 는 각각 $\triangle\mathrm{ABC}, \triangle\mathrm{ADC}$ 의 무게중심이다. $\triangle\mathrm{GDG}' = 12\mathrm{cm}^2$ 일 때, $\triangle\mathrm{ABC}$ 의 넓이를 구하여라.

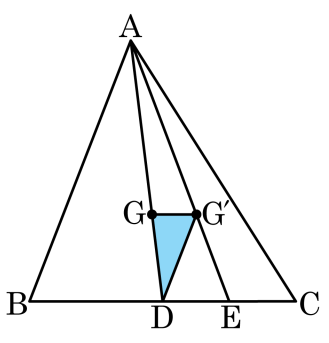

답: _____ cm^2

4. 넓이가 216cm^2 인 마름모 ABCD 가 있다. □ABCD 의 내부의 한 점 P 에서 네 변에 내린 수선의 길이를 각각 l_1 , l_2 , l_3 , l_4 라 하고, $l_1+l_2+l_3+l_4=\frac{432}{15}(\text{cm})$ 일 때, 마름모의 한 변의 길이를 구하여라.

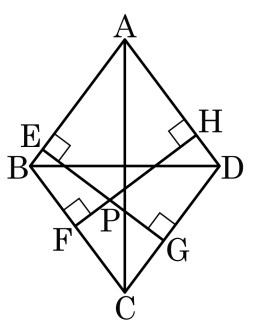

답: _____ cm

5. 다음에서 $\overline{AE}$ 의 길이는? (단, $\overline{AD} // \overline{EC}$)

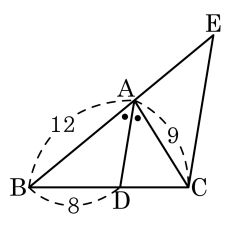

① 4 ② 6 ③ 8

④ 9 ⑤ 11

6. 다음 그림에서 점 G, G′ 는 각각 △ACD , △DBC 의 무게중심이다. $\overline{AB} = 24\,\text{cm}$ 일 때, $\overline{GG'}$ 의 길이를 구하여라.

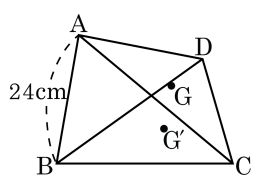

답: _____ cm

7. 다음 그림과 같이 직사각형 ABCD를 대각선 BD를 접는 선으로 하여 접었을 때, $\overline{EF}$의 길이는?

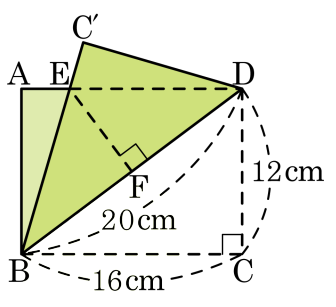

① 7cm ② 7.5cm ③ 8cm

④ 8.5cm ⑤ 9cm

8. 다음 그림의 정사각형 ABCD 에서 $\angle EBC = 28°$ 일 때, $\angle APD$ 의 크기를 구하여라.

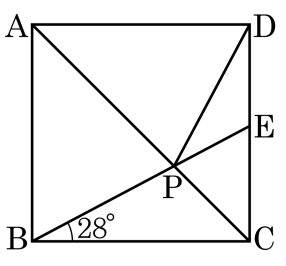

답: _____ °

9. 평행사변형 ABCD 에서 점 E, F 는 각각 변 $\overline{BC}, \overline{CD}$ 의 중점이고 점 G, H 는 각각 대각선 $\overline{BD}$ 와 $\overline{AE}, \overline{AF}$ 의 교점이다. △AGH 의 넓이가 10 일 때, △CFE 의 넓이를 구하면?

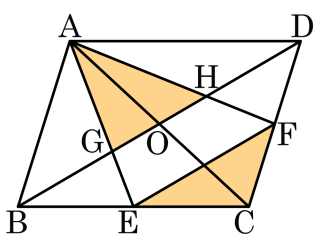

① 2 ② 4 ③ 6 ④ 7.5 ⑤ 10

10. 다음 그림과 같은 평행사변형 ABCD 에서 대각선 BD 를 접는 선으로 하여 접었다. $\overline{AB}$, $\overline{DC'}$ 의 연장선의 교점을 P 라고 할 때, $\angle P$ 의 크기는?

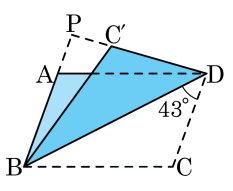

① 86° ② 88° ③ 90°

④ 94° ⑤ 96°

11. 세 직선 $y=3$, $y=-1$, $y=a(a<0)$ 와 직선 $y=bx+c\ (b>0)$ 의 교점을 각각 A, B, C 라 하고, 점 A 를 지나는 직선 $x=24$ 와 $y=-1$, $y=a$ 의 교점을 각각 D, E 라 할 때, $\overline{AD}=4$, $\overline{DE}=4$, $\overline{BD}=3$ 이다. 이때, $a-b-c$ 의 값을 구하여라.

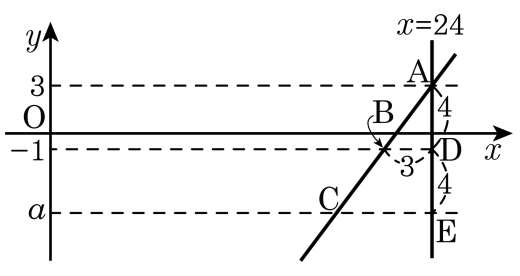

답: _____

12. 다음 그림과 같이 $\triangle ABC$ 에서 $\overline{AB}$ 와 $\overline{AC}$ 의 중점을 각각 M, N 이라 하고, $\overline{BC}$ 의 삼등분점을 각각 P, Q , $\overline{MQ}$ 와 $\overline{NP}$ 의 교점을 R 이라 할 때, $\overline{MR} : \overline{RQ} = x : y$이다. x, y값을 차례대로 써라.

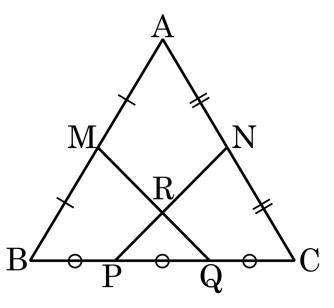

답: _____

답: _____

13. 다음 그림과 같은 직사각형 ABCD 에서 $\overline{AB} = \overline{DE}$, $\overline{AE} = \overline{BF}$ 일 때, $\angle BPF$ 의 값을 구하여라.

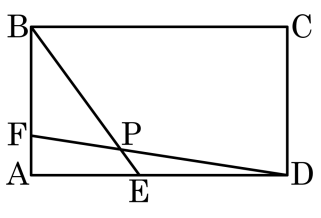

답: _____ °

14. 다음 그림에서 $\angle BFD$와 크기가 같은 것은?

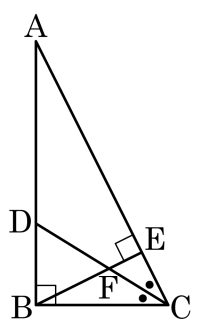

① $\angle ADC$ ② $\angle EBC$ ③ $\angle BAC$

④ $\angle BDC$ ⑤ $\angle ABE$

15. 다음 그림에서 서로 닮음인 삼각형이 <u>잘못</u> 짝지어진 것은?

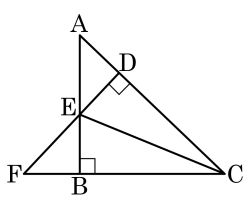

① $\triangle FDC \backsim \triangle ABC$

② $\triangle ADE \backsim \triangle FBE$

③ $\triangle ADE \backsim \triangle ABC$

④ $\triangle EBC \backsim \triangle EDC$

⑤ $\triangle FDC \backsim \triangle ADE$

16. 직선 $y = ax + b$ 가 세 직선 $y = 3$, $y = 1$, $y = c$ 와 만나는 점을 각각 A, B, C 라 하고, 점 A 를 지나는 직선 $x = -1$ 이 $y = 1$, $y = c$ 와 만나는 점을 각각 D, E 라 한다. $\overline{\mathrm{AB}} = 3$, $\overline{\mathrm{BC}} = 9$, $\overline{\mathrm{BD}} = 2$ 일 때, $a + b + c$ 의 값을 구하여라. (단, $a > 0$, $c < 1$)

답: _____

17. 높이가 15cm 인 원뿔을 다음 그림과 같이 밑면과 평행하게 잘랐더니 원뿔과 원뿔대의 부피의 비가 27 : 98 이 되었다. 원뿔과 원뿔대의 높이를 각각 구하여라.

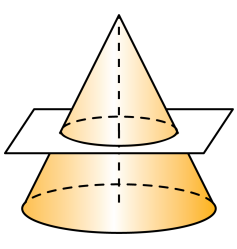

답: _____ cm

답: _____ cm

18. 다음 그림은 천문대의 높이를 구하려고 B, C 두 지점에서 천문대 끝을 올려다 본 것을 축척 $\frac{1}{400}$ 로 그린 것이다. 천문대의 높이를 구하여라.

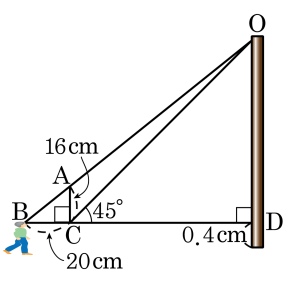

답: _____ m

19. 다음 그림과 같은 원뿔 모양의 그릇에 한 시간 동안 물을 받았더니 전체 높이의 $\frac{3}{4}$ 만큼 물이 찼다. 이때, 수면의 지름의 길이를 구하여라.

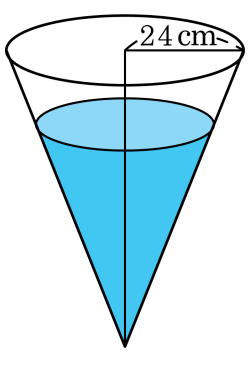

답: _____ cm

20. 다음 그림에서 점 D 가 $\overline{AB}$ 의 중점이고 $\overline{AE} = 2 \times \overline{EC}$ 일 때, $\overline{EF} : \overline{FB}$ 의 비가 $a : b$ 이다. $a + b$ 의 값을 구하시오. (단 a, b 는 서로소)

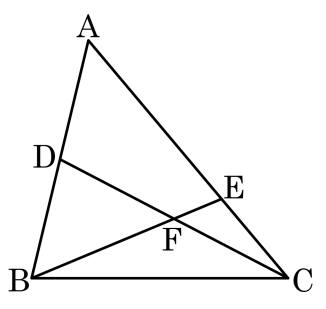

답: _____

21. 다음은 $\angle ABD = \angle ACB$ 일 때, 두 삼각형이 닮음임을 증명하는 과정이다. 알맞은 것을 고르면?

[증명]
$\triangle ABD$ 와 $\triangle ACB$ 에서 (①)는 공통.
가정에서 (②)=(③)
삼각형의 닮음조건 (④)에 의하여 $\triangle ABD$ (⑤) $\triangle ACB$ 이다.

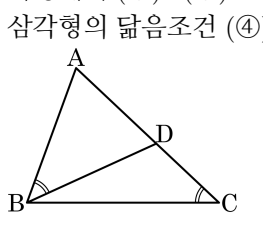

① $\angle B$　　② $\angle ADB$　　③ $\angle ACB$

④ $\angle SSS$　　⑤ $\equiv$

22. $\triangle ABC$ 에서 점 E 는 중선 AD 의 중점이고, 점 F, G 는 선분 AC 의 삼등분점일 때, 선분 BE 의 연장선은 점 F 를 지난다. 선분 EF 가 6cm 일 때, 선분 DG 의 길이를 구하여라.

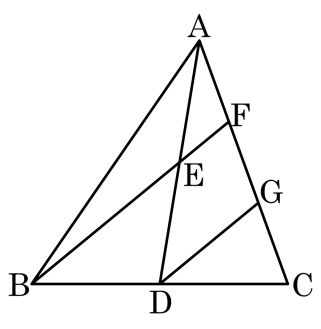

답: _____ cm

23. 평행사변형 ABCD 에서 $\overline{BC}$ 의 중점을 M, $\overline{AM}$, $\overline{BD}$ 의 교점을 N, $\overline{BN}$ 의 중점을 R 이라 하고 □ABCD = 96 일 때, △BMR 의 넓이를 구하여라.

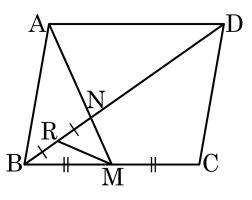

① 4　② 8　③ 12

④ 16　⑤ 20

24. 다음 그림과 같은 평행사변형 ABCD 에서 $\triangle ABE = 10\text{cm}^2$ 이라 할때, $\square EBCD$ 의 넓이를 구하여라.

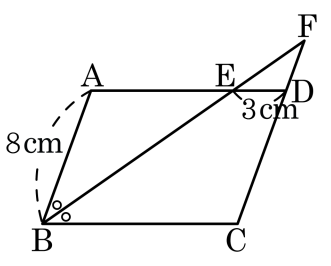

답: _____ cm^2

25. 다음 그림에서 네 변의 길이가 같은 평행사변형 ABCD 의 넓이가 40 이고, 점 E, F, G, H 는 각 변의 중점일 때, 사각형 IJKL 의 넓이를 구하여라.

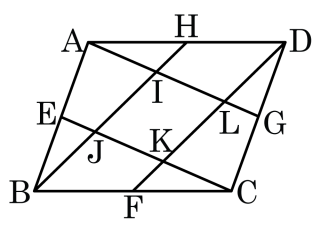

답: _____

26. 다음 그림과 같이 $\angle ABC = 60°$ 인 마름모 ABCD 의 내부에 임의의 한 점 O 가 있다. 점 O 에서 마름모 ABCD 의 각 변 또는 그의 연장선 위에 내린 수선의 발을 각각 P, Q, R, S 라 할 때, 다음 중 $\overline{OP} + \overline{OQ} + \overline{OR} + \overline{OS}$ 와 같은 것은?

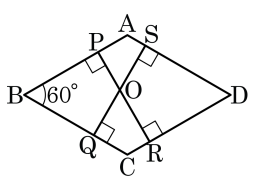

① $\overline{AC}$　② $\overline{BD}$　③ $\overline{OA} + \overline{OC}$

④ $\overline{OB} + \overline{OD}$　⑤ $2\overline{AB}$

27. 다음은 '한 쌍의 대변이 평행하고 그 길이가 같은 사각형은 평행사변형이다.' 를 증명하는 과정이다. 밑줄 친 부분 중 <u>틀린</u> 곳을 모두 고르면?

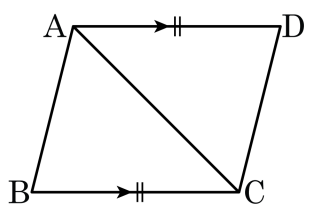

가정) □ABCD 에서 $\overline{AD} // \overline{BC}$, ㄱ. $\underline{\overline{AD} = \overline{BC}}$
결론) $\overline{AB} // \overline{DC}$
증명) 대각선 AC를 그으면
△ABC와 △CDA 에서
ㄱ. $\underline{\overline{AD} = \overline{BC}}$ (가정) ⋯㉠
ㄴ. $\underline{\angle DCA = \angle BAC}$ (엇각) ⋯㉡
ㄷ. $\underline{\overline{AC}}$ 는 공통 ⋯㉢
㉠, ㉡, ㉢에 의해서 △ABC ≡ △CDA (ㄹ. <u>SAS</u> 합동)
ㅁ. $\underline{\angle DAC = \angle BCA}$ 이므로
$\therefore \overline{AB} // \overline{DC}$
따라서 두 쌍의 대변이 각각 평행하므로
□ABCD는 평행사변형이다.

① ㄱ ② ㄴ ③ ㄷ ④ ㄹ ⑤ ㅁ

28. 다음 그림의 $\triangle ABC$ 에서 $\angle CAD = \angle EAD = 60°$, $\overline{AB} = 12cm$, $\overline{CD} = 10cm$, $\overline{AD} = 15cm$ 일 때, $\overline{AC}$ 의 길이는?

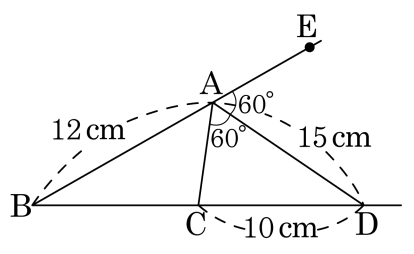

① 6cm ② 5cm ③ $\frac{24}{5}$cm
④ $\frac{15}{4}$cm ⑤ $\frac{20}{3}$cm

29. 다음 그림과 같이 $\angle A = 90°$ 인 $\triangle ABC$ 에서 $\overline{BM} = \overline{CM}$ 일 때, $\overline{DH}$ 의 길이를 구하여라.

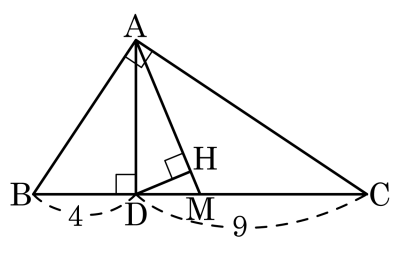

답: _____