1. 다음 소수를 바르게 읽은 것끼리 연결한 것은 어느 것입니까?

(1) 0.285	㉠ 사점 칠육오
(2) 4.765	㉡ 영점 이팔오
(3) 52.43	㉢ 사십이점 팔사육
(4) 42.846	㉣ 오십이점 사삼

① (1)-㉡, (2)-㉠, (3)-㉢, (4)-㉣

② (1)-㉡, (2)-㉠, (3)-㉣, (4)-㉢

③ (1)-㉡, (2)-㉢, (3)-㉣, (4)-㉠

④ (1)-㉡, (2)-㉢, (3)-㉠, (4)-㉣

⑤ (1)-㉡, (2)-㉣, (3)-㉠, (4)-㉢

2. 빈 칸에 알맞은 수를 차례대로 써넣은 것을 고르시오.

$\square$ – 1.38 – 1.381 – $\square$ – 1.383

① 1.378, 1.381 ② 1.378, 1.308 ③ 1.378, 1.382
④ 1.379, 1.381 ⑤ 1.379, 1.382

3. 다음 수 중에서 40초과 70 미만인 수가 <u>아닌</u> 것은 어느 것입니까?

① $42\frac{1}{5}$ ② 50 ③ $67\frac{1}{10}$ ④ 67.9 ⑤ $70\frac{1}{2}$

4. 수를 보고, 26 초과 30 이하인 수가 아닌 것은 어느 것입니까?

① $26\frac{1}{2}$ ② 27 ③ 29.7 ④ 30 ⑤ 31.4

5. 다음 중 꺾은선 그래프로 나타내기에 알맞은 것은?

① 인구별 70세 이상 인구 수

② 학교별 독서량

③ 우리 반 학생들이 좋아하는 계절

④ 우리 학교의 월 평균 수도 사용량

⑤ 회사별 책 판매 수

6. 팔 굽혀펴기 기록의 변화가 가장 큰 때는 무슨 요일과 무슨 요일 사이인지 고르시오.

팔굽혀펴기 기록

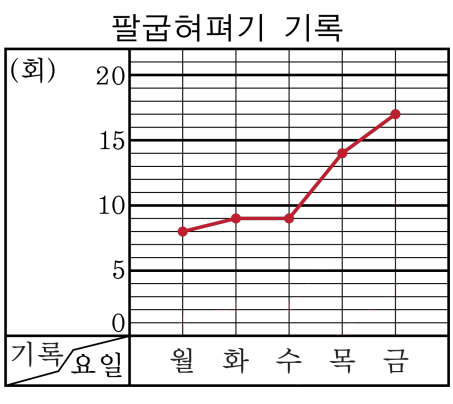

① 월요일과 화요일 사이
② 화요일과 수요일 사이
③ 수요일과 목요일 사이
④ 목요일과 금요일 사이
⑤ 금요일과 토요일 사이

7. $\square$ 안에 알맞은 수를 써넣으시오.

$$5.6 - \square = 3.24$$

답: _____

8. 다음 중 수직인 변이 가장 많은 것은 어느 것입니까?

① 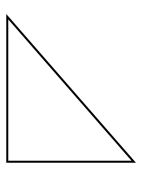

② 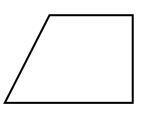

③ 

④ 

⑤ 

9. 두 직선 가와 나는 서로 평행입니다. $\boxed{}$ 안에 알맞은 수를 써넣으시오.

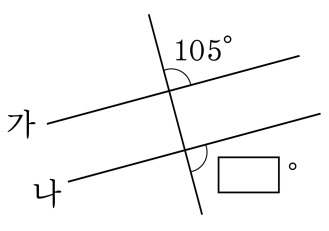

답: _____ °

10. 다음 중 마주 보는 각을 향하여 접었을 때, 항상 포개지는 도형을 모두 고르시오.

① 사다리꼴 ② 평행사변형 ③ 마름모
④ 직사각형 ⑤ 정사각형

11. 다음 중 다각형이 아닌 도형으로 짝지어진 것은 어느 것인지 구하시오.

① 삼각형, 십이각형
② 사다리꼴, 정사각형
③ 원, 반원
④ 직사각형, 마름모
⑤ 사다리꼴, 마름모, 삼각형

12. 다음 도형의 이름을 쓰시오.

6개의 선분으로 이루어진 도형입니다. 선분의 길이와 각의 크기가 모두 같습니다.

답: _____

13. 다음 도형에서 대각선을 그었을 때, 서로 수직인 것을 모두 고르시오.

① 사다리꼴 ② 평행사변형 ③ 마름모
④ 직사각형 ⑤ 정사각형

14. 버림하여 백의 자리까지 나타내면 1600 이 되는 자연수 중에서 가장 큰 수를 구하시오.

답: _____

15. 다음 숫자카드를 한 번씩만 사용하여 가장 큰 소수 두 자리 수를 만드시오.

8	3	5	4	1	.

답: _____

16. 다음은 영미네 집에서 여러 곳까지의 거리를 나타낸 것입니다. 영미네 집에서 가장 가까운 곳은 어디인지 구하시오.

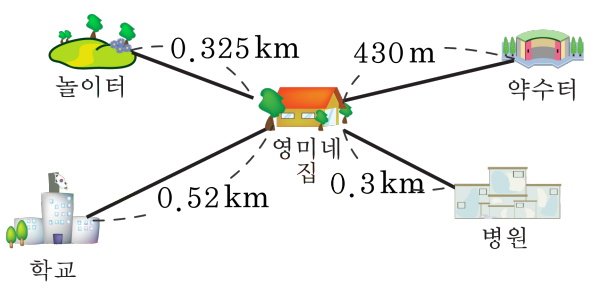

답: _____

17. $\boxed{}$ 안에 들어갈 알맞은 숫자들의 합을 구하시오.

$$\begin{array}{r} \square.01 \\ -\ 2.\square23 \\ \hline 1.18\square \end{array}$$

답: _____

18. 돼지저금통의 돈을 1000 원짜리 지폐로 모두 바꾸었더니 모두 28000 원이었고 동전 몇 개가 남았습니다. 돼지저금통에 들어 있던 금액의 범위를 초과와 미만을 사용하여 구하시오.

답: _____

19. 다음 그림에서 가 직선과 나 직선은 평행입니다. $\square$안에 알맞은 각을 구하시오.

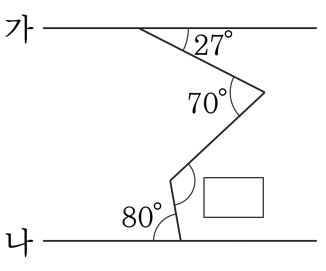

답: _____ °

20. 수직선에 나타낸 수 중 각 자리의 숫자의 합이 10 이 되는 소수 두 자리 수를 모두 쓰시오.

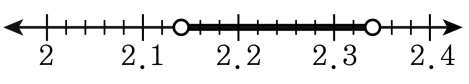

답: _____

답: _____