1. 다음 수들이 포함되는 수의 범위를 바르게 나타낸 것은 어느 것입니까?

67.5 68 70 75.6 78

① 68 이상인 수 ② 70 이하인 수 ③ 67 초과인 수
④ 78 미만인 수 ⑤ 67 미만인 수

2. 다음 중 20 이상 45 미만인 수가 <u>아닌</u> 것은 어느 것입니까?

① 20 ② 25 ③ 30 ④ 35 ⑤ 45

3. 다음은 민정이네 반 학생들의 과학 점수입니다. 점수의 범위에 따른 학생 수를 구한 것으로 바르지 않은 것은 어느 것입니까?

<과학 점수>

병진 : 53	현경 : 72	상현 : 78	규일 : 94
경섭 : 83	진현 : 75	성인 : 57	진수 : 62
현준 : 60	준희 : 78	민수 : 90	미혜 : 75
석훈 : 70	경진 : 86	준형 : 85	인경 : 68

점수의 범위	학생 수(명)
50 이상 60 미만	(1)
60 이상 70 미만	(2)
70 이상 80 미만	(3)
80 이상 90 미만	(4)
90 이상 100 미만	(5)

① (1) 2 명 ② (2) 3 명 ③ (3) 6 명

④ (4) 4 명 ⑤ (5) 2 명

4. 수직선에 나타낸 수의 범위에 속하지 <u>않는</u> 것은 어느 것입니까?

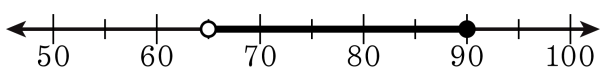

① $65\frac{1}{5}$ ② 75.5 ③ 90 ④ $72\frac{3}{4}$ ⑤ 91.5

5. 꺾은선 그래프로 나타내기에 알맞지 <u>않은</u> 것은 어느 것입니까?

① 우리나라의 한 달 동안의 강수량의 변화

② 남현이의 키의 변화

③ 교실의 온도 변화

④ 우리나라 수출액의 변화

⑤ 태수의 과목별 시험 점수

6. 삼각형 안의 점 가에서 변에 그을 수 있는 수선은 모두 몇 개인지 구하시오.

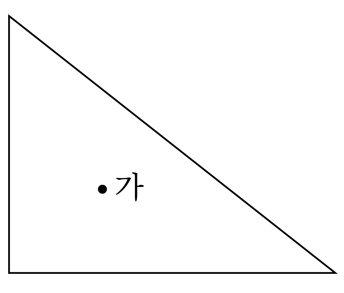

답: _____ 개

7. 평행사변형에 대한 설명으로 옳지 <u>않은</u> 것은 어느 것인지 고르시오.

① 두 쌍의 마주 보는 변이 평행입니다.

② 마주 보는 변의 길이가 같습니다.

③ 마주 보는 각의 크기가 같습니다.

④ 네 각의 크기가 같습니다.

⑤ 이웃하는 두 각의 합은 $180°$ 입니다.

8. 마름모를 보고, $\boxed{}$ 안에 알맞은 수나 각도를 왼쪽부터 차례대로 써넣으시오.

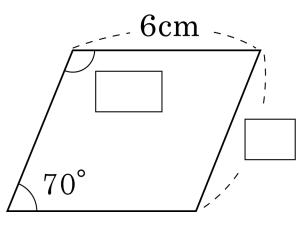

답: _____ °

답: _____ cm

9. ㉠ ~ ㉣ 중 어느 점과 이으면 마름모를 그릴 수 있는지 구하시오.

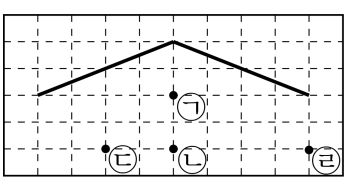

① ㉠ ② ㉡ ③ ㉢ ④ ㉣ ⑤ 없다.

10. 다음 중 마름모인 것은 어느 것입니까?

① 직사각형 ② 평행사변형 ③ 정사각형
④ 사다리꼴 ⑤ 다각형

11. 다음 도형에서, 사각형을 모두 찾아 쓰시오.

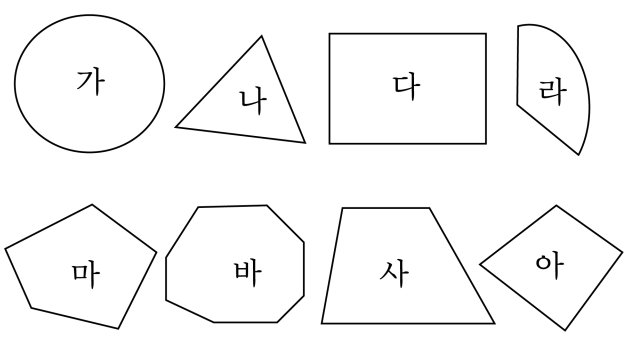

답: _____

답: _____

답: _____

12. 도형을 보고, 꼭짓점 ㅂ에서 대각선을 그으면 몇 개를 그을 수 있는지 구하시오.

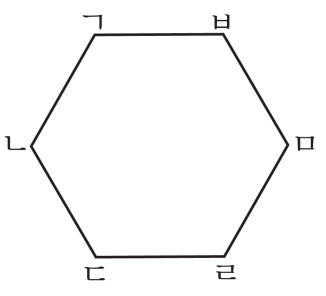

답: _____ 개

13. 버림하여 백의 자리까지 나타낼 때 6000이 되지 않는 수를 모두 고르면?

① 5999 ② 6000 ③ 6001 ④ 6009 ⑤ 6101

14. 다음은 하루 동안 은영이의 체온 변화를 나타낸 그래프입니다. 오전 11 시 45 분에는 약 몇 도라고 할 수 있는지 구하시오.

은영이의 체온의 변화

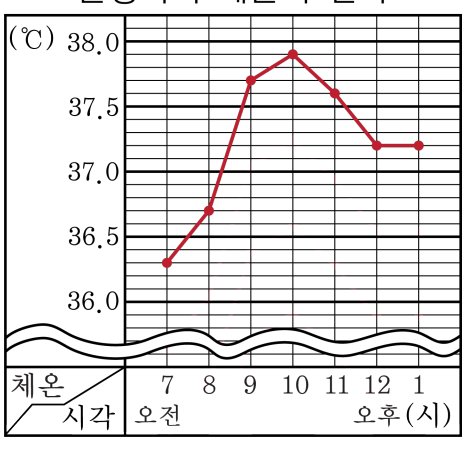

답: _____ °C

15. 다음 중 꺾은선 그래프로 나타내면 더 좋은 것의 개수를 구하시오.

㉠ 일 년 동안 내 동생의 몸무게 변화
㉡ 우리 학교 학생들이 좋아하는 운동
㉢ 국가별 쌀 생산량
㉣ 일 주일 동안 콩나물의 키의 변화

답: _____ 개

16. 가 식물과 나 식물의 키의 차이가 가장 많이 나는 때는 언제이며 그 차는 몇 cm 인지 순서대로 구하시오.

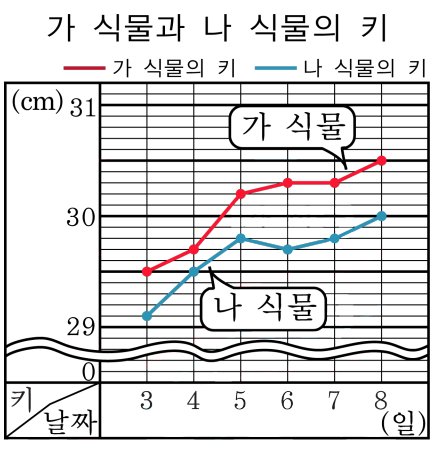

답: _____ 일

답: _____ cm

17. 병아리와 강아지가 있습니다. 다리는 모두 60 개이고, 병아리가 강아지보다 9 마리 더 있습니다. 강아지는 모두 몇 마리 있습니까?

답: _____ 마리

18. 100cm 의 철사를 두 도막으로 나누려고 합니다. 긴 도막이 짧은 도막의 2 배보다 10cm 더 길게 하려면, 긴 도막은 몇 cm 로 해야 합니까?

답: _____ cm

19. 다음 그림에서 선분 ㄱㄷ과 선분 ㅁㄹ은 서로 평행입니다. 각 ㄷㄱㅁ의 크기를 구하시오.

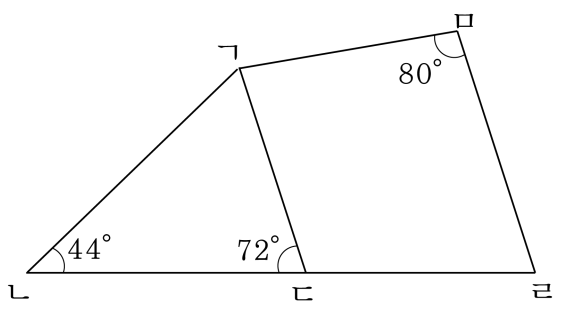

답: _____ °

20. 다음 정오각형에 있는 5 개의 각의 합은 몇 도인지 구하시오.

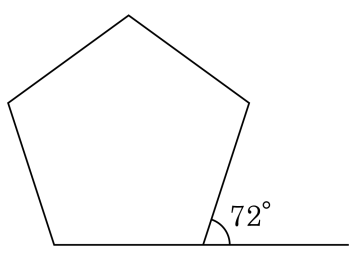

답: _____ °

21. 직사각형 모양의 종이를 그림과 같이 점선을 따라 오렸을 때 오린 도형 중에서 사다리꼴은 모두 몇 개인지 구하시오.

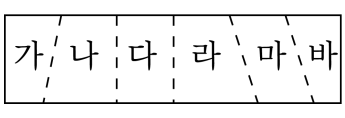

답: _____ 개

22. 다음 수를 어느 자리에서 반올림하면 가장 큰 수가 되겠습니까?

30581

① 일의 자리 ② 십의 자리 ③ 백의 자리
④ 천의 자리 ⑤ 만의 자리

23. 어떤 수를 버림하여 십의 자리까지 나타내면 740 이고, 올림하여 십의 자리까지 나타내면 750 입니다. 이 수를 반올림하여 십의 자리까지 나타내면 750 일 때, 어떤 수 중 가장 큰 수를 구하시오.

답: _____

24. 다음 도형의 $\square$ 안에 알맞은 수를 써넣으시오.

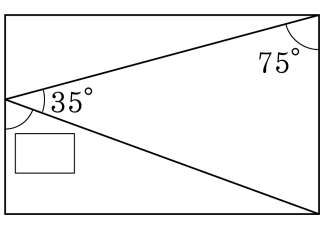

답: _____ °

25. 가로가 15cm, 세로가 16cm 인 직사각형의 둘레의 길이는 몇 cm 인지 구하시오.

답: _____ cm