1. 앞에서 본 모양을 그렸을 때, 나타나는 정사각형의 개수가 다른 하나를 고르시오.

① 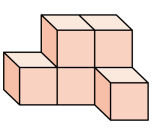

② 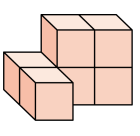

③ 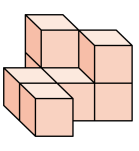

④ 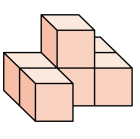

⑤ 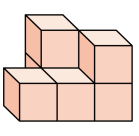

2. 두 부분을 합쳤을 때,<보기>와 같은 모양이 아닌 것은 어느 것입니까?

보기

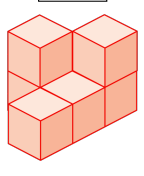

①

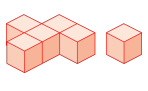

②

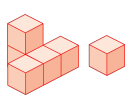

③

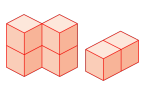

④

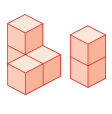

⑤

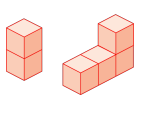

3. 쌓기나무로 그림과 같은 모양을 만들어 보고, 규칙을 바르게 말한 것을 고르시오.

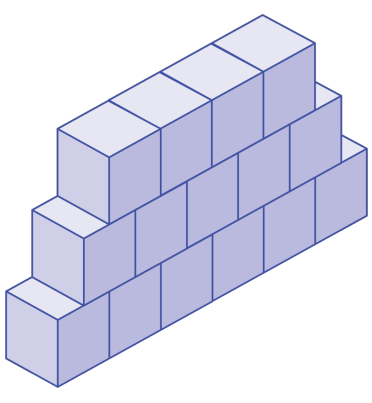

① 위로 올라갈수록 3개씩 줄어듭니다.

② 위로 올라갈수록 2개씩 늘어납니다.

③ 위로 올라갈수록 1개씩 늘어납니다.

④ 위로 올라갈수록 2개씩 줄어듭니다.

⑤ 위로 올라갈수록 1개씩 줄어들고 엇갈려 쌓았습니다.

4. 다음 중 비례식이 옳은 것은 어느 것입니까?

① $4 : 1 = 5 : 20$
② $11 : 8 = 22 : 10$
③ $20 : 50 = 2 : 5$
④ $\frac{1}{3} : \frac{2}{3} = 2 : 1$
⑤ $36 : 24 = 2 : 3$

5. 비의 값이 $\frac{1}{3}$ 이 되도록, 후항에 알맞은 수를 구하시오.

15 : $\square$

① 5 ② 15 ③ 45 ④ 50 ⑤ 65

6. 다음 중 <u>틀린</u> 것은 어느 것인지 고르시오.

① $2:5=6:15$에서 내항은 5와 6이고, 외항은 2와 15입니다.

② $2:4=8:16$에서 외항의 곱은 2와 16을 곱해야 합니다.

③ 비례식에서 외항의 곱과 내항의 곱은 같을 수도 있고 다를 수도 있습니다.

④ $3:4=9:$ ■ 에서 ■안에 들어갈 수는 12입니다.

⑤ $3:7=12:28$에서 내항과 외항의 곱은 같습니다.

7. 비례식 $3 : \square = 18 : 12$ 에서 $\square$를 구하는 식으로 알맞은 것은 어느 것인지 고르시오.

① $3 \times 12 \times 18$ ② $3 \times 12 \div 18$ ③ $18 \div 3 \times 12$

④ $18 \times 12 \div 3$ ⑤ $18 \div 3 \div 12$

8. 영지네 문구점에는 매년 자와 지우개가 4 : 7 로 팔리고 있습니다. 올해 자를 160 개 팔았다면, 지우개는 몇 개를 팔았습니까?

① 160 개 ② 1120 개 ③ 100 개
④ 280 개 ⑤ 2800 개

9. 아래의 그림은 크기가 같은 쌓기나무를 차례로 5층으로 쌓은 것입니다. 쌓기나무는 모두 몇 개입니까?

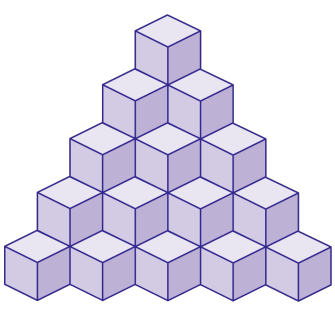

답: _____ 개

10. 보기와 모양이 같은 것을 찾으시오.

보기

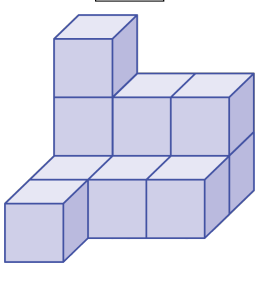

①

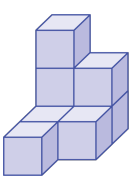

②

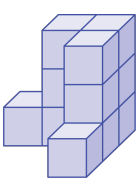

③

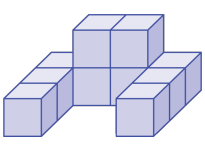

④

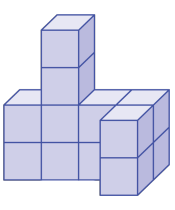

⑤

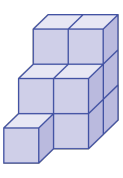

11. 다음에서 설명하는 두 수의 비를 구하시오.

㉠ 전항이 5 이고, 후항이 7 인 비와 비례식을 만들 수 있습니다. ㉡ ㉠에서 만든 비례식의 외항은 5 와 21 입니다.

답: _____

12. 다음 비의 값이 모두 같다고 합니다. ㉠과 ㉡에 알맞은 수를 차례로 쓰시오.

3 : 4
15 : ㉠
㉡ : 32

답: _____

답: _____

13. 무준이는 한달에 5500 원씩 저금을 하고, 미영이는 7500 원씩 저금을 할 때, 두 사람의 한 달 저금양의 비를 간단하게 나타낸 것을 고르시오.

① 5500 : 7500 ② 110 : 150 ③ 15 : 11
④ 11 : 15 ⑤ 55 : 75

14. 가장 간단한 자연수의 비로 나타내었을 때, 후항이 가장 작은 비를 찾아 기호를 쓰시오.

㉠ $0.75 : 1\frac{1}{2}$	㉡ $3\frac{3}{5} : 0.9$	㉢ $2.4 : 4.5$

답: _____

15. 10분에 15 km를 달리는 자동차가 있습니다. 이 자동차가 같은 빠르기로 1시간 20분을 달린다면, 몇 km를 달릴 수 있습니까?

① 100 km ② 120 km ③ 130 km
④ 140 km ⑤ 150 km

16. ㉮상품의 정가를 2할 인상한 가격과 ㉯상품의 정가를 50 % 인상한 가격이 같다면, 두 상품 ㉮, ㉯의 정가의 비를 가장 간단한 자연수의 비로 나타내시오.

답: _____

17. 갑은 하루에 3시간씩 5일 동안 일하고, 을은 하루에 2시간씩 6일 동안 일을 하였습니다. 일을 한 품삯으로 모두 360000원을 받았습니다. 일한 시간에 비례하여 품삯을 나눌 때 갑은 얼마를 받으면 되겠는지 구하시오.

답: _____ 원

18. 다음 바탕그림 위에 각 칸에 쓰여 진 수만큼 쌓기나무를 쌓을 때, 두 모양의 2층에 있는 쌓기나무 개수를 합하면 몇 개 입니까?

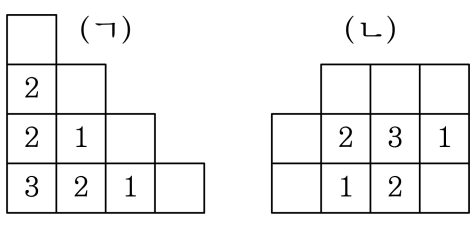

① 5개 ② 6개 ③ 7개 ④ 8개 ⑤ 9개

19. 쌓기나무의 바닥에 닿은 곳을 제외한 각 면에 스티커를 붙이려고 합니다. 스티커는 몇 개가 필요합니까?

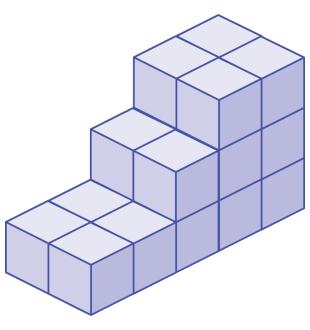

답: _____ 개

20. 보기와 같이 쌓기나무의 일부분을 옮겨서 쌓기나무의 개수를 알아보려고 합니다. 주어진 모양의 쌓기나무의 개수는 몇 개인지 구하시오.

보기

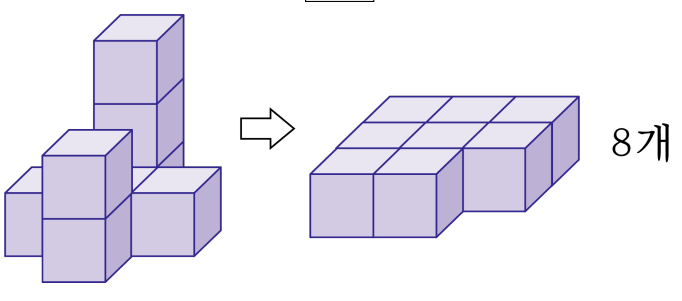

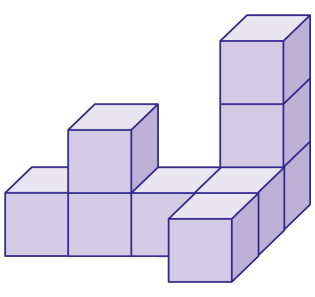

답: _____ 개

21. 다음 그림과 같은 규칙에 따라 쌓기나무를 아래 방향으로 6층까지 쌓을 때, 1층에는 쌓기나무가 몇 개 필요한가?

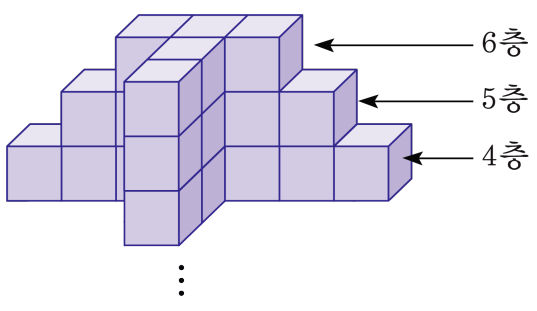

답: _____ 개

22. 색종이 117장이 있습니다. 이 색종이의 $\frac{4}{9}$ 를 지영이가 가지고, 나머지 색종이를 미영이와 혜진이가 $3:2$의 비로 나누어 가졌습니다. 미영이는 몇 장을 가지게 되는지 구하시오.

답: _____ 장

23. 다음 그림은 쌓기나무를 쌓아 만든 모양과 바탕 그림 위에 쌓은 쌓기나무의 개수를 표시한 것입니다. ㉮, ㉯의 개수를 구하고, ㉰의 쌓기나무의 개수를 예상하면 최소 몇 개에서 최대 몇 개까지 쌓은 것인지 차례대로 알아보시오.

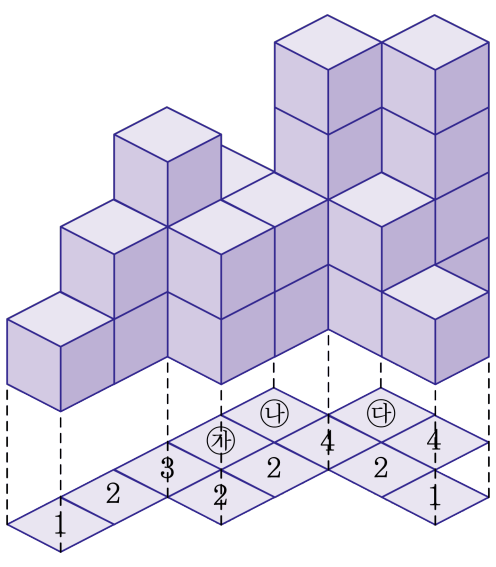

답: _____ 개

답: _____ 개

답: _____ 개

답: _____ 개

24. 쌓기나무로 위와 옆에서 본 모양이 다음과 같이 되도록 쌓으려고 합니다. 필요한 쌓기나무는 최소한 몇 개, 최대한 몇 개인지 순서대로 쓰시오.

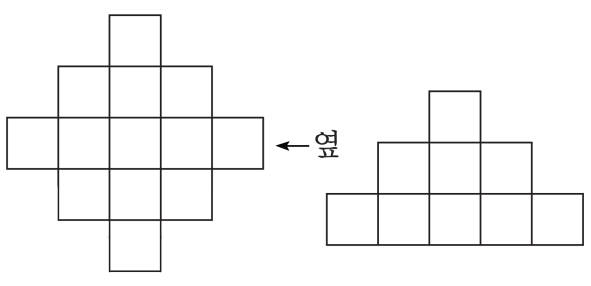

위 옆

답: _____ 개

답: _____ 개

25. 아래 바탕 그림의 $\boxed{}$ 안의 수는 각 자리에 놓인 쌓기나무의 수를 나타냅니다. 일정한 규칙에 따라 늘어날 때, 여덟째 번의 쌓기나무는 모두 몇 개입니까?

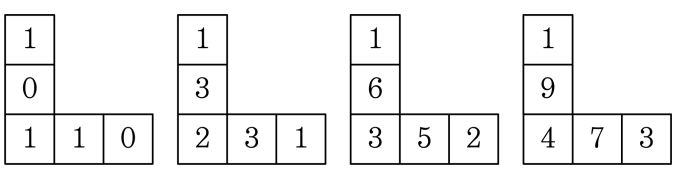

답: _____ 개