1. 다음 그림에서 점 O는 삼각형 $\triangle ABC$의 외심일 때, x의 값을 구하여라.

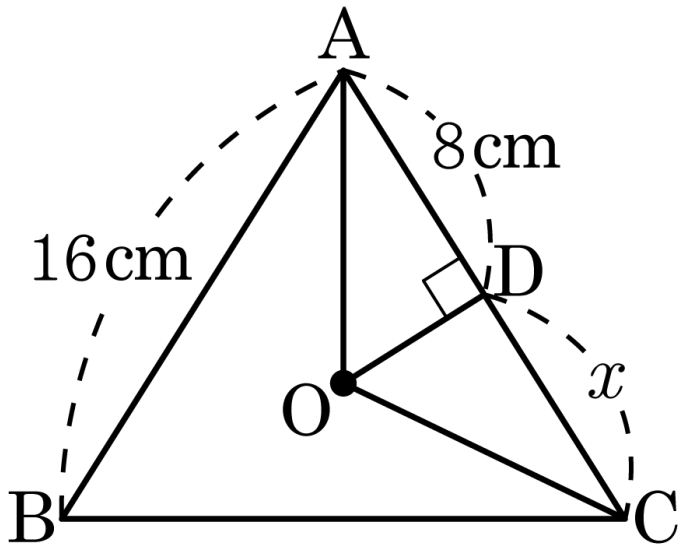

답 : _____

2. 다음 직각삼각형 ABC 의 빗변의 중점을 M, $\angle ACB = 30°$ 일 때, $\triangle ABM$ 은 무슨 삼각형인지 말하여라.

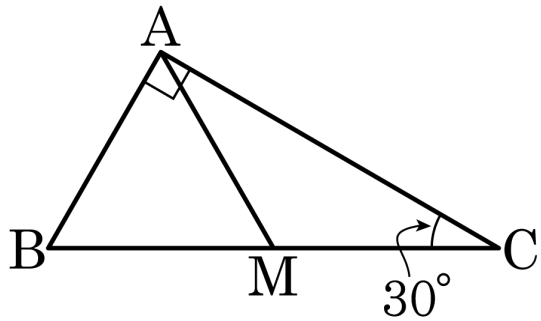

답: _____

3. 다음 $\triangle$ ABC 의 외심을 O 라고 할 때, $\angle x$ 의 크기는?

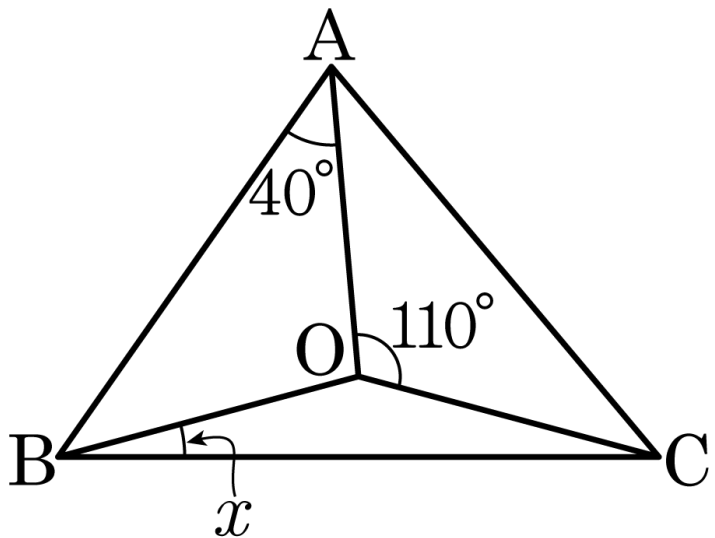

① 10° ② 15° ③ 20° ④ 25° ⑤ 30°

4. 다음 그림이 설명하고 있는 것으로 옳은 것은?

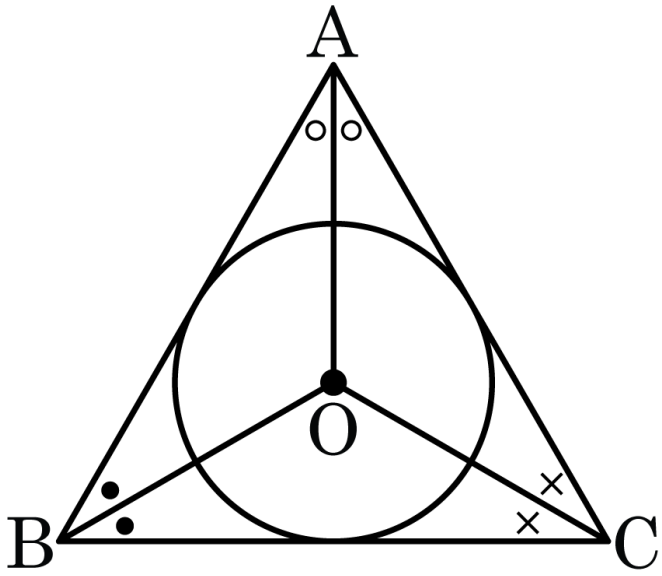

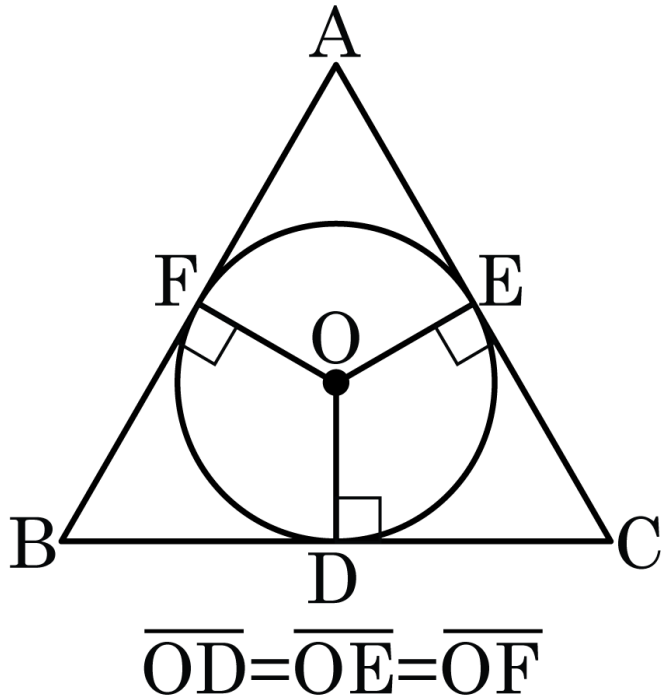

① 외심 ② 내심 ③ 무게중심

④ 방심 ⑤ 수심

5. 다음 그림에서 점 I가 $\triangle ABC$의 내심일 때 $\angle x$의 크기를 구하여라.

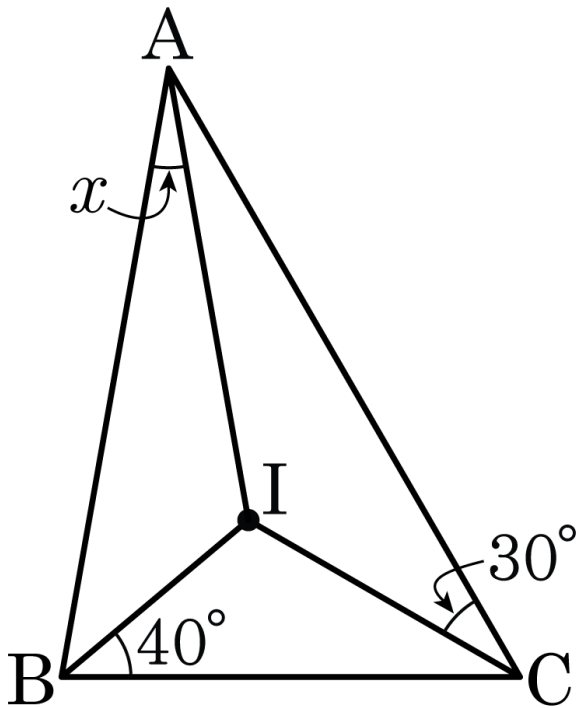

답: _____ °

6. 다음 그림에서 반지름의 길이가 3cm 인 원 I 는 $\triangle ABC$ 의 내접원이다. $\triangle ABC$ 의 넓이가 $20cm^2$ 일 때, $\triangle ABC$ 의 세 변의 길이의 합을 구하여라.

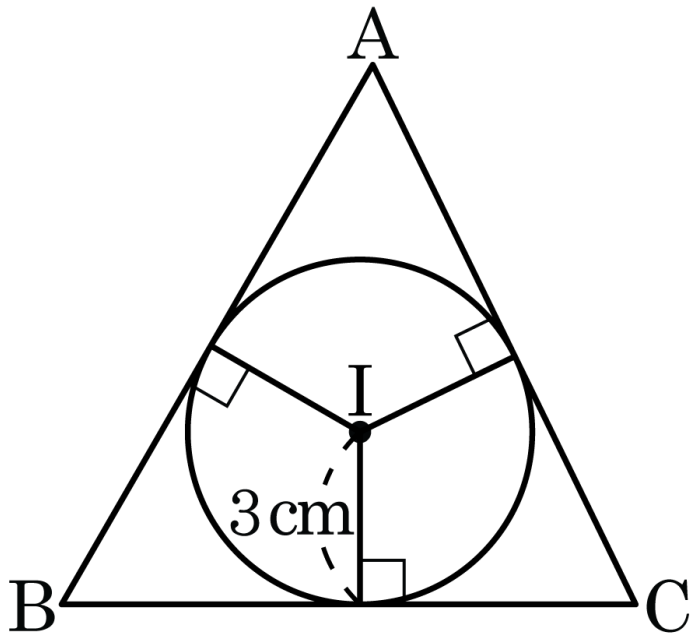

답: _____ cm

7. 다음 그림은 이등변삼각형 ABC 이다. 점 O 는 외심, 점 I 는 내심이고, $\angle A = 38°$, $\angle O = 76°$ 일 때, $\angle IBO$ 의 크기는?

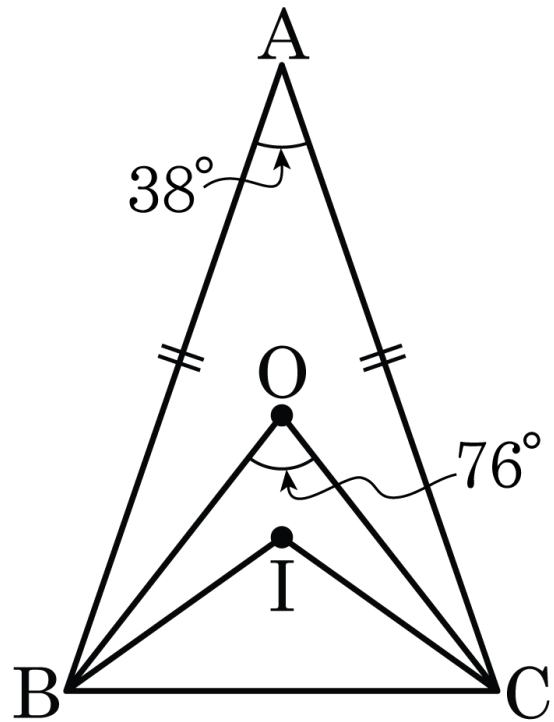

① 14° ② 15.2° ③ 16.5° ④ 17° ⑤ 17.5°

8. 다음 중 평행사변형의 정의는?

① 두 쌍의 대변의 길이가 각각 같은 사각형

② 두 쌍의 대각의 크기가 각각 같은 사각형

③ 두 쌍의 대변이 각각 평행한 사각형

④ 한 쌍의 대변이 평행하고 그 길이가 같은 사각형

⑤ 두 대각선이 서로 다른 것을 이등분하는 사각형

9. 다음 중 다음 평행사변형 ABCD 에 대한 설명이 아닌 것은?

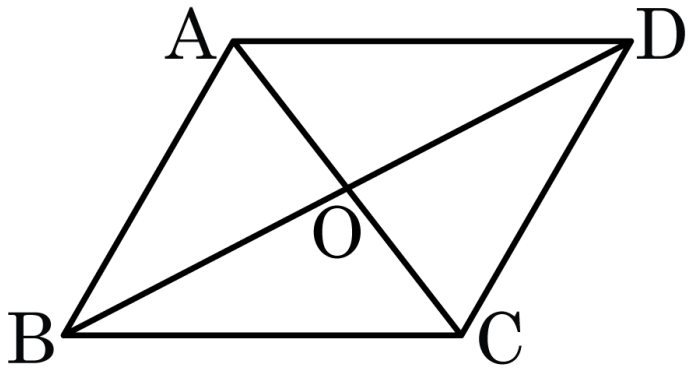

① $\overline{AB}//\overline{DC}, \overline{AD}//\overline{BC}$

② $\angle A = \angle C, \angle B = \angle D$

③ $\angle B + \angle C = 180°$

④ $\overline{AO} = \overline{CO}, \overline{BO} = \overline{DO}$

⑤ $\overline{AC} = \overline{BD}$

10. 다음 그림과 같은 평행사변형 ABCD 에서 x 의 값을 구하여라.

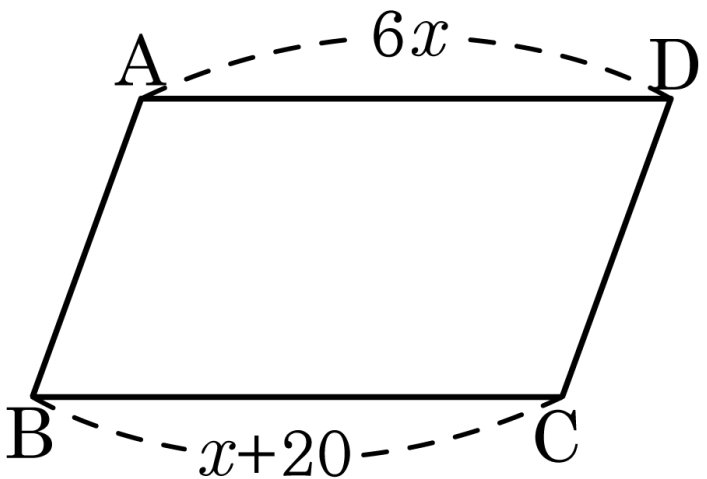

답: _____

11. 다음 그림과 같은 평행사변형 ABCD 에서 $\angle A$ 와 $\angle B$ 의 크기가 $7:3$ 일 때, C 의 크기를 구하여라.

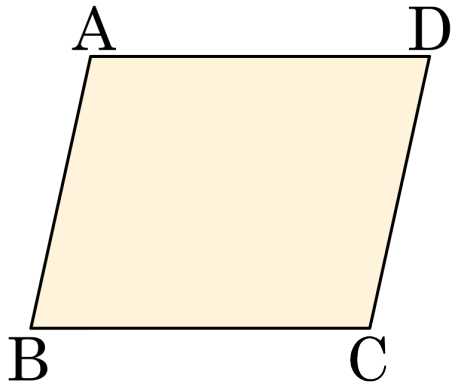

답: _____ °

12. 다음 중 평행사변형에 대한 설명으로 옳지 <u>않은</u> 것은?

① 두 쌍의 대변이 평행하다.

② 두 쌍의 대변의 길이가 같다.

③ 두 쌍의 대각의 크기가 서로 같다.

④ 두 대각선이 서로 수직이등분한다.

⑤ 두 대각선은 서로 다른 것을 이등분한다.

13. 다음 그림과 같이 $\angle B$ 가 직각인 직각삼각형 ABC 의 빗변 AC 의 중점을 O 라고 할 때, $\angle BAC = 50°$ 이다. $\angle x$ 의 크기는?

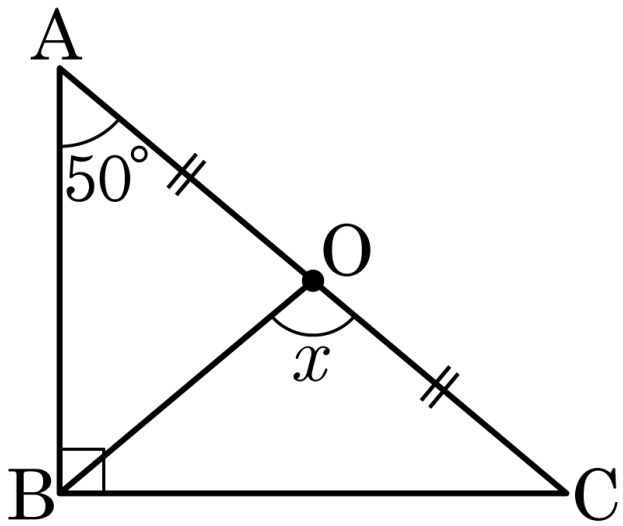

① 60° ② 70° ③ 80° ④ 90° ⑤ 100°

14. 다음 그림에서 점 O가 삼각형 ABC의 외심일 때, $\angle x$의 크기를 구하여라.

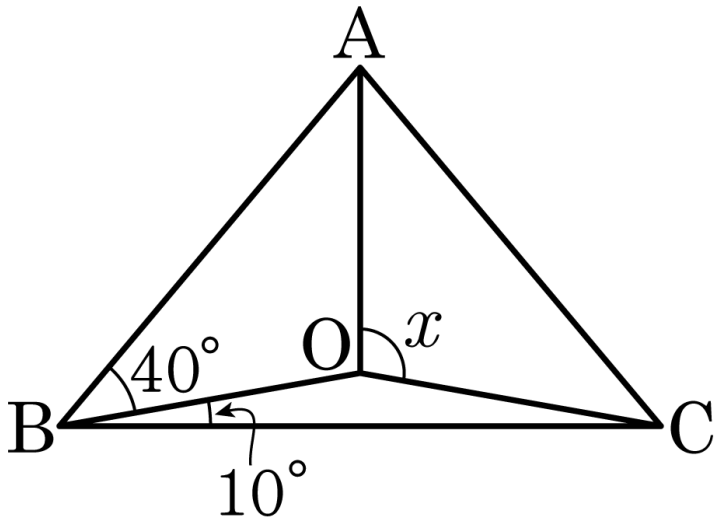

답: _____ °

15. 다음 그림에서 점 I가 삼각형의 내심일 때, $\angle x$의 크기는?

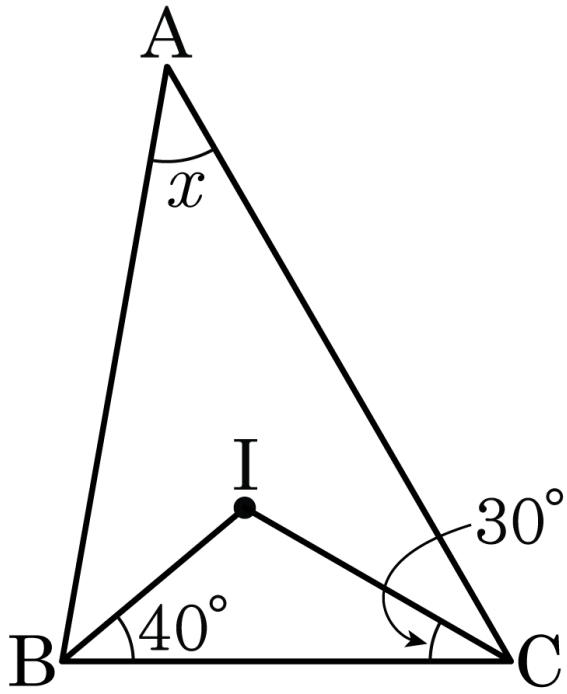

① 20° ② 30° ③ 40° ④ 50° ⑤ 60°

16. 다음 그림에서 점 I는 $\triangle ABC$의 내심이다. $\overline{BC}$의 길이는?

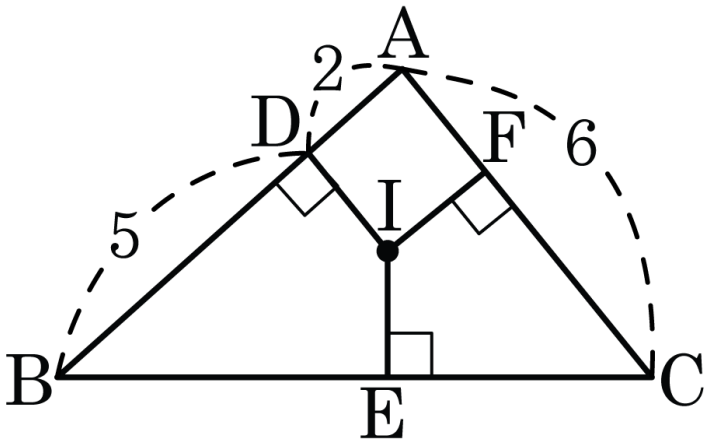

① 6 ② 7 ③ 8 ④ 9 ⑤ 10

17. 다음 그림에서 점 I 는 $\triangle ABC$ 의 내심이고, $\overline{BC}$ 와 평행한 직선과 $\overline{AB}$, $\overline{AC}$ 의 교점을 각각 D , E 라고 한다. $\overline{BD} = 4\text{cm}$, $\overline{CE} = 6\text{cm}$ 일 때, $\overline{DE}$ 의 길이는?

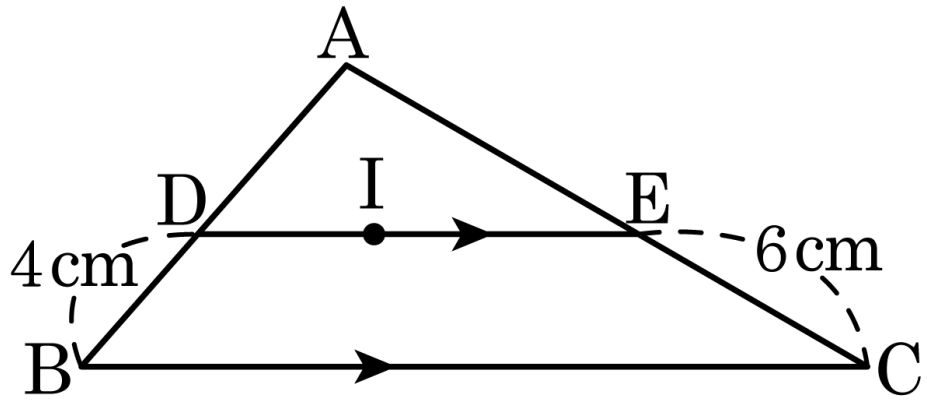

① 8cm ② 9cm ③ 10cm ④ 11cm ⑤ 12cm

18. 다음은 '평행사변형에서 두 쌍의 대변의 길이는 각각 같다.' 를 증명한 것이다. $\triangle ABD$와 $\triangle CDB$의 합동 조건은?

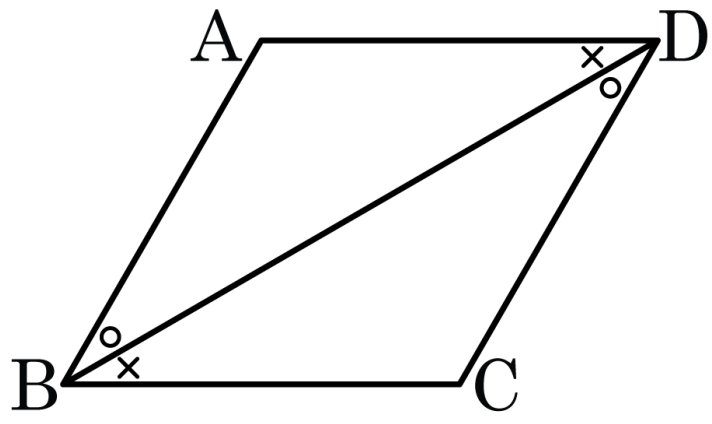

평행사변형 ABCD에 점 B와 점 D를 이으면 $\triangle ABD$와 $\triangle CDB$에서

$\angle ABD = \angle CDB$ (엇각) $\cdots$ ㉠

$\angle ADB = \angle CBD$ (엇각) $\cdots$ ㉡

$\overline{BD}$는 공통 $\cdots$ ㉢

㉠, ㉡, ㉢에 의해서 $\triangle ABD \equiv \triangle CDB$이다.

$\therefore\ \overline{AB} = \overline{CD},\ \overline{AD} = \overline{BC}$

① SSS 합동 ② SAS 합동 ③ ASA 합동

④ SSA 합동 ⑤ AAS 합동