1. 한 개의 주사위를 던질 때, 다음 중 사건의 경우의 수를 잘못 구한 것의 기호를 써라.

㉠ 소수의 눈이 나올 경우의 수는 3 가지이다.
㉡ 5 이상의 눈이 나올 경우의 수는 2 가지이다.
㉢ 3 의 배수의 눈이 나올 경우의 수는 2 가지이다.
㉣ 1 보다 작은 눈이 나올 경우의 수는 1 가지이다.
㉤ 짝수의 눈이 나올 경우의 수는 3 가지이다.

답: _____

2. 어느 패스트푸드점에 햄버거의 종류는 6 가지, 음료수의 종류는 4 가지가 있다고 한다. 영진이는 이 패스트푸드점에서 햄버거를 하나 먹거나 또는 음료수 한 잔을 마시려고 한다. 영진이가 선택할 수 있는 종류는 몇 가지인가?

① 24가지 ② 12가지 ③ 10가지
④ 8가지 ⑤ 6가지

3. 어떤 패스트푸드점에 햄버거 종류는 불고기버거, 치킨버거, 새우버거의 3종류가 있고, 음료수는 콜라, 사이다, 오렌지주스, 밀크쉐이크의 4종류가 있다. 햄버거 한 개와 음료수 한 잔을 골라 먹을 수 있는 경우의 수는?

① 4가지 ② 7가지 ③ 9가지
④ 12가지 ⑤ 16가지

4. 12명의 학생 중 같은 반 학생이 4명 있다. 12명의 학생 중에서 2명을 뽑을 때, 둘 다 다른 반 학생일 확률은?

① $\frac{1}{33}$ ② $\frac{7}{33}$ ③ $\frac{14}{33}$ ④ $\frac{17}{33}$ ⑤ $\frac{19}{33}$

5. A 주머니에는 붉은 공이 1 개, 흰 공이 2 개 들어있고, B 주머니에는 붉은 공이 3 개, 흰 공이 2 개가 들어 있다. A 주머니와 B 주머니에서 각각 공을 한 개씩 꺼낼 때, 서로 다른 색의 공이 나올 확률은?

① $\frac{2}{5}$ ② $\frac{2}{15}$ ③ $\frac{4}{15}$ ④ $\frac{8}{15}$ ⑤ $\frac{6}{25}$

6. 1 에서 25 까지의 수가 각각 적힌 25 장의 카드 중에서 한 장의 카드를 뽑을 때, 3 의 배수가 나오는 경우의 수는?

① 5 ② 6 ③ 7 ④ 8 ⑤ 9

7. 다음 그림과 같은 깃발에서 A, B, C, D 에 빨강, 노랑, 초록, 보라 중 어느 색이든 마음대로 칠하려고 한다. 같은 색을 중복 사용하지 않고, 서로 이웃한 부분은 다른 색을 사용해야 한다고 할 때, 칠하는 방법은 모두 몇 가지인가?

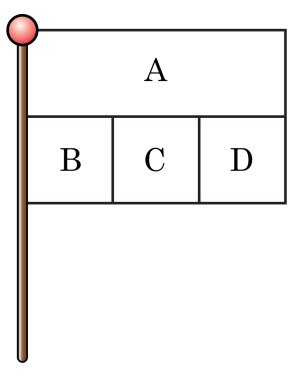

① 6 가지 ② 8 가지 ③ 12 가지
④ 24 가지 ⑤ 48 가지

8. 다음 그림과 같은 도형에 4 가지색으로 칠하려고 한다. 이웃하는 부분은 서로 다른 색을 칠한다고 할 때, 칠하는 방법은 모두 몇 가지인가?

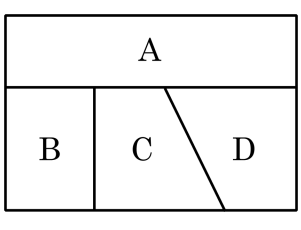

① 48 가지 ② 36 가지 ③ 32 가지
④ 28 가지 ⑤ 16 가지

9. 6명의 가족이 일렬로 서서 사건을 찍으려고 한다. 부모님 두 분이 서로 이웃하여 사진을 찍는 경우의 수로 알맞은 것은?

① 120가지 ② 240가지 ③ 360가지
④ 480가지 ⑤ 600가지

10. 다음 숫자 카드 4 장 중에서 세 개를 뽑아 세 자리의 정수를 만들 때, 만들 수 있는 정수의 수를 구하여라.

0	0	1	2

답: _____ 개

11. 예지네 반에 남학생은 7명, 여학생은 5명이 있다. 이 반에서 반장 1명, 남녀 부반장 1명씩을 뽑는 경우의 수를 찾으세요.

① 210가지 ② 270가지 ③ 280가지
④ 320가지 ⑤ 350가지

12. 어느 중학교의 탁구 선수는 남자 5 명, 여자 3 명으로 구성되어 있다. 남녀 각 한 사람씩 뽑아 2 명의 혼성팀을 만드는 모든 경우의 수를 구하여라.

답: _____

13. 1, 2, 3, 4, 5의 숫자가 적힌 카드가 있다. 이 중에서 3장의 카드를 뽑는 경우의 수는 몇 가지인가?

① 3개 ② 5개 ③ 9개 ④ 10개 ⑤ 15개

14. 앞면에 $+1$, 뒷면에 -1 이 써 있는 동전 3 개를 동시에 던질 때, 합이 $+1$ 이 될 확률은?

① $\frac{3}{8}$ ② $\frac{1}{4}$ ③ $\frac{5}{8}$ ④ $\frac{2}{3}$ ⑤ $\frac{7}{8}$

15. 두 개의 주사위 A, B 를 동시에 던져 A 에서 나온 눈의 수를 x, B 에서 나온 눈의 수를 y 라고 할 때, $4x - y > 18$ 일 확률은?

① $\frac{5}{36}$ ② $\frac{7}{36}$ ③ $\frac{1}{6}$ ④ $\frac{2}{9}$ ⑤ $\frac{1}{4}$

16. 20 개의 제품 중에서 4 개의 불량품이 있다고 한다. 이들 제품 중에서 임의로 1 개의 제품을 꺼낸 후 다시 1 개의 제품을 꺼낼 때, 불량품을 적어도 1 개 꺼낼 확률을 구하면? (단, 한 번 꺼낸 제품은 다시 넣지 않는다.)

① $\frac{4}{5}$ ② $\frac{7}{19}$ ③ $\frac{12}{19}$ ④ $\frac{3}{4}$ ⑤ $\frac{15}{19}$

17. 한 개의 주사위를 던질 때, 4 의 눈 또는 홀수의 눈이 나올 확률을 구하여라.

답: _____

18. 1, 2, 3, 4, 5 의 숫자가 적혀 있는 다섯 장의 카드에서 세 장의 카드를 뽑아 세 자리의 정수를 만들 때, 그 정수가 4 의 배수가 되는 경우는 모두 몇 가지인가?

① 6 가지 ② 8 가지 ③ 12 가지
④ 18 가지 ⑤ 24 가지

19. 용만이는 장미꽃 6 송이를 은우, 선우, 연희 세 친구에게 나누어 주려고 한다. 한 사람에게 한 송이 이상씩은 꼭 줄 때, 나누어 주는 방법의 수를 구하여라.

답: _____ 가지

20. KOREA 의 5 개 문자를 무심히 일렬로 나열할 때, 모음이 모두 인접할 확률을 구하면?

① $\frac{1}{10}$ ② $\frac{1}{5}$ ③ $\frac{3}{10}$ ④ $\frac{2}{5}$ ⑤ $\frac{1}{2}$

21. 장마 기간 동안 비 온 다음날 비가 올 확률은 75% , 비가 오지 않은 다음날 비가 올 확률은 40% 라고 한다. 장마 기간에 첫째 날에 비가 왔을 때, 셋째 날에도 비가 올 확률을 구하여라.

답: _____

22. A 주머니에는 흰 공 4개, 검은 공 2개, B 주머니에는 흰 공 2개와 검은 공 3개가 들어 있다. A, B 두 주머니에서 임의로 각각 1개씩의 공을 꺼낼 때, 두 공이 모두 흰 공일 확률을 구하여라.

답: _____

23. 어떤 학생이 A 문제를 풀 확률은 $\frac{1}{4}$, 두 문제를 모두 풀 확률이 $\frac{1}{6}$ 일 때, A 문제는 풀고 B 문제는 틀릴 확률은?

① $\frac{1}{24}$ ② $\frac{1}{12}$ ③ $\frac{1}{6}$ ④ $\frac{6}{25}$ ⑤ $\frac{19}{25}$

24. 다음 그림과 같은 세 원으로 이루어진 과녁에 화살을 쏘았을 때, 색칠한 부분에 화살이 맞을 확률은?

① $\frac{1}{3}$ ② $\frac{2}{3}$ ③ $\frac{1}{6}$
④ $\frac{1}{9}$ ⑤ $\frac{6}{9}$

25. 다음과 같이 정삼각형, 마름모, 사다리꼴을 붙여서 만든 과녁이 있다. 이 과녁에 화살을 쏘아 맞혔을 때, 화살이 정삼각형을 맞힐 확률을 구하여라.

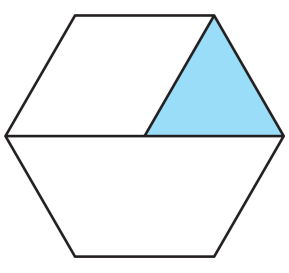

답: _____

26. 모든 자연수 n에 대하여 함수 $f(n)$을 $f(n) = (n$의 각 자리의 수의 곱$)$으로 정의한다. 예를 들면, $f(47) = 4 \times 7 = 28$이다. 일의 자리가 0이 아닌 두 자리의 자연수 a, b, c가 $f(a) + f(b) + f(c) = 6$을 만족할 때, 세 수 a, b, c의 곱 abc의 값은 모두 몇 가지인지 구하여라.

답: _____ 가지

27. 다음 그림에서 점 A 를 출발하여 점 B 까지 가는 가장 짧은 경우와 A 에서 출발해서 P 를 꼭 지나서 점 B 까지 가는 가장 짧은 거리의 차를 구하세요.

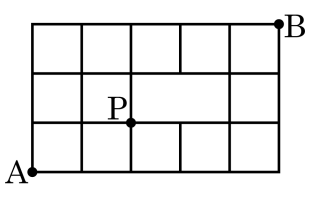

답: _____

28. 한 자리 자연수 중 4 개를 고를 때 그 합이 짝수일 확률을 구하여라.

답: _____

29. 숫자 1, 2, 3, 4 가 적힌 정사면체 주사위 2 개를 던졌을 때, 밑면에 적힌 숫자의 합이 6 이상이거나 곱이 4 이하인 경우 상품을 얻는 게임이 있을 때, 3 회 이전에 상품을 탈 수 있는 확률을 구하여라.

답: _____

30. 예지의 증조할머님은 사탕을 항아리 안에 보관하신다. 항아리 속에 땅콩사탕과 박하사탕을 합해서 40 개가 들어 있는데, 이 중 임의로 항아리에서 꺼낼 때, 그것이 땅콩사탕일 확률이 $\frac{9}{20}$ 이라고 한다. 이때, 항아리 속에 들어 있는 박하사탕의 개수를 구하여라.

답: _____ 개