1. 동전 두 개를 동시에 던질 때, 서로 같은 면이 나올 경우의 수는?

① 1가지 ② 2가지 ③ 3가지 ④ 4가지 ⑤ 5가지

2. A, B, C, D, E의 5명 중에서 D와 E를 반드시 포함하여 4명의 대표를 뽑으려고 할 때, 일어날 수 있는 모든 경우의 수는?

① 3가지 ② 4가지 ③ 5가지
④ 6가지 ⑤ 7가지

3. 3개의 동전을 동시에 던질 때, 적어도 1개는 앞면이 나올 확률은?

① $\frac{1}{8}$ ② $\frac{5}{8}$ ③ $\frac{7}{8}$ ④ $\frac{1}{3}$ ⑤ $\frac{2}{3}$

4. 1 에서 15 까지의 수가 각각 적힌 카드가 15 장 있다. 임의로 한 장을 뽑을 때 4 의 배수이거나 6 의 약수일 확률은?

① $\frac{1}{2}$ ② $\frac{2}{3}$ ③ $\frac{2}{5}$ ④ $\frac{1}{5}$ ⑤ $\frac{7}{15}$

5. 주머니 속에 흰 구슬이 4개, 검은 구슬이 5개 들어 있다. 처음 꺼낸 구슬을 확인하고 다시 넣은 후 또 한 개의 구슬을 꺼낼 때, 두 구슬 모두 흰 구슬일 확률을 구하여라.

답: _____

6. 5장의 제비 중에서 당첨 제비가 2장 있다. 경인이가 먼저 한 장 뽑은 다음, 재석이가 한 장을 뽑을 때 재석이가 당첨될 확률은?

① $\frac{1}{5}$ ② $\frac{3}{5}$ ③ $\frac{1}{10}$ ④ $\frac{3}{10}$ ⑤ $\frac{2}{5}$

7. 어떤 야구 선수가 타석에 들어서서 홈런을 칠 확률이 $\frac{2}{3}$ 라고 하면, 이 선수에게 세 번의 타석이 주어질 때, 한 번만 홈런을 칠 확률은?

① 0 ② 1 ③ $\frac{2}{9}$ ④ $\frac{2}{27}$ ⑤ $\frac{8}{27}$

8. 다음 그림과 같이 삼등분, 육등분된 두 원판이 있다. 이 두 원판의 바늘이 각각 돌아 멈추었을 때, 두 바늘 모두 C에 있을 확률을 구하면?

① $\frac{1}{3}$ ② $\frac{1}{6}$ ③ $\frac{1}{12}$ ④ $\frac{1}{15}$ ⑤ $\frac{1}{18}$

9. 다음 그림과 같이 3 개의 부분 A, B, C 로 나뉘어진 사각형이 있다. 4 가지 색으로 구분하여 중복하지 않고 칠하려고 할 때, 칠할 수 있는 모든 경우의 수를 구하여라.

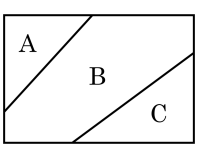

답: _____ 가지

10. 1, 2, 3, 4, 5, 6의 숫자가 적힌 카드가 있다. 이 중에서 3장의 카드를 뽑을 때, 반드시 1이 적힌 카드를 뽑는 경우의 수는 몇 가지인가?

① 3가지 ② 9가지 ③ 10가지
④ 21가지 ⑤ 30가지

11. A, B, C, D, E 5 명을 한 줄로 세울 때, A, C, E 가 이웃하는 경우의 수는?

① 12 가지 ② 24 가지 ③ 36 가지
④ 48 가지 ⑤ 60 가지

12. 1, 2, 3, 4, 5의 다섯 개의 숫자를 한 번씩만 사용하여 만든 세 자리의 정수 중 250보다 작은 수의 개수를 구하여라.

답: _____ 가지

13. 야구 올림픽 대회에 출전한 8개국 중에서 금메달, 은메달, 동메달을 받게 될 국가를 1개국씩 뽑는 경우의 수는?

① 48가지 ② 120가지 ③ 336가지
④ 360가지 ⑤ 720가지

14. 다음 그림과 같이 한 원 위에 6개의 마을이 있다. 각 마을을 연결하는 도로를 만든다고 할 때, 만들 수 있는 다리의 개수는?

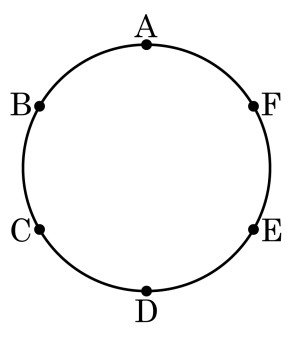

① 8개 ② 10개 ③ 12개 ④ 15개 ⑤ 20개

15. 다음 그림과 같이 사각형 ABCD 변 위에 점 a 부터 i 까지 9 개의 점이 있다. 이 점 중 4 개를 이어서 만든 사각형 중에서 한 변이 $\overline{\mathrm{AB}}$ 위에 있는 사각형의 개수를 구하여라.



답: _____ 가지

16. 두 개의 주사위를 동시에 던질 때, 두 눈의 차가 3 이 될 확률을 구하여라.

① $\frac{1}{6}$ ② $\frac{5}{36}$ ③ $\frac{2}{9}$ ④ $\frac{2}{3}$ ⑤ $\frac{1}{4}$

17. 자격증 시험에서 A, B, C가 합격할 확률은 각각 $\frac{1}{3}$, $\frac{3}{4}$, $\frac{2}{5}$이다. 이때, A와 B만 합격할 확률은?

① $\frac{1}{20}$ ② $\frac{3}{20}$ ③ $\frac{4}{20}$ ④ $\frac{6}{20}$ ⑤ $\frac{9}{20}$

18. 0, 1, 2, 3, $\cdots$, 9 의 숫자가 각각 적힌 10 장의 카드에서 2 장을 뽑아 두 자리의 정수를 만들 때, 그 중에서 3 의 배수의 개수를 구하여라.

답: _____ 개

19. 수학 시험에 ○, × 를 표시하는 문제가 4 문제 출제되었다. 어느 학생이 무심히 4 문제에 ○, × 를 표시할 때, 적어도 두 문제를 맞힐 경우의 수를 구하여라.

답: _____ 가지

20. 철수가 다니는 중학교의 주소는 '서울특별시 강동구 둔촌동 180 – 2' 이며 학년은 1, 2, 3학년이 있고, 각 학년은 10개 반이며 한 반의 번호는 40번을 넘지 않는다고 한다. 학교 주소의 숫자로 만든 □, □, □, □ 네 장의 카드를 마음대로 뽑아 네 자리 수를 만들 때, 올바른 학번이 될 수 있는 확률을 구하면? (참고 : 2학년 10반 40번 학생의 학번은 '2040' 이다.)

① $\frac{1}{3}$ ② $\frac{3}{8}$ ③ $\frac{5}{12}$ ④ $\frac{11}{24}$ ⑤ $\frac{1}{2}$

21. 한 개의 주사위를 두 번 던져 처음에 나온 눈의 수를 a , 나중에 나온 눈의 수를 b 라고 할 때, 직선 $ax + by - 5 = 0$ 이 $\mathrm{P}(2,\ 1)$ 을 지나지 않을 확률을 구하여라.

답: _____

22. 동전 2 개와 주사위 1 개를 동시에 던질 때, 적어도 하나의 동전은 앞면이 나오고 주사위는 소수의 눈이 나올 확률은?

① $\frac{3}{8}$ ② $\frac{1}{8}$ ③ $\frac{1}{12}$ ④ $\frac{5}{12}$ ⑤ $\frac{1}{2}$

23. 1부터 100까지 자연수가 각각 적힌 100장의 카드가 있다. 이 중에서 한 장을 꺼낼 때, 꺼낸 수의 약수가 홀수 개일 경우의 수를 구하여라.

답: _____ 개

24. 다음은 어느 분식점의 메뉴판이다. 전화주문으로 음식을 두 개 주문하는 방법의 수를 구하여라. (단, 같은 음식을 배달시킬수 있고, 주문 순서는 상관이 있다.)

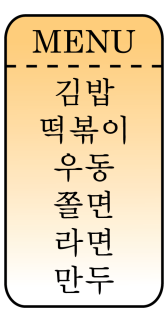

답: _____ 가지

25. 검은색 깃발 5 개와 흰색 깃발 2 개 노란색 깃발 3 개를 일렬로 세워서 그 색깔의 배열로 신호를 만들 때, 만들 수 있는 신호의 가짓수를 구하여라.

답: _____ 가지