1. $\tan A = 4$ 일 때, $\sin^2 A - \cos^2 A$ 의 값을 구하여라. (단, $0° < A < 90°$)

답: _____

2. $\cos 60° \times \tan 60° + \sin 60°$ 을 계산하면?

① $\sqrt{2}$ ② $\sqrt{3}$ ③ 2 ④ $2\sqrt{2}$ ⑤ $2\sqrt{3}$

3. 다음 그림과 같이 반지름의 길이가 1 인 사분원에서 $\tan x$를 나타내는 선분은?

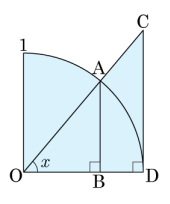

① $\overline{OA}$ ② $\overline{OB}$ ③ $\overline{OC}$ ④ $\overline{AB}$ ⑤ $\overline{CD}$

4. 다음 삼각비의 표를 보고 다음 식의 값을 구하여라.

각도	sin	cos	tan
25°	0.42	0.90	0.46
50°	0.76	0.63	1.19
70°	0.93	0.34	2.74

$\cos 50^\circ + \cos 25^\circ \times \sin 50^\circ - \tan 25^\circ$

답: _____

5. 다음 그림의 평행사변형 ABCD 의 넓이가 $24\sqrt{2}\,\mathrm{cm}^2$ 일 때, $\angle C$ 의 크기를 구하여라. (단. $\angle C > 90°$)

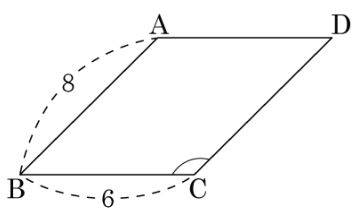

답: _____ °

6. 선분 AP 와 선분 BP 가 각각 원 O 의 접선일 때 , ∠APB 의 크기가 $100°$ 일 때, $\angle x$ 의 크기는?

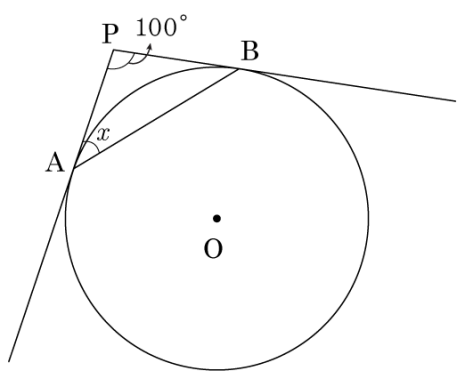

① $30°$ ② $32°$ ③ $35°$ ④ $40°$ ⑤ $50°$

7. 다음 그림은 원 O 에 외접하는 등변사다리꼴 ABCD 에서 $\overline{AD}+\overline{BC}=26$ 일 때, $\overline{AB}$ 의 길이를 구하여라.

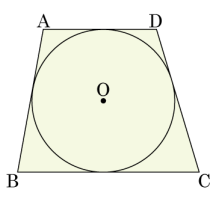

답: _____

8. 다음과 같은 직각삼각형 ABC 의 넓이는?

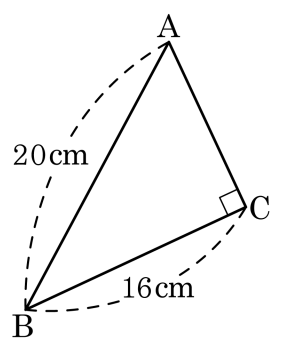

① 92cm^2 ② 94cm^2 ③ 96cm^2
④ 98cm^2 ⑤ 100cm^2

9. △ABC 에서 적절한 x 값을 구하면?

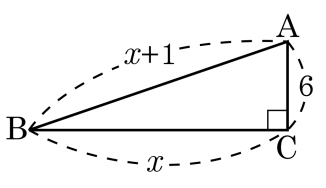

① 16 ② 16.5 ③ 17 ④ 17.5 ⑤ 18

10. 다음 그림과 같이 $\angle C = 90^\circ$ 인 직각삼각형 ABC 에서 $\overline{AD}^2 + \overline{BE}^2 = 21$ 일 때, $\overline{DE}^2 + \overline{AB}^2$ 을 구하여라.

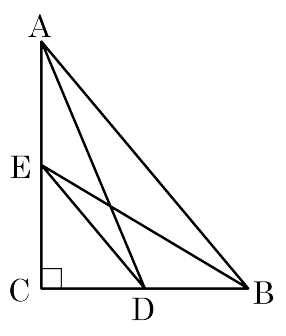

답: _____

11. 한 모서리의 길이가 6cm 인 정육면체의 대각선의 길이는 몇 cm 인가?

① $6\sqrt{2}$cm ② $6\sqrt{3}$cm ③ 36cm
④ $36\sqrt{6}$cm ⑤ 108cm

12. 한 변의 길이가 15 인 정삼각형으로 만들어진 정사면체의 꼭지점 O 에서 밑면에 내린 수선의 발을 H 라 할 때, $\overline{OH}$ 의 길이를 구하여라.

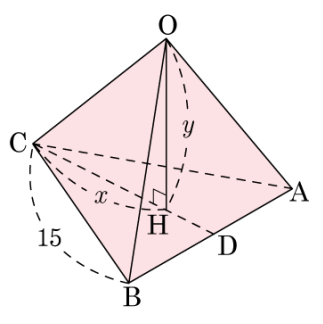

답: _____

13. 다음 그림과 같이 반지름의 길이가 5cm 인 구를 중심 O 에서 3cm 떨어진 평면으로 자를 때 생기는 단면의 반지름은?

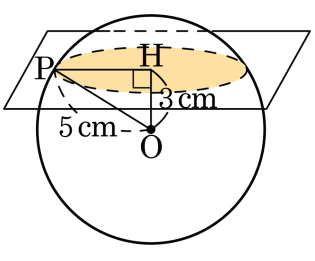

① 3cm ② 4cm ③ 5cm ④ 6cm ⑤ 7cm

14. 다음 그림의 직각삼각형에서 xy 의 값은?

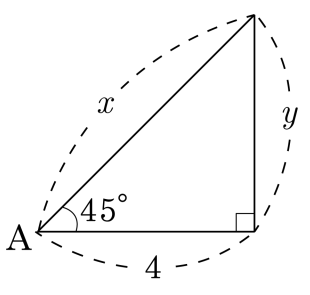

① $4\sqrt{2}$ ② $8\sqrt{2}$ ③ $16\sqrt{2}$ ④ $32\sqrt{2}$ ⑤ $48\sqrt{2}$

15. 다음은 다음 그림과 같은 직각삼각형 ABC 에 대한 설명이다. 옳지 <u>않은</u> 것은?

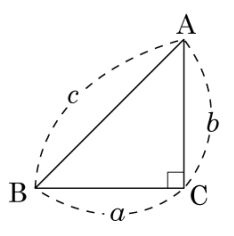

① $c = \dfrac{b}{\sin B}$

② $a = \dfrac{b}{\tan B}$

③ $a = c\cos B$

④ $c = a\sin(90° - B)$

⑤ $c = b\sin B + a\cos B$

16. 다음 그림에서 $\overline{AB} = 15$, $\overline{AF} = 20$, $\overline{EC} = 2$ 일 때, $\overline{BC}$ 의 길이를 구하여라.

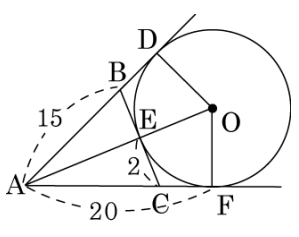

답: _____

17. 다음 그림과 같이 $\triangle ABC$ 의 내접원 O 가 세 점 D, E, F 에서 접하고, $\overline{AB}+\overline{BC}+\overline{CA}=28$ 일 때, $\overline{AD}$ 의 길이를 구하여라.

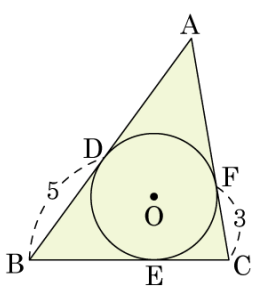

답: _____

18. 다음 그림에서 x 의 값을 구하여라.

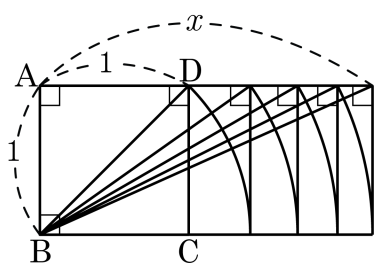

답: _____

19. 다음 그림은 직사각형 ABCD 를 $\overline{AC}$ 를 접는 선으로 하여 접은 것이다. △CDE 의 넓이는?

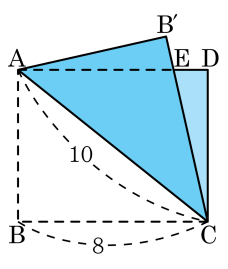

① 5　　② $\frac{19}{4}$　　③ 6　　④ $\frac{21}{4}$　　⑤ 7

20. 다음 그림과 같이 사분원 $\overline{OA}$ 의 중점을 M 이라고 하고 $\overline{OA} \perp \overline{BM}$ 일 때, 색칠한 부분의 넓이를 구하면?

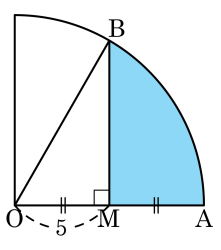

① $\frac{50}{3}\pi - \frac{25\sqrt{2}}{2}$　② $\frac{50}{3}\pi - \frac{25\sqrt{3}}{2}$

③ $\frac{50}{2}\pi - \frac{25\sqrt{3}}{2}$　④ $\frac{25}{3}\pi - \frac{25\sqrt{3}}{2}$

⑤ $\frac{25}{3}\pi - \frac{25\sqrt{3}}{3}$

21. 다음 그림과 같은 직각삼각형을 직선 l 을 축으로 하여 1 회전시킬 때 만들어지는 입체도형의 부피를 구하면?

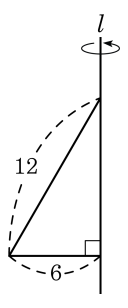

① $42\sqrt{3}\pi$ ② $48\sqrt{3}\pi$ ③ $57\sqrt{3}\pi$

④ $63\sqrt{3}\pi$ ⑤ $72\sqrt{3}\pi$

22. 반지름이 6 이고 중심각이 $120°$ 인 부채꼴이 있다. 이 부채꼴로 원뿔의 옆면을 만들 때, 이 원뿔에 대한 설명으로 <u>틀린</u> 것을 모두 고르면?

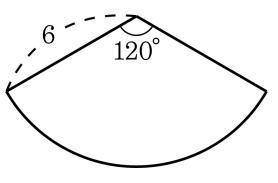

① 밑면의 반지름의 길이는 2 이다.

② 부채꼴 둘레의 길이와 밑면의 둘레의 길이는 같다.

③ 부채꼴 호의 길이는 4π 이다.

④ 원뿔의 높이는 4 이다.

⑤ 원뿔의 부피는 $\frac{16\sqrt{2}}{3}\pi$ 이다.

23. 수평면과 $20°$ 를 이루는 경사면이 있다. 이 경사면을 똑바로 오르지 않고 오른쪽으로 $30°$ 되는 방향으로 $120\,\mathrm{m}$ 올라갔을 때, 처음 오르기 시작한 지점보다 몇 m 높은 곳에 있게 되는지 소수 첫째 자리까지 구하면? (단, $\sin 20° = 0.3420$)

① $34.5\,\mathrm{m}$ ② $34.6\,\mathrm{m}$

③ $35.5\,\mathrm{m}$ ④ $36.5\,\mathrm{m}$

24. 다음 그림의 원 O 에서 $\overline{AB} \perp \overline{OC}$ 이고, $\overline{AB} = 16\text{cm}$, $\overline{OM} = 6\text{cm}$ 일 때, $\overline{BC}$ 의 길이는?

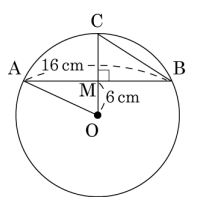

① $4\sqrt{5}\text{cm}$ ② $4\sqrt{14}\text{cm}$ ③ $8\sqrt{3}\text{cm}$

④ $8\sqrt{5}\text{cm}$ ⑤ $9\sqrt{3}\text{cm}$

25. 다음 그림에서 $\overline{AD}$, $\overline{DC}$, $\overline{BC}$ 는 반원 O 의 접선이다. $\overline{AD} = 3\,\text{cm}$, $\overline{BC} = 15\,\text{cm}$ 일 때, 지름 AB 의 길이를 구하여라.

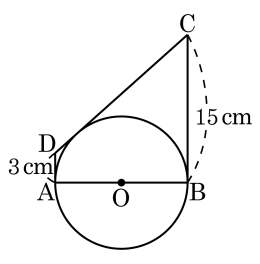

답: _____ cm