1. 한 개의 주사위를 던질 때, 소수의 눈이 나오는 사건을 모두 고르면?

① 1 의 눈이 나온다.
② 2 의 눈이 나온다.
③ 4 의 눈이 나온다.
④ 5 의 눈이 나온다.
⑤ 6 의 눈이 나온다.

2. 100 원짜리, 500 원짜리, 1000 원짜리가 모두 합하여 12 개가 있을 때, 3700 원을 지불하는 방법은 모두 몇 가지인가? (단, 각 동전과 지폐는 1 개 이상 사용한다.)

① 3 가지 ② 4 가지 ③ 5 가지
④ 6 가지 ⑤ 7 가지

3. 다음 메뉴판을 보고 영희가 토스트가게에서 토스트 1개와 음료수 1개를 선택하려고 한다. 그 방법의 가짓수는?

- 메뉴판 - 토스트 • 햄 토스트 • 계란 토스트 • 야채 토스트 음료 • 사이다 • 콜라 • 쥬스

① 5가지 ② 6가지 ③ 7가지
④ 8가지 ⑤ 9가지

4. A, B, C, D, E 다섯 사람을 한 줄로 세울 때, A 와 B 가 나란히 서게 되는 경우의 수를 구하여라.

답: _____ 가지

5. 동전 2개를 동시에 던질 때, 모두 뒷면이 나올 확률을 구하여라.

답: _____

6. 어항 안에 흰 붕어 5 마리와 검은 붕어 3 마리가 있다. 이 어항에서 임의로 붕어 한 마리를 꺼낼 때, 흰 붕어가 나올 확률은?

① $\frac{3}{8}$ ② $\frac{1}{2}$ ③ $\frac{5}{8}$ ④ $\frac{3}{4}$ ⑤ $\frac{7}{8}$

7. 1 부터 12 까지의 숫자가 각각 적힌 12 장의 카드가 있다. 이 중 한 장의 카드를 뽑을 때, 소수가 아닌 숫자가 나올 확률은?

① $\frac{1}{5}$ ② $\frac{1}{4}$ ③ $\frac{2}{3}$ ④ $\frac{7}{12}$ ⑤ $\frac{1}{3}$

8. 한 개의 주사위를 던질 때, 2 의 배수 또는 3 의 약수의 눈이 나올 확률을 구하여라.

답: _____

9. 소라는 당첨 확률이 $\frac{3}{4}$인 경품권 두 장을 가지고 있다. 두 장 모두 당첨될 확률을 구하여라.

답: _____

10. 주머니 속에 노란 구슬 3개, 푸른 구슬 2개가 들어 있다. 두 번 연속하여 1개씩 꺼낼 때, 두 공이 서로 다른 색의 공일 확률은? (단, 꺼낸 공은 다시 넣지 않는다.)

① $\frac{1}{15}$ ② $\frac{1}{10}$ ③ $\frac{3}{10}$ ④ $\frac{3}{5}$ ⑤ $\frac{3}{25}$

11. 다음과 같이 정삼각형, 마름모, 사다리꼴을 붙여서 만든 과녁이 있다. 이 과녁에 화살을 쏘아 맞혔을 때, 화살이 정삼각형을 맞힐 확률을 구하여라.

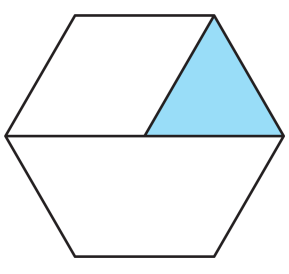

답: _____

12. 다음 그림과 같은 이등변삼각형에서 $\angle x$ 의 크기는?

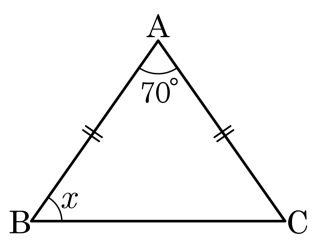

① 40° ② 45° ③ 50° ④ 55° ⑤ 60°

13. 다음 두 그림에서 x의 길이의 합은?

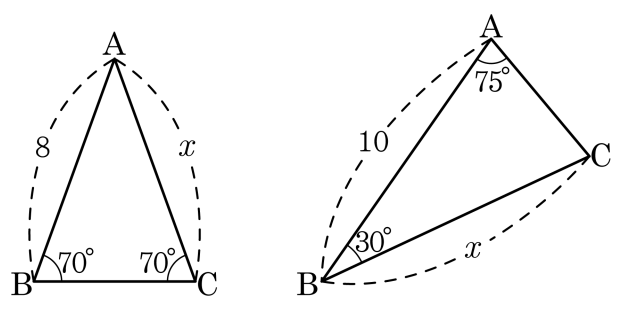

① 14 ② 15 ③ 16 ④ 18 ⑤ 19

14. 다음 두 직각삼각형이 합동이 되는 조건을 모두 고르면?

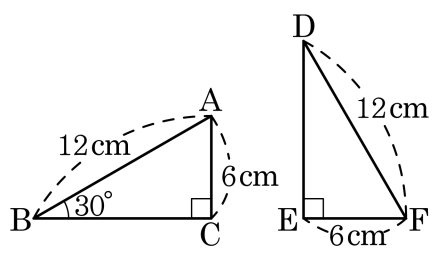

① $\overline{AB} = \overline{FD}$

② $\angle ACB = \angle FED$

③ $\angle ABC = \angle FDE$

④ $\overline{BC} = \overline{DE}$

⑤ $\overline{AC} = \overline{FE}$

15. 지원이는 그림과 같은 원에 원의 둘레 위에 꼭짓점을 두는 직각삼각형을 그리려고 한다. 직각삼각형의 빗변의 길이를 구하여라.

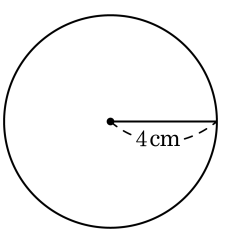

답: _____ cm

16. 다음 $\triangle$ ABC 의 외심을 O 라고 할 때, $\angle x$ 의 크기는?

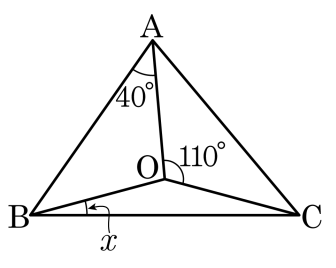

① 10° ② 15° ③ 20° ④ 25° ⑤ 30°

17. 다음 그림에서 점 O 는 $\triangle ABC$ 의 외심이다. $\angle BOC = 140°$일 때, $\angle BAC$를 구하여라.

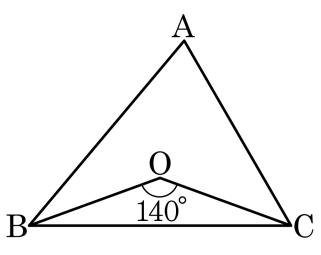

답: _____ °

18. 다음 그림은 이등변삼각형 ABC 이다. 점 O 는 외심, 점 I 는 내심이고, $\angle A = 38°$, $\angle O = 76°$ 일 때, $\angle IBO$ 의 크기는?

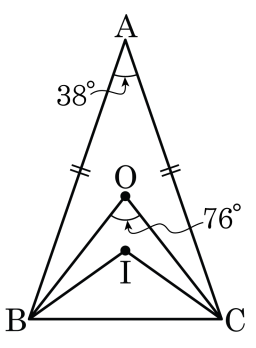

① 14° ② 15.2° ③ 16.5° ④ 17° ⑤ 17.5°

19. 두 개의 주사위를 동시에 던질 때, 나온 눈의 합이 4 또는 8 이 되는 경우의 수는?

① 4 가지 ② 5 가지 ③ 8 가지
④ 10 가지 ⑤ 12 가지

20. 학교에서 공원으로 가는 버스 노선은 5가지, 지하철 노선은 3가지가 있다. 버스 또는 지하철로 학교에서 공원까지 가는 방법의 수를 구하여라.

답: _____ 가지

21. 다음 그림과 같은 도서관의 평면도에서 열람실을 나와 화장실로 가는 방법의 수는?

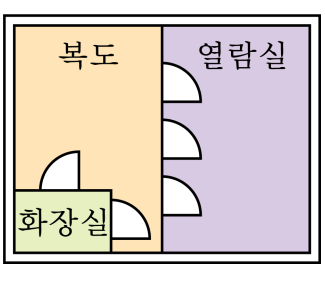

① 2가지 ② 3가지 ③ 4가지
④ 5가지 ⑤ 6가지

22. 0, 1, 2, 3, 4, 5의 숫자가 적힌 6장의 카드에서 임의로 두 장을 뽑아 만들 수 있는 두 자리의 홀수는 모두 몇 개인가?

① 12개 ② 15개 ③ 20개 ④ 25개 ⑤ 30개

23. 교내 체육 대회에 학급 대표 릴레이 선수로 남녀 각 한 명씩 뽑으려고 한다. 남학생 3명과 여학생 6명이 후보로 추천되었다면 이들 중 뽑을 수 있는 경우의 수는 모두 몇 가지인가?

① 2가지 ② 3가지 ③ 6가지
④ 9가지 ⑤ 18가지

24. A, B, C 세 사람이 가위, 바위, 보를 할 때, 일어날 수 있는 모든 경우의 수를 구하여라.

답: _____ 가지

25. 다음 그림의 $\triangle ABC$에서 점 I는 내심이다. $\angle ABC = 40°$, $\angle CAI = 30°$ 일 때, $\angle x$의 크기를 구하여라.

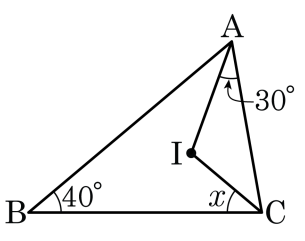

답: _____ °