1. 다음 중 완전제곱식으로 인수분해할 수 <u>없는</u> 것은?

① $x^2 - 16x + 64$

② $4x^2 - 4x + 1$

③ $x^2 + 8xy + 16y^2$

④ $x^2 + \frac{1}{2}x + 1$

⑤ $2x^2 - 4xy + 2y^2$

2. 다음 $x^2 - 6x + a = (x - b)^2$ 을 만족할 때, ab 의 값을 구하여라.

답: $ab =$ _____

3. 다음 식 $x^2 + x - 20$ 을 인수분해하면?

① $(x+5)(x+4)$

② $(x+5)(x-4)$

③ $(x+4)(x-5)$

④ $(x-2)(x+10)$

⑤ $(x+2)(x-10)$

4. $8x^2 - 10x + 3$ 을 두 일차식으로 인수분해하였을 때, 두 일차식의 합을 구하여라.

답: ______________

5. 다음 그림의 모든 직사각형의 넓이의 합과 넓이가 같은 정사각형의 한 변의 길이는?

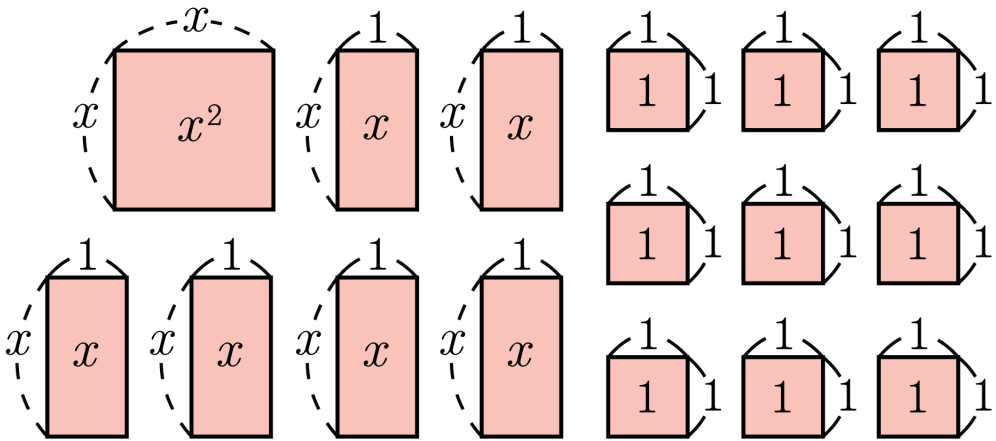

① $x-3$　② $x+1$　③ $x-2$　④ $x+3$　⑤ $x+4$

6. $\dfrac{99 \times 145 + 99 \times 55}{199^2 - 1}$ 의 값을 구하여라.

답 : _____

7. 다음 보기 중 x 에 대한 이차방정식인 것은 모두 몇 개인지 구하여라.

보기

㉠ $(x+1)(x-3)=0$

㉡ x^2-2x+3

㉢ $x(2-x)=1-2x^2$

㉣ $4x-6=0$

㉤ $a^2-2a=3$

㉥ $x(x-1)=x^2$

답: _____ 개

8. 이차함수 $y = -\frac{1}{2}x^2$ 의 그래프가 점 $(a,\ a^2 - 9)$ 를 지날 때, a 의 값을 구하면? (단, $a < 0$)

① $\sqrt{6}$ ② $-\sqrt{6}$ ③ 2 ④ -2 ⑤ $-\sqrt{3}$

9. 다음의 이차함수 중에서 그래프가 아래로 볼록한 것은?

① $y = -x^2$ ② $y = 4x^2$ ③ $y = -\frac{1}{4}x^2$

④ $y = -3x^2$ ⑤ $y = -\frac{1}{3}x^2$

10. 평행이동에 의하여 포물선 $y = -\frac{1}{3}x^2 + 1$ 의 그래프와 완전히 포개어지는 것은?

① $y = \frac{1}{3}x^2 + 1$

② $y = -3x^2 - 2x + 1$

③ $y = 3x^2 + 1$

④ $y = x^2 + 1$

⑤ $y = -\frac{1}{3}x^2 + \frac{1}{3}x + 4$

11. 다음 중 옳지 <u>않은</u> 것은?

① $a(b+1)+(b+1)=(a+1)(b+1)$

② $(x+y)^2-2(x+y)+1=(x+y-1)^2$

③ $x^2+4x+4-y^2=(x+y+2)(x-y+2)$

④ $(x+2y)^2-(3x-2y)^2=-8x(x-2y)$

⑤ $(x-3)^2+2(x-3)-8=(x+1)(x-6)$

12. 다음 중 $x-3$ 를 인수로 갖는 다항식은?

① x^2-2x-8 ② x^2-2x-3 ③ x^2+3x+2

④ x^2-x-2 ⑤ x^2-3x+2

13. $6x^2 + 5x - a = (2x + b)(3x + 7)$ 가 성립할 때, $a - b$ 의 값은?

① -24 ② -18 ③ -10 ④ 18 ⑤ 24

14. 다음 중 $AB = 0$ 이 아닌 것을 고르면?

① $A = 0, B = 0$ ② $A \neq 0, B \neq 0$ ③ $A = 0, B \neq 0$

④ $-A = B = 0$ ⑤ $A \neq 0, B = 0$

15. -1 은 이차방정식 $x^2 + ax + 1 = 0$ 과 $2x^2 - 3x + b = 0$ 의 공통인 해이다. 이 때, $a^2 + b^2$ 의 값은?

① 25 ② 27 ③ 29 ④ 31 ⑤ 33

16. x 에 대한 이차방정식 $x^2 - 12x + 40 = k$ 가 중근을 가질 때, 상수 k 의 값을 구하여라.

답 : $k =$ _____

17. 근의 공식을 이용하여 이차방정식 $x^2 + 4x - 2 = 0$ 을 풀면?

① $x = 2 \pm \sqrt{6}$ ② $x = -2 \pm \sqrt{2}$ ③ $x = -2 \pm \sqrt{6}$

④ $x = 2 \pm \sqrt{2}$ ⑤ $x = 2 \pm \sqrt{3}$

18. 다음 이차방정식의 두 근을 α, β 라고 할 때, $\frac{1}{\alpha}+\frac{1}{\beta}$ 의 값은?

$2x^2+6x+10=0$

① $\frac{3}{5}$ ② 3 ③ $-\frac{3}{5}$ ④ $\frac{1}{5}$ ⑤ $-\frac{1}{3}$

19. 다음을 만족하는 수들의 제곱의 합은?

어떤 수와 그 수의 제곱의 합은 30이다.

① 61 ② 63 ③ 65 ④ 67 ⑤ 77

20. 다음 이차함수의 그래프 중 폭이 가장 넓은 것은?

① $y = x^2$ ② $y = -x^2$ ③ $y = \frac{1}{2}x^2 + 1$

④ $y = 2x^2$ ⑤ $y = -3x^2 + 2$

21. 이차함수 $y = 4x^2$ 의 그래프를 y 축의 양의 방향으로 -2 만큼 평행이동시킨 함수의 식은?

① $y = 4x^2 - 2$

② $y = 4x^2 + 2$

③ $y = 4(x-2)^2$

④ $y = 4(x+2)^2$

⑤ $y = 4(x-2)^2 + 2$

22. 다음은 이차함수 $y = a(x+p)^2 - q$ 의 그래프이다. a , p , q 의 부호를 각각 구하면?

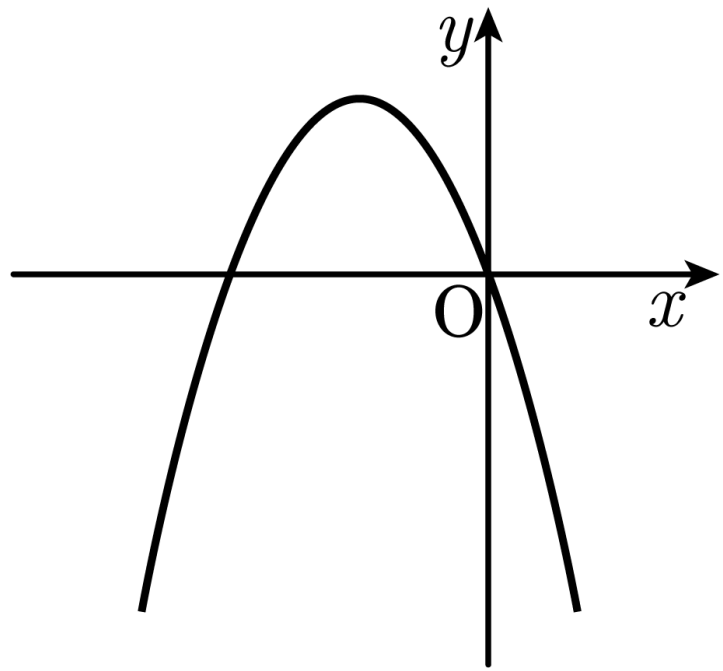

① $a > 0, p < 0, q < 0$

② $a > 0, p > 0, q < 0$

③ $a > 0, p > 0, q > 0$

④ $a < 0, p < 0, q > 0$

⑤ $a < 0, p > 0, q < 0$

23. 아래 그래프는 이차함수 $y = -x^2$ 의 그래프를 평행이동한 것이다. 평행이동한 그래프의 식을 구하면?

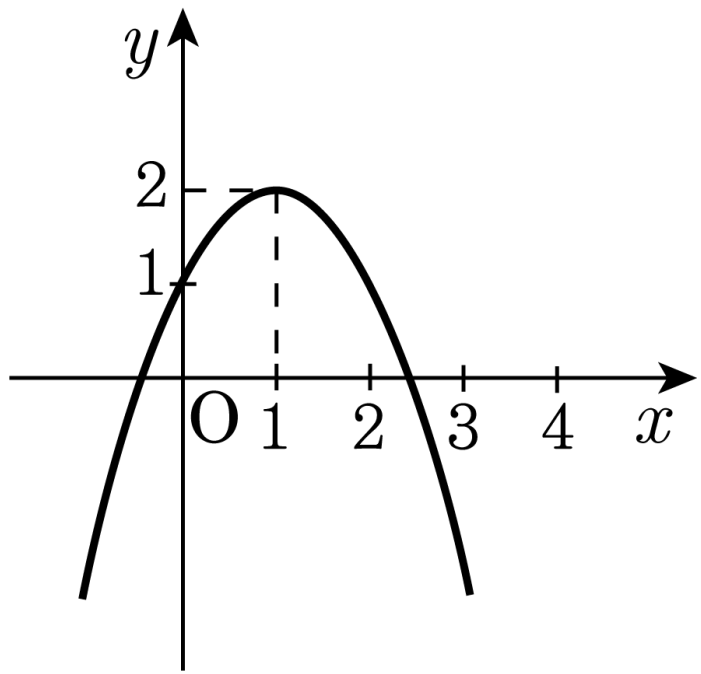

① $y = -x^2 + 1$

② $y = -x^2 + 2$

③ $y = -(x-1)^2$

④ $y = -(x-1)^2 + 2$

⑤ $y = -(x+1)^2 + 2$

24. 다음 중 이차방정식의 해가 모두 음수인 것은?

① $x^2 + x - 2 = 0$

② $x^2 + 4x = 0$

③ $2x^2 + 5x + 2 = 0$

④ $2x^2 - 7x + 6 = 0$

⑤ $3x^2 - 27 = 0$

25. 길이가 36cm 인 철사로 넓이가 80cm^2 인 직사각형을 만들려고 한다. 세로의 길이가 가로의 길이보다 짧을 때, 이 직사각형의 가로의 길이는?

① 4 cm ② 6 cm ③ 8 cm ④ 10 cm ⑤ 12 cm