1. 다음 수량을 문자를 사용한 식으로 바르게 나타낸 것을 고르면?

① 300 원짜리 색연필 a 자루의 값 → $(300+a)$ 원

② x 원짜리 과자 2 개를 사고 y 원을 냈을 때의 거스름돈 → $(x-2y)$ 원

③ 10 km 를 시속 a km 의 속력으로 갔을 때 걸린 시간 → $\frac{a}{10}$ 시간

④ 농도가 a % 인 설탕물 50 g 에 들어 있는 설탕의 양 → $\frac{a}{2}$ g

⑤ 십의 자리의 숫자가 x , 일의 자리의 숫자가 y 인 두 자리의 자연수 → xy

2. 다음 중 기호 $\times$, $\div$ 를 사용하여 나타낸 것으로 옳지 <u>않은</u> 것은?

① $5ab = 5 \times a \times b$

② $\frac{2y}{x} = 2 \div x \times y$

③ $\frac{3}{a+b} = 3 \div (a+b)$

④ $\frac{2}{x-y} = 2 \div x - y$

⑤ $\frac{2b}{a+c} = 2 \times b \div (a+c)$

3. 5 개에 a 원 하는 사탕을 100 개 샀다. 이때, 지불해야 할 금액은 얼마인가?

① $5a$ 원 ② $\frac{20}{a}$ 원 ③ $20a$ 원
④ $\frac{100}{a}$ 원 ⑤ $500a$ 원

4. $a = 3,\ b = -2$ 일 때, $ab - \frac{a}{3}$ 의 값을 구하여라.

답: _____

5. $a = 2$ 일 때, 다음 중 계산 결과가 나머지와 <u>다른</u> 하나는?

① $a + 2$ ② $-a + 2$ ③ a^2
④ $\frac{8}{a}$ ⑤ $2a$

6. 섭씨 x °C 는 화씨 $\frac{9}{5}x + 32$ °F 이다. 화씨 104 °F 는 섭씨 온도로 얼마인가?

① 30 °C ② 40 °C ③ 50 °C ④ 60 °C ⑤ 70 °C

7. 다음 중 옳은 것을 고르면?

① 한 변의 길이가 a cm 인 정사각형의 둘레의 길이는 a^2 cm 이다.

② 100 원짜리 동전 a 개와 500 원짜리 동전 b 개의 합은 $(100b + 500a)$ 원이다.

③ x% 의 소금물 300 g 에 들어 있는 소금의 양은 $300x$ g 이다.

④ 1 권에 x 원 하는 공책 2 권을 사고, 2000 원을 내었을 때의 거스름돈은 $(2000 - 2x)$ 원이다.

⑤ 시속 v km 의 속력으로 s km 의 거리를 달리는 데 걸리는 시간은 $\frac{v}{s}$ 시간이다.

8. $3 \times a \times b \times 1 \times a$ 를 곱셈 기호를 생략하여 바르게 나타낸 것은?

① $3ab1a$ ② $3a^2b$ ③ $31aab$

④ $3aab$ ⑤ $3 \times aa \times b$

9. $a \times (-3) \times a \times b \times b \times (-1)$ 을 곱셈 기호를 생략하여 나타내면?

① $-3ab^2$
② a^2b^2
③ $(-3a^2) + (-b^2)$
④ $3a^2b^2$
⑤ $3a^2 + (-b^2)$

10. 다음 중 계산이 <u>잘못된</u> 식을 모두 찾은 것은?

보기

㉠ $x \times 1 \times y = xy$

㉡ $2 \times 3 \times a \times b = 23ab$

㉢ $(x-y) \times (-1) = -(x-y)$

㉣ $a \times (-3) \times b \times 2 = -6ab$

㉤ $0.1 \times a = 0.a$

① ㉠, ㉡ ② ㉡, ㉢ ③ ㉡, ㉤ ④ ㉢, ㉣ ⑤ ㉣, ㉤

11. 다음 중 옳은 것을 모두 고르면?

① $y \div 5 = \frac{y}{5}$

② $x \div (-y) = -\frac{y}{x}$

③ $a \div b \div c = \frac{ab}{c}$

④ $a \div (a+b) = \frac{a+b}{a}$

⑤ $(x-y) \div 5 = \frac{(x-y)}{5}$

12. 다음 중 $x \div y \times z$ 와 같은 식을 고르시오.

㉠ $x \times y \div z$	㉡ $x \div y \div z$	㉢ $x \div (y \times z)$
㉣ $x \times z \div y$	㉤ $x \div z \times y$	

답: _____

13. $\frac{-7x^2y}{5-z}$ 를 기호 $\times$, $\div$ 를 사용한 식으로 나타낸 것을 고르면?

① $-7 \times x \times x \times y \div 5 \times (-z)$
② $-7 \times x \times 2 \times y \div (5-z)$
③ $-7 \times x \times x \times y \div 5 \div (-z)$
④ $-7 \times x \times 2 \times y \times 5 \div (-z)$
⑤ $-7 \times x \times x \times y \div (5-z)$

14. 백의 자리의 숫자가 c , 십의 자리 숫자가 b , 일의 자리 숫자가 a 인 자연수를 식으로 나타내면?

① $a+b+c$
② $100a+10b+c$
③ $a+10b+100c$
④ $c+\frac{1}{10}b+\frac{1}{100}a$
⑤ $a+\frac{1}{10}b+\frac{1}{100}c$

15. 세 자리의 자연수가 있다. 백의 자리의 숫자가 p , 십의 자리의 숫자가 q , 일의 자리의 숫자가 r 일 때, 이 세 자리의 정수를 나타내는 식은?

① pqr
② $p+q+r$
③ $100p+10q+r$
④ $100r+10q+p$
⑤ p^3q^2r

16. 가로가 x , 세로가 y 인 직사각형의 넓이를 문자식으로 알맞게 나타내어라.

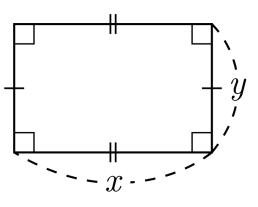

답: _____

17. 가로와 세로의 길이가 각각 x , y 인 직사각형의 둘레의 길이를 나타낸 식은?

① xy ② $2xy$ ③ $x+y$
④ $2x+2y$ ⑤ x^2+y^2

18. 다음 그림과 같은 직육면체의 겉넓이를 a, b, c 를 사용하여 나타내면?

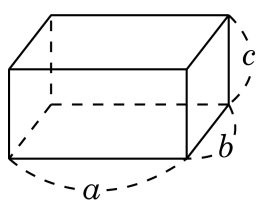

① $6abc$

② $2(a^2+b^2+c^2)$

③ $2(ab+bc+ca)$

④ $a^2+b^2+c^2$

⑤ $2(a+b+c)$

19. 가로의 길이가 a cm, 세로의 길이가 b cm인 그림을 담을 나무 액자를 다음 그림과 같이 만들려고 한다. 이때, 나무 액자의 둘레의 길이는?

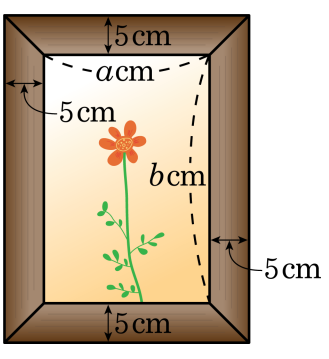

① $(a+b+10)$ cm　　② $(2a+2b+10)$ cm

③ $(a+b+30)$ cm　　④ $(2a+2b+20)$ cm

⑤ $(2a+2b+40)$ cm

20. 밑변의 길이가 $2x$ 이고 높이가 y 인 삼각형의 넓이를 문자식으로 알맞게 나타내면?

① xy ② x^2y ③ $2xy$ ④ $\frac{2x}{y}$ ⑤ $2xy^2$

21. 다음 사다리꼴에서 윗변은 a 아랫변은 b 높이가 h 일 때 사다리꼴의 넓이를 S 라 할 때 S 를 a, b, h 로 옳게 나타낸 것은?

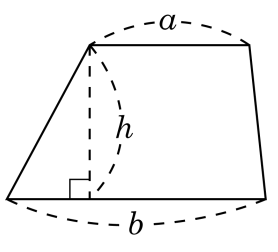

① $S = 2h(a+b)$ ② $S = 2(a+bh)$ ③ $S = \dfrac{(a+bh)}{2}$
④ $S = \dfrac{h(a+b)}{2}$ ⑤ $S = \dfrac{h(a+b)}{3}$

22. 4 개에 a 원인 사과 10 개를 사고 5000 원을 냈을 때의 거스름돈을 옳게 나타낸 식은?

① $\left(5000-\frac{5}{2}a\right)$ 원
② $\left(5000-\frac{2}{5}a\right)$ 원
③ $\left(\frac{2}{5}a-5000\right)$ 원
④ $(5000-4a)$ 원
⑤ $(5000-40a)$ 원

23. 시속 3 km로 x시간 동안 걸은 거리를 문자를 사용한 식으로 나타내어라.

답: _____ km

24. 다음 중 소금물 500 g 속에 x g의 소금이 들어있을 때의 농도는?

① $0.05x\,\%$ ② $\frac{x}{5}\,\%$ ③ $0.5x\,\%$
④ $5x\,\%$ ⑤ $50x\,\%$

25. $x = 2,\ y = -\frac{1}{3}$ 일 때, $3xy - 2x^2$ 의 값을 구하면?

① -10 ② -5 ③ -2 ④ 3 ⑤ 6

26. $a=\frac{1}{3}$, $b=-\frac{1}{5}$, $c=-\frac{1}{4}$ 일 때, $\frac{4}{a}+\frac{2}{b}-\frac{1}{c}$ 의 값을 구하여라.

답: _____

27. $a = -1$ 일 때, $\frac{1}{a} + 2a$ 의 값을 구하여라.

답: _____

28. 다음 중 문자를 사용한 식으로 나타낸 것으로 옳은 것을 모두 골라라.

㉠ 한 개에 a 원하는 빵을 x 개를 사고, 5000원을 냈을 때의 거스름돈 ⇒ $5000-(a\times x)$ 원 ㉡ 한 변의 길이가 $a$cm 인 정삼각형의 둘레의 길이 : $(a+3)$ cm ㉢ 백의 자리의 숫자가 a, 십의 자리의 숫자가 5, 일의 자리의 숫자가 c 인 세 자리의 자연수 : $a\times 5\times b$ ㉣ 농도가 5% 인 설탕물 ag 에 들어 있는 설탕의 양 : $\left(\frac{1}{20}\times a\right)$ g

답: _____

답: _____

29. $a \div (b+c) \div (-2)$ 을 나눗셈 기호를 생략하여 나타내면?

① $\dfrac{-2a}{(b+c)}$ ② $\dfrac{a}{(b+c)} - 2$ ③ $\dfrac{(b+c)}{-2a}$
④ $\dfrac{ab}{-2c}$ ⑤ $\dfrac{a}{-2(b+c)}$

30. 문자를 사용한 식으로 나타낼 때, 다음 중 옳지 <u>않은</u> 것은?

① 전체 학생 200 명 중에서 남학생이 x 명일 때, 여학생의 수는 $(200-x)$ 명이다.

② x 분을 시간으로 나타내면 $(60 \times x)$ 시간이다.

③ 현재 a 살인 아버지의 10 년 후의 나이는 $(a+10)$ 살이다.

④ 어떤 수 k 의 2 배보다 3 만큼 큰 수는 $2k+3$ 이다.

⑤ 시속 5 km 로 a 시간 달려간 거리는 $5a$ km 이다.

31. 다음 그림과 같이 정삼각형과 직사각형을 붙여 오각형을 만들었을 때, 오각형의 둘레는?

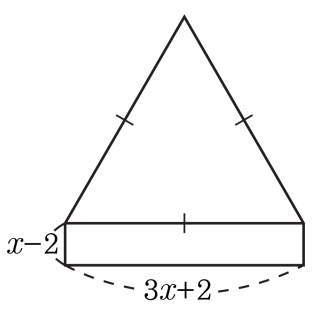

① $4x$　② $4x+4$　③ $7x+2$
④ $11x+2$　⑤ $14x+4$

32. 공기 중에서 소리의 속력이 초속 v m 일 때, 공기의 온도는 $\frac{5}{3}(v-331)$ °C 이다. 소리의 속력이 초속 358 m 일 때, 공기의 온도를 구하여라.

답: _____ °C

33. $\frac{6}{5} \div \frac{1}{A} \div y \div (-3.2)$ 를 나눗셈 기호를 생략하면 $\frac{1}{By}$ 일 때, $A \times B$ 의 값을 구하여라.

답: _____

34. 물 200 g 에 소금 a g을 넣어 만든 소금물의 농도를 a 를 사용한 식으로 나타내어라.

답: _____ %

35. $a = 3$, $b = -5$ 일 때, $2a + 4b$ 의 값은?

① -4 ② -12 ③ -14 ④ 6 ⑤ 16