1. 다음 사각기둥을 두 개의 입체도형으로 나누었습니다. 두 도형의 모서리 수의 합을 구하시오.

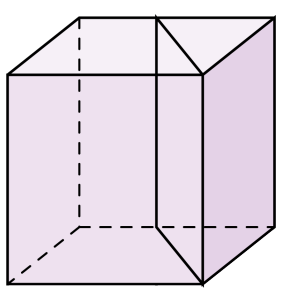

① 19개 ② 18개 ③ 21개 ④ 15개 ⑤ 25개

2. 한 밑면이 둘레가 48 cm 이며, 전체모서리가 152 cm 인 팔각기둥이 있습니다. 이 입체도형의 높이는 몇 cm 입니까?

① 5 cm ② 6 cm ③ 7 cm ④ 8 cm ⑤ 9 cm

3. 모양이 서로 다른 세 각기둥의 모서리의 수의 합이 45개일 때, 이 세 각기둥의 꼭짓점의 수의 합을 구하시오.

답: _____ 개

4. 면의 수와 꼭짓점의 수의 합이 22개인 각뿔의 이름은 무엇인지 구하시오.

답: _____

5. 전개도를 보고, 점 ㄴ과 맞닿는 점을 모두 쓰시오.

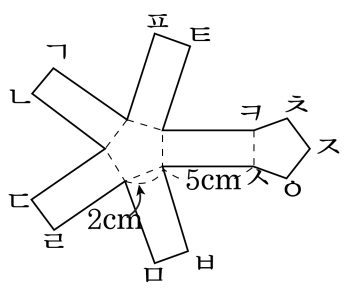

답: 점 _____

답: 점 _____

6. 어떤 입체도형의 전개도가 다음 그림과 같을 때, 전개도를 이용해서 만든 입체도형의 두 밑면의 넓이의 합을 구하시오.

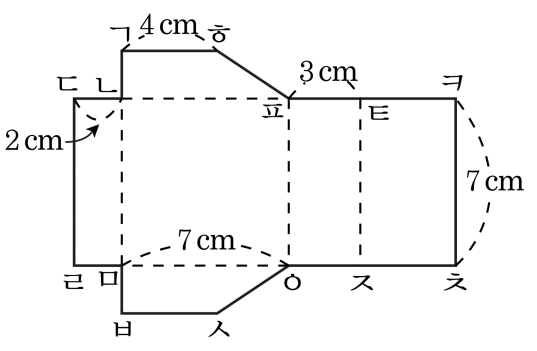

답: _____ cm^2

7. 다음은 사각기둥의 전개도입니다. 이 전개도 전체의 넓이는 몇 cm^2 인지 구하시오.

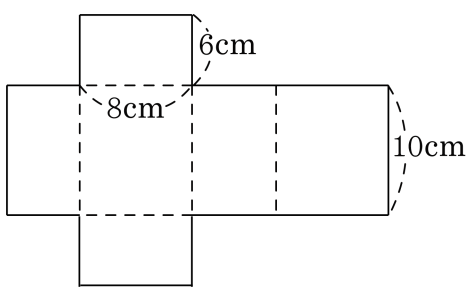

답: _____ cm^2

8. 모든 모서리의 길이가 4cm 이고, 밑면이 정육각형인 각기둥이 있습니다. 이 각기둥의 전개도의 둘레의 길이는 몇 cm 인지 구하시오.

답: _____ cm

9. 다음 그림과 같은 각기둥 모양의 나무토막을 잘라 목공예를 하려고 합니다. 정확히 3토막으로 자르기 위해서 사인펜으로 각기둥의 면에 그림과 같이 선을 그렸습니다. 사인펜으로 그린 선은 모두 몇 cm인지 구하시오.

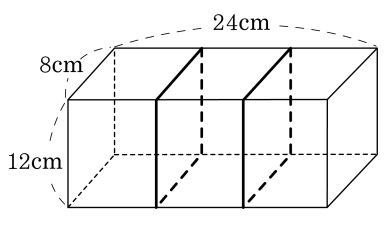

답: _____ cm

10. 꼭짓점의 수와 모서리의 수의 합이 20 개인 각기둥의 면의 개수와 꼭짓점의 수와 모서리의 수의 합이 19 개인 각뿔의 면의 개수의 차를 구하시오.

답: _____

11. 꼭짓점의 수와 면의 수, 모서리의 수의 합이 38개인 각뿔이 있습니다. 이 각뿔의 이름을 구하시오.

답: _____

12. 밑면의 모양이 같은 각기둥과 각뿔의 모서리의 개수의 차는 9 개입니다. 밑면은 어떤 모양입니까?

답: _____

13. 모서리의 길이가 모두 같은 각기둥과 각뿔이 있습니다. 각기둥과 각뿔의 모서리의 합은 30개이고, 모서리 길이의 합은 360 cm입니다. 각기둥의 모서리 길이의 합과 각뿔의 모서리 길이의 합의 차를 구하시오.

답: _____ cm

14. 다음 밑면이 정사각형인 각뿔모양에 높이가 $\frac{1}{2}$ 이 되는 곳에 밑면과 평행하게 잘라냈습니다. 위에 잘린 작은 사각뿔의 밑면의 넓이는 처음 밑면의 넓이에 몇 배 입니까?

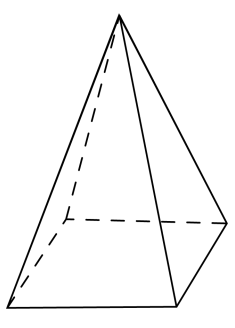

① $\frac{1}{8}$ 배 ② $\frac{1}{6}$ 배 ③ $\frac{1}{5}$ 배 ④ $\frac{1}{4}$ 배 ⑤ $\frac{1}{2}$ 배

15. 각기둥과 각뿔이 각각 1개씩 있습니다. 이 각기둥의 밑면과 각뿔의 밑면은 합동이고, 두 입체도형의 면의 수를 합하면 13개입니다. 이 각기둥과 각뿔을 밑면끼리 꼭맞게 이어 붙여 새로운 도형을 만들 때, 다음 중 새로 만든 도형에 대해 바르게 설명한 것은 어느 것인지 고르시오.

① 면의 수는 12개입니다.

② 꼭짓점의 수는 10개입니다.

③ 밑면과 평행인 방향으로 자른 단면은 항상 오각형입니다.

④ 회전체입니다.

⑤ 모서리의 수는 25개입니다.

16. 다음 그림과 같이 정육면체 모양의 상자의 한 꼭짓점 부분을 잘라 내었습니다. 다음 중 이 정육면체의 전개도가 아닌 것은 어느 것인지 고르시오.

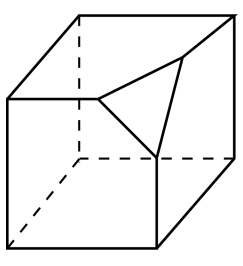

①
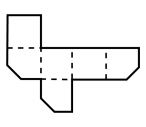

②
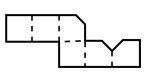

③
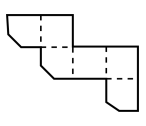

④
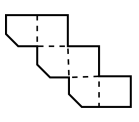

⑤
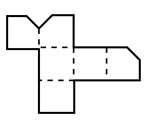

17. 다음과 같은 사각기둥의 전개도를 완성하였을 때, 한 꼭지점에서 세 면이 만나게 됩니다. 세 면에 적힌 숫자를 곱한다고 할 때, 가장 곱이 크게 나오는 값은 얼마인지 구하시오.

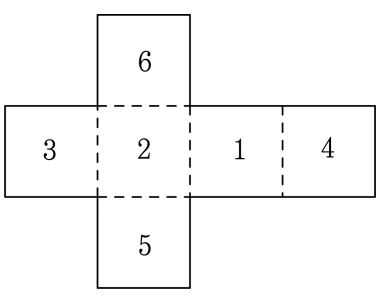

답: _____

18. 다음 전개도로 만든 물통이 있습니다. 밑면이 바닥에 닿도록 세운 후 물을 절반만큼 차도록 부었을 때, 물통에서 물이 닿은 부분의 넓이를 구하시오.

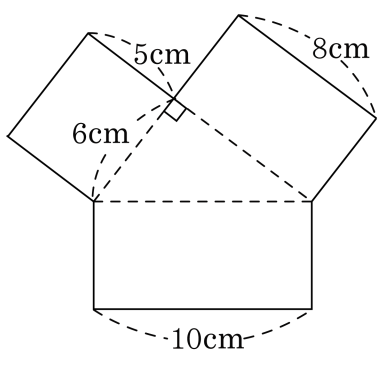

답: _____ cm^2

19. 밑면이 정오각형인 오각기둥을 만들기 위해 다음과 같이 그려서 오렸는데 색칠한 부분은 필요가 없었습니다. 색칠한 부분의 넓이를 구하시오.

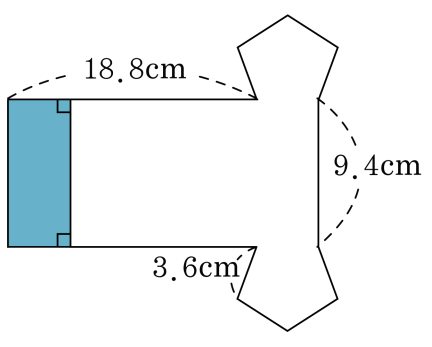

답: _____ cm^2

20. 다음 주사위의 전개도에서 A,B,C의 눈의 수로 바른 것은 어느 것입니까?(단, 주사위의 평행인 눈의 합은 7입니다.)

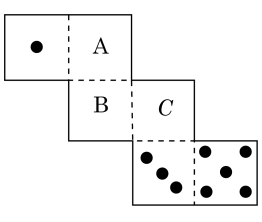

① A=2 ② B=6 ③ B=2 ④ C=2 ⑤ C=4

21. 사각기둥 4개의 면에 선분을 그었습니다. 전개도에 빠진 선분 한 개를 그려 넣을 때, 그려지는 면의 기호를 쓰시오.

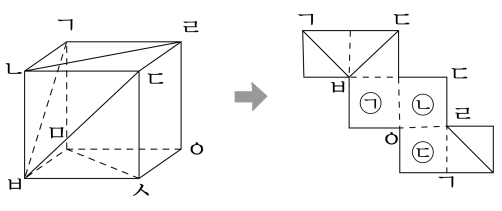

답: _____

22. 모든 모서리의 길이의 합이 96 cm 이고, 높이가 8 cm 인 사각기둥 모양의 상자가 있습니다. 이 상자의 옆면에 한 변의 길이가 4 cm 인 정사각형 모양의 색종이를 빈틈없이 붙여 장식을 하려고 합니다. 색종이는 최소한 몇 장이 필요한지 구하시오.

답: _____ 장

23. 어느 입체도형의 면의 수, 꼭짓점의 수, 모서리의 수의 합이 74 였습니다. 이 입체도형은 어떤 도형이 되는지 가능한 도형을 모두 구하시오.

답: _____

답: _____

24. 다음은 축구공을 펼친 전개도입니다. 이 축구공의 꼭짓점의 수와 모서리의 수의 차를 구하시오.

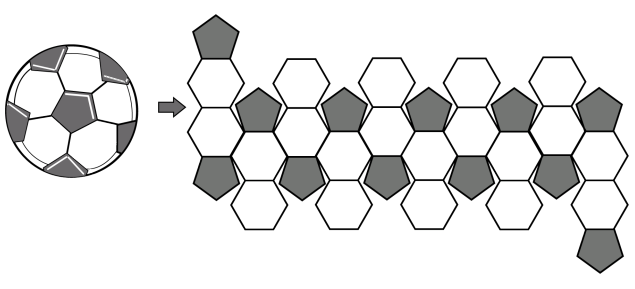

답: _____

25. 왼쪽 도형은 합동인 정삼각형 8개로 이루어진 정팔면체이고, 오른쪽 도형은 이 정팔면체를 각 모서리의 3등분 점을 지나게 모든 꼭짓점을 자른 것입니다. 이 입체도형을 깎인 정팔면체라고 할 때, 깎인 정팔면체의 면, 모서리, 꼭짓점의 수를 각각 차례대로 구하시오.

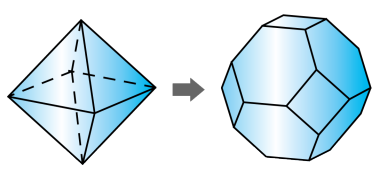

답: 면 _____ 개

답: 모서리 _____ 개

답: 꼭짓점 _____ 개