1. 다음 그림에서 어두운 부분에 속하지 않는 수를 모두 고르면?(2개)

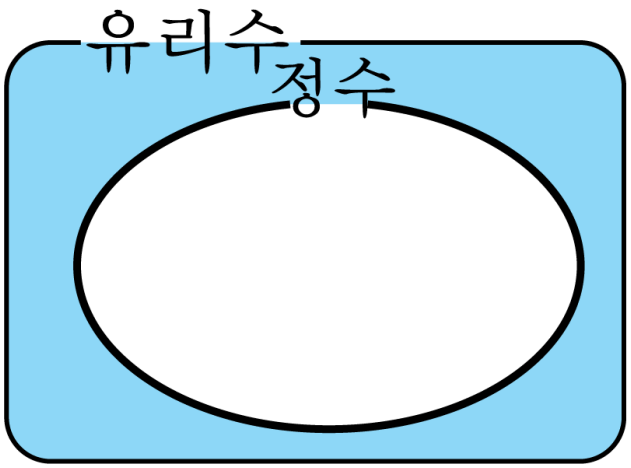

① $\dfrac{6}{2^2 \times 3 \times 7}$ ② 3.72 ③ 0

④ $\dfrac{7}{8}$ ⑤ π

2. 다음 <보기> 중 무한소수는 모두 몇 개인가?

보기

㉠ $0.333\cdots$

㉡ $\frac{2}{5}$

㉢ π

㉣ 1.3

㉤ $1.9276309108\cdots$

㉥ $\frac{4}{9}$

㉦ $\frac{7}{20}$

① 3 개 ② 4 개 ③ 5 개 ④ 6 개 ⑤ 7 개

3. 순환소수 $1.5\dot{1}$ 에 어떤 자연수를 곱하면 그 결과가 자연수가 된다. 이를 만족하는 두 자리의 자연수를 모두 고르면?

① 9 ② 18 ③ 45 ④ 90 ⑤ 99

4. 다음 ㉠ ~ ㉢에 알맞은 수를 써 넣어라.

$$\left(-\frac{x^{\boxed{㉠}}z}{x^3y^{\boxed{㉡}}}\right)^4 = \frac{z^{\boxed{㉢}}}{x^4y^8}$$

답 : ㉠ : _____

답 : ㉡ : _____

답 : ㉢ : _____

5. $\dfrac{6x^2y-8xy^2}{2xy}-\dfrac{6xy-9y^2}{3y}$ 을 간단히 하면?

① $3x-2y$ ② $x-y$ ③ $x-7y$

④ $2x-3y$ ⑤ $x+5y$

6. $(x-4)(x-6)=x^2+Ax+B$ 일 때, 상수 A, B 의 합 $A+B$ 의 값은?

① -24 ② -10 ③ 4 ④ 10 ⑤ 14

7. $81^2 \div 9^5$ 을 간단히 하면?

① 3 ② 3^2 ③ $\frac{1}{3}$ ④ $\frac{1}{3^2}$ ⑤ $\frac{1}{3^3}$

8. $1 \le \left(\frac{n}{4}\right)^{200} \le \left(\frac{27}{16}\right)^{100}$ 을 만족하는 자연수 n 의 값을 모두 구하여라.

답: _____

답: _____

9. $-3x^2y \div (2xy^a)^2 \times \left(\frac{xy}{3}\right)^b = -\frac{x^2}{12y}$ 일 때, $a+b$ 의 값은?

① 2 ② 4 ③ 6 ④ 8 ⑤ 10

10. $(2x+ay)^2 = bx^2 + cxy + 9y^2$ 일 때, $a-b+c$ 의 값을 구하여라.(단, $a>0$)

답: _____

11. 다음과 그림과 같이 밑면의 반지름의 길이가 $2a$, 원뿔의 부피가 $(24a^3b - 20a^2b)\pi$ 라고 한다. $a = 2$, $b = 3$ 일 때, 높이를 구하여라.

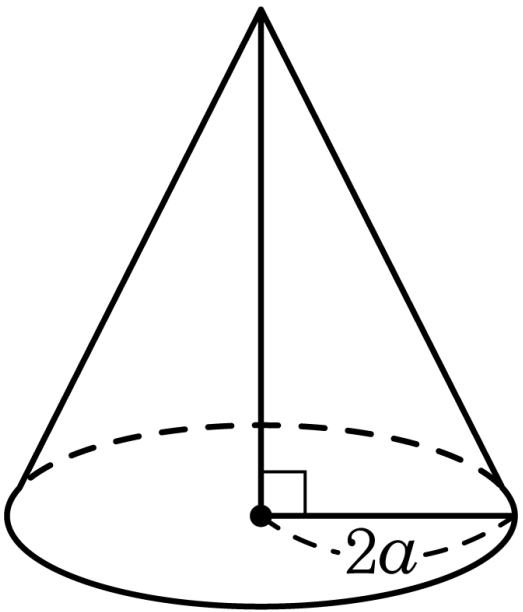

답: _____

12. $A = 2x - z$, $B = x - 3y + 2z$, $C = 4y + z$ 일 때, 다음 식을 x, y, z 에 관한 식으로 바르게 나타낸 것은?

$A - 2B - \{B - (A - 2C) + C\}$

① $x + 3y - 11z$ ② $x - 3y + 9z$ ③ $x - 3y - 11z$

④ $7x - 3y - 11z$ ⑤ $7x - 3y - 5z$

13. 다음 그림의 직사각형에서 색칠한 부분의 넓이를 a, b의 식으로 나타내면?

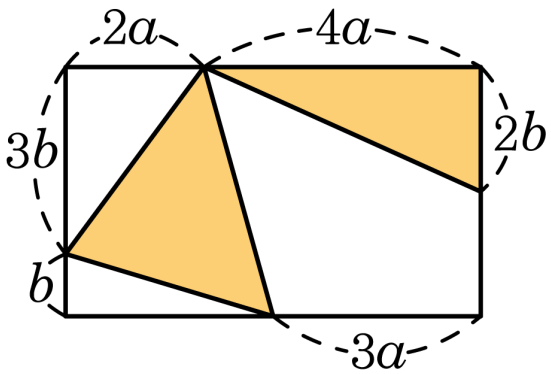

① $6ab$ ② $8ab$ ③ $\frac{17}{2}ab$ ④ $\frac{19}{2}ab$ ⑤ $\frac{25}{2}ab$

14. x, y가 자연수일 때, 일차방정식 $3x + y = 20$의 해 중에서 $x < y$인 것의 개수는?

① 1개 ② 2개 ③ 3개 ④ 4개 ⑤ 5개

15. 일차방정식 $2x+ay=9$ 의 한 해가 $(4,\ b)$ 이고, 또 다른 한 해가 $(2,\ 5)$ 일 때, $a+b$ 의 값은?

① -7 ② -4 ③ -1 ④ 2 ⑤ 5

16. 연립방정식 $\begin{cases} x - y = 7 \\ 2x + y = p \end{cases}$ 의 해가 $(4, q)$ 일 때, $2p - q$ 의 값을 구하여라.

답: $2p - q =$ _____

17. 분수 $\dfrac{21}{2^3 \times x \times 5}$ 을 소수로 나타내면 순환소수가 된다고 한다. $2, 3, 4, 5, 6, 7, 8, 9$ 중 x 가 될 수 있는 것을 구하여라.

답: _____

18. $\dfrac{4567}{9900} = 0.ab\dot{c}\dot{d}$ 에서 a, b, c, d 는 $0, 1, 2, \cdots, 9$ 어느 한 수를 나타낸다. 이때, $a+b+c+d$ 의 값을 구하여라.

답: _____

19. $2(3+1)(3^2+1)(3^4+1)(3^8+1)=3^a+b$일 때, 상수 a, b의 합 $a+b$의 값은?

① 15 ② 16 ③ -15 ④ -16 ⑤ 9