1. 이차함수 $y = 2x^2 + kx - k$ 의 그래프가 x축과 만나도록 하는 상수 k 의 값이 아닌 것은?

① -8 ② -1 ③ 0 ④ 5 ⑤ 8

2. 이차함수 $y = x^2 - 2(k-3)x + 4$의 그래프가 x축과 서로 다른 두 점에서 만날 때, 상수 k의 값의 범위는?

① $k < 1$
② $1 < k < 3$
③ $k < 3$
④ $3 < k < 5$
⑤ $k < 1$ 또는 $k > 5$

3. 다음은 이차함수 $y = (x-2)(x-6)$ 의 그래프이다.

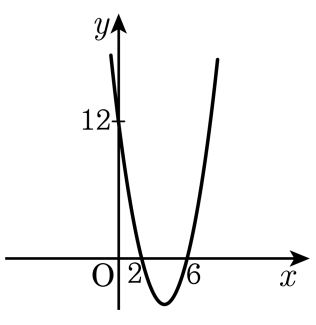

이 이차함수가 x축과 만나는 두 점을 각각 A, B라 할 때, $\overline{AB}$의 길이를 구하여라.

답: _____

4. 포물선 $y = -x^2 + kx$ 와 직선 $y = x + 1$ 이 서로 다른 두 점에서 만나기 위한 k 의 범위는?

① $k > 2,\ k < -1$ ② $k > 3,\ k < -1$ ③ $k > 1,\ k < -1$
④ $k > 3,\ k < -2$ ⑤ $k > 3,\ k < -3$

5. 이차함수 $y = 12x - (1+3x)(1-3x)$ 가 $x = p$ 에서 최소이고 최솟값은 q 일 때, $p+q$ 의 값을 구하면?

① $-\frac{17}{3}$ ② $-\frac{5}{3}$ ③ 0 ④ $\frac{8}{3}$ ⑤ $\frac{20}{3}$

6. 다음 함수의 최댓값 및 최솟값을 구하여라.

$$y = x^2 - 2x - 3 \ (0 \le x \le 4)$$

답: 최댓값 _____

답: 최솟값 _____

7. $-2 \le x \le 1$ 에서 이차함수 $f(x) = x^2 + 2x$ 의 최댓값과 최솟값의 합을 구하여라.

답: _____

8. 이차함수$y = -2 + 3x - x^2$ $(-1 \le x \le 2)$ 의 최댓값과 최솟값의 합을 구하면?

① $-\frac{23}{4}$ ② $-\frac{16}{3}$ ③ $-\frac{3}{4}$ ④ $\frac{7}{4}$ ⑤ $\frac{11}{3}$

9. 함수 $y=-x^2+kx$의 그래프가 직선 $y=-x+4$에 접할 때, 양수 k의 값은?

① 1 ② $\frac{3}{2}$ ③ 2 ④ $\frac{5}{2}$ ⑤ 3

10. 이차함수 $y = ax^2 + bx + c$ 의 그래프가 점 $(1, 5)$ 를 지나고, $x = -1$ 일 때 최솟값 -3 을 가진다. 이 때, abc 의 값은?

① -10 ② -8 ③ -6 ④ -4 ⑤ -2

11. 이차함수 $y = -3x^2 - 6x + k$ 의 최댓값이 $\frac{5}{2}$ 일 때, 상수 k 의 값을 구하면?

① $-\frac{1}{2}$ ② 0 ③ $\frac{1}{2}$ ④ 1 ⑤ $\frac{3}{2}$

12. 함수 $y=-x^2-2x+5\ (-2 \le x \le 2)$ 의 최댓값을 M , 최솟값을 m 이라 할 때, $M+m$ 을 구하여라.

답: _____

13. 이차함수 $y = x^2 - 2x - 3$ $(0 \le x \le 3)$ 의 최댓값과 최솟값의 합은?

① -4 ② -3 ③ -2 ④ -1 ⑤ 0

14. $-1 \le x \le 1$ 에서 이차함수 $f(x) = x^2 - 4x - 2a$ 의 최솟값이 1 일 때, 상수 a 의 값은?

① -2 ② -1 ③ 0 ④ 1 ⑤ 2

15. x의 범위가 $0 \le x \le 3$ 일 때, 이차함수 $y = -x^2 + 2x + 1$ 의 최댓값을 M, 최솟값을 m 이라 한다. 이 때, $M + m$ 의 값을 구하여라.

답: _____

16. x의 범위가 $1 \le x \le 2$ 일 때, 함수 $y = x^2 - x - 1$ 의 최댓값과 최솟값의 곱은?

① -5 ② -3 ③ -1 ④ 1 ⑤ 3

17. x의 범위가 $-3 \le x \le 2$ 일 때, 이차함수 $y = x^2 - 2x - 1$ 의 최댓값은 M , 최솟값은 m 이다. $M + m$ 의 값은?

① 11 ② 12 ③ 13 ④ 14 ⑤ 15

18. 이차함수 $y = f(x)$ 의 그래프가 다음 그림과 같을 때, 이차함수 $f(x+a) = 0$ 의 두 실근의 합이 5 가 되도록 하는 상수 a 의 값은?

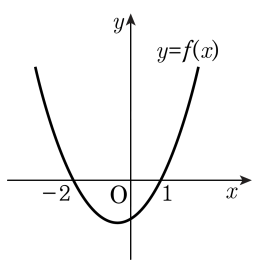

① -3　　② -2　　③ -1

④ 0　　⑤ 1

19. 이차함수 $y = x^2$과 일차함수 $y = x + k$의 그래프가 다음 그림과 같이 서로 다른 두 점에서 만날 때, 다음 보기에서 옳은 것을 모두 고른 것은?

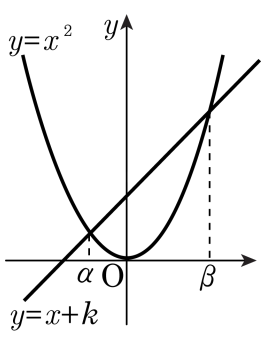

보기

㉠ $\alpha + \beta = 1$　　㉡ $k > 0$　　㉢ $\alpha\beta = -k$

① ㉠　　② ㉠, ㉡　　③ ㉠, ㉢

④ ㉡, ㉢　　⑤ ㉠, ㉡, ㉢

20. x의 방정식 $|x-1|+|x-3|=a$가 서로 다른 두 개의 실근을 가질 때, 실수 a 의 값의 범위는?

① $a<1$ ② $a>1$ ③ $a<2$ ④ $a>2$ ⑤ $a<3$

21. $\frac{x+1}{2} = \frac{y-3}{5} = \frac{z+2}{3}$, $x \geq 0$, $y \geq 0$, $z \geq 0$ 일 때 $x^2 - y^2 + z^2$ 의 최댓값을 구하여라.

답: _____

22. $x^2 + y^2 = 4$를 만족시키는 실수 x, y에 대하여 $2y + x^2$의 최댓값과 최솟값의 합은?

① 0 ② 1 ③ 2 ④ 3 ⑤ 4

23. 이차함수 $y = x^2 + 2x - 1$ 의 그래프와 직선 $y = x + k$ 가 서로 다른 두 점 P, Q 에서 만난다. 점 P 의 x 좌표가 -3 일 때, $\overline{\mathrm{PQ}}$ 의 길이는? (단, k 는 상수)

① 5 ② $5\sqrt{2}$ ③ 7 ④ $7\sqrt{2}$ ⑤ $7\sqrt{5}$

24. 두 실수 x, y 가 $x^2+y^2+2x-2y-2=0$ 을 만족할 때, x 의 최댓값과 최솟값의 합을 구하여라.

답: _____

25. 길이가 80 m 인 끈으로 목장의 경계를 직사각형 모양으로 표시하려고 한다. 목장의 넓이를 최대로 하려면 이 울타리의 가로의 길이는 몇 m 로 정해야 하는가?

① 10 m ② 20 m ③ 30 m ④ 40 m ⑤ 50 m