1. 다음에서 옆면이 곡면으로 둘러싸인 도형은 어느 것인지 고르시오.

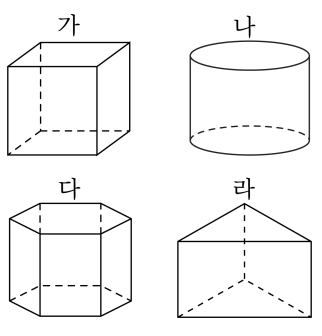

답: _____

2. 다음 그림과 같은 삼각기둥에서 옆면이 <u>아닌</u> 것을 모두 고르시오.

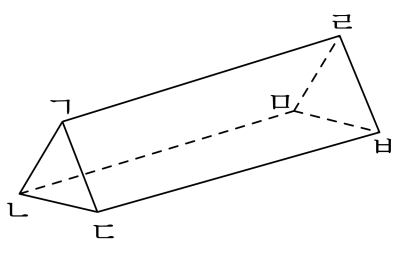

① 면 ㄱㄴㄷ ② 면 ㄹㅁㅂ ③ 면 ㄱㄷㅂㄹ

④ 면 ㄱㄴㅁㄹ ⑤ 면 ㄴㄷㅂㅁ

3. 입체도형에서 밑면을 모두 고르시오.

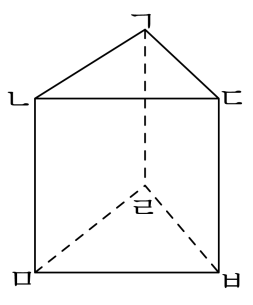

① 면 ㄱㄴㄷ ② 면 ㄱㄴㅁㄹ ③ 면 ㄴㅁㅂㄷ

④ 면 ㄱㄷㅂㄹ ⑤ 면 ㄹㅁㅂ

4. 다음 중 각뿔이 아닌 것은 어느 것인지 고르시오.

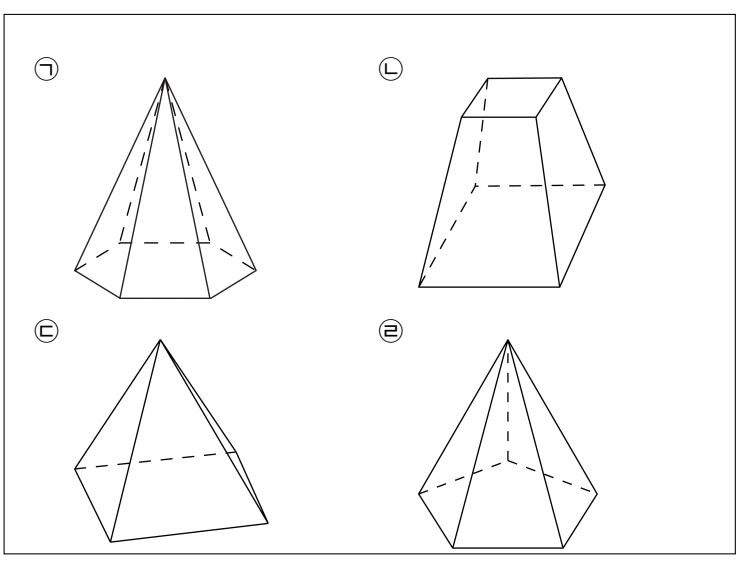

답: _____

5. 다음 각뿔의 밑면을 기호로 바르게 구한것을 고르시오.

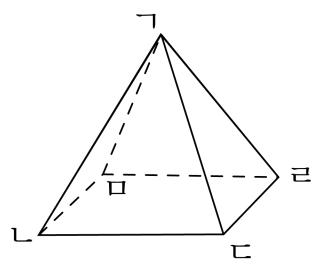

① 면 ㄱㄴㄷ ② 면 ㄱㄷㄹ ③ 면 ㄱㄹㅁ
④ 면 ㄱㄴㅁ ⑤ 면 ㄴㄷㄹㅁ

6. 다음 전개도에서 밑면에 해당하는 면의 기호를 모두 쓰시오.

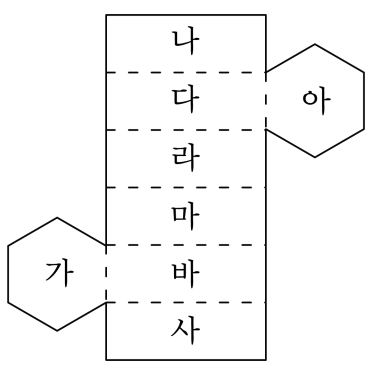

답: 면 _____

답: 면 _____

7. 다음 분수의 나눗셈을 하시오.

$$\frac{4}{9} \div \frac{2}{9} = \square$$

답: _____

8. $\square$ 안에 알맞은 수를 차례대로 써넣으시오.

$$15 \div \frac{1}{3} = 15 \times \square = \square$$

답: _____

답: _____

9. 각기둥의 성질을 바르게 설명한 것을 모두 고르시오.

① 두 밑면이 서로 합동인 다각형입니다.

② 옆면은 서로 평행합니다.

③ 밑면이 모두 직사각형입니다.

④ 옆면과 밑면은 서로 수평입니다.

⑤ 두 밑면은 서로 평행합니다.

10. 다음 각기둥의 꼭짓점의 수를 구하는 공식으로 맞는 것을 고르시오.

① (밑면의 변의 수)+4
② (밑면의 변의 수)−2
③ (밑면의 변의 수)×2
④ (밑면의 변의 수)÷2
⑤ (밑면의 변의 수)×3

11. 다음은 어떤 도형의 전개도인지 쓰시오.

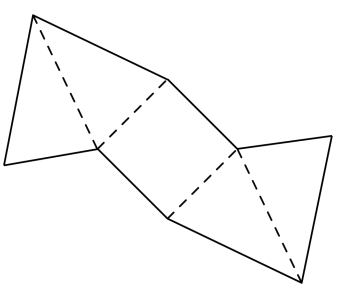

답: _____

12. 다음은 사각기둥의 전개도입니다. 면 마와 수직인 면이 아닌 것을 고르시오.

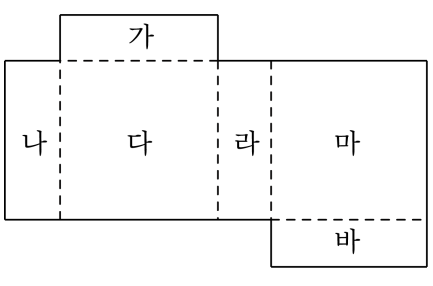

① 면 가 ② 면 나 ③ 면 다 ④ 면 라 ⑤ 면 바

13. $\square$ 안에 알맞은 수를 차례대로 써넣은 것을 고르시오.

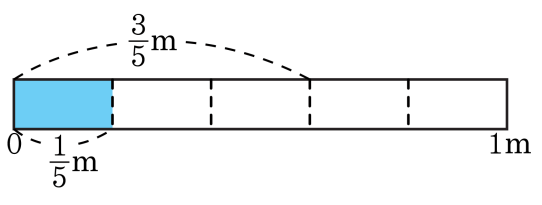

(1) $\frac{3}{5}$ m를 $\frac{1}{5}$ m씩 자르면 $\square$도막이 됩니다.

(2) $\frac{3}{5}$은 $\frac{1}{5}$이 3이므로 $\frac{3}{5} \div \frac{1}{5} = \square$입니다.

① 3, 1　② 3, 2　③ 1, 2　④ 2, 2　⑤ 3, 3

14. 다음 중 계산을 바르게 한 것은 어느 것입니까?

① $\frac{2}{5} \div \frac{5}{6} = \frac{1}{3}$ ② $\frac{5}{9} \div \frac{2}{3} = 1\frac{1}{5}$ ③ $\frac{5}{8} \div \frac{3}{4} = \frac{5}{6}$
④ $\frac{2}{5} \div \frac{12}{13} = 2\frac{4}{13}$ ⑤ $\frac{4}{9} \div \frac{5}{6} = \frac{5}{27}$

15. 다음 중 계산 결과가 <u>잘못</u>된 것은 어느 것입니까?

① $\frac{5}{4} \div \frac{1}{3} = 3\frac{1}{4}$ ② $\frac{9}{8} \div \frac{3}{4} = 1\frac{1}{2}$ ③ $\frac{8}{7} \div \frac{3}{2} = \frac{16}{21}$
④ $\frac{13}{10} \div \frac{3}{5} = 2\frac{1}{6}$ ⑤ $\frac{9}{4} \div \frac{2}{7} = 7\frac{7}{8}$

16. $\square$ 안에 알맞은 수를 고르시오.

$$2\frac{4}{9} \div \square = 1\frac{7}{15}$$

① $1\frac{2}{3}$ ② $1\frac{1}{3}$ ③ $2\frac{1}{3}$ ④ $3\frac{1}{3}$ ⑤ $4\frac{2}{3}$

17. 다음 중 몫이 1보다 작은 것은 어느 것입니까?

① $\frac{4}{5} \div \frac{2}{5}$ ② $\frac{5}{6} \div \frac{1}{6}$ ③ $\frac{3}{7} \div \frac{4}{7}$
④ $\frac{5}{8} \div \frac{5}{8}$ ⑤ $\frac{5}{9} \div \frac{4}{9}$

18. 어떤 각뿔의 모서리의 수를 세어 보니 24개였습니다. 이 각뿔의 이름은 무엇인지 구하시오.

답: _____

19. 입체도형에 대한 설명 중 바른 것은 어느 것인지 고르시오.

① 두 밑면이 서로 평행인 입체도형을 각기둥이라고 합니다.

② 각기둥의 옆면의 모양은 정사각형입니다.

③ 각기둥은 밑면의 모양에 따라 이름이 달라집니다.

④ 각뿔의 옆면의 모양은 직각삼각형입니다.

⑤ 각뿔에서 면의 수는 꼭짓점의 수보다 많습니다.

20. 다음 전개도로 사각기둥을 만들었을 때 모서리의 길이의 합을 구하시오.

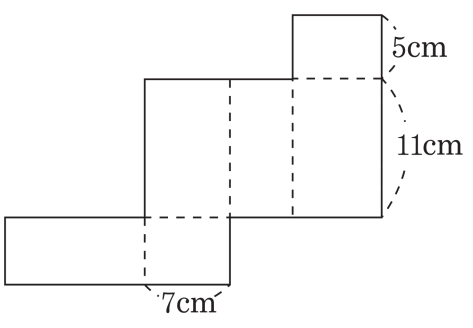

답: _____ cm

21. 크기를 비교하여 ○ 안에 >, =, <를 알맞게 써넣으시오.

$$3\frac{1}{3} \div 4\frac{1}{6} \bigcirc 5\frac{5}{8} \div 3\frac{3}{4}$$

답: _____

22. ○안에 >, <, = 를 알맞게 써넣으시오.

$$\frac{7}{3} \div \frac{14}{15} \bigcirc \frac{9}{8} \div \frac{3}{2}$$

답: _____

23. 전개도를 보고, 점 ㄴ과 맞닿는 점을 모두 쓰시오.

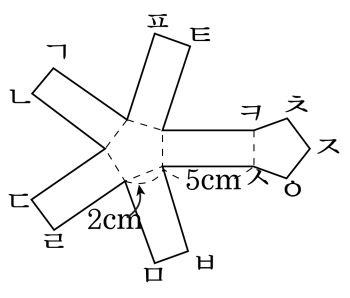

답: 점 _____

답: 점 _____

24. 꼭짓점의 수와 면의 수, 모서리의 수의 합이 38개인 각뿔이 있습니다. 이 각뿔의 이름을 구하시오.

답: _____

25. 다음 중 틀린 것은 어느 것입니까?

① $1\frac{5}{9} \div \frac{7}{5} = 1\frac{1}{9}$
② $4\frac{9}{14} \div 2\frac{3}{7} = 2\frac{2}{3}$
③ $\frac{5}{24} \div 1\frac{5}{6} = \frac{5}{44}$
④ $1\frac{1}{6} \div \frac{5}{6} = 1\frac{2}{5}$
⑤ $5\frac{1}{3} \div 1\frac{3}{7} = 3\frac{11}{15}$