1. $\sqrt{a^2} = 4$ 일 때, a 의 값을 구하여라.

① 2 ② -2 ③ ± 2 ④ 4 ⑤ ± 4

2. $\sqrt{40-x}$ 의 값이 자연수가 되도록 하는 가장 작은 자연수 x는?

① 1 ② 4 ③ 7 ④ 10 ⑤ 15

3. $2 \leq \sqrt{x} < 3$ 을 만족하는 자연수 x의 개수를 구하여라.

답: _____ 개

4. $1 < x < 3$ 일 때, $\sqrt{(x-3)^2} + \sqrt{(x+1)^2}$ 을 간단히 하여라.

답: _____

5. 다음 중 무리수를 모두 고르면?

보기

㉠ $\sqrt{3}$	㉡ $\sqrt{13}$	㉢ $\sqrt{2}+\sqrt{9}$
㉣ $-\sqrt{(-3)^2}$	㉤ $\sqrt{\frac{9}{16}}$	㉥ $\sqrt{(99+1)}$

① ㉠, ㉡, ㉢ ② ㉠, ㉡, ㉣ ③ ㉡, ㉢, ㉣
④ ㉢, ㉣, ㉤ ⑤ ㉣, ㉤, ㉥

6. 다음은 실수를 분류한 표이다. □안에 들어갈 말로 바르게 짝지어진 것을 모두 고르면? (정답 2개)

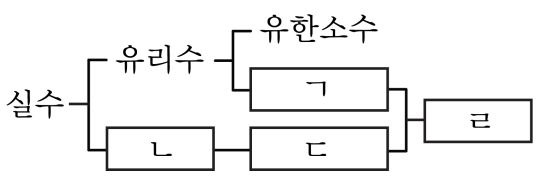

① ㄱ. 비순환소수
② ㄴ. 무리수
③ ㄷ. 무한소수
④ ㄷ. 순환소수
⑤ ㄹ. 무한소수

7. 다음 그림에서 $\overline{AB}$ 를 한 변으로 하는 정사각형 ABCD 가 있다. $\overline{AC} = \overline{AQ} = \overline{BD} = \overline{BP}$ 일 때, $\overline{PQ}$ 의 길이를 구하면?

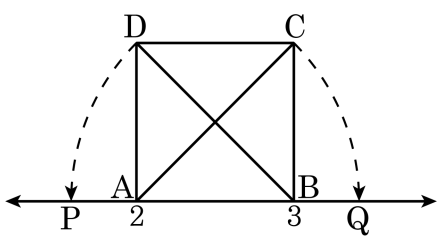

① 5　　② $1+2\sqrt{2}$　　③ $-1+2\sqrt{2}$

④ $2\sqrt{2}$　　⑤ $5+2\sqrt{2}$

8. 다음 세 수를 큰 순서대로 나열할 때, 가운데에 위치하는 수를 구하시오.

$\sqrt{15}$, $3+\sqrt{2}$, 4

답: _____

9. 다음 중 제곱근을 나타낼 때, 근호를 사용하지 않아도 되는 것은 모두 몇 개인가?

$12, 0.4, \frac{1}{16}, 0.\dot{4}, \frac{4}{25}$

① 1개 ② 2개 ③ 3개 ④ 4개 ⑤ 5개

10. 다음 그림에서 □ABCD 와 □EFGH 가 정사각형이고 $\overline{AD} = \overline{AP} = \overline{AR}$, $\overline{EH} = \overline{EQ} = \overline{ES}$ 일 때, 점 P, Q, R, S 에 대응하는 수를 바르게 짝지은 것을 모두 고르면?

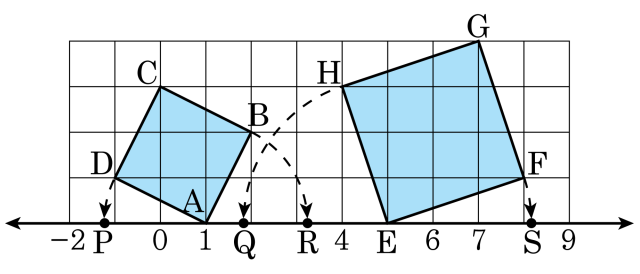

㉠ $P(-\sqrt{2})$	㉡ $Q(5-\sqrt{3})$
㉢ $R(1+\sqrt{5})$	㉣ $S(5+\sqrt{10})$

① ㉠, ㉡　② ㉡, ㉢　③ ㉢, ㉣　④ ㉠, ㉣　⑤ ㉠, ㉢

11. 다음 두 수의 대소를 비교한 것 중 옳은 것은?

① $4 > \sqrt{3} + 2$

② $\sqrt{11} - 3 > \sqrt{11} - \sqrt{8}$

③ $3 > \sqrt{13}$

④ $\sqrt{\frac{1}{2}} < \frac{1}{3}$

⑤ $2 + \sqrt{2} > 2 + \sqrt{3}$

12. 다음 수직선에서 $3\sqrt{2}-5$ 에 대응하는 점은?

① A ② B ③ C ④ D ⑤ E

13. 196 의 제곱근을 각각 x, y라 할 때, $\sqrt{3x-2y+11}$ 의 제곱근을 구하여라. (단, $x>y$)

답: _____

14. 25 의 음의 제곱근과 어떤 수의 양의 제곱근을 더하였더니 -1 이 되었다. 어떤 수는?

① 4 ② 9 ③ 16 ④ 36 ⑤ 49

15. 다음 중 가장 큰 수는?

① $\sqrt{(-7)^2}$ ② $-(-\sqrt{3})^2$ ③ $\sqrt{20}$
④ 6 ⑤ $\sqrt{45}$