1. 다음 중 x, y 에 관한 일차방정식이 아닌 것은 모두 몇 개인가?

(ㄱ) $y = 2x$
(ㄴ) $x + y = 0$
(ㄷ) $2x + 5 = y - 5$
(ㄹ) $3x - 5 = 1$
(ㅁ) $x - 4y = 2$
(ㅂ) $2x - y + 1 = 0$
(ㅅ) $2(x - y) = 3x - 2y + 3$
(ㅇ) $2(x - y) = 5(x - y) + 1$
(ㅈ) $(x + 1)(y - 1) = 0$
(ㅊ) $0.2x + 3.4y = 0$
(ㅋ) $2x = y + 5$
(ㅌ) $2x + y = 2x - 1$
(ㅍ) $3x = -y - 6$

① 4 개 ② 5 개 ③ 6 개 ④ 7 개 ⑤ 8 개

2. 어느 학교의 작년도 학생 수는 모두 1000 명이었다. 금년에는 남학생이 4% , 여학생이 6% 증가하여 전체로는 49 명이 증가하였다. 작년 남학생의 수 x명 , 작년 여학생의 수를 y명 이라고 할 때, 금년의 총 학생 수를 x, y 를 사용하여 나타내면?

① $\frac{4}{100}x + \frac{6}{100}y = 1049$

② $\frac{96}{100}x + \frac{94}{100}y = 1049$

③ $\frac{104}{100}x + \frac{106}{100}y = 1049$

④ $\frac{96}{100}x - \frac{94}{100}y = 1049$

⑤ $\frac{100}{104}x + \frac{100}{106}y = 1049$

3. $x,\ y$ 가 자연수일 때, 다음 중 일차방정식의 해가 3 개인 것은?

① $3x+y=15$ ② $-3x+y=12$ ③ $x-y=3$

④ $2x+3y=20$ ⑤ $4x+6y=24$

4. 다음 중에서 해가 $(-1,\ 1)$ 인 연립방정식을 모두 고르면? (정답 2개)

① $\begin{cases} x+3y=2 \\ -6x+7y=13 \end{cases}$

② $\begin{cases} 0.3x+0.5y=3 \\ 2x+y=-1 \end{cases}$

③ $\begin{cases} -4x+y=0 \\ x+y=0 \end{cases}$

④ $\begin{cases} 4x-7y=-11 \\ -x+y=2 \end{cases}$

⑤ $\begin{cases} 2x-2y=5 \\ \dfrac{x-y}{2}=-1 \end{cases}$

5. 다음 그림은 일차방정식 $\frac{1}{a}x+\frac{1}{4}y-1=0$ 의 그래프이다. a 의 값은?

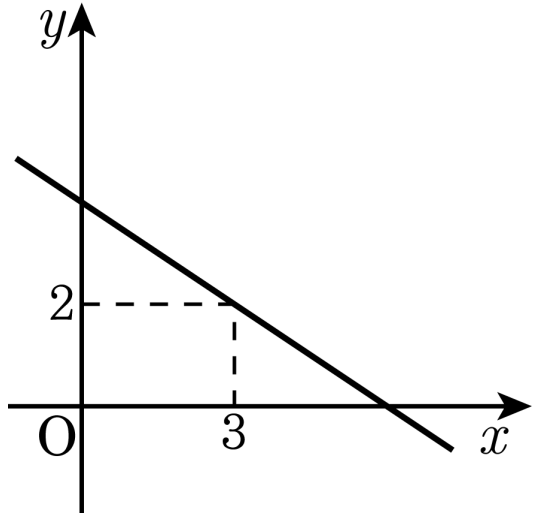

① 3 ② 6 ③ 9

④ 12 ⑤ 15

6. 다음 그래프는 $\begin{cases} 3x+y=a \\ 6x-2y=b \end{cases}$ 의 연립방정식의 해를 나타낸 것이다. $\left|\frac{7}{5}a-3b^2\right| \times b$는 얼마인가?

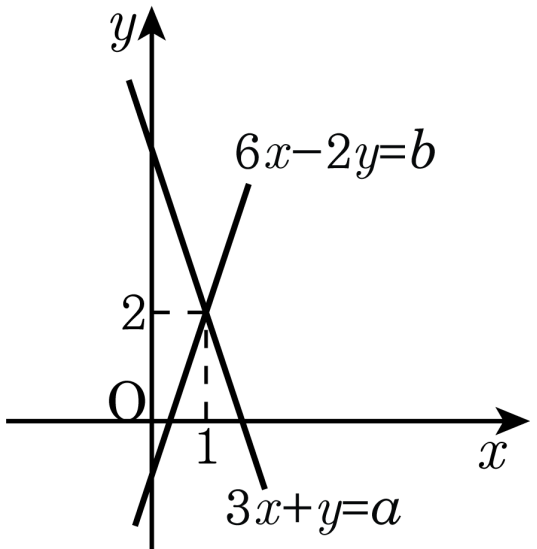

① -10 ② -3 ③ 7

④ 10 ⑤ 17

7. 연립방정식 $\begin{cases} 6x-2y=9 & \cdots ㉠ \\ x+y=5 & \cdots ㉡ \end{cases}$ 에서 y 를 소거하는 대입법으로 풀려고 한다. 다음 중 옳은 것은?

① ㉠ + ㉡ × 2 로 계산한다.

② ㉠-㉡ × 6 을 계산한다.

③ ㉠ 에서 $x=y+9$ 를 ㉡ 에 대입한다.

④ ㉡ 에서 $y=-x+5$를 ㉠ 에 대입한다.

⑤ ㉠ 에서 $y=3x+9$ 를 ㉡ 에 대입한다.

8. 연립방정식 $\begin{cases} ax - by = 2 \\ x + ay = 19 \end{cases}$ 를 잘못하여 a, b를 바꾸어 놓고 풀었더니 $x = 1$, $y = 2$가 되었다. 이때, $2a + b$의 값을 구하여라.

답: _____

9. 다음 연립방정식을 풀면?

$$\begin{cases} \{-(x+4y)+2x+y\}-2=10 \\ 5(x-y)+2(y-x)=18 \end{cases}$$

① $x=-2,\ y=-2$

② $x=1,\ y=0$

③ $x=1,\ y=-1$

④ $x=-2,\ y=3$

⑤ $x=3,\ y=-3$

10. 다음 연립방정식의 해는?

$$\begin{cases} \dfrac{x-1}{2} + \dfrac{y-4}{4} = 7 \\ \dfrac{x-3}{2} - \dfrac{y+2}{2} + 3 = 0 \end{cases}$$

① $(-11,\ -12)$ ② $(11,\ 12)$ ③ $(-1,\ -2)$

④ $(-11,\ 12)$ ⑤ $(1,\ 2)$

11. 연립방정식 $\begin{cases} (x-3y):3=(2x-4):2 \\ 0.1x+0.8y-1.6=0 \end{cases}$ 의 해가 일차방정식 $x+ky=6$ 을 만족할 때, 상수 k 의 값은?

① 1 ② 2 ③ 3 ④ 4 ⑤ 5

12. 연립방정식 $2x + 5y + 1 = 2(x + y) = 6$ 의 해를 $(l,\ m)$ 이라 할 때, $l - 2m$ 의 값을 구하여라.

답: _____

13. 다음 연립방정식 중에서 해가 무수히 많은 것은?

① $\begin{cases} -x+\frac{y}{3}=\frac{1}{5} \\ -4x+2y=4 \end{cases}$

② $\begin{cases} 2x+y=3 \\ 4x-2y=6 \end{cases}$

③ $\begin{cases} x+2y=-2 \\ 2x+y+1=-3-3y \end{cases}$

④ $\begin{cases} \frac{x}{5}+\frac{y}{2}=3 \\ 2x+3y=1 \end{cases}$

⑤ $\begin{cases} 0.1x-0.3y=-1 \\ 2x-6y=-10 \end{cases}$

14. x, y 두 정수의 합은 60 이고, x 의 5 할과 y 의 4 할의 합은 27 이다. x 를 구하면?

① 10 ② 20 ③ 30 ④ 40 ⑤ 50

15. 두 자리의 자연수에서 십의 자리를 x , 일의 자리를 y 라고 할 때, 십의 자리의 숫자와 일의 자리의 숫자를 바꾼 자연수는 처음 수보다 45 가 크다고 한다. 이를 미지수가 2 개인 일차방정식으로 나타내면?

① $10y + x = (10x + y) - 45$

② $10y + x = (10x + y) + 45$

③ $10y + x + 45 = (10x + y)$

④ $10x + y = (10y + x) + 45$

⑤ $10y + x = (10x + y) \times 45$

16. 유진이가 문방구에서 200 원 짜리 사탕과 100 원 짜리 초콜릿을 샀다. 사탕과 초콜릿을 합하여 15 개를 사고, 1800 원을 지불하였다. 사탕과 초콜릿 개수의 차를 구하여라.

답: _____ 개

17. 초콜릿 2 개와 사탕 1 개의 값은 2700 원이고 초콜릿 3 개의 가격은 사탕 1 개의 가격의 4 배보다 200 원 비싸다고 할 때, 초콜릿 3 개와 사탕 2 개의 값을 구하여라.

답: _____ 원

18. 정효네 반이 미사리 조정경기장에서 2인용 보트와 3인용 보트 7대를 빌려 17명이 탔을 때, 2인용 보트는 몇 대 빌렸는가?

① 3대 ② 4대 ③ 5대 ④ 6대 ⑤ 7대

19. 산악회 모임의 전체 회원 수는 36 명이다. 이번 등산에 남자 회원의 $\frac{1}{3}$ 과 여자 회원의 $\frac{1}{4}$ 이 참가하여 모두 11 명이 모였다. 이 산악회의 여자 회원 수는?

① 12 명 ② 13 명 ③ 14 명 ④ 15 명 ⑤ 16 명

20. 둘레의 길이가 32cm 인 직사각형이 있다. 이 직사각형의 가로의 길이를 3cm 늘리고, 세로의 길이를 2 배가 되도록 늘렸더니 둘레의 길이가 58cm 가 되었다. 처음 직사각형의 넓이는?

① 20cm^2 ② 40cm^2 ③ 60cm^2

④ 80cm^2 ⑤ 100cm^2

21. A, B 두 사람이 가위바위보를 하여 이긴 사람은 세 계단을 올라가고, 진 사람은 두 계단을 내려가기로 하였다. 출발점에서 A 는 14 계단을, B 는 4 계단을 올라갔을 때, A 가 이긴 횟수는? (단, 비기는 경우는 없다.)

① 3번 ② 5번 ③ 8번 ④ 10번 ⑤ 15번

22. 갑, 을 두 사람이 15 일 동안 함께 작업하여 끝마칠 수 있는 일이 있다. 이 일을 갑이 먼저 14 일 동안 작업한 뒤에 을이 18 일 동안 작업하여 끝마쳤다고 할 때, 을이 혼자서 이 일을 한다면 며칠이 걸리겠는지 구하여라.

답: _____ 일

23. 다음 그림과 같이 합동인 작은 직사각형 5 개로 넓이가 120cm^2 인 큰 직사각형을 만들었다. y 의 값을 구하여라.

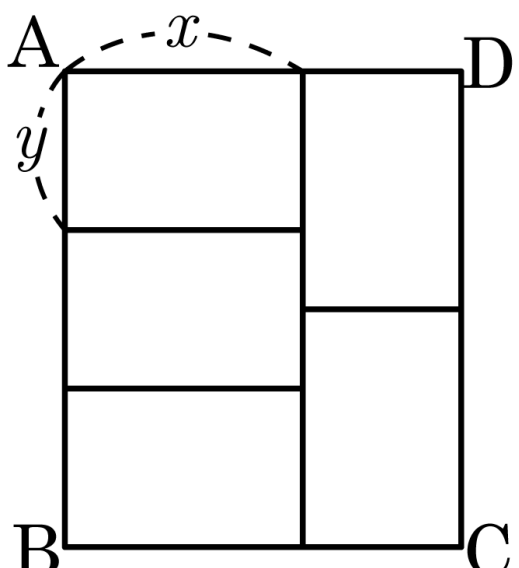

답: _____ cm

24. 상민이가 등산을 하는데 올라갈 때에는 시속 2km 로 걷고, 내려올 때에는 다른 길을 택하여 시속 4km 로 걸어서 모두 5 시간이 걸렸다. 총 12km 를 걸었다고 할 때, 내려온 거리는?

① 4km ② 5km ③ 6km ④ 7km ⑤ 8km

25.

수형이가 300m 걷는 동안 진수는 200 m 를 걷는 속도로 수형이와 진수가 1200 m 떨어진 지점에서 서로 마주 보고 걸었더니 12 분만에 만났다. 진수가 걸은 거리를 구하여라.

답: _____ m

26. 둘레의 길이가 4km 인 호수가 있다. 이 호수를 A 가 시속 4km 로 걷기 시작한 뒤 같은 출발 지점에서 10 분 후 B 가 반대 방향으로 시속 6km 로 걷기 시작한다면 B 가 출발한지 몇 분 후에 A 와 B 가 만나는가?

① 5 분 ② 10 분 ③ 15 분 ④ 20 분 ⑤ 25 분

27. 배를 타고 강을 내려갈 때는 7km 를 가는데 1시간이 걸리고, 강을 거슬러 올라갈 때는 21km 를 가는데 4시간이 걸렸다. 이 때, 강물의 속력을 구하여라.

답: _____ km/h

28. 길이가 180m 인 화물열차가 다리를 지나는데 50 초가 걸렸고, 길이가 120m 인 특급열차가 이 다리를 화물열차의 2 배의 속도로 23 초 만에 통과하였다. 다리의 길이는 얼마인가?

① 470m ② 570m ③ 670m ④ 770m ⑤ 870m

29. 농도가 9% 인 소금물과 5% 인 소금물을 섞어서 농도가 6% 인 소금물 1200g 을 만들려고 한다. 5% 의 소금물 몇 g 을 섞어야 하는가?

① 600g ② 700g ③ 800g

④ 900g ⑤ 1000g

30. A 는 구리를 20% , 주석을 20% 포함한 합금이고, B 는 구리를 10% , 주석을 30% 포함한 합금이다. 이 두 종류의 합금을 녹여서 구리를 300g , 주석을 500g 을 포함하는 합금 C 를 만들었다. A, B 는 각각 몇 g 씩 필요한지 순서대로 구하여라.

답: _____ g

답: _____ g

31. 연립방정식 $\begin{cases} x+|y|=7 \\ x-|y|=5 \end{cases}$ 을 만족하는 x, y에 대하여 $x+y+z=8$ 일 때, z의 값을 모두 구하여라.

답: _____

32. 일차방정식 $2x+ay-6=0$ 이 $(0,\ 2)$, $(-3,\ b)$, $(c,\ -2)$ 를 해로 가질 때, 상수 $a,\ b,\ c$ 의 합 $a+b+c$ 의 값은?

① 9 ② 11 ③ 12 ④ 13 ⑤ 15

33. 배를 타고 강을 8km 올라가는 데 40 분, 내려가는 데 20 분 걸렸다. 이때 배의 속력을 x km/h , 강물의 속력을 y km/h 라고 할 때, 다음 중 x, y 를 구하기 위한 연립방정식으로 옳은 것은? (정답 2 개)

① $\begin{cases} \dfrac{8}{x+y} = \dfrac{2}{3} \\ \dfrac{8}{x-y} = \dfrac{1}{3} \end{cases}$

② $\begin{cases} \dfrac{8}{x-y} = 40 \\ \dfrac{8}{x+y} = 20 \end{cases}$

③ $\begin{cases} \dfrac{8}{x-y} = \dfrac{2}{3} \\ \dfrac{8}{x+y} = \dfrac{1}{3} \end{cases}$

④ $\begin{cases} x+y = 12 \\ x-y = 24 \end{cases}$

⑤ $\begin{cases} x-y = 12 \\ x+y = 24 \end{cases}$

34. x, y 에 관한 두 일차방정식 $y = ax - 8$ 과 $bx + 2y = c$ 의 해가 $(2, -4)$ 일 때, 상수 a, b, c 에 대하여 $a^2 - 2b + c$ 의 값은?

① -4 ② -7 ③ -9 ④ -12 ⑤ -13

35. 다음 연립방정식의 해가 $x=a,\ y=b,\ z=c$ 일 때 $3a-2b+c$ 의 값을 구하여라.

$$\begin{cases} x+y=8 \\ 2y+2z=24 \\ z+2x=13 \end{cases}$$

답: _____

36. 연립방정식 $\begin{cases} \frac{x}{3}+\frac{y}{4}=2 \\ 0.1x+0.3y=1.5 \end{cases}$ 의 해를 $x=a,\ y=b$ 라 할 때, $2a-b$ 의 값은?

① 1 ② 2 ③ 3 ④ 4 ⑤ 5

37. 연립방정식 $\begin{cases} 2x-4y=10 \\ 3x+y=a \end{cases}$ 의 해가 일차방정식 $x=-2y-3$ 을 만족시키고, $\begin{cases} x+2y=4 \\ 2x-y=b \end{cases}$ 의 해가 일차방정식 $y=x+5$ 를 만족시킬 때, $a+b$ 의 값을 구하여라.

답: _____

38. 연립방정식 $\begin{cases} 3x+ay=a-1 \\ 2x+4y=3 \end{cases}$ 을 만족하는 x 와 y 의 비가 $2:1$ 일 때, a 의 값을 구하여라.

답:

39. x, y 에 대한 연립방정식 (가), (나)의 해가 같을 때, $a+b$ 의 값은?

(가) $\begin{cases} 5x+3y=7 \\ ax+by=13 \end{cases}$ (나) $\begin{cases} ax-2by=-2 \\ 4x-7y=15 \end{cases}$

① -1 ② 0 ③ 1 ④ 2 ⑤ 3

40. 연립방정식 $\begin{cases} 0.\dot{3}x + 0.\dot{4}y = 1.\dot{8} \\ x - y = 0.\dot{9} \end{cases}$ 의 해를

$x = m,\ y = n$ 라 할 때, $m + n$ 의 값을 구하여라.

답: $m + n =$ _____

41. 다음 연립방정식의 해를 구하여라.

$$\begin{cases} \dfrac{1}{x}+\dfrac{2}{y}+\dfrac{1}{3}=0 \\ \dfrac{2}{x}+\dfrac{3}{y}+1=0 \end{cases}$$

답: $x=$ _____

답: $y=$ _____

42. 연립방정식 $\begin{cases} ax-2y=8 \\ 3x+2y=2 \end{cases}$ 의 해가 없을 때, a 의 값은?

① -6 ② 6 ③ 3 ④ -3 ⑤ 12

43. 연립방정식 $\begin{cases} x-3y=a \\ 2x-by=5 \end{cases}$ 의 해가 무수히 많고, $\begin{cases} cx-4y=2 \\ 3x+2y=4 \end{cases}$ 의 해가 없을 때, $a+b+c$의 값을 구하여라.

답:

_____

44. 작년에는 철수의 나이가 영희의 나이의 4 배였는데 내년에는 3 배가 된다고 한다. 올해의 철수와 영희의 나이의 합을 구하여라.

답: _____ 세

45. 어느 중학교 대표로 뽑힌 20 명의 학생이 수학경시대회 시험을 보았다. 1 번 문제는 1 점, 2 번 문제는 3 점, 3 번 문제는 4 점으로 채점을 하였더니 평균이 1.45 점이었고, 3 번 문제의 배점은 그대로 하고, 1 번 문제를 3 점, 2 번 문제를 1 점으로 배점을 바꾸어 채점을 하였더니 평균이 2.35 점이었다. 1 번 문제를 맞힌 학생의 수가 2 번 문제를 맞힌 학생의 수의 4 배와 같을 때, 1 번 문제를 맞힌 학생 수를 구하여라. (단, 각 학생은 한 문제씩만 맞힌 것으로 한다.)

답: _____ 명

46. 이탈리아의 어느 도시의 3 년 전 내국인과 외국인을 합한 총 인구는 3500000 명이었다. 그런데 그 후로 매년 내국인은 10% 씩 감소하고, 외국인은 매년 20% 씩 증가하여 금년에 외국인이 내국인보다 396900 명이 많았다. 이 때, 3 년 전의 외국인은 몇 명인가?(필요하면 $0.9^3 = 0.729$, $1.2^3 = 1.728$ 를 이용하시오.)

① 1180000 명 ② 1190000 명 ③ 1200000 명

④ 1210000 명 ⑤ 1220000 명

47. 다음 표는 두 종류의 햄버거 A, B 를 만드는 데 필요한 재료의 개수와 판매했을 경우의 이익금을 나타낸 것이다. 하루 동안 햄버거 A, B 를 만드는 데 빵이 320 개, 고기가 110 개 필요하다. 하루 동안 만든 햄버거는 그 날 모두 팔린다고 할 때, 총 이익을 구하여라.

	빵(개)	고기(개)	이익(원/개)
햄버거A	3	1	300
햄버거B	5	2	500

답: _____ 원

48. 음악실에서 학생들이 한 의자에 5 명씩 앉으면 5 명이 남고, 6 명씩 앉으면 의자 한 개가 남고 마지막 한 의자에는 5 명이 앉게 된다고 한다. 학생 수와 의자의 개수를 각각 구하면?

① 학생 60 명, 의자 12 개
② 학생 65 명, 의자 11 개
③ 학생 65 명, 의자 13 개
④ 학생 65 명, 의자 12 개
⑤ 학생 60 명, 의자 11 개

49. 희망이네 반에서 A, B 두 모둠으로 나누어서 절을 거쳐서 공원으로 현장학습을 간다. A 모둠은 시속 7km 로 보도를 이용하여 절까지 간 후 공원까지 가는데 1 시간이 걸렸다. B 모둠은 시속 6km 로 절 까지 거리가 2km 짧은 지름길을 이용하여 간 후 공원까지 거리가 2 배 더 긴 산을 이용하여 공원으로 가는데, 1 시간 30 분이 걸렸다. A 모둠이 절에서 공원까지 이동한 거리를 구하여라.

답: _____ km

50. 소금과 물의 혼합물에 물 1g 을 넣었더니 20% 의 농도가 되었다. 다시 이 혼합물에 소금 1g 을 넣었더니 $\frac{1}{3}$ 의 농도가 되었다. 처음 혼합물 속의 소금의 농도는 몇 % 인지 구하여라.

답: _____ %