1. 다음 중 계산 결과가 나머지와 <u>다른</u> 하나는 어느 것입니까?

① $59.64 \div 3$ ② $59.64 \times \frac{1}{3}$ ③ $\frac{5964}{100} \div \frac{1}{3}$
④ $\frac{5964}{100} \div 3$ ⑤ $\frac{1}{3} \times \frac{5964}{100}$

2. 나눗셈의 몫이 가장 큰 값에서 몫이 가장 작은 값의 차를 구하시오.

가 $12.74 \div 7$	나 $14.32 \div 8$	다 $16.56 \div 9$

답: _____

3. 다음 나눗셈 중에서 나누어떨어지지 않는 것은 어느 것입니까?

① $22 \div 5$ ② $9 \div 8$ ③ $11.2 \div 4$

④ $6 \div 80$ ⑤ $36.4 \div 6$

4. 다음 중 바르지 <u>못한</u> 것은 어느 것입니까?

① $330\,\mathrm{a} = 3.3\,\mathrm{ha}$

② $20\,\mathrm{ha} = 0.2\,\mathrm{km}^2$

③ $540000\,\mathrm{m}^2 = 54\,\mathrm{ha}$

④ $6.1\,\mathrm{ha} = 6100\,\mathrm{m}^2$

⑤ $1.7\,\mathrm{km}^2 = 17000\,\mathrm{a}$

5. 다음 중에서 넓이가 가장 큰 것은 어느 것입니까?

① $0.3\,\mathrm{km}^2$ ② $0.3\,\mathrm{ha}$ ③ $300\mathrm{a}$

④ $3000\,\mathrm{m}^2$ ⑤ $3\,\mathrm{ha}$

6. 다음 중 넓이가 가장 넓은 것은 어느 것입니까?

① $0.75\,\mathrm{km}^2$
② $100\,\mathrm{m} \times 4000\,\mathrm{cm}$
③ 80000a
④ $25\,\mathrm{ha}$
⑤ $100\,\mathrm{m} \times 3000\,\mathrm{cm}$

7. $\boxed{}$안에 들어갈 수로 옳은 것을 고르시오.

$9\,\mathrm{kg} \rightarrow$ ① g $300\,\mathrm{g} \rightarrow$ ② kg $5.8\,\mathrm{t} =$ ③ $\mathrm{kg} =$ ④ g $4600\,\mathrm{g} = 4.6\,\mathrm{kg} =$ ⑤ t

① 90000　② 0.03　③ 58000

④ 58000000　⑤ 0.0046

8. 다음은 네 가구의 쌀 생산량입니다. 쌀 생산량은 모두 몇 t 인지 구하시오.

가구당 쌀 생산량

가구	가	나	다	라
생산량(kg)	220	730	620	290

답: _____ t

9. 다음 중 소수점 아래 0을 내려 계산해야 하는 나눗셈은 어느 것입니까?

① $3.45 \div 15$ ② $4.48 \div 4$ ③ $57.06 \div 9$

④ $62.85 \div 15$ ⑤ $77.4 \div 4$

10. 다음 중 몫의 소수 첫째 자리 숫자가 0인 나눗셈은 어느 것입니까?

① $1.68 \div 8$ ② $5.4 \div 5$ ③ $32.1 \div 3$

④ $12.6 \div 9$ ⑤ $15.3 \div 6$

11. 다음 나눗셈 중에서 몫이 1보다 큰 것은 어느 것입니까?

① $0.42 \div 6$ ② $3.12 \div 2$ ③ $0.54 \div 5$

④ $6.4 \div 8$ ⑤ $4.8 \div 6$

12. 사다리꼴의 넓이가 55.8 cm^2 일 때, ㉠의 길이는 몇 cm 입니까?

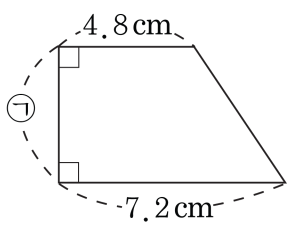

답: _____ cm

13. 다음 중 음료수를 가장 많이 마신 사람은 누구인지 구하시오.

이슬 : 주스 5 L를 8 명이 똑같이 나누어 마셨습니다. 다연 : 콜라 18 L를 24 명이 똑같이 나누어 마셨습니다. 범석 : 환타 21 L를 28 명이 똑같이 나누어 마셨습니다. 신우 : 사이다 14 L를 16 명이 똑같이 나누어 마셨습니다.

답: _____

14. 다음 소수 중에서 $3\frac{1}{4}$ 과 $3\frac{7}{8}$ 사이에 있는 수를 모두 고르시오.

① 3.78 ② 3.135 ③ 3.56 ④ 3.98 ⑤ 3.24

15. 다음 중 $\frac{3}{5}$에 가장 가까운 수를 고르시오.

① 0.63 ② $\frac{7}{11}$ ③ $\frac{5}{7}$ ④ $\frac{2}{3}$ ⑤ 0.59

16. $\boxed{5}$, $\boxed{6}$, $\boxed{7}$, $\boxed{8}$, $\boxed{9}$를 한 번씩만 사용하여 몫이 가장 큰 나눗셈을 만들려고 합니다. $\boxed{}$ 안에 알맞은 숫자를 넣고 계산하시오. (답을 몫만 적으시오.)

$$\square\square\overline{)\square\square\square}$$

답: _____

17. 다음 그림과 같은 모양의 꽃밭이 있습니다. 이 꽃밭 사이에는 폭이 2 m 인 길이 있습니다. 이 꽃밭의 넓이는 몇 m^2 입니까?

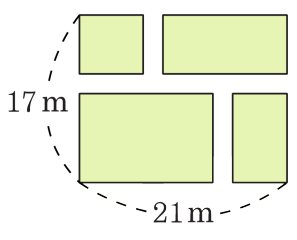

답: _____ m^2

18. 나눗셈의 몫을 반올림하여 소수 둘째 자리까지 나타내시오.

$$3.3 \div 14 = 0.2357\cdots$$

답: _____

19. 다음과 같이 길이가 다른 4개의 끈을 연결하여 정삼각형을 만들었습니다. 정삼각형 한 변의 길이를 구하시오. (단, 반올림하여 소수 둘째 자리까지 나타내시오. 약 $0.666\cdots \rightarrow$ 약 0.67)

117.9 cm　136.8 cm　80.3 cm　169.2 cm

답: 약 _____ cm

20. 6, 0, 5, 4의 숫자를 한 번씩만 사용하여 가장 작은 소수 세 자리 수를 만든 다음 그 수의 $\frac{1}{3}$ 배에 24.8을 더한 수를 구하시오.

답: _____

21. 넓이가 15 ha 인 밭이 있습니다. 이 밭의 $\frac{1}{3}$ 에는 배추를 심고, 나머지의 $\frac{3}{4}$ 에는 고추를 심고, 나머지에는 모두 오이를 심었습니다. 오이를 심은 밭의 넓이는 몇 m^2 인지 구하시오.

답: _____ m^2

22. 다음 그림과 같은 마름모 모양의 철판의 무게는 25.2t 입니다. 이 철판 1a 의 무게는 몇 kg 입니까?

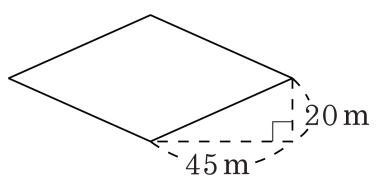

답: _____ kg

23. 가로가 15.72 m, 세로가 28 m인 직사각형 모양의 밭이 있습니다. 세로를 4 m줄이고 가로를 몇 m늘려서 처음 넓이와 같은 직사각형 모양의 밭을 다시 만들려고 합니다. 가로를 몇 m늘려야 하는지 구하시오.

답: _____ m

24. 두 밑변의 길이가 각각 1200 m, 1500 m 이고, 높이가 2 km 인 사다리꼴 모양의 땅을 세 명의 형제에게 똑같이 나누어 주려고 합니다. 한 명에게 나누어 줄 땅은 몇 a 인지 구하시오.

답: _____ a

25. 석훈이네 마을에서는 다음과 같이 배추를 수확하였습니다. 지혜네는 효은이네의 3 배를 수확하였고, 한별이네는 지혜네의 $\frac{1}{4}$ 을 수확하였다면, 석훈이네 마을의 총 배추 수확량은 몇 t 인지 구하시오.

가구 이름	석훈이네	지혜네	효은이네	한별이네	웅이네
수확량(kg)	584		272		634

답: _____ t