1. 다음 히스토그램은 어느 학급의 몸무게를 나타낸 것이다. 각 직사각형의 넓이의 합을 구하여라.

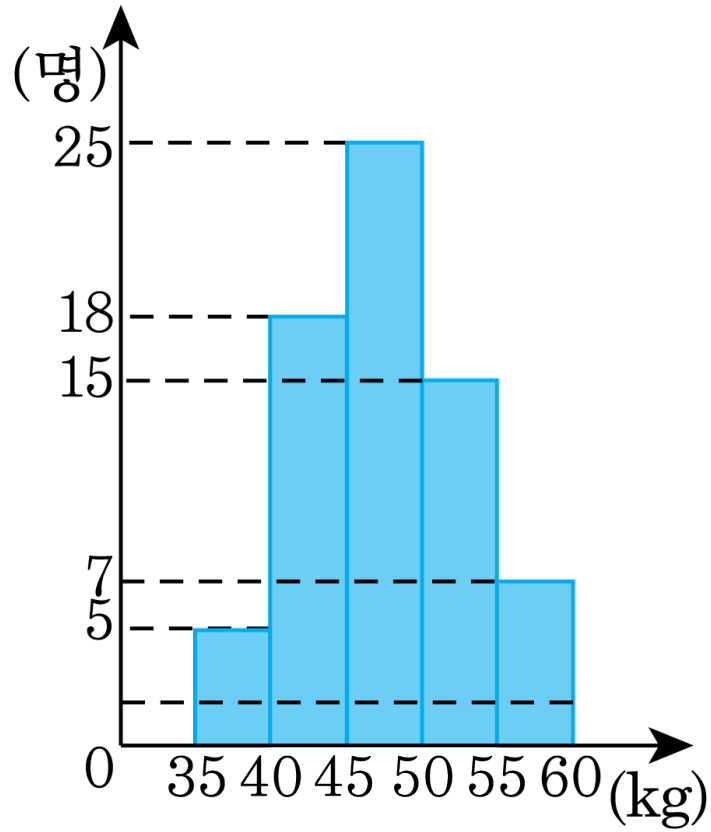

답: _____

2. 다음 그림은 어느 학급 40 명의 영어 점수에 대한 도수분포다각형을 그린 것인데 일부가 찢어져 나갔다. 60 점 이상 70 점 미만인 학생이 70 점 이상 80 점 미만인 학생보다 4명이 더 많다고 할 때, 60 점 이상 70 점 미만인 학생 수를 구하여라.

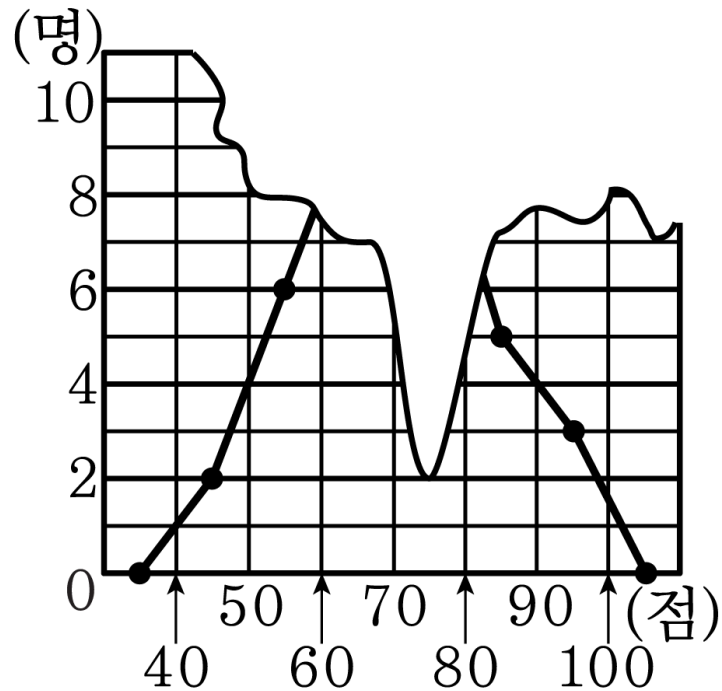

답: _____ 명

3. 다음 그림과 같이 정육면체 5개를 연결한 입체도형에서 교점의 개수를 구하여라.

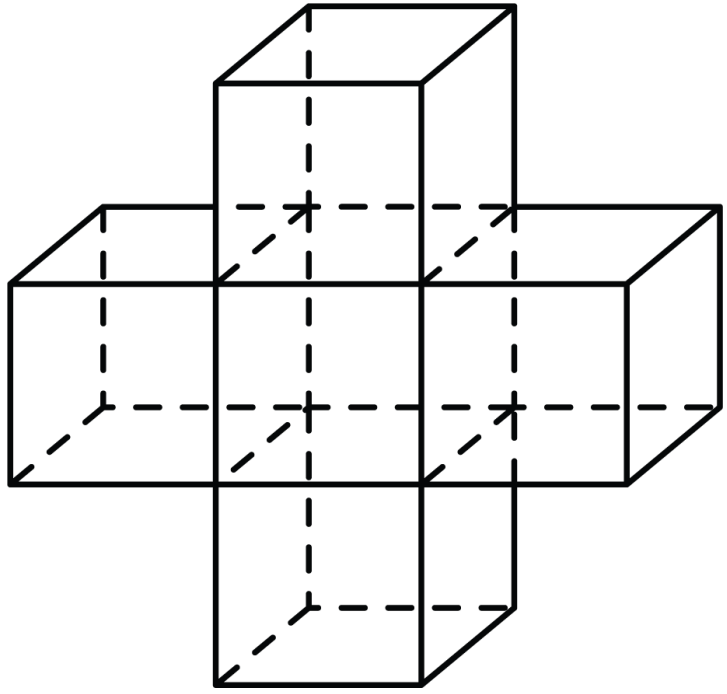

답: _____ 개

4. 선분 AB 의 중점을 M 이라고 하고, 선분 MB 의 삼등분점을 각각 P, Q 라 할 때, $\dfrac{\overline{\mathrm{AM}}+\overline{\mathrm{MQ}}}{\overline{\mathrm{PQ}}}$ 의 값을 구하여라.

답: _____

5. 아래 그림과 같이 세 직선 l, m, n 이 만나고 있다. $\angle c$ 의 엇각이 될 수 있는 것은?

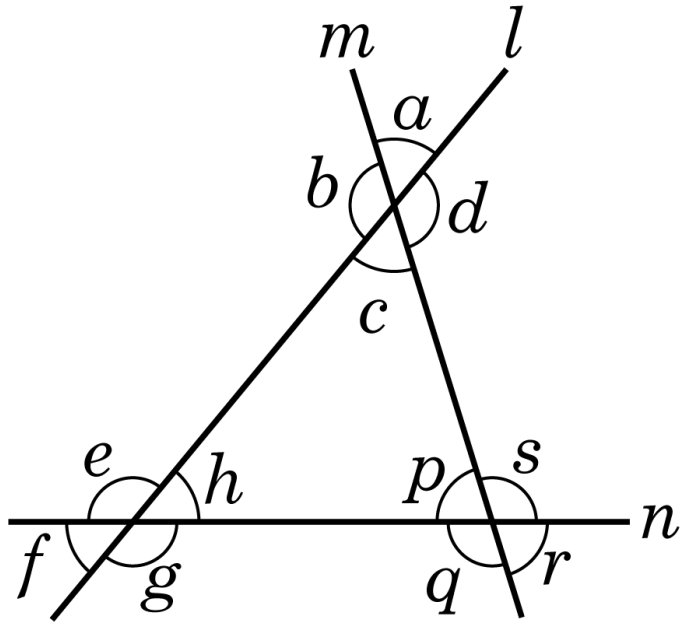

① $\angle a$ ② $\angle e$ ③ $\angle p$ ④ $\angle s$ ⑤ $\angle q$

6. 서로 평행한 세 직선 l, m, n 과 서로 평행한 두 직선 u, w, 그리고 다른 어떤 직선과도 평행하지 않은 직선 z 가 다음과 같이 만날 때, 생기는 각 중 크기가 다른 각은 모두 몇 종류인지 구하여라.

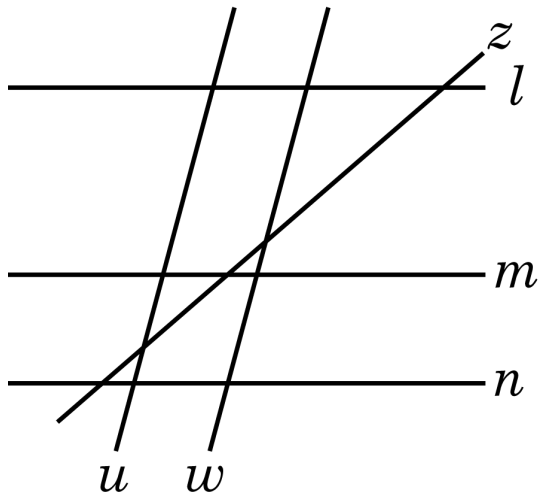

답: _____ 종류

7. 다음 그림에 대한 설명으로 옳은 것을 모두 고른 것은?

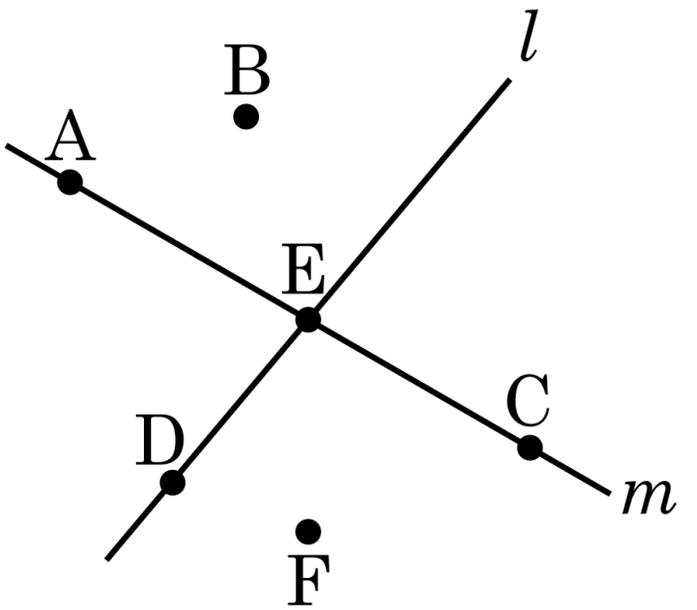

㉠ 점 A, C, E 를 지나는 직선은 직선 l 이다.

㉡ 점 E 를 지나지 않는 직선은 존재하지 않는다.

㉢ 점 E 는 두 직선 l, m 위에 있다.

㉣ 점 A, C 는 직선 m 위에 있고, 직선 l 밖에 있다.

㉤ 점 D 는 직선 l 위에 있지 않다.

① ㉠, ㉢ ② ㉡, ㉣ ③ ㉢, ㉣ ④ ㉢, ㉤ ⑤ ㉣, ㉤

8. 다음 그림에 대한 설명으로 옳지 <u>않은</u> 것은?

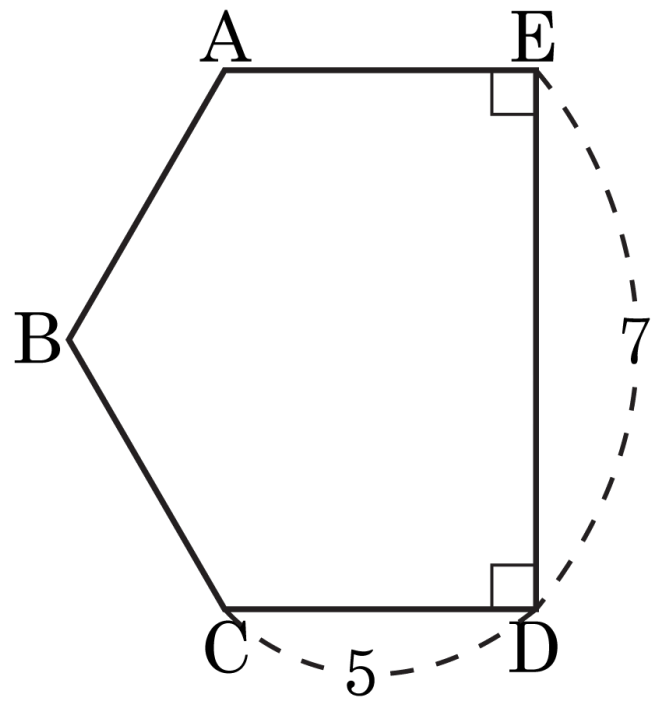

① $\overleftrightarrow{AE}$ 와 $\overleftrightarrow{CD}$ 사이의 거리는 7 이다.

② $\overleftrightarrow{ED}$ 와 $\overleftrightarrow{CD}$ 는 수직으로 만난다

③ $\overleftrightarrow{AE}$ 와 $\overleftrightarrow{CD}$ 는 평행하다.

④ $\overleftrightarrow{AB}$ 와 $\overleftrightarrow{ED}$ 는 서로 만나지 않는다.

⑤ $\overleftrightarrow{AB}$ 와 $\overleftrightarrow{BC}$ 는 한 점에서 만난다.

9. 한 평면 위에 있지 않은 네 점 A, B, C, D 가 있다. 이들 중 세 점으로 결정되는 평면은 모두 몇 개 인가?(단, 어느 세 점도 한 직선 위에 있지 않다.)

① 2개 ② 3개 ③ 4개 ④ 5개 ⑤ 6개

10. 다음 직육면체에서 모서리 $\overline{AH}$ 와 꼬인 위치에 있는 모서리가 아닌 것은?

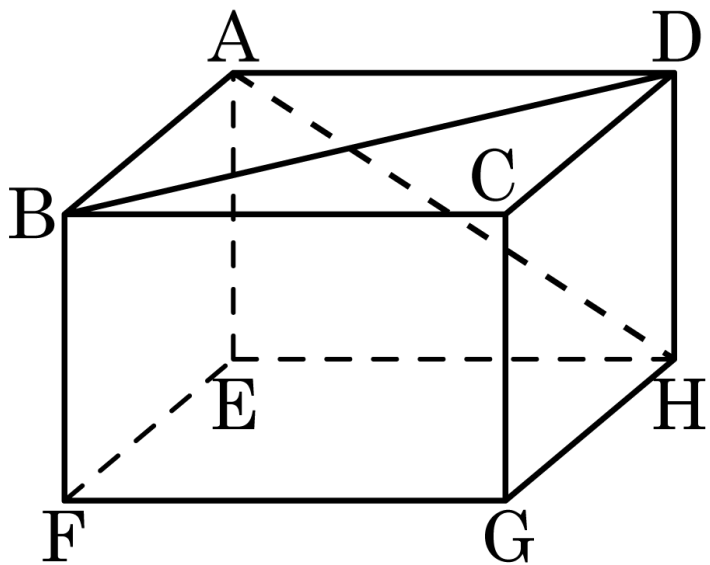

① $\overline{CD}$ ② $\overline{BC}$ ③ $\overline{BF}$ ④ $\overline{EF}$ ⑤ $\overline{DH}$

11. 도형의 합동에 대한 설명으로 옳지 <u>않은</u> 것은?

① 넓이의 비는 1 : 1 이다.

② 모양과 크기가 같아 완전히 포개어진다.

③ 대응하는 각의 크기는 각각 같다.

④ 대응하는 변의 길이는 각각 같다.

⑤ 넓이가 같은 두 도형은 합동이다.

12. 정삼각형 ABC 의 한 변 AC 위에 점 D 를 정하고, $\overline{BD}$ 를 한 변으로 하는 정삼각형 BED 를 그릴 때, 다음 보기 중 옳은 것은?

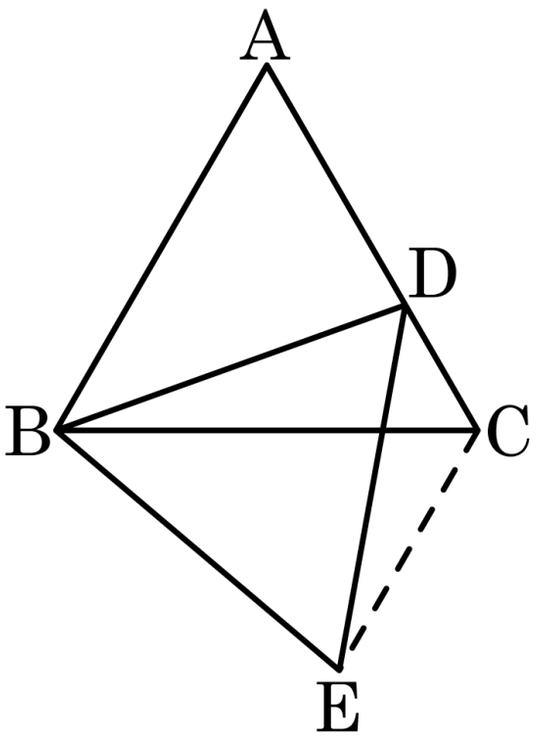

보기

㉠ $\overline{AD} = \overline{DE}$

㉡ $\angle ABD = \angle CBE$

㉢ $\angle ABD = \angle DBC$

㉣ $\overline{AD} = \overline{EC}$

㉤ $\overline{AB} = \overline{BE}$

① ㉠, ㉡ ② ㉡, ㉢ ③ ㉡, ㉣ ④ ㉢, ㉣ ⑤ ㉣, ㉤

13. 어떤 다각형의 내부의 한 점에서 각 꼭짓점에 선분을 그었을 때 생기는 삼각형의 개수가 9 개인 다각형을 구하여라.

답: ___________

14. 다음 그림과 같은 $\triangle ABC$ 에서 $\overline{BD} = \overline{DC} = \overline{AC}$ 이고 $\angle BAC = 76^\circ$ 일 때, $\angle x$ 의 크기는?

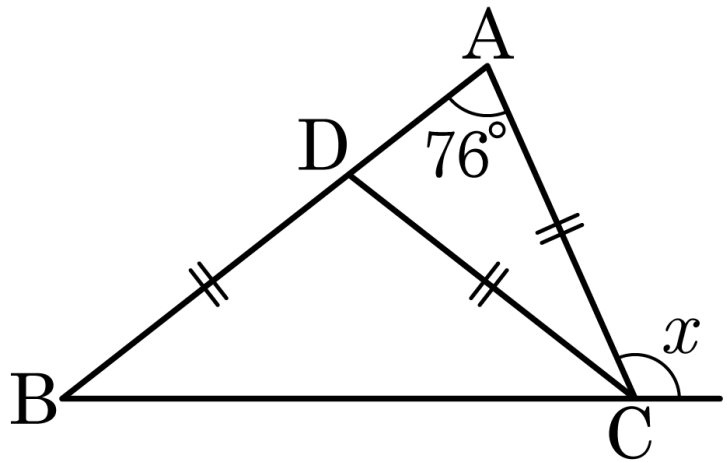

① 100° ② 104° ③ 108° ④ 108° ⑤ 114°

15. 다음 그림에서 $\angle x$의 크기는?

① $50°$ ② $90°$ ③ $100°$

④ $120°$ ⑤ $130°$

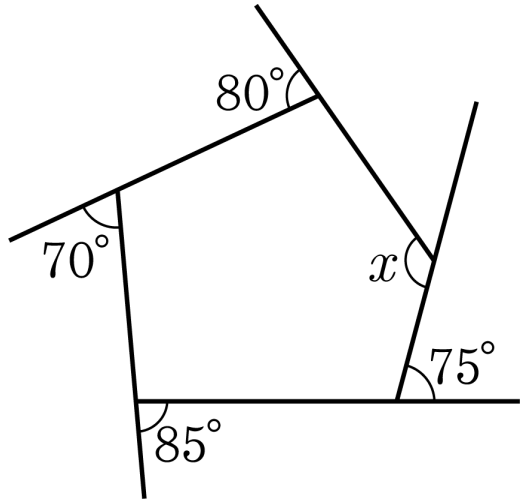

16. 다음 그림에서 $\angle a + \angle b + \angle c + \angle d + \angle e + \angle f + \angle g + \angle h$ 의 크기는?

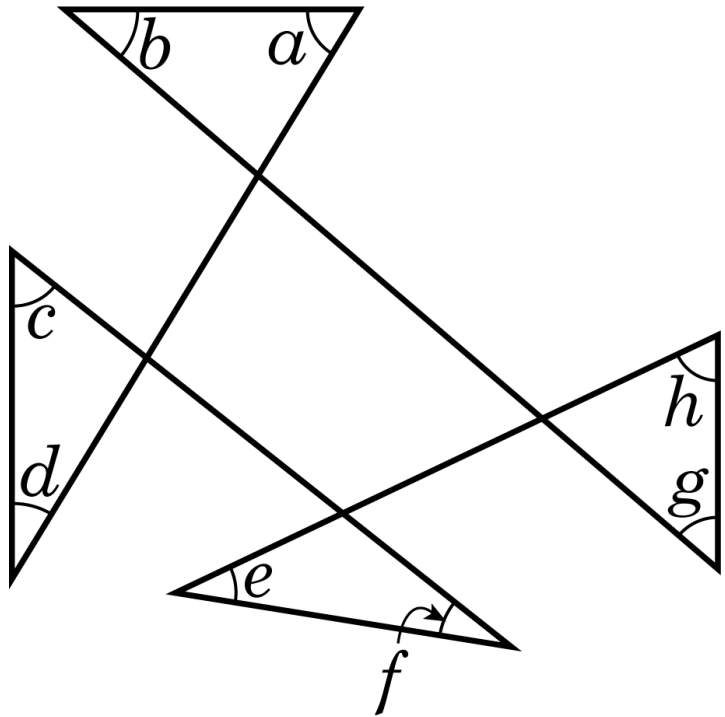

① 180° ② 360° ③ 540° ④ 720° ⑤ 900°

17. 다음 그림에서 x 의 값은?

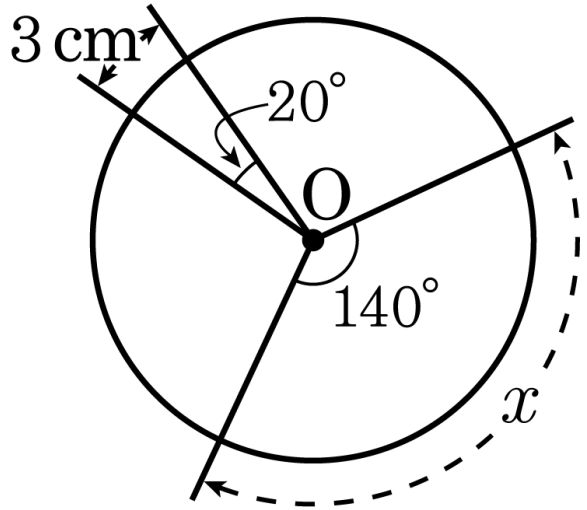

① 14 cm ② 19 cm ③ 20 cm ④ 21 cm ⑤ 24 cm

18. 다음 그림의 원 O 에서 $\overline{AD} // \overline{OC}$ 이고, $\angle COB = 20°$ 일 때, $\angle AOD$ 의 크기를 구하여라.

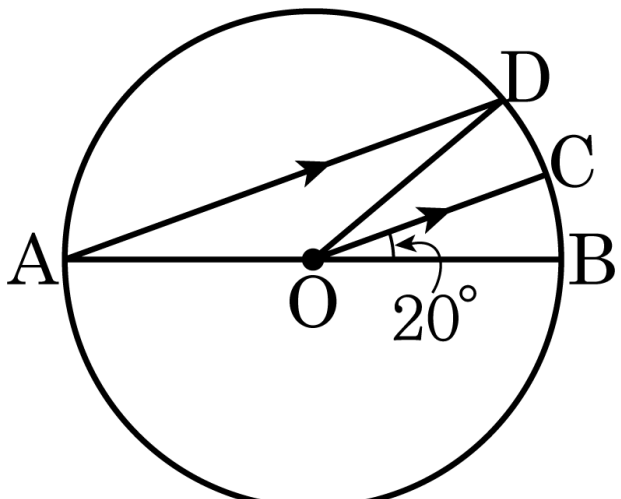

답: _____ °

19. 다음 그림과 같이 원 O 에서 $\angle AOB = \angle COD$, $\overline{CD} = 10$ 일 때, x 의 길이를 구하여라.

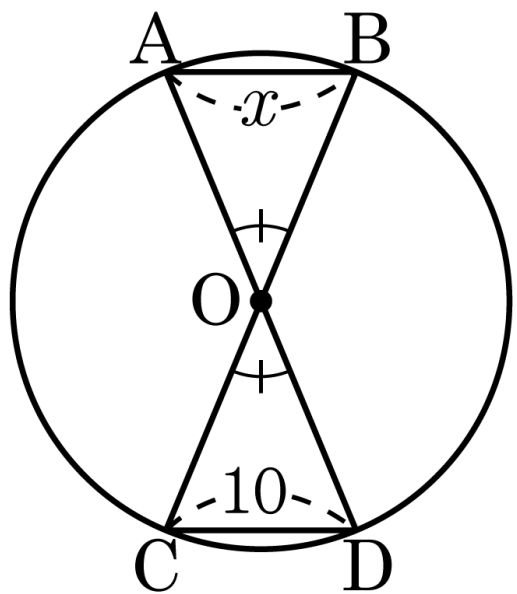

답 : _____

20. 다음 그림의 원 O 에서 $\angle AOB = 40°$, $\angle COD = \angle COE = 40°$ 이다. 이 때, 다음 중 옳지 <u>않은</u> 것은?

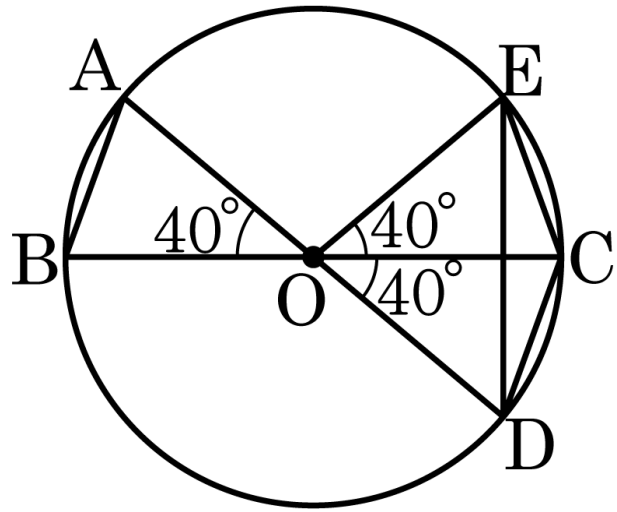

① $\angle OAB = 70°$

② $\overline{AB} = \overline{CE}$

③ $5.0\text{pt}\widehat{DE} = 25.0\text{pt}\widehat{AB}$

④ $\overline{DE} = 2\overline{AB}$

⑤ 부채꼴 ODE의 넓이는 부채꼴 OAB의 넓이의 두 배이다.

21. 다음 도수분포표는 학생 60 명의 성적을 나타낸 것이다. 60 점 이상 70 점 미만인 학생 수가 50 점 이상 60 점 미만인 학생 수의 2 배일 때, y 의 값은?

성적(점)	학생 수(명)
$30^{\text{이상}} \sim 40^{\text{미만}}$	2
$40^{\text{이상}} \sim 50^{\text{미만}}$	4
$50^{\text{이상}} \sim 60^{\text{미만}}$	x
$60^{\text{이상}} \sim 70^{\text{미만}}$	y
$70^{\text{이상}} \sim 80^{\text{미만}}$	18
$80^{\text{이상}} \sim 90^{\text{미만}}$	10
$90^{\text{이상}} \sim 100^{\text{미만}}$	5
합계	60

① 6 ② 7 ③ 14 ④ 18 ⑤ 21

22. 1학년 수학 중간고사 점수에 대하여 그 분포를 나타낸 것이다. 그래프에 대한 설명이 옳지 <u>않은</u> 것은?

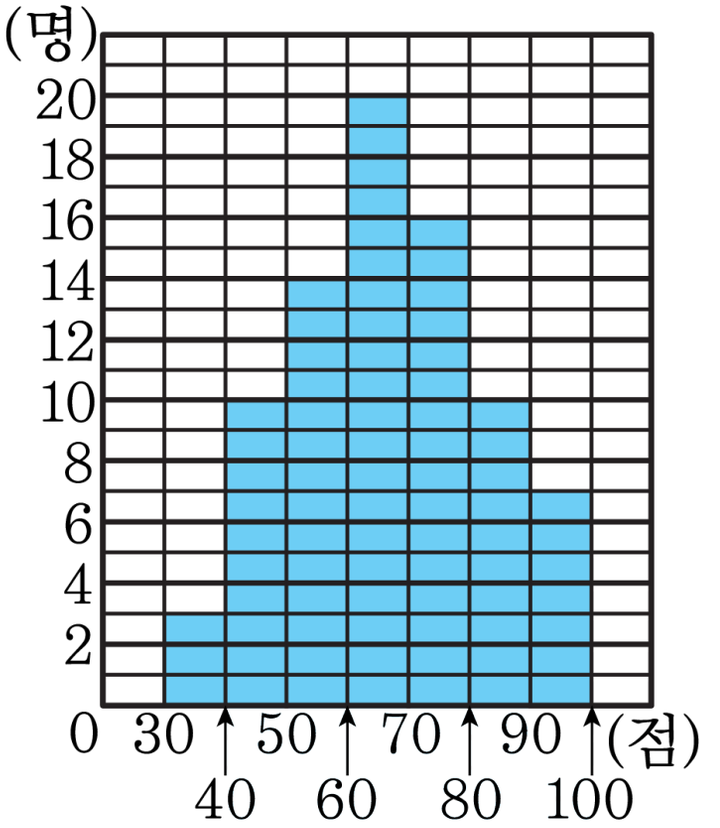

① 위쪽의 그래프는 히스토그램이다.

② 전체 조사 대상자는 80 명이다.

③ 계급의 크기는 10 점이다.

④ 도수가 가장 큰 계급의 계급값은 65 점이다.

⑤ 점수가 가장 낮은 학생은 30 점이다.

23. 다음은 어느 학급의 봉사활동 시간을 나타낸 도수분포다각형이다. 이때, 도수분포다각형의 넓이를 구하여라.

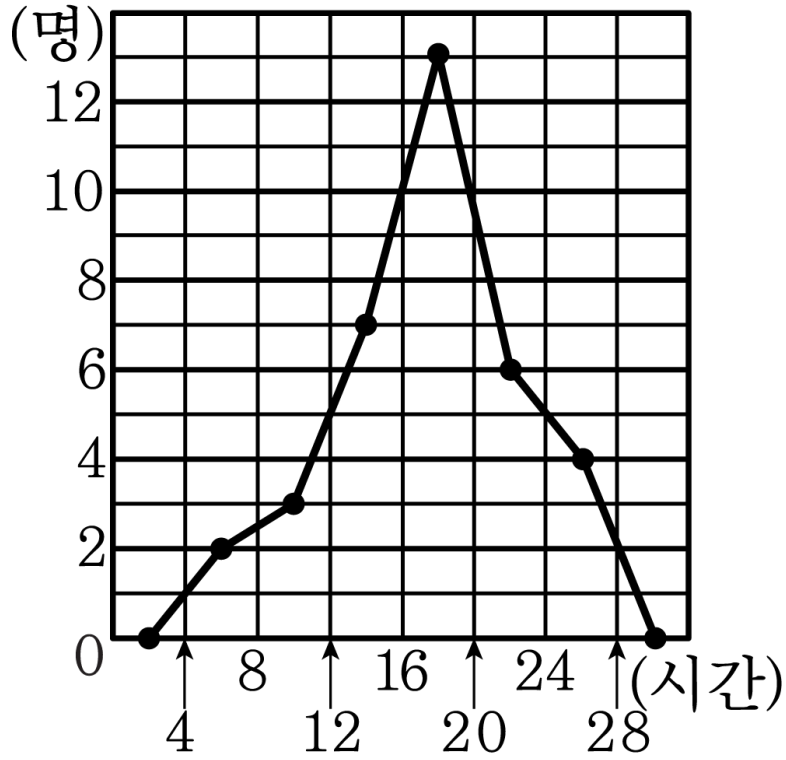

답: _____

24. 아래 도수분포표는 규원이네 학급 50 명의 몸무게이다. 이 학급의 몸무게 평균을 소수점 둘째 자리까지 나타내어라.

몸무게(kg)	도수
$30^{이상} \sim 35^{미만}$	2
$35^{이상} \sim 40^{미만}$	7
$40^{이상} \sim 45^{미만}$	15
$45^{이상} \sim 50^{미만}$	x
$50^{이상} \sim 55^{미만}$	7
$55^{이상} \sim 60^{미만}$	1
합계	50

답: _____

25. 다음 표는 어느 학급 미술 성적을 조사하여 나타낸 상대도수의 분포표인데 찢어져 일부가 보이지 않는다. 성적이 60점 이상 70점 미만인 계급의 상대도수를 구하여라.

미술 성적(점)	학생 수(명)	상대도수
50 이상 ~ 60 미만	3	0.12
60 ~ 70	6	

답: _____

26. 다음은 1 학년 4 반 40 명의 학생들의 수학 성적을 상대도수의 그래프로 나타낸 것이다. 수학 성적 석차가 각각 3 등, 12 등, 21 등인 학생의 계급값의 평균을 구하여라.

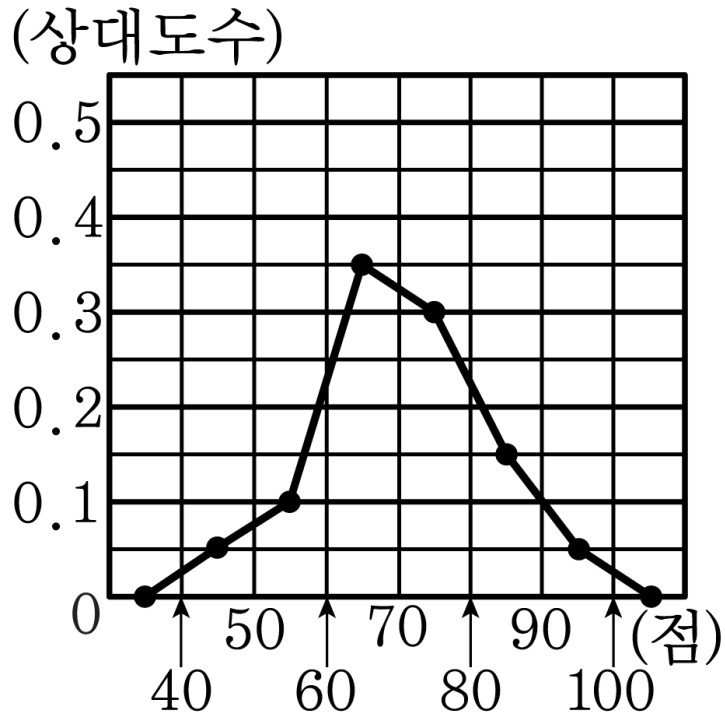

답: _____ 점

27. 다음 그래프는 어느 도시의 두 중학교 학생들의 키를 조사하여 나타낸 상대도수의 분포다각형 모양의 그래프이다. S 중학교 학생 120 명을 조사하였을 때, 키의 평균을 구하여라.

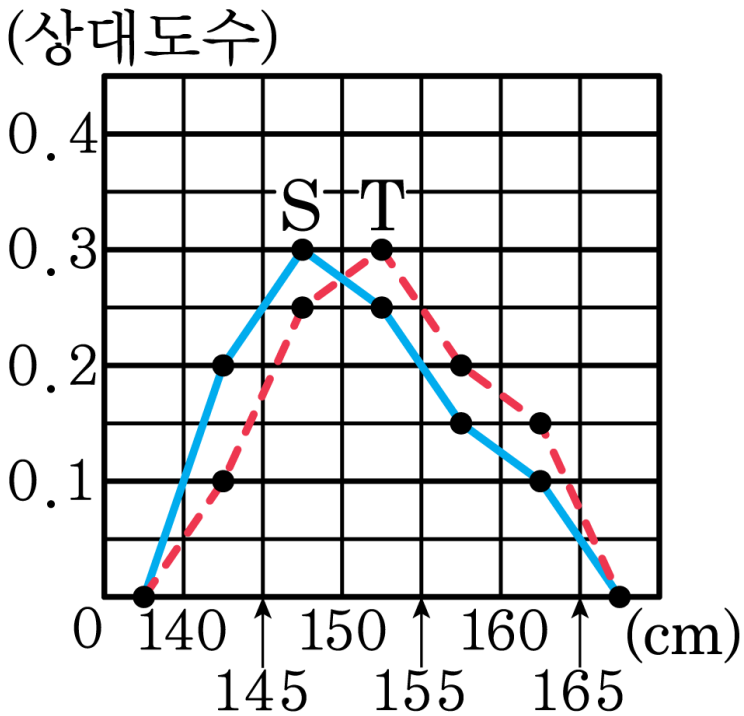

답: _____ cm

28. 다음 그림에서 모서리 AB 와 꼬인 위치에 있는 모서리의 개수를 a , 모서리 AB 와 만나는 모서리의 개수를 b 라 할 때, $a+b$ 의 값은?

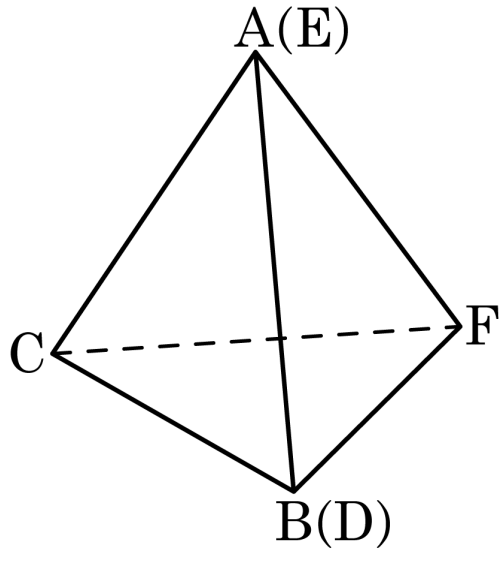

① 9 ② 8 ③ 7 ④ 6 ⑤ 5

29. 다음 그림은 직육면체의 일부를 잘라 만든 입체도형이다. 모서리 FH와 꼬인 위치에 있는 모서리를 구하여라. (단, 모서리 AB = $\overline{\text{AB}}$꼴로 표기)

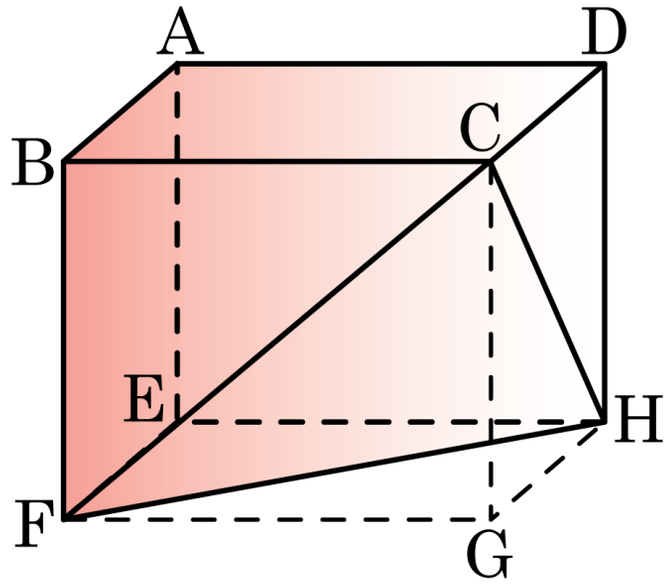

답: _____

답: _____

답: _____

답: _____

답: _____

30. 내각의 크기의 합이 $2340°$ 인 정다각형의 한 외각의 크기는?

① $22.5°$ ② $24°$ ③ $30°$ ④ $36°$ ⑤ $45°$

31. 민혁이의 장난감 자동차는 앞으로 5 m를 가다가 오른쪽으로 x만큼 회전한다. 장난감 자동차가 8번을 회전하고 처음 위치로 돌아왔다면, 장난감 자동차는 한 번에 몇 도씩 회전하였는지 구하여라.

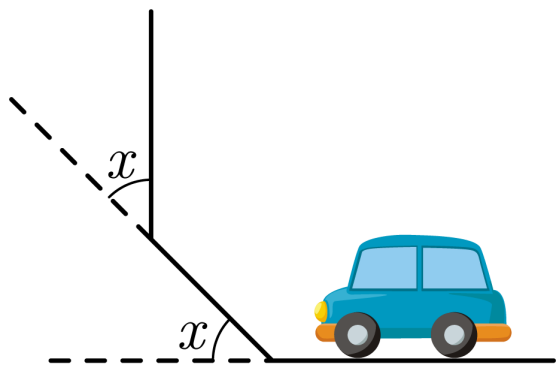

답: _____ °

32. 다음 그림에서 $5.0\text{pt}\widehat{\text{AC}} = 35.0\text{pt}\widehat{\text{BC}}$ 일 때, $\angle\text{AOC}$ 의 크기는?

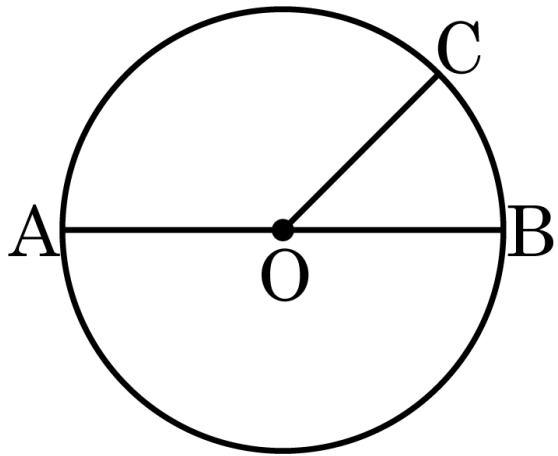

① $110°$ ② $125°$ ③ $135°$ ④ $145°$ ⑤ $155°$

33. 어떤 부채꼴의 호의 길이가 $3\pi\text{cm}$ 이고, 넓이가 $6\pi\text{cm}^2$ 이다. 중심각의 크기를 $x°$ 라 할 때, $\frac{x}{5}$ 의 값을 구하여라.

답: _____