1. 다음은 1반 ~ 5반의 다섯 반에 대한 기말고사 영어 성적의 편차를 나타낸 표이다.
이 자료의 분산을 구하여라.

학급(반)	1	2	3	4	5
편차(점)	-2	-1	2	0	1

답: _____

2. 5개의 변량 a, b, c, d, e의 평균이 6이고 분산이 5일 때, $a-3, b-3, c-3, d-3, e-3$의 평균과 분산을 차례대로 나열하여라.

답: 평균 : _____

답: 분산 : _____

3. 다음 그림과 같은 직각삼각형에서 x의 값은?

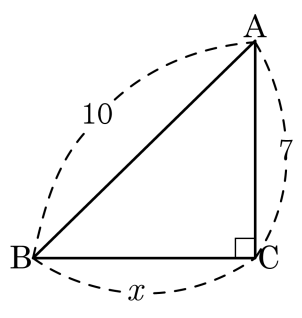

① $\sqrt{51}$ ② $\sqrt{149}$ ③ 8 ④ 9 ⑤ 51

4. 다음은 직각삼각형의 각 변을 한 변으로 하는 정사각형을 그린 그림이다. 이때, 색칠한 부분의 넓이는?

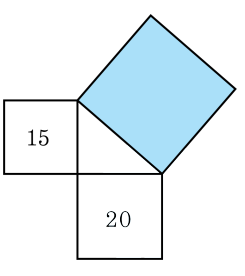

① 35 ② 625 ③ $5\sqrt{5}$

④ 50 ⑤ $5\sqrt{7}$

5. 세변의 길이가 다음 보기와 같을 때, 직각삼각형은 모두 몇 개인가?

보기

㉠ (6, 7, 8)	㉡ (3, 4, 5)
㉢ (3, 7, 9)	㉣ (5, 12, 13)
㉤ (6, 7, 10)	㉥ $(3, 3\sqrt{2}, 3\sqrt{2})$

답: _____ 개

6. 다음 그림과 같이 한 변의 길이가 6cm 인 정사각형 두 개를 이었을 때, $\overline{BE}$ 의 길이를 구하여라.

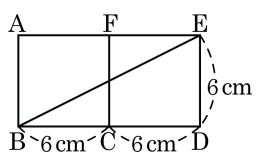

답: _____ cm

7. 다음과 같은 평행사변형 ABCD 에서 $\overline{AB} = 10\text{cm}$, $\overline{AD} = 6\text{cm}$ 일 때, $\overline{BD}$ 의 길이를 구하여라.

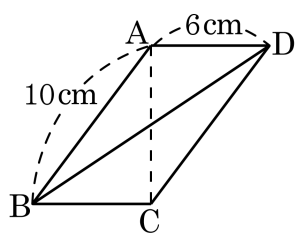

답: _____ cm

8. 다음 그림과 같은 직육면체에서 대각선의 길이를 구하여라.

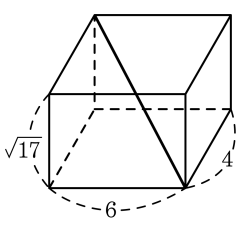

답: _____

9. 다음 그림과 같이 높이가 $9\,\mathrm{cm}$ 이고, 모선의 길이가 10인 원뿔이 있다. 이 원뿔의 밑면의 넓이는?

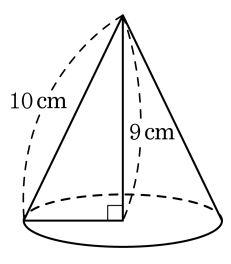

① $17\pi\,\mathrm{cm}^2$　② $18\pi\,\mathrm{cm}^2$　③ $19\pi\,\mathrm{cm}^2$　④ $20\pi\,\mathrm{cm}^2$　⑤ $21\pi\,\mathrm{cm}^2$

10. 다음 그림에서 $\sin B$, $\cos B$, $\tan B$ 의 값을 차례로 구하여라.

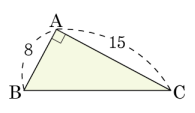

답: $\sin B =$ _____

답: $\cos B =$ _____

답: $\tan B =$ _____

11. 한 직각삼각형에서 $\cos A = \frac{5\sqrt{3}}{9}$ 일 때, $\tan A$ 의 값은?

① $\frac{\sqrt{2}}{4}$ ② $\frac{\sqrt{2}}{5}$ ③ $\frac{\sqrt{2}}{6}$ ④ $\frac{\sqrt{2}}{7}$ ⑤ $\frac{\sqrt{2}}{8}$

12. 다음 그림에서 원 O 는 $\triangle ABC$ 의 외접원이고, 반지름의 길이는 10 cm 이다. $\overline{AC} = 12\,\text{cm}$ 일 때, $\sin A$ 의 값은?

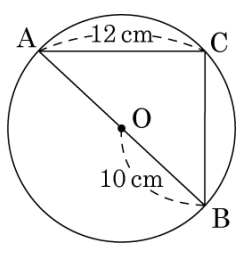

① $\frac{3}{5}$ ② $\frac{\sqrt{5}}{5}$ ③ $\frac{6}{5}$
④ $\frac{\sqrt{7}}{5}$ ⑤ $\frac{4}{5}$

13. $0° \le x \le 90°$ 일 때, 다음 중 옳은 것은?

① $0 \le \cos x \le 1$ ② $0 < \sin x < 1$ ③ $0 \le \tan x \le 1$

④ $-1 \le \tan x \le 0$ ⑤ $-1 \le \sin x \le 1$

14. 다음 삼각비의 값이 가장 작은 것은?

① $\sin 30°$ ② $\cos 30°$ ③ $\sin 90°$
④ $\tan 45°$ ⑤ $\tan 50°$

15. 다음 삼각비의 표를 이용하여 $\tan 52° - \sin 55° + \cos 53°$의 값을 구하여라.

각도	사인 (sin)	코사인 (cos)	탄젠트 (tan)
52°	0.7880	0.6157	1.2799
53°	0.7986	0.6018	1.3270
54°	0.8090	0.5878	1.3764
55°	0.8192	0.5736	1.4281

답: _____

16. 다음은 성수의 5 회의 체육 실기 중 4 회에 걸친 실기 점수를 나타낸 표이다. 다음 시험에서 몇 점을 받아야 평균이 75 점이 되겠는가?

횟수(회)	1	2	3	4
점수(점)	84	78	80	76

① 55 점 ② 57 점 ③ 59 점 ④ 61 점 ⑤ 63 점

17. 다음은 다섯 명의 학생 A, B, C, D, E 가 5 일 동안 받은 문자의 개수를 나타낸 표이다. 이때, 표준편차가 가장 큰 사람은 누구인가?

	월요일	화요일	수요일	목요일	금요일
A	2	5	2	5	2
B	3	6	3	6	4
C	10	2	1	11	3
D	8	8	8	8	9
E	5	6	7	8	9

① A ② B ③ C ④ D ⑤ E

18. 네 수 a, b, c, d의 평균과 분산이 각각 10, 5일 때, $(a-10)^2+(b-10)^2+(c-10)^2+(d-10)^2$ 의 값은?

① 5 ② 10 ③ 15 ④ 20 ⑤ 25

19. 다음과 같이 정사각형 ABCD 의 내부에 한 점 P 가 있다. $\overline{PC} = 2\sqrt{2}$cm , $\overline{PD} = 3\sqrt{2}$cm 일 때, $x^2 - y^2$ 의 값은?

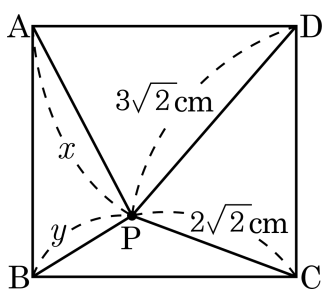

① 2 ② 4 ③ 6 ④ 9 ⑤ 10

20. 넓이가 $36\sqrt{3}\text{cm}^2$ 인 정삼각형의 한 변의 길이를 구하여라.

답: _____ cm

21. 다음 그림과 같이 $\overline{AB} = \overline{AC} = 13\,\text{cm}$, $\overline{BC} = 10\,\text{cm}$ 인 이등변삼각형 ABC 의 넓이를 구하여라.

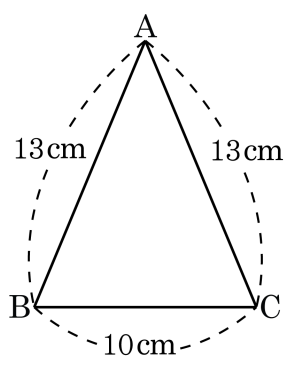

답: _____ cm^2

22. 다음 그림의 $\triangle ABC$ 는 직각삼각형이다. 이 때, x 는?

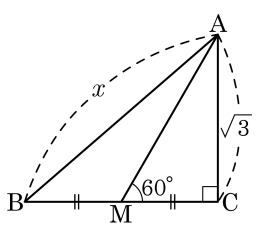

① $\sqrt{3}$ ② $\sqrt{5}$ ③ $\sqrt{7}$

④ $\sqrt{11}$ ⑤ $\sqrt{13}$

23. 두 점 $A(a,\ 4)$, $B(-7,\ b)$의 중점의 좌표가 $(-1,\ 5)$ 일 때, $\overline{AB}$ 의 길이는?

① $\sqrt{37}$ ② $2\sqrt{37}$ ③ $4\sqrt{37}$
④ $\frac{3\sqrt{37}}{2}$ ⑤ $\frac{\sqrt{37}}{2}$

24. 다음 그림에서 두 점 P(5, 1), Q(−3, − 2) 사이의 거리는?

① $\sqrt{5}$ ② 5 ③ $\sqrt{73}$ ④ $\sqrt{65}$ ⑤ 11

25. 대각선의 길이가 $9\sqrt{3}$ cm 인 정육면체의 한 모서리의 길이를 구하면?

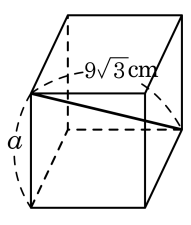

① 6 cm ② $6\sqrt{6}$ cm ③ 9 cm
④ $9\sqrt{2}$ cm ⑤ 18 cm

26. 한 모서리의 길이가 $6\sqrt{6}$ 인 정사면체의 높이는?

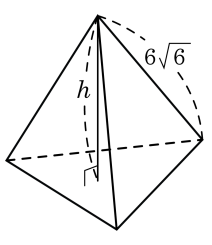

① $2\sqrt{6}$ ② $3\sqrt{6}$ ③ $4\sqrt{2}$ ④ 12 ⑤ 13

27. 다음 그림과 같은 정사각뿔에서 $\overline{\mathrm{OH}} = \sqrt{29}$, $\overline{\mathrm{OA}} = 8\sqrt{2}$일 때, 밑넓이는 ?

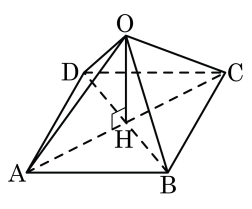

① $3\sqrt{22}$ ② $3\sqrt{11}$ ③ 99 ④ 121 ⑤ 198

28. 다음 그림과 같이 반지름의 길이가 5cm 인 구를 중심 O 에서 3cm 떨어진 평면으로 자를 때 생기는 단면의 반지름은?

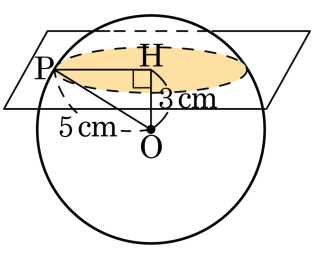

① 3cm ② 4cm ③ 5cm ④ 6cm ⑤ 7cm

29. 다음 그림의 직각삼각형 ABC 에서 $\cos B = \frac{3}{5}$ 일 때, $\overline{BC} = (\quad)$cm 이다. 빈칸을 채워 넣어라.

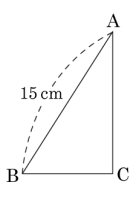

답: _____

30. 다음 중 삼각비의 값이 옳지 <u>않은</u> 것은?

① $\tan 30° = \frac{\sqrt{3}}{3}$ ② $\sin 30° = \frac{1}{2}$ ③ $\tan 45° = 1$
④ $\cos 60° = \frac{\sqrt{3}}{2}$ ⑤ $\sin 45° = \frac{\sqrt{2}}{2}$

31. 다음 그림에서 직선 $4x-5y+20=0$과 x축의 양의 부분이 이루는 각을 θ라고 할 때, $\tan\theta$의 값은?

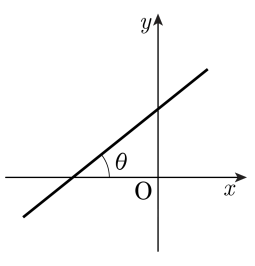

① $\frac{1}{2}$ ② $\frac{4}{5}$ ③ $\frac{\sqrt{3}}{3}$ ④ $\sqrt{3}$ ⑤ $\frac{\sqrt{3}}{2}$

32. 다음 그림의 △ABC 에서 삼각비의 표를 보고 x 의 값을 구하면?

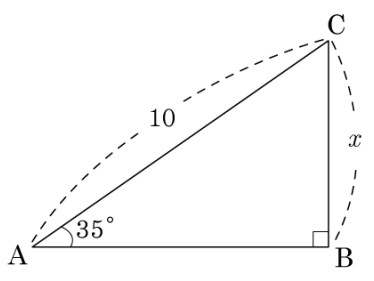

각도	sin	cos	tan
54°	0.8090	0.5878	1.3764
55°	0.8192	0.5736	1.4281
56°	0.8290	0.5592	1.4826

① 8.192 ② 5.736 ③ 5.878 ④ 8.09 ⑤ 8.29

33. 다음 중 옳지 <u>않은</u> 것을 모두 골라라.

보기

㉠ 중앙값은 반드시 한 개 존재 한다.

㉡ 최빈값은 없을 수도 있다.

㉢ 자료의 개수가 짝수이면 중앙값은 없다.

㉣ 최빈값과 중앙값은 반드시 다르다.

답: _____

답: _____

34. 세 수 a, b, c의 평균이 6일 때, 5개의 변량 $8, a, b, c, 4$의 평균은?

① 2 ② 4 ③ 6 ④ 8 ⑤ 10

35. 다음 그림은 A, B 두 학급의 수학 성적을 나타낸 그래프이다. 다음 보기의 설명 중 <u>틀린</u> 것을 고르면?

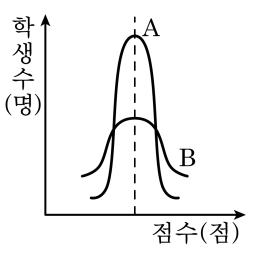

① A 반 학생 성적은 평균적으로 B 반 학생 성적과 비슷하다.

② 중위권 학생은 A 반에 더 많다.

③ A 반 학생의 성적이 더 고르다.

④ 고득점자는 A 반에 더 많다.

⑤ 평균 점수 부근에 있는 학생은 A 반 학생이 더 많다.

36. 다음은 희종이네 반 학생 30 명의 수학 성적을 나타낸 히스토그램이다. 희종이네 반 학생들의 수학 성적의 분산과 표준편차를 차례대로 구하면?

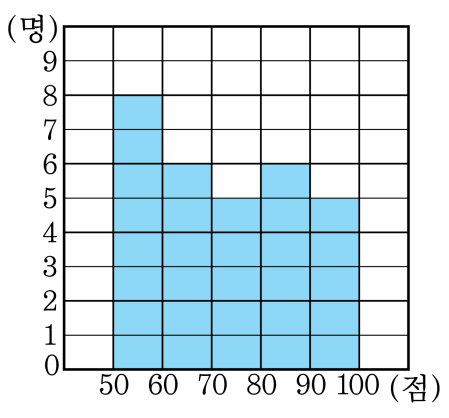

① $\frac{53}{2}, \frac{\sqrt{106}}{2}$ ② $\frac{161}{2}, \frac{\sqrt{322}}{2}$ ③ $\frac{571}{3}, 4\sqrt{11}$
④ $\frac{628}{3}, \frac{2\sqrt{471}}{3}$ ⑤ $\frac{525}{4}, 5\sqrt{21}$

37. 다음은 학생 8 명의 국어 시험의 성적을 조사하여 만든 것이다. 이 분포의 분산은?

계급	도수
$55^{이상} \sim 65^{미만}$	3
$65^{이상} \sim 75^{미만}$	a
$75^{이상} \sim 85^{미만}$	1
$85^{이상} \sim 95^{미만}$	1
합계	8

① 60 ② 70 ③ 80 ④ 90 ⑤ 100

38. 다음 그림에서 $\overline{AO} = 3$ 이고, $\overline{AB} = \overline{BC} = \overline{CD} = \overline{DE} = \overline{EF} = 2$ 이다. $\triangle OCD$ 의 넓이를 $\sqrt{a}$, $\triangle OEF$ 의 넓이를 $\sqrt{b}$라 할 때, $a+b$ 를 구하여라.

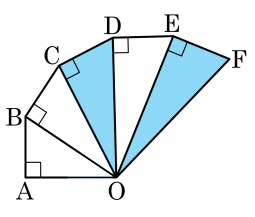

답: _____

39. 다음은 $\angle A = 90°$ 인 직각삼각형 ABC 이다. $\sqrt{\frac{x}{y}}$ 를 구하여라.

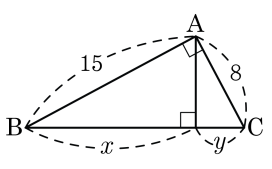

답: _____

40. 다음 그림과 같은 $\triangle ABC$ 에서 $\overline{AB} = 4\sqrt{2}\text{cm}$, $\overline{BC} = 16\text{cm}$, $\overline{CA} = 12\text{cm}$ 일 때, $\triangle ABC$ 의 넓이를 구하여라.

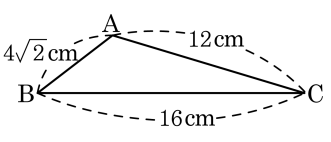

답: _____ cm^2

41. 다음 그림에서 호 AB 의 길이는 16πcm , $\overline{OA} = 10$cm 이다. 이 전개도로 고깔을 만들 때, 고깔의 부피는?

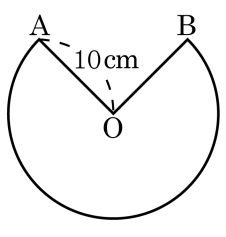

① $24\pi\text{cm}^3$ ② $36\pi\text{cm}^3$ ③ $54\pi\text{cm}^3$

④ $84\pi\text{cm}^3$ ⑤ $128\pi\text{cm}^3$

42. 다음 그림은 밑면의 반지름의 길이가 4 이고, 높이가 4π 인 원통이다. 그림과 같이 A 에서 B 까지 실로 원통을 한 바퀴 반 감아서 연결할 때, 실의 길이의 최소값을 구하면?

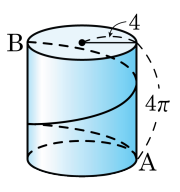

① $8\sqrt{2}\pi$ ② 6π ③ 10π

④ 8π ⑤ $4\sqrt{10}\pi$

43. 다음 그림과 같은 등변사다리꼴 ABCD 에서 △CDE 의 넓이는 $\frac{b\sqrt{3}}{a}$ 이다. 이 때, $b-a$ 의 값을 구하여라.(단, a, b는 유리수)

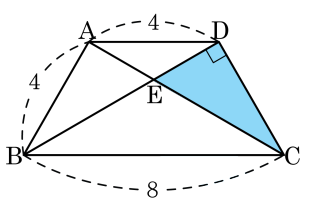

답: _____

44. 다음 그림은 직각삼각형 ABC와 합동인 삼각형을 붙여 정사각형 ABED를 만든 것이다. 다음 중 옳지 <u>않은</u> 것은?

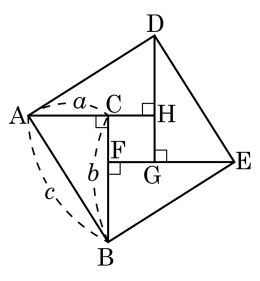

① $\triangle ABC \equiv \triangle EDG$

② $\overline{AC} = \overline{DH} = \overline{GE} = \overline{CF}$

③ $\overline{FG} = b - a$

④ $\square ABED = \square CFGH + \triangle AHD + \triangle ABC + \triangle EFB + \triangle GDE$

⑤ $\square CFGH$는 정사각형

45. 다음 그림과 같은 사각형 ABCD 에서 $\overline{AC} \perp \overline{BD}$ 일 때, $\overline{OC}$ 의 길이를 구하여라.

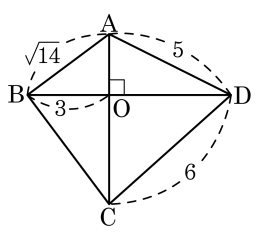

① 5　　② 4

③ $2\sqrt{5}$　　④ $1+\sqrt{14}$

⑤ $3\sqrt{13}$

46. 다음 그림과 같이 대각선의 길이가 $4\sqrt{3}$ 인 정육면체의 부피를 구하여라.

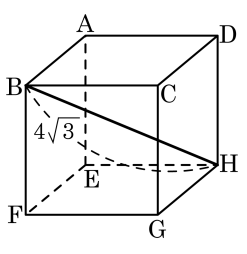

답: _____