1. 1에서 12까지 숫자가 적힌 카드가 12장이 있다. 이 카드를 임의로 한 장을 뽑을 때, 짝수 또는 5의 배수가 나올 경우의 수를 구하여라

답: _____ 가지

2. 1에서 20까지의 숫자가 각각 적힌 20장의 카드에서 한 장의 카드를 뽑을 때, 그 카드의 수가 소수 또는 4의 배수가 나올 경우의 수는?

① 5가지 ② 8가지 ③ 13가지

④ 15가지 ⑤ 17가지

3. 우이령을 경계로 북한산과 도봉산으로 나누어진 '북한산 국립공원'에서 북한산을 오를 수 있는 등산로의 매표소 수는 43개라고 한다. 한 매표소로 올라가서 다른 매표소로 내려오는 경우의 수는?

① 1849 가지 ② 903 가지 ③ 1806 가지

④ 1608 가지 ⑤ 1849 가지

4. 1 에서 6 까지의 수가 적힌 정육면체 두 개를 동시에 던질 때, 일어나는 모든 경우의 수를 구하면?

① 6 ② 12 ③ 24 ④ 36 ⑤ 72

5. 초록, 파랑, 보라의 3 가지 색이 있다. 이것으로 다음 그림의 세 부분에 서로 다른 색을 칠하여 구분하는 방법은 몇 가지인가?

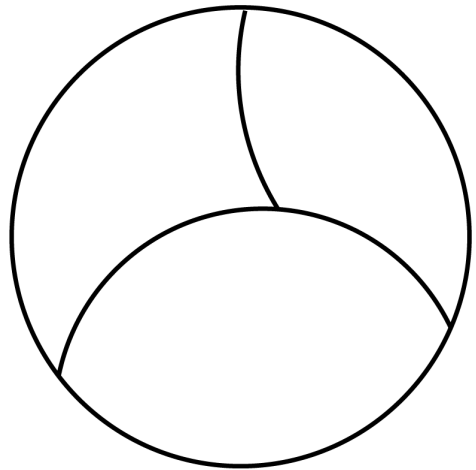

① 3가지 ② 4가지 ③ 6가지

④ 9가지 ⑤ 12가지

6. 4장의 숫자카드 0, 1, 2, 3에서 3장을 뽑아 만들 때, 210보다 큰 정수는 모두 몇 개인가?

① 8개 ② 9개 ③ 11개 ④ 12개 ⑤ 14개

7. 다음 그림과 같이 원 위에 5개의 점이 있다. 이 중에서 세 점을 이어 생기는 삼각형의 개수를 구하여라.

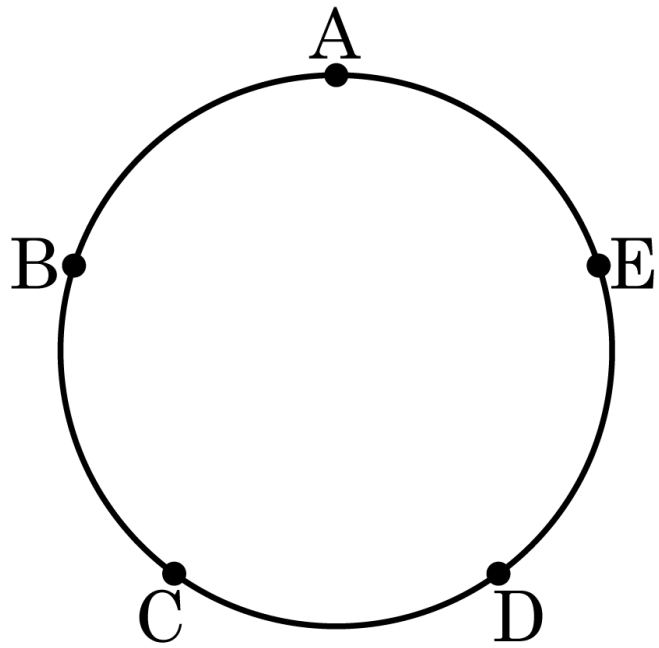

답: _____ 개

8. 주머니 속에 모양과 크기가 같은 흰 바둑돌 3 개와 검은 바둑돌 5 개가 들어 있다. 이 중에서 바둑돌을 한 개 꺼낼 때, 흰 바둑돌이 나올 확률은?

① $\frac{1}{4}$ ② $\frac{3}{5}$ ③ $\frac{3}{8}$ ④ $\frac{5}{8}$ ⑤ $\frac{1}{20}$

9. 다음 보기의 조건에서 $5x - y > 20$ 일 확률을 구하면?

보기

두 개의 주사위 A, B 를 동시에 던져 A 에서 나온 수를 x , B 에서 나온 수를 y 라고 한다.

① $\frac{1}{4}$ ② $\frac{3}{5}$ ③ $\frac{3}{7}$ ④ $\frac{3}{11}$ ⑤ $\frac{5}{18}$

10. 3개의 동전을 동시에 던질 때, 적어도 1개는 앞면이 나올 확률은?

① $\frac{1}{8}$ ② $\frac{5}{8}$ ③ $\frac{7}{8}$ ④ $\frac{1}{3}$ ⑤ $\frac{2}{3}$

11. 윷놀이를 하는데 윷을 한 번 던져 걸 또는 윷이 나올 확률을 구하여라.

답 : _____

12. 동전 1 개와 주사위 1 개를 동시에 던질 때, 동전은 앞면이 나오고 주사위는 5 이상의 눈이 나올 확률은?

① $\frac{1}{3}$ ② $\frac{1}{4}$ ③ $\frac{1}{5}$ ④ $\frac{1}{6}$ ⑤ $\frac{1}{12}$

13. 지혜가 친구와의 약속 시간에 늦을 확률이 $\frac{1}{3}$ 일 때, 3 번의 약속 중 한 번만 늦을 확률은?

① $\frac{1}{9}$ ② $\frac{2}{9}$ ③ $\frac{1}{3}$ ④ $\frac{4}{9}$ ⑤ $\frac{5}{9}$

14. 주머니 속에 파란 공이 3개, 빨간 공이 5개 들어 있다. 처음 꺼낸 공을 확인하고 다시 넣은 후 또 한 개의 공을 꺼낼 때, 두 공 모두 파란 공일 확률은?

① $\frac{3}{28}$ ② $\frac{9}{64}$ ③ $\frac{1}{10}$ ④ $\frac{7}{9}$ ⑤ $\frac{6}{25}$

15. 민정이가 두 문제 A, B를 풀 확률이 각각 $\frac{3}{4}$, $\frac{4}{5}$라 할 때, A, B 두 문제 모두 풀 확률은?

① $\frac{1}{4}$ ② $\frac{2}{5}$ ③ $\frac{7}{9}$ ④ $\frac{2}{9}$ ⑤ $\frac{3}{5}$

16. A, B 두 사람이 사과를 향하여 화살을 쏘려고 한다. A가 사과를 맞힐 확률이 $\frac{1}{4}$, B가 사과를 맞힐 확률이 $\frac{3}{5}$ 일 때, 사과가 화살에 맞을 확률을 구하면?

① $\frac{3}{10}$ ② $\frac{7}{10}$ ③ $\frac{3}{20}$ ④ $\frac{7}{20}$ ⑤ $\frac{11}{20}$

17. 다음 그림과 같이 $\overline{AB} = \overline{AC}$인 이등변삼각형 ABC에서 $\angle A$의 이등분선과 $\overline{BC}$의 교점을 D라 하자. $\overline{DC} = 11\text{cm}$, $\angle BAD = 33°$일 때, $x + y$의 값은?

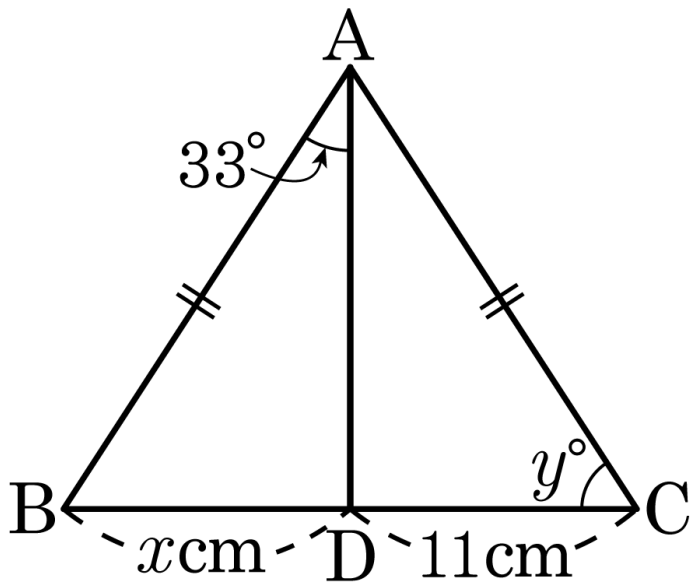

① 48 ② 58 ③ 68 ④ 78 ⑤ 88

18. 다음 그림을 보고, 다음 중 크기가 같은 것끼리 묶은 것이 아닌 것은?

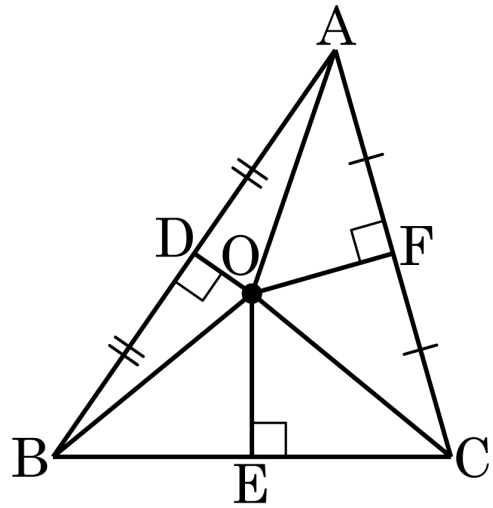

① $\overline{\mathrm{AO}} = \overline{\mathrm{OC}}$

② $\overline{\mathrm{AF}} = \overline{\mathrm{CF}}$

③ $\angle \mathrm{OEB} = \angle \mathrm{OEC}$

④ $\angle \mathrm{OBE} = \angle \mathrm{OCE}$

⑤ $\angle \mathrm{DOB} = \angle \mathrm{FOC}$

19. 다음 그림에서 점 O가 삼각형 ABC의 외심일 때, $\angle x$의 크기를 구하여라.

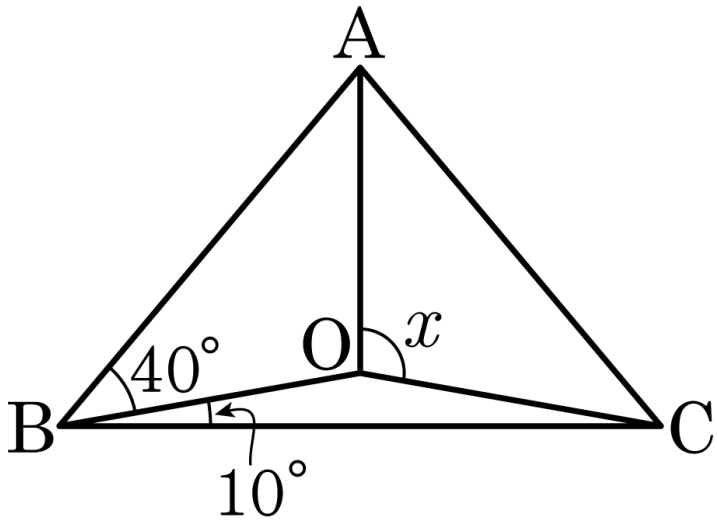

답: _____ °

20. 다음 그림에서 점 I가 $\triangle ABC$의 내심일 때, $\angle x = (\quad\quad)^\circ$이다. $(\quad\quad)$안에 알맞은 수를 구하여라.

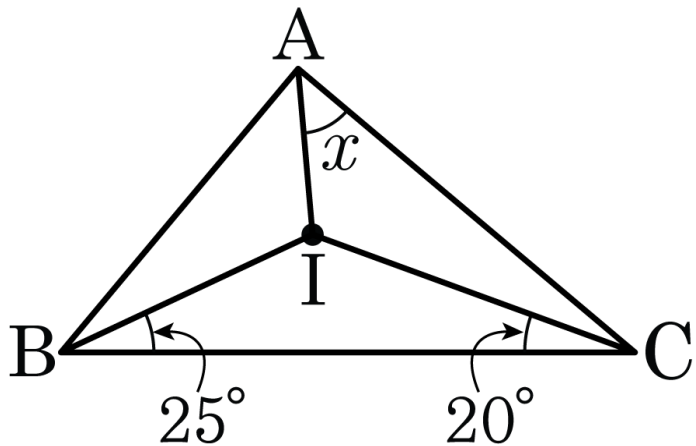

답: _____

21. A, B 두 개의 주사위를 동시에 던질 때, 나오는 눈의 차가 1인 경우의 수를 구하여라.

답: _____ 가지

22. 준상이네 아버지는 흰색, 파란색, 분홍색 와이셔츠 3개와 파란색, 빨강색, 분홍색, 노랑색 넥타이 4개가 있다. 와이셔츠에 넥타이를 매는 방법의 수는 몇 가지인가?(단, 와이셔츠와 같은 색의 넥타이는 매지 않는다.)

① 2가지 ② 4가지 ③ 7가지

④ 10가지 ⑤ 12가지

23. 5명의 가족이 일렬로 서서 사건을 찍으려고 한다. 부모님 두 분이 서로 이웃하여 사진을 찍는 경우의 수를 구하여라.

답: _____ 가지

24. 주사위 한 개를 두 번 던져서 처음 나온 수를 x, 나중에 나온 수를 y라고 할 때, $3x + 2y = 15$가 되는 경우의 수를 구하면?

① 2 ② 3 ③ 4 ④ 5 ⑤ 6

25. A 마트에서 파는 몇 가지 과일 중에서 하루에 한 번씩 서로 다른 것을 두 가지씩 샀더니 10일 동안 다른 과일을 먹을 수 있었다. A 마트에서 파는 과일은 몇 가지인가?

답: _____ 가지

26. 원 위에 7 개의 점이 있다. 이 점 중 4 개의 점을 이어서 만들 수 있는 서로 다른 사각형의 개수를 구하여라.

답: _____ 개

27. 갑, 을, 병, 정의 4 명 중에서 두 명의 의원을 뽑으려고 한다. 이 때, 갑, 을 두 사람이 의원으로 뽑힐 확률을 구하여라.

답 : _____

28. 다음 그림과 같이 폭이 일정한 종이 테이프를 접었다. $\angle ABC = 60°$ 일 때, 다음 설명 중 옳지 않은 것은?

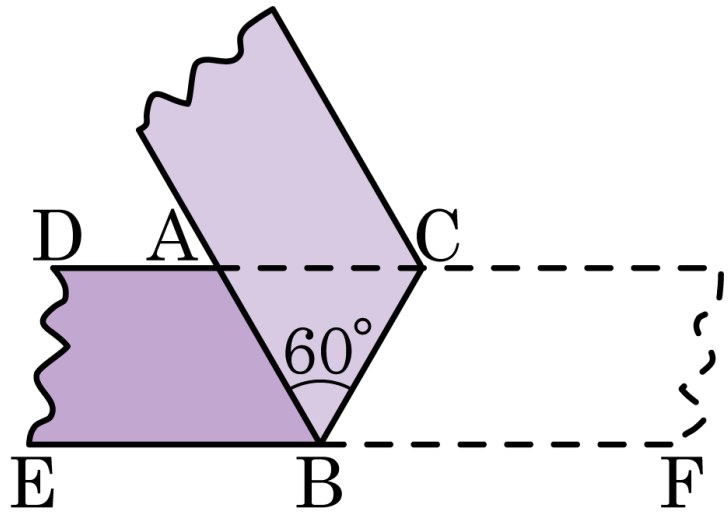

① $\overline{AB} = \overline{AC}$ 인 이등변삼각형이다.

② $\overline{BC} = \overline{AB}$ 인 이등변삼각형이다.

③ $\triangle ABC$ 는 정삼각형이다.

④ $\angle ABE = \angle CBF$ 이다.

⑤ $\angle DAB = 100°$ 이다.

29. 두 직각삼각형 PRQ, STU 가 다음 그림과 같을 때, $x - y$ 의 값은?

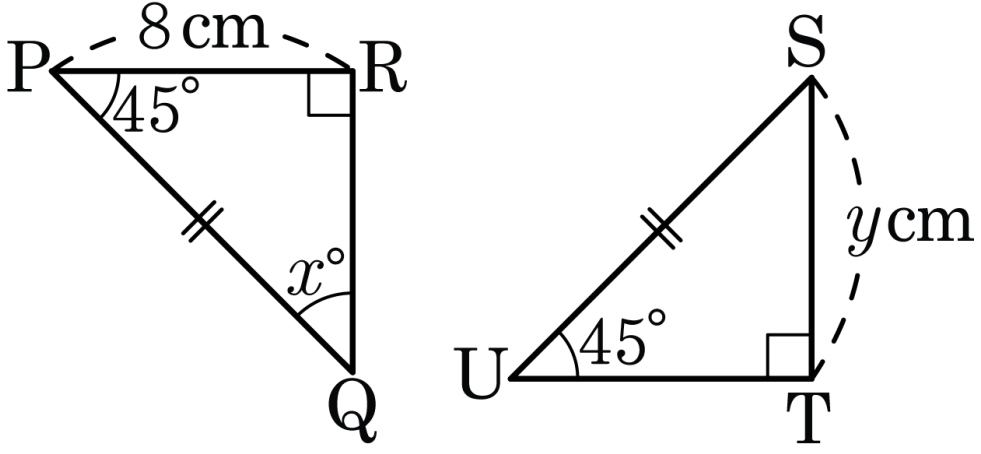

① 35 ② 37 ③ 40 ④ 45 ⑤ 48

30. 다음 그림의 $\triangle ABC$의 내심을 I라 할 때, $\angle BIC = 130°$이면 $\angle A =$ (　　)°이다. 빈칸을 채워 넣어라.

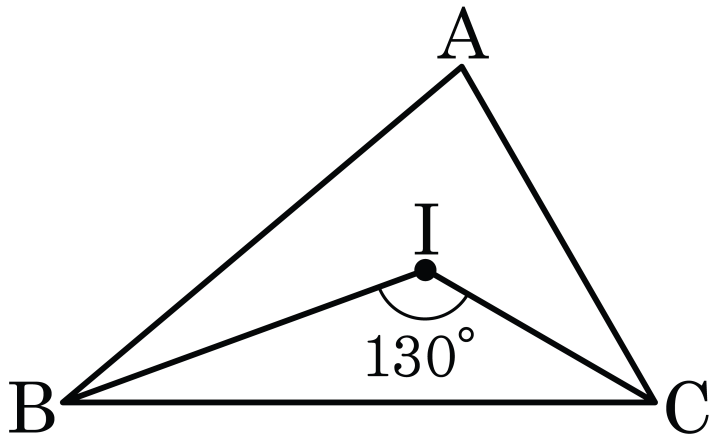

답: _____

31. 다음 그림에서 점 I 는 $\triangle ABC$ 의 내심이다. $\overline{AD}$ 의 길이를 구하여라. (단, 단위는 생략한다.)

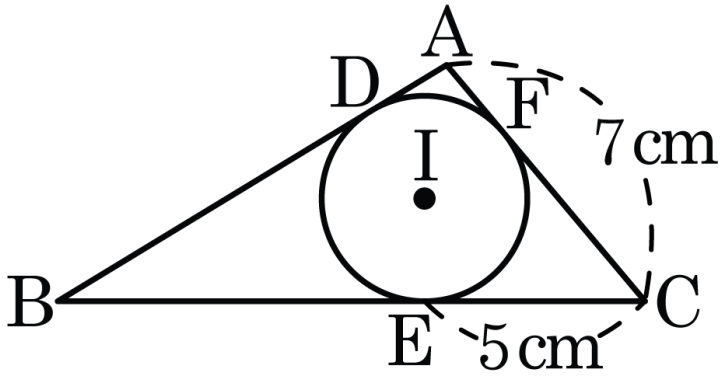

답: _____ cm

32. 다음 그림과 같이 $\triangle ABC$ 에서 $\angle A$ 와 $\angle C$ 의 이등분선의 교점을 점 I 라고 하고 점 I 를 지나고 $\overline{AC}$ 에 평행한 직선과 $\overline{AB}$, $\overline{BC}$ 와의 교점을 각각 D, E 라 할 때, $\triangle BDE$ 의 둘레의 길이를 구하여라.

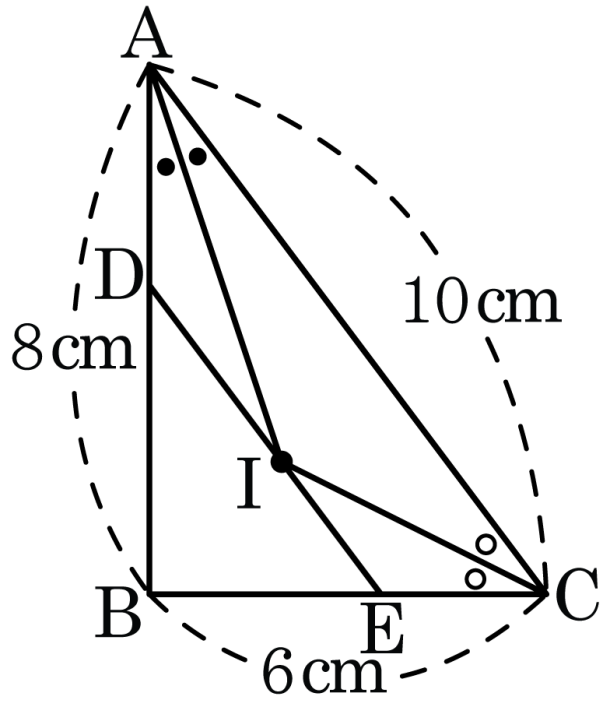

답: _____ cm

33. 다음 중 삼각형의 내심과 외심에 대한 설명으로 옳지 <u>않은</u> 것은?

① 내심에서 세 변에 이르는 거리가 같다.

② 외심은 항상 삼각형의 외부에 있다.

③ 내심은 항상 삼각형의 내부에 있다.

④ 이등변삼각형의 외심과 내심은 꼭지각의 이등분선 위에 있다.

⑤ 외심에서 세 꼭짓점에 이르는 거리가 같다.