1. 15에서 35까지의 숫자가 각각 적힌 21장의 카드 중에서 한 장을 뽑았을 때, 8의 배수가 나오는 경우의 수는?

① 2가지 ② 3가지 ③ 4가지 ④ 6가지 ⑤ 8가지

2. 1 에서 6 까지 적힌 카드가 들어있는 모자 속에서 두 장의 카드를 한장씩 뽑았을 때, 나올 수 있는 두 수의 합이 4 또는 6 인 경우의 수는? (한 번 뽑은 카드는 다시 넣고 또 뽑는다.)

① 7 가지 ② 8 가지 ③ 9 가지
④ 10 가지 ⑤ 11 가지

3. 동화책, 위인전, 소설책, 요리책, 국어사전이 각각 1 권씩 있다. 이 중에서 2 권을 뽑아 책꽂이에 꼽을 때, 요리책을 제외하는 경우의 수는?

① 12 가지 ② 24 가지 ③ 60 가지
④ 120 가지 ⑤ 360 가지

4. 0, 1, 2, 3 의 숫자가 적힌 4장의 카드 중에서 3장을 뽑아서 만들 수 있는 세 자리의 정수는 모두 몇 가지인가?

① 6가지 ② 9가지 ③ 12가지
④ 18가지 ⑤ 24가지

5. x의 값이 $x = a,\ b,\ c$이고, y의 값이 $y = 1, 2, 3, 4$인 함수 f에서 $f(b) = 2$인 경우는 모두 몇 가지인지 구하여라.

답: _____ 가지

6. A, B 두 사람이 가위, 바위, 보를 할 때, 일어날 수 있는 모든 경우의 수는?

① 2 가지 ② 3 가지 ③ 6 가지
④ 9 가지 ⑤ 12 가지

7. 12명의 학생 중 같은 반 학생이 4명 있다. 12명의 학생 중에서 2명을 뽑을 때, 둘 다 다른 반 학생일 확률은?

① $\frac{1}{33}$ ② $\frac{7}{33}$ ③ $\frac{14}{33}$ ④ $\frac{17}{33}$ ⑤ $\frac{19}{33}$

8. A, B, C, D 네 명을 한 줄로 세울 때, A 가 맨 앞에 B 가 맨 뒤에 설 확률은?

① $\frac{1}{2}$ ② $\frac{1}{4}$ ③ $\frac{1}{8}$ ④ $\frac{1}{10}$ ⑤ $\frac{1}{12}$

9. 두 개의 주사위를 동시에 던질 때, 서로 다른 눈이 나올 확률을 구하여라.

답: _____

10. 1부터 20까지 숫자가 적힌 카드가 20장 있다. 아무거나 한 장을 뽑았을 때, 그것이 3의 배수 또는 7의 배수일 확률은?

① $\frac{11}{20}$ ② $\frac{2}{5}$ ③ $\frac{7}{20}$ ④ $\frac{1}{4}$ ⑤ $\frac{3}{20}$

11. 사건 A가 일어날 확률이 $\frac{1}{3}$, 사건 B가 일어날 확률이 $\frac{3}{4}$ 이라고 할 때, 두 사건 중 한 가지 사건만 일어날 확률을 구하여라.

답: _____

12. 소민이가 시험에 합격할 확률은 $\frac{1}{5}$ 이고, 명은이가 시험에 합격할 확률은 $\frac{5}{7}$ 이다. 소민이와 명은이 모두 합격할 확률을 구하면?

① $\frac{1}{2}$ ② $\frac{5}{7}$ ③ $\frac{1}{5}$ ④ $\frac{1}{7}$ ⑤ $\frac{12}{35}$

13. 다음 그림과 같이 삼등분, 사등분된 두 원판이 있다. 이 두 원판의 바늘이 각각 돌아 멈추었을 때, 두 바늘 모두 C에 있을 확률을 구하여라.

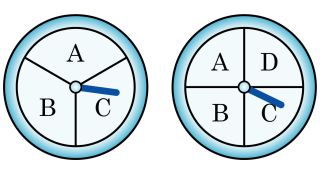

답: _____

14. 다음 그림의 $\triangle ABC$ 에서 $\overline{AB} = \overline{AC}$, $\overline{BD} = \overline{CD}$ 일 때, $\angle x$ 의 크기는?

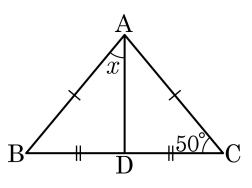

① $35°$ ② $40°$ ③ $45°$ ④ $50°$ ⑤ $55°$

15. 다음 그림에서 $\overline{PC}$ 와 길이가 같은 것을 알맞게 쓴 것은?

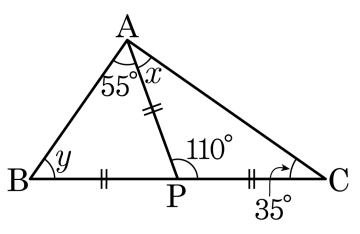

① $\overline{PA}$, $\overline{AB}$　② $\overline{PB}$, $\overline{AC}$　③ $\overline{BC}$, $\overline{PA}$

④ $\overline{PA}$, $\overline{PB}$　⑤ $\overline{AB}$, $\overline{AC}$

16. 다음 그림과 같이 폭이 일정한 종이 테이프를 접었다. $\angle ACB = 50°$ 일 때, $\angle x$의 크기는?

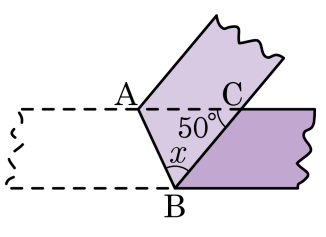

① 45° ② 50° ③ 55° ④ 60° ⑤ 65°

17. 다음 그림에서 점 O 는 $\triangle ABC$ 의 외심이다. 점 O 에서 $\overline{BC}$ 에 내린 수선의 발을 D 라 할 때, $\overline{OB}$ 의 길이는?

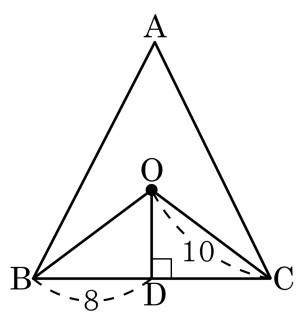

① 6 ② 7 ③ 8 ④ 9 ⑤ 10

18. 다음 그림과 같이 $\angle C = 90°$인 직각삼각형 ABC에서 $\overline{AB} = 10$일 때, $\triangle ABC$의 외접원의 넓이는?

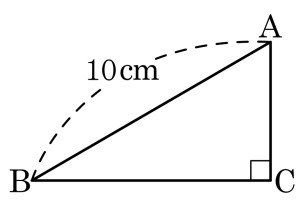

① 18π ② 25π ③ 36π ④ 49π ⑤ 63π

19. 다음 그림에서 점 I는 $\triangle ABC$의 내심이다. $\angle IBA = 30°$, $\angle C = 70°$일 때, $\angle x$의 크기는?

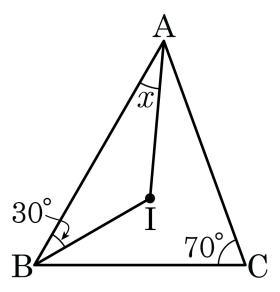

① 20° ② 25° ③ 30° ④ 35° ⑤ 40°

20. 다음 그림과 같이 $\triangle ABC$ 의 내심 I 를 지나고 $\overline{BC}$ 에 평행한 직선 $\overline{AB}, \overline{AC}$ 와의 교점을 각각 D, E 라 하자. $\overline{DE} = 13\text{cm}$ 일 때, $\overline{DB} + \overline{EC}$ 의 값을 구하여라.

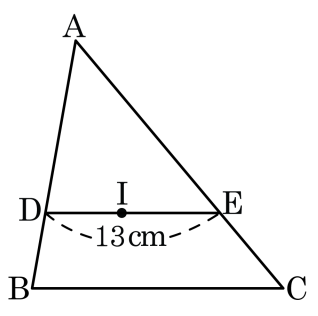

답: _____ cm

21. 다음 그림과 같이 서울에서 부산까지 가는 모든 경우의 수는?

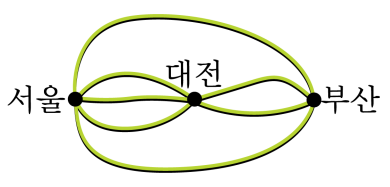

① 4가지 ② 5가지 ③ 6가지
④ 7가지 ⑤ 8가지

22. 자음 ㄱ, ㄴ, ㄷ이 적힌 3장과 ㅏ, ㅓ, ㅗ, ㅜ가 적힌 4장의 카드가 있다. 자음 1개와 모음 1개를 짝지어 만들 수 있는 글자는 몇 개인지 구하여라.

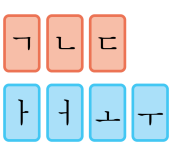

답: _____ 개

23. 두 개의 주사위 A , B 를 동시에 던질 때, 나오는 눈의 곱이 홀수가 되는 경우의 수를 구하면?

① 7 가지 ② 8 가지 ③ 9 가지
④ 10 가지 ⑤ 12 가지

24. 다음 5개의 국기 중 4개를 뽑아 다음 그림과 같은 4개의 게양대에 게양하려고 한다. 이 때, 한국 국기를 A 게양대에 게양하는 경우의 수를 구하여라.

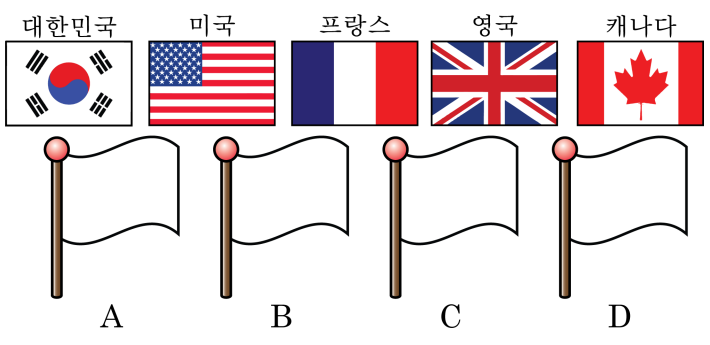

답: _____ 가지

25. 민수는 윗옷 3벌, 치마 1벌, 바지가 2벌 있습니다. 이 옷을 옷걸이에 정리해서 걸려고 할 때, 바지가 이웃하도록 거는 경우의 수를 구하여라.

답: _____ 가지

26. 다음 그림과 같이 한 원 위에 8개의 점이 있다. 두 점을 연결하여 만들 수 있는 선분은 모두 몇 개인지 구하여라.

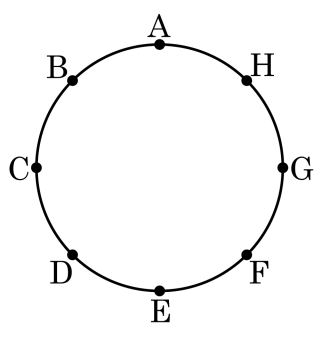

답: _____ 개

27. 초콜릿 상자 10 개 중 2 개는 포장 상태가 불량이다. 초콜릿 상자를 차례로 2 개 골랐을 때, 두 개 모두 포장 상태가 불량일 확률을 구하여라.

답: _____

28. 1부터 15까지의 자연수가 각각 적힌 15장의 카드에서 연속하여 두 장의 카드를 뽑을 때, 두 번 모두 5의 배수가 되는 카드를 뽑을 확률을 구하여라. (단, 처음 카드는 다시 넣지 않으며, 한 번에 카드를 한 장씩 뽑는다.)

답: _____

29. A 주머니에는 노란 공이 2개, 검은 공이 3개 들어 있고, B 주머니에는 노란 공이 3개, 검은 공이 1개 들어 있다. 두 주머니에서 공을 각각 한 개씩 꺼낼 때, 노란 공 1개, 검은 공 1개가 나올 확률을 구하여라.

답: _____

30. 다음은 「$\overline{AB} = \overline{AC}$ 인 이등변삼각형 ABC의 두 밑각 $\angle B$, $\angle C$의 이등분선의 교점을 P라 하면 $\triangle PBC$도 이등변삼각형이다.」를 보이는 과정이다.

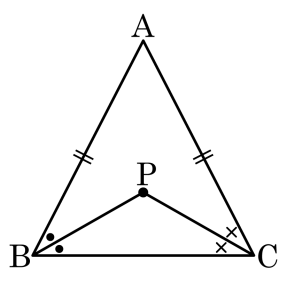

$\overline{AB} = \overline{AC}$ 이므로
$\angle ABC =$ (가)
$\angle PBC =$ (나) $\angle ABC$, $\angle PCB =$ (나) $\angle ACB$
$\therefore$ (다)
즉, $\triangle PBC$ 의 두 내각의 크기가 같으므로 (라) 이다.
따라서 (마) 는 이등변삼각형이다.

(가) ~ (마)에 들어갈 것으로 옳지 <u>않은</u> 것은?

① (가) $\angle ACB$
② (나) 2
③ (다) $\angle PBC = \angle PCB$
④ (라) $\overline{PB} = \overline{PC}$
⑤ (마) $\triangle PBC$

31. 다음 그림과 같이 $\angle C = 90°$ 인 직각삼각형 ABC 에서 $\angle A$ 의 이등분선이$\overline{BC}$ 와 만나는 점을 D 라고 한다. $\overline{AB} = 11\text{cm}$, $\overline{DC} = 4\text{cm}$ 일 때, $\triangle ABD$ 의 넓이를 구하여라.

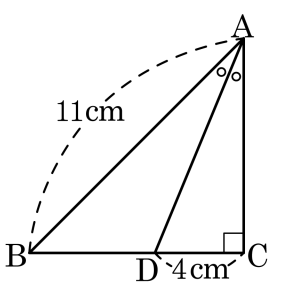

답: _____ cm^2

32. 다음 그림에서 점 I 는 $\triangle ABC$ 의 내심이고, $\angle BIC = 140°$ 일 때, $\angle x$ 의 크기는?

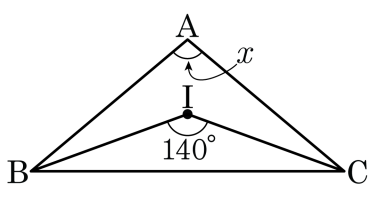

① 70° ② 80° ③ 90° ④ 100° ⑤ 110°

33. 다음 그림에서 점 I 는 $\triangle ABC$ 의 내심이고 내접원의 반지름의 길이는 2cm 이다. $\triangle ABC$ 의 넓이가 $24cm^2$ 일 때, $\triangle ABC$ 둘레의 길이는?

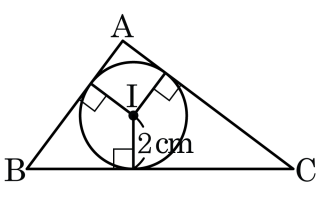

① 12cm ② 16cm ③ 20cm ④ 24cm ⑤ 28cm