1. 주머니 안에 빨간 공 3 개, 파란 공 6 개, 노란 공 5 개가 들어 있다. 공을 하나 꺼낼 때, 빨간 공이 나오는 경우의 수를 구하여라.

답: _____

2. A, B 두 개의 주사위를 동시에 던질 때, A 주사위의 눈이 B 주사위의 눈의 약수가 되는 경우의 수를 구하여라.

답: _____ 가지

3. 0 부터 5 까지의 숫자가 적힌 6 장의 카드 중에서 3 장을 뽑아 만들 수 있는 세 자리 정수는 모두 몇 가지인가?

① 48 가지 ② 60 가지 ③ 100 가지
④ 120 가지 ⑤ 150 가지

4. 수진이네 모둠에는 남학생 4 명, 여학생 4 명이 있다. 이 모둠에서 반장 1 명과 남녀 부반장 1 명씩을 뽑는 경우의 수를 구하여라.

답: _____ 가지

5. 다섯 명의 A, B, C, D, E 중에서 학급 대표 2 명을 뽑는 경우의 수는?

① 5 가지 ② 6 가지 ③ 10 가지
④ 12 가지 ⑤ 20 가지

6. 주머니 속에 푸른 구슬이 3 개, 붉은 구슬이 7 개 들어있다. 이 구슬들을 잘 섞어 1 개를 꺼낼 때, 붉은 구슬이 나올 확률을 구하여라.

답: _____

7. 어떤 시험에서 A, B가 합격할 확률은 각각 $\frac{2}{7}, \frac{3}{5}$ 이다. A, B 중 적어도 한 사람은 합격할 확률을 구하여라.

답: _____

8. 1에서 20까지 적힌 카드가 20장이 있다. 임의로 한 장을 뽑을 때, 5의 배수 또는 6의 배수가 적힌 카드가 나올 확률은?

① $\frac{7}{20}$ ② $\frac{1}{5}$ ③ $\frac{3}{20}$ ④ $\frac{1}{4}$ ⑤ $\frac{9}{20}$

9. 동전 두 개를 동시에 던질 때, 두 개 모두 앞면이 나올 확률은?

① $\frac{1}{2}$ ② $\frac{1}{3}$ ③ $\frac{1}{4}$ ④ $\frac{1}{5}$ ⑤ $\frac{1}{6}$

10. 주머니 속에 노란 구슬 2개, 검은 구슬 5개가 들어 있다. 이 중에서 차례로 구슬을 꺼낼 때, 첫 번째는 노란 구슬이 나오고, 두 번째는 검은 구슬이 나올 확률은? (단, 꺼낸 구슬은 다시 넣는다.)

① $\frac{4}{49}$ ② $\frac{5}{49}$ ③ $\frac{10}{49}$ ④ $\frac{12}{49}$ ⑤ $\frac{14}{49}$

11. 어떤 시험에서 A가 합격할 확률은 $\frac{4}{5}$이고 B가 불합격할 확률은 $\frac{1}{3}$일 때, 그 시험에서 A, B가 모두 합격할 확률은?

① $\frac{1}{5}$ ② $\frac{2}{3}$ ③ $\frac{2}{15}$ ④ $\frac{4}{15}$ ⑤ $\frac{8}{15}$

12. 유이와 담비가 가위, 바위, 보를 할 때, 담비가 이길 확률은?

① $\frac{1}{2}$ ② $\frac{1}{3}$ ③ $\frac{2}{3}$ ④ $\frac{1}{4}$ ⑤ $\frac{1}{6}$

13. 다음과 같은 과녁에 숫자를 써 넣었다. 여기에 화살을 쏠 때 ②를 맞힐 확률을 구하여라.(단, 화살은 과녁을 벗어나지 않는다.)

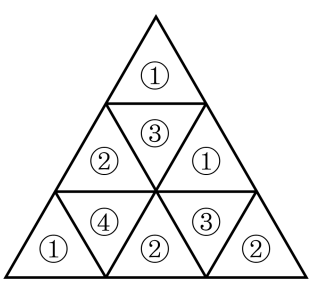

답: _____

14. 다음 그림에서 $\angle x$ 의 크기를 구하여라.

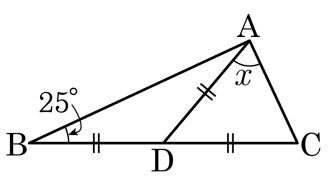

답: _____ °

15. 다음 그림과 같이 $\overline{AB} = \overline{AC}$ 인 이등변삼각형 ABC 에서 $\angle BAD = \angle CAD$ 일 때, 다음 중 옳지 <u>않은</u> 것은?

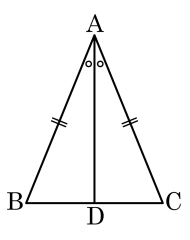

① $\overline{AD} = \overline{BC}$　　② $\angle ADB = \angle ADC$

③ $\angle ADB = 90°$　　④ $\triangle ADB \equiv \triangle ADC$

⑤ $\angle B = \angle C$

16. 다음 그림과 같이 $\overline{AB} = \overline{AC}$ 인 이등변삼각형 ABC 에서 $\angle B$ 의 이등분선과 변 AC 와의 교점을 D 라 할 때, $\triangle BDC$ 는 어떤 삼각형인지 구하여라.

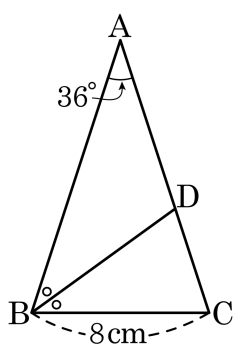

답: _____

17. 다음 그림과 같이 $\angle AOB$ 의 내부의 한 점 P 에서 두변 $\overline{OA}$, $\overline{OB}$ 에 내린 수선의 발을 각각 Q , R 이라 한다. $\angle QOP = \angle ROP$ 일 때, 다음 중 옳은 것을 모두 골라라.

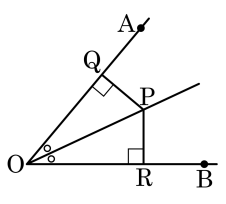

보기

㉠ $\angle OQP = \angle ORP$

㉡ $\angle AOP = \angle BOP$

㉢ $\overline{QP} = \overline{RP}$

㉣ $\overline{OR} = \overline{PR}$

㉤ $\overline{OQ} = \overline{OP}$

답: _____

답: _____

답: _____

18. 두 개의 주사위를 동시에 던질 때, 나온 눈의 차가 2 가 되는 경우의 수를 구하여라.

① 4 가지 ② 6 가지 ③ 8 가지
④ 10 가지 ⑤ 12 가지

19. 두 개의 주사위를 동시에 던질 때, 나온 눈의 합이 5 또는 9 가 되는 경우의 수를 구하여라.

답: _____ 가지

20. 집에서 학교로 가는 버스 노선이 3가지, 지하철 노선이 2가지가 있다. 버스나 지하철을 이용하여 집에서 학교까지 가는 방법은 모두 몇 가지인가?

① 2가지 ② 3가지 ③ 4가지
④ 5가지 ⑤ 6가지

21. 검정색 볼펜이 3자루, 파란색 볼펜이 4자루, 빨간색 볼펜이 2자루 들어있는 필통이 있다. 무심히 한 자루를 꺼낼 때, 검정색이나 파란색 볼펜이 나올 경우의 수는?

① 3 ② 4 ③ 7 ④ 9 ⑤ 12

22. 다음 그림과 같은 길이 있다. A 에서 C 까지 길을 따라가는 방법은 모두 몇 가지인지 구하여라.

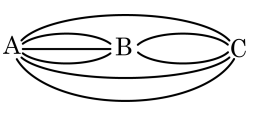

답: _____ 가지

23. 옷장에서 티셔츠 10가지와 바지 7가지를 티셔츠와 바지로 한 번씩 짝지어 입을 때, 입을 수 있는 모든 경우의 수를 구하여라.

답: _____ 가지

24. A, B, C, D, E의 다섯 명의 계주 선수가 400 m를 달리는 순서를 정할 때, B가 세 번째 달리도록 순서를 정하는 방법은 모두 몇 가지인가?

① 6가지 ② 8가지 ③ 12가지
④ 24가지 ⑤ 30가지

25. 4명의 자녀를 둔 부부가 한 줄로 서서 가족 사진을 찍을 때, 부부가 서로 이웃해서 설 경우의 수를 구하여라.

답: _____ 가지

26. 주머니 A에 있는 숫자 카드를 백의 자리수로, 주머니 B에 있는 숫자 카드를 십의 자리 수로, 주머니 C에 있는 숫자 카드를 일의 자리 수로 하여 세 자리 수를 만드는 경우의 수를 구하여라.

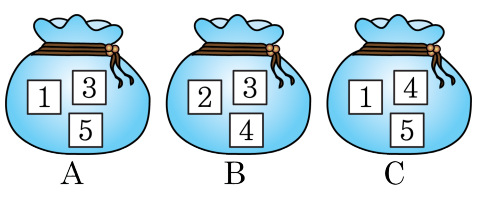

답: _____ 개

27. 다음 보기 중 경우의 수가 가장 많은 것을 고르면?

① 동전 한 개를 던질 때 나오는 면의 수

② 주사위 한 개를 던질 때 나오는 눈의 수

③ 동전 두 개를 던질 때 나오는 모든 면의 수

④ 두 사람이 가위, 바위, 보를 할 때 나오는 모든 경우의 수

⑤ 주사위 한 개와 동전 한 개를 동시에 던질 때 나오는 모든 경우의 수

28. 빨강, 분홍, 노랑, 초록, 보라의 5 가지 색 중에서 2 가지의 색을 뽑는 경우의 수는?

① 6 가지 ② 10 가지 ③ 20 가지
④ 60 가지 ⑤ 120 가지

29. 8월에 하루 중 비가 올 확률이 80%일 때, 하루는 비가 오고 그 다음날은 비가 오지 않을 확률은?

① $\frac{4}{5}$ ② $\frac{4}{25}$ ③ $\frac{1}{25}$ ④ $\frac{1}{5}$ ⑤ $\frac{16}{25}$

30. 50번 공을 던져 30번 골이 들어가는 농구 선수가 있다. 어느 경기에서 이 선수가 2번의 자유투를 던져 모두 노골이 될 확률을 구하면?

① $\frac{2}{5}$ ② $\frac{3}{5}$ ③ $\frac{4}{25}$ ④ $\frac{6}{25}$ ⑤ $\frac{9}{25}$

31. 주머니에 5개의 흰 공과 3개의 파란 공이 들어 있다. 석영, 다인, 민수가 차례로 주머니에서 공을 하나씩 꺼낼 때, 먼저 파란 공을 꺼내는 사람이 이기는 내기를 하였다. 이 내기에서 민수가 첫 시도에서 이길 확률은? (꺼낸 공은 다시 넣지 않는다.)

① $\frac{1}{14}$ ② $\frac{5}{28}$ ③ $\frac{5}{9}$ ④ $\frac{12}{25}$ ⑤ $\frac{5}{6}$

32. 그림과 같이 직각이등변삼각형 ABC 의 직각인 꼭짓점 A 를 지나는 직선 l 에 점 B, C 에서 각각 내린 수선의 발을 E, D 라 하자. $\overline{AB} = \overline{AC}$ 이고, $\overline{BE} = 4$, $\overline{CD} = 1$ 일 때, $\overline{ED}$ 를 구하여라.

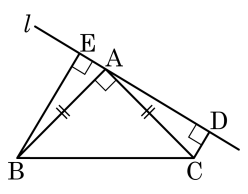

답: _____

33. 다음 그림과 같은 $\triangle ABC$ 에서 $\angle FDC = 32°$ 일 때, $\angle A$ 의 크기는 ?

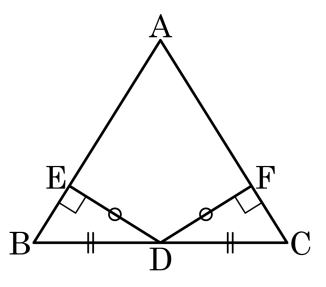

① 52° ② 56° ③ 58° ④ 62° ⑤ 64°