1. 다음 자료들 중에서 표준편차가 가장 큰 것은?

① 3, 3, 3, 3, 3, 3
② 1, 3, 1, 3, 1, 3
③ 4, 8, 4, 8, 4, 8
④ 5, 6, 5, 6, 5, 6
⑤ 3, 6, 3, 6, 3, 6

2. 다음 표는 미영이의 국어, 영어, 수학, 과학 시험의 성적이다. 이 때, 4 과목의 점수의 분산은?

과목명	국어	영어	수학	과학
점수(점)	84	80	79	
편차	3	−1	−2	

① 1.5 ② 2.5 ③ 3.5 ④ 4.5 ⑤ 5.5

3. 다음은 희정이네 학급 43 명의 일주일 동안의 운동시간을 조사하여 나타낸 그래프이다. 학생들의 운동시간의 중앙값과 최빈값은?

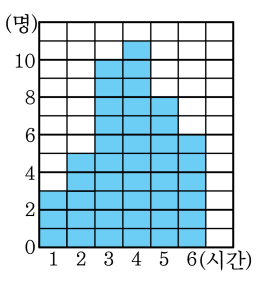

① 중앙값 : 3, 최빈값 : 3

② 중앙값 : 3, 최빈값 : 4

③ 중앙값 : 4, 최빈값 : 3

④ 중앙값 : 4, 최빈값 : 4

⑤ 중앙값 : 5, 최빈값 : 5

4. 다음은 양궁선수 A, B, C 가 3 회에 걸쳐 활을 쏜 기록을 나타낸 그래프이다.

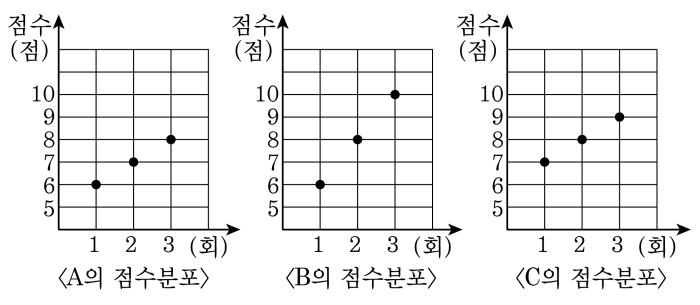

〈A의 점수분포〉 〈B의 점수분포〉 〈C의 점수분포〉

A, B, C 의 활을 쏜 점수의 표준편차를 각각 a, b, c 라고 할 때, a, b, c 의 대소 관계는?

① $a = b = c$ ② $a = c < b$ ③ $a < b = c$

④ $a = b > c$ ⑤ $a < b < c$

5. 다음은 A, B, C, D, E 다섯 반에 대한 중간 고사 수학 성적의 편차를 나타낸 표이다. 이 자료의 표준편차는?

학급	A	B	C	D	E
편차(점)	-3	2	0	-1	2

① $\sqrt{3}$ 점　② $\sqrt{3.3}$ 점　③ $\sqrt{3.6}$ 점　④ $\sqrt{3.9}$ 점　⑤ $\sqrt{4.2}$ 점

6. 다음은 5 명의 학생의 수면 시간의 편차를 나타낸 표이다. 이때, 5 명의 학생의 수면 시간의 분산은?

이름	우진	유림	성호	민지	희정
편차(시간)	1	-2	3	x	0

① 3 ② 3.2 ③ 3.4 ④ 3.6 ⑤ 3.8

7. 다음은 5 명의 학생 A, B, C, D, E 의 한달 간의 인터넷 이용 시간의 평균과 표준편차를 나타낸 표이다. A, B, C, D, E 중 인터넷 이용 시간이 가장 불규칙적인 학생은?

이름	A	B	C	D	E
평균(시간)	5	6	5	3	9
표준편차(시간)	2	0.5	1	3	2

① A ② B ③ C ④ D ⑤ E

8. 다음은 A 반 1 분단 학생들의 기말고사 수학 성적을 조사하여 나타낸 히스토그램이다. 학생들 10 명의 수학 성적의 분산은?

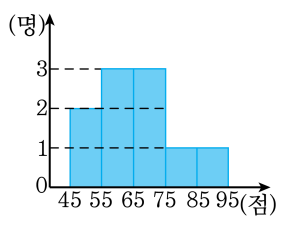

① 108 ② 121 ③ 132 ④ 144 ⑤ 156

9. 다음은 학생 8 명의 기말고사 수학 성적을 조사하여 만든 것이다. 학생들 8 명의 수학 성적의 분산은?

계급	계급값	도수	(계급값)×(도수)
$55^{이상} \sim 65^{미만}$	60	3	180
$65^{이상} \sim 75^{미만}$	70	3	210
$75^{이상} \sim 85^{미만}$	80	1	80
$85^{이상} \sim 95^{미만}$	90	1	90
계	계	8	560

① 60 ② 70 ③ 80 ④ 90 ⑤ 100

10. 다음 중 옳지 <u>않은</u> 것은?

① 평균과 중앙값은 다를 수도 있다.

② 중앙값은 반드시 한 개만 존재한다.

③ 최빈값은 반드시 한 개만 존재한다.

④ 자료의 개수가 홀수이면 $\frac{n+1}{2}$ 째 번 자료값이 중앙값이 된다.

⑤ 자료의 개수가 짝수이면 $\frac{n}{2}$ 번째와 $\frac{n+1}{2}$ 번째 자료값의 평균이 중앙값이 된다.

11. 영웅이의 4 회에 걸친 수학 쪽지 시험의 성적이 평균이 45 점이었다. 5 회의 시험 성적이 떨어져 5 회까지의 평균이 4 회까지의 평균보다 5 점 내렸다면 5 회의 성적은 몇 점인가?

① 14 점 ② 16 점 ③ 18 점 ④ 20 점 ⑤ 22 점

12. 어느 고등학교 동아리 회원 45 명의 몸무게의 평균이 60kg 이다. 5 명의 회원이 탈퇴한 후 나머지 40 명의 몸무게의 평균이 59.5kg 이 되었다. 이때, 동아리를 탈퇴한 5 명의 회원의 몸무게의 평균은?

① 60kg ② 61kg ③ 62kg ④ 63kg ⑤ 64kg

13. 다음의 표준편차를 순서대로 x, y, z 라고 할 때, x, y, z 의 대소 관계를 바르게 나타낸 것은?

X : 1 부터 100 까지의 홀수 Y : 1 부터 100 까지의 2 의 배수 Z : 1 부터 150 까지의 3 의 배수

① $x = y = z$ ② $x = y < z$ ③ $x < y = z$

④ $x = y > z$ ⑤ $x < y < z$

14. 다음의 표준편차를 순서대로 x, y, z 라고 할 때, x, y, z 의 대소 관계를 바르게 나타낸 것은?

X : 1 부터 200 까지의 짝수 Y : 1 부터 200 까지의 홀수 Z : 1 부터 400 까지의 4 의 배수

① $x = y = z$ ② $x < y = z$ ③ $x = y < z$
④ $x = y > z$ ⑤ $x < y < z$

15. 5개의 변량 $4, 6, 10, x, 9$의 평균이 7일 때, 분산은?

① 4.1 ② 4.3 ③ 4.5 ④ 4.7 ⑤ 4.8

16. 다음 그림은 A, B 두 학급의 수학 성적을 나타낸 그래프이다. 다음 보기의 설명 중 <u>틀린</u> 것을 고르면?

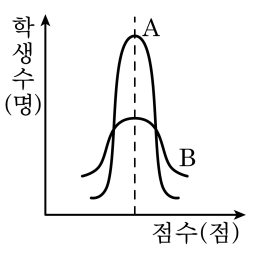

① A 반 학생 성적은 평균적으로 B 반 학생 성적과 비슷하다.

② 중위권 학생은 A 반에 더 많다.

③ A 반 학생의 성적이 더 고르다.

④ 고득점자는 A 반에 더 많다.

⑤ 평균 점수 부근에 있는 학생은 A 반 학생이 더 많다.

17. 다음 표는 어느 중학교 2학년 학생들의 2학기 중간고사 영어 시험의 결과이다. 다음 설명 중 옳은 것은?

학급	1반	2반	3반	4반
평균(점)	70	73	80	76
표준편차(점)	5.2	4.8	6.9	8.2

① 각 반의 학생 수를 알 수 있다.

② 90점 이상인 학생은 4반이 3반 보다 많다.

③ 3반에는 70점 미만인 학생은 없다.

④ 2반 학생의 성적이 가장 고르다.

⑤ 4반이 평균 가까이에 가장 밀집되어 있다.

18. 변량 $x_1, x_2, \cdots, x_n$ 의 평균이 4, 분산이 5 일 때, 변량 $3x_1 - 5, 3x_2 - 5, \cdots 3x_n - 5$ 의 평균을 m, 분산을 n 이라 한다. 이 때, $m + n$ 의 값은?

① 50 ② 51 ③ 52 ④ 53 ⑤ 54

19. 다음은 희종이네 반 학생 30 명의 수학 성적을 나타낸 히스토그램이다. 희종이네 반 학생들의 수학 성적의 분산과 표준편차를 차례대로 구하면?

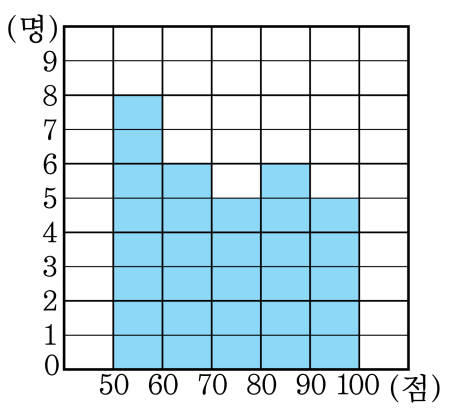

① $\frac{53}{2}, \frac{\sqrt{106}}{2}$ ② $\frac{161}{2}, \frac{\sqrt{322}}{2}$ ③ $\frac{571}{3}, 4\sqrt{11}$
④ $\frac{628}{3}, \frac{2\sqrt{471}}{3}$ ⑤ $\frac{525}{4}, 5\sqrt{21}$

20. 다음 히스토그램은 학생 10명의 영어 성적을 나타낸 것이다. 이 자료의 분산은?

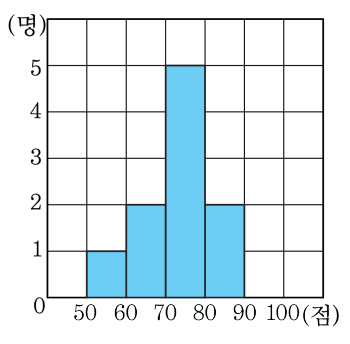

① 72 ② 74 ③ 76 ④ 78 ⑤ 80

21. x, y, z의 평균이 5이고 분산이 2일 때, 세 수 x^2, y^2, z^2의 평균은?

① 20 ② 23 ③ 24 ④ 26 ⑤ 27

22. 지호네 반 학생 40명의 몸무게의 평균은 60 kg이다. 두명의 학생이 전학을 간 후 나머지 38명의 몸무게의 평균이 59.5 kg이 되었을 때, 전학을 간 두 학생의 몸무게의 평균은?

① 62.5 kg ② 65.5 kg ③ 67 kg
④ 69 kg ⑤ 69.5 kg

23. 네 개의 변량 4, 6, a, b 의 평균이 5 이고, 분산이 3 일 때, 7, a^2, b^2, 9 의 평균은?

① 16 ② 17 ③ 19 ④ 21 ⑤ 23

24. 세 수 x, y, z 의 평균과 분산이 각각 5, 3 일 때, $\frac{1}{2}x^2$, $\frac{1}{2}y^2$, $\frac{1}{2}z^2$ 의 평균은?

① 12 ② 14 ③ 16 ④ 18 ⑤ 20

25. 자연수 a, b, c에 대하여 가로의 길이, 세로의 길이, 높이가 각각 $\sqrt{a}$, $\sqrt{b}$, $\sqrt{c}$ 인 직육면체의 부피가 $6\sqrt{5}$일 때, 이 직육면체의 겉넓이의 최댓값을 구하여라. (단, $a \le b \le c$)

① $1+2\sqrt{5}$ ② $2+\sqrt{3}$ ③ $2+12\sqrt{3}$
④ $2+21\sqrt{5}$ ⑤ $2+24\sqrt{5}$