1. 각 변의 길이가 6, 8, x 인 직각삼각형이 있다. x 가 가장 긴 변이라고 할 때, 각 변의 길이의 합을 구하여라.

답: _____

2. 다음 그림과 같이 한 변의 길이가 18 cm 인 정삼각형의 넓이를 구하여라.

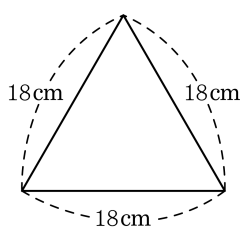

① $9\sqrt{3}\,\mathrm{cm}^2$ ② $27\sqrt{3}\,\mathrm{cm}^2$

③ $81\sqrt{3}\,\mathrm{cm}^2$ ④ $27\sqrt{2}\,\mathrm{cm}^2$

⑤ $81\sqrt{2}\,\mathrm{cm}^2$

3. 다음 그림과 같이 $\angle ACB = \angle CDB = 90^\circ$ 일 때 x 와 y 의 값을 순서대로 바르게 짝지은 것은?

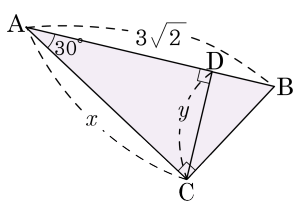

① $\frac{3\sqrt{6}}{2}, \frac{3\sqrt{6}}{4}$ ② $\frac{5\sqrt{6}}{2}, \frac{\sqrt{6}}{4}$
③ $\frac{5\sqrt{6}}{2}, \frac{7\sqrt{6}}{4}$ ④ $\frac{3\sqrt{5}}{2}, \frac{3\sqrt{5}}{4}$
⑤ $\frac{5\sqrt{7}}{2}, \frac{3\sqrt{7}}{4}$

4. 다음 삼각형에서 x 의 값을 구하면?

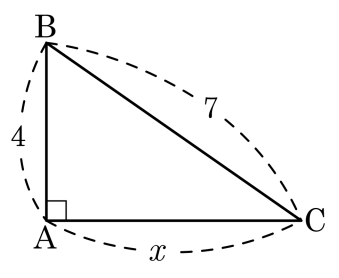

① $\sqrt{31}$ ② $4\sqrt{2}$ ③ $\sqrt{33}$ ④ $\sqrt{34}$ ⑤ 6

5. 다음 그림에서 x 의 값을 구하여라.

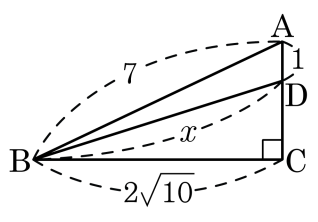

① 6 ② $3\sqrt{10}$ ③ 3 ④ $2\sqrt{10}$ ⑤ $2\sqrt{11}$

6. 다음 그림에서 △OEG 의 넓이는?

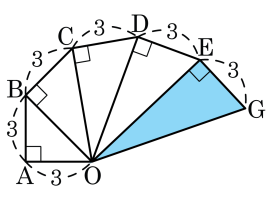

① $9\sqrt{5}$ ② $5\sqrt{5}$ ③ $\frac{9}{2}\sqrt{5}$
④ $\frac{5}{2}\sqrt{5}$ ⑤ $4\sqrt{5}$

7. 다음 그림에서 사다리꼴 ABCD 의 높이 $\overline{CD}$ 의 길이는?

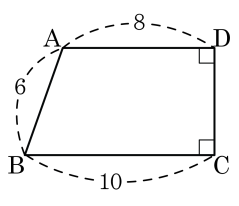

① $3\sqrt{2}$ ② $4\sqrt{2}$ ③ $5\sqrt{2}$ ④ $6\sqrt{2}$ ⑤ $7\sqrt{2}$

8. 다음과 같은 등변사다리꼴의 높이 h 를 구하면?

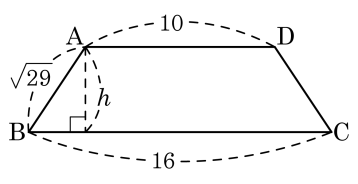

① $\sqrt{5}$ ② $2\sqrt{5}$ ③ $3\sqrt{5}$ ④ $4\sqrt{5}$ ⑤ $5\sqrt{5}$

9. 다음 그림에서 □JKGC 와 넓이가 같은 도형은?

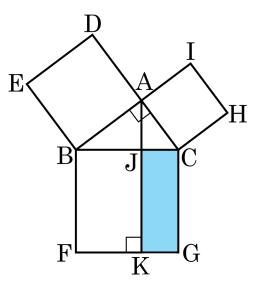

① □DEBA ② □BFKJ

③ □ACHI ④ △ABC

⑤ △ABJ

10. 다음 그림의 □FHCD 는 △ABC 와 합동인 직각삼각형을 이용하여 만든 사각형이다. □BAEG 의 넓이를 구하여라.

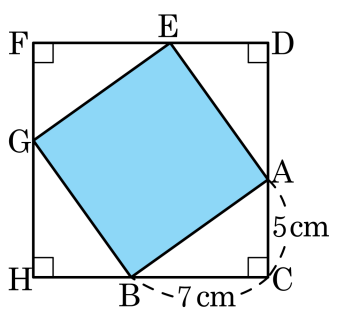

① $71\,\mathrm{cm}^2$ ② $72\,\mathrm{cm}^2$ ③ $73\,\mathrm{cm}^2$

④ $74\,\mathrm{cm}^2$ ⑤ $75\,\mathrm{cm}^2$

11. 다음 그림에서 $\angle C = 90°$ 가 되기 위한 x 의 값을 구하면?

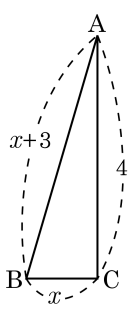

① $\frac{2}{3}$ ② $\frac{5}{6}$ ③ 1 ④ $\frac{7}{6}$ ⑤ $\frac{4}{3}$

12. 다음 그림은 $\angle A = 90°$ 인 직각삼각형 ABC 에서 점 A 에서 $\overline{BC}$ 에 수선을 그은 것이다. $\frac{x}{y}$ 의 값을 구하여라.

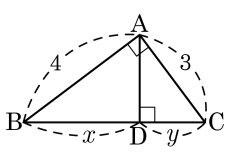

답: _____

13. 다음 그림의 $\triangle ABC$ 에서 $\angle A = 90°$, $\overline{AD} \perp \overline{BC}$ 이고, $\overline{AD} = 6$, $\overline{BD} = 9$ 일 때, $\overline{CD}$ 의 길이를 구하여라.

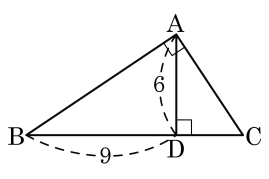

답: _____

14. 다음과 같이 정사각형 ABCD 의 내부에 한 점 P 가 있다. $\overline{PC} = 2\sqrt{2}\text{cm}$, $\overline{PD} = 3\sqrt{2}\text{cm}$ 일 때, $x^2 - y^2$ 의 값은?

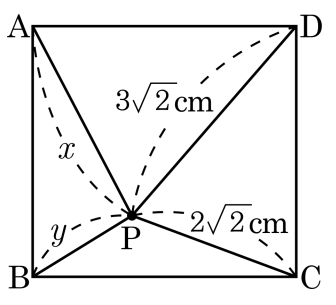

① 2 ② 4 ③ 6 ④ 9 ⑤ 10

15. 다음 직각삼각형의 세 변을 지름으로 하는 반원 중 $S_3 = 20\pi\,\mathrm{cm}^2, S_1 = 15\pi\,\mathrm{cm}^2$ 일 때, S_2 의 반지름을 구하여라.

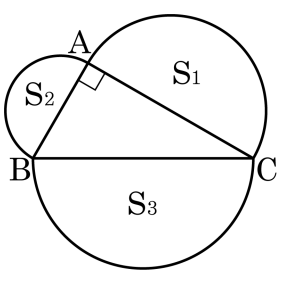

답: _____ cm

16. 다음 그림에서 직사각형의 대각선의 길이는?

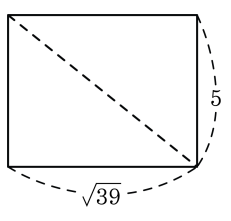

① $2\sqrt{15}$ ② $3\sqrt{7}$ ③ 8 ④ $6\sqrt{2}$ ⑤ 9

17. 대각선의 길이가 $6\sqrt{2}$ 인 정사각형의 넓이는?

① 12 ② 18 ③ 24 ④ 36 ⑤ 42

18. 다음 그림의 직사각형 ABCD 에서 $\overline{AB} = 9$, $\overline{AD} = 12$ 일 때, 꼭짓점 A 에서 대각선 BD 까지의 거리 $\overline{AH}$ 를 구하여라. (소수로 표현할 것)

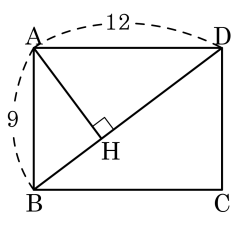

① 7.0 ② 7.1 ③ 7.2 ④ 7.4 ⑤ 7.6

19. 넓이가 $36\sqrt{3}\text{cm}^2$ 인 정삼각형의 한 변의 길이를 구하여라.

답: _____ cm

20. 다음 그림과 같이 $\angle B = 60^\circ$ 이고, 한 변의 길이가 $6\,\mathrm{cm}$ 인 마름모 ABCD 의 넓이는?

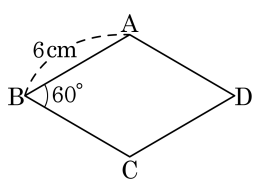

① $9\sqrt{3}\,\mathrm{cm}^2$ ② $18\sqrt{3}\,\mathrm{cm}^2$

③ $27\sqrt{3}\,\mathrm{cm}^2$ ④ $30\sqrt{3}\,\mathrm{cm}^2$

⑤ $40\sqrt{3}\,\mathrm{cm}^2$

21. 다음 그림의 이등변삼각형 ABC 에서 높이 $\overline{AH}$ 는?

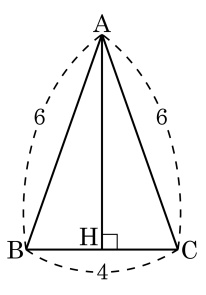

① $\sqrt{2}$ ② $2\sqrt{2}$ ③ $3\sqrt{3}$

④ $4\sqrt{2}$ ⑤ $5\sqrt{2}$

22. 다음 그림의 삼각형 ABC 에서 $\overline{AB}^2 - \overline{BH}^2 = \overline{AC}^2 - \overline{CH}^2$ 임을 이용하여 x 의 값을 구하여라.

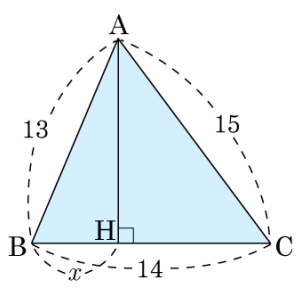

답: _____

23. 다음 그림과 같은 직각삼각형에서 x 의 값을 구하면?

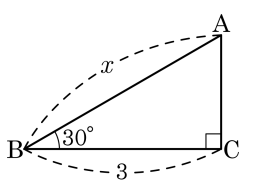

① 5　　② $2\sqrt{2}$　　③ $2\sqrt{3}$

④ $3\sqrt{3}$　　⑤ 9

24. 다음 그림을 보고 설명 중 옳은 것을 모두 고르면?

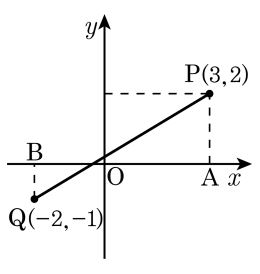

① 점 P와 Q는 원점 대칭이다.

② $\overline{OP}$의 길이는 $\sqrt{5}$ 이다.

③ $\overline{AB}$의 길이는 5 이다.

④ $\overline{OQ}$의 길이는 $\sqrt{5}$ 이다.

⑤ $\overline{PQ}$의 길이는 $\sqrt{10}$ 이다.

25. 다음 그림에서 두 점 P(5, 1), Q(−3, −2) 사이의 거리는?

① $\sqrt{5}$ ② 5 ③ $\sqrt{73}$ ④ $\sqrt{65}$ ⑤ 11

26. 좌표평면 위의 두 점 $\mathrm{A}(1,\ 4), \mathrm{B}(5,\ 2)$ 와 x 축 위의 임의의 점 P 에 대하여 $\overline{\mathrm{AP}}+\overline{\mathrm{BP}}$ 의 최솟값을 구하면?

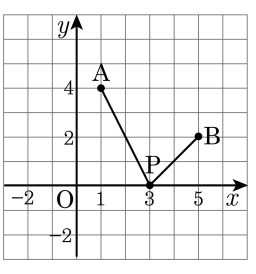

① $\sqrt{13}$　② 2　③ 3

④ $2\sqrt{6}$　⑤ $2\sqrt{13}$

27. 다음 그림에서 $\triangle AED \equiv \triangle BCE$, $\triangle ABE = 40\text{cm}^2$ 이고, $\overline{BC} = 8\text{cm}$ 일 때 $\square ABCD$ 의 넓이를 구하여라.

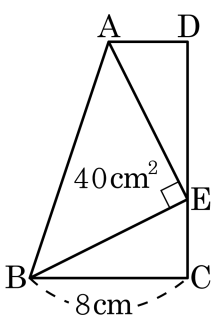

답: _____ cm^2

28. 합동인 직각삼각형 4 개를 이용하여 다음 그림과 같이 □BDEA 를 만들었다. 이 때, □BDEA 와 □FGHC 의 넓이의 비는?

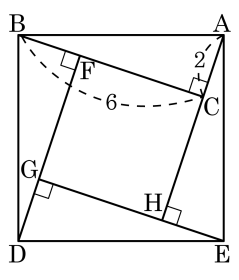

① 2 : 1　② 3 : 2　③ 5 : 2　④ 4 : 3　⑤ 5 : 3

29. 다음 그림과 같은 직각삼각형 ABC 에서 $\overline{DE} = 3\,cm$, $\overline{CD} = 4\,cm$, $\overline{BE} = 6\,cm$ 일 때, $\overline{BC}$ 의 길이를 구하여라.

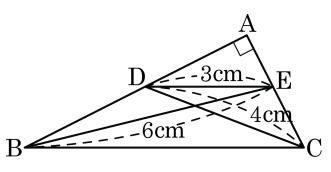

답: _____ cm

30. 다음 그림의 □ABCD 에서 $\overline{AC} \perp \overline{BD}$ 일 때, $\overline{BP}$ 의 길이는?

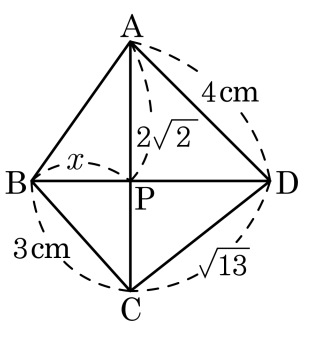

① 1 cm ② 2 cm ③ 3 cm ④ 4 cm ⑤ 5 cm

31. 다음 보기에 주어진 직각삼각형 ABC 의 세 변을 각각 지름으로 하는 반원의 넓이를 P, Q, R 라 하자.

보기

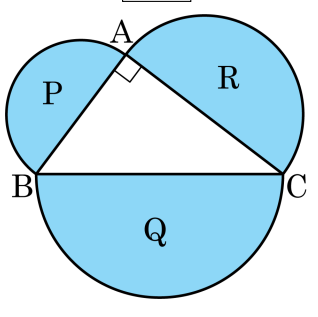

$P = \frac{9}{2}\pi cm^2, Q = \frac{25}{2}\pi cm^2$ 일 때, $\overline{AC}$ 의 길이를 구하면?

① 5cm ② 6cm ③ 7cm ④ 8cm ⑤ 9cm

32. 다음 그림과 같이 직사각형 ABCD 에서 대각선 BD 를 접는 선으로 접어서 점 C 가 옮겨진 점을 E, $\overline{BE}$ 와 $\overline{AD}$ 의 교점을 F 라고 할 때, $\overline{FD}$ 의 길이를 구하여라.

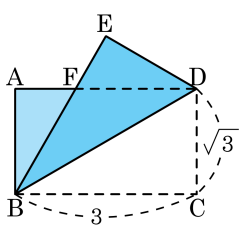

답: _____

33. 다음 그림과 같이 가로, 세로의 길이가 각각 6cm , 8cm 인 직사각형이 있다. $\overline{AH} \perp \overline{BD}$ 라고 할 때, $\overline{AH} + \overline{BH}$ 의 값을 구하여라.

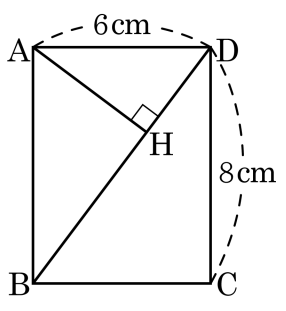

답: _____ cm